KlikPsikotes

No. laporan
KP-CH3A3RPG8B

LAPORAN HASIL TES

Tes Mengikuti Instruksi (model Army Alpha)

Tes kognitif

CONTOH · peserta fiktif

DISUSUN UNTUK

Peserta Contoh

TANGGAL TES	MODE	SOAL TERJAWAB
29 Oktober 2026	Latihan	7 dari 12

Tentang laporan ini

Untuk siapa laporan ini dan cara membacanya.

Terima kasih telah mengerjakan **Tes Mengikuti Instruksi (model Army Alpha)**. Laporan ini merangkum hasil Anda: skor, kategorinya, dan penjelasan setiap aspek. Skor dihitung otomatis dari jawaban Anda dengan kunci dan norma dari sumber tes.

IDENTITAS PESERTA

Nama lengkap **Peserta Contoh**	Email **peserta.contoh@example.com**
Usia saat tes **26 tahun**	Jenis kelamin **Perempuan**
Pendidikan terakhir **Sarjana (D4/S1)**	Tes **Tes Mengikuti Instruksi (model Army Alpha) (AA12)**
Waktu selesai **29 Oktober 2026, 04.23 WIB**	Lama pengerjaan **4 menit 0 detik**
Soal terjawab **7 dari 12 soal**	

CARA MEMBACA LAPORAN

1. **Mulai dari ringkasan**
   Hasil utama dan kategorinya.
2. **Skor baku dan mentah**
   Baku dibandingkan norma; mentah adalah jumlah jawaban yang dinilai.
3. **Kategori**
   Posisi skor pada pita dari sumber tes.
4. **Gambaran saat ini**
   Kondisi saat tes, bukan label permanen.

Isi laporan

01 Ringkasan hasil
02 Rincian skor
03 Interpretasi per aspek
04 Analisis Coach AI
05 Rekap jawaban
06 Pembahasan soal
07 Catatan dan keabsahan

CONTOH
KP-CH3A3RPG8B · klikpsikotes.com

01 Ringkasan hasil

Hasil utama dan apa artinya secara singkat.

SKOR SKALA

4

Baik

7 dari 12 soal dijawab benar.

RINGKASAN

Benar 7 dari 12 soal, skor skala 4 (Baik).

02 Rincian skor

Skor setiap aspek beserta kategorinya.

ASPEK	SKOR	KATEGORI
Mengikuti instruksi	4 mentah 7	Baik

03 Interpretasi per aspek

Penjelasan tiap aspek menurut pita skor.

Mengikuti instruksi

Baik · skor 4

Benar 7–9 soal (skor skala 4). Sebagian besar perintah dikerjakan tepat. Anda umumnya membaca dengan teliti dan mampu mengikuti perintah bersyarat. Kesalahan yang tersisa biasanya kecil, misalnya satu tanda terlewat atau satu tanda berlebih.

Saran Lihat pembahasan untuk soal yang belum tepat dan cari polanya: apakah salah hitung urutan, salah syarat angka, atau salah tempat. Latihan berikutnya, fokuskan pemeriksaan ulang pada jenis perintah itu.

CONTOH

04 Analisis Coach AI

Kekuatan, hal yang bisa dikembangkan, dan rencana latihan.

Skor skala 4 menunjukkan kemampuan mengikuti instruksi yang baik

SKOR HASIL	SKOR STANDAR	KATEGORI
7 dari 12 soal benar	Skor skala 4	Baik

Pada Tes Mengikuti Instruksi model Army Alpha, Anda berada pada kategori **Baik**. Anda umumnya mampu membaca perintah dengan teliti dan mengikuti perintah bersyarat.

Kekuatan Anda

Mengikuti perintah

Anda menjawab benar 7 dari 12 soal. Sebagian besar perintah dapat dikerjakan secara tepat.

Membaca kondisi

Anda menunjukkan kemampuan mengikuti instruksi bersyarat, bukan hanya perintah sederhana.

Ketelitian dasar

Skor skala 4 menunjukkan ketelitian yang cukup baik dalam memahami instruksi.

Bisa dikembangkan

Memeriksa tanda

Kesalahan yang tersisa kemungkinan berkaitan dengan tanda yang terlewat atau tanda yang berlebih.

Coba: Baca ulang setiap tanda dan syarat sebelum mengirim jawaban.

Menjaga urutan

Instruksi bertahap perlu dikerjakan sesuai urutan agar bagian kecil tidak terlewat.

Coba: Tandai kata seperti jika, kecuali, sebelum, dan setelah saat membaca soal.

CONTOH

Rencana latihan 7 hari

Hari 1 Ulangi Tes Mengikuti Instruksi dan catat setiap tanda atau syarat yang sempat terlewat. **Buka tes ›**

Hari 2-3 Kerjakan Tes Kemampuan Umum untuk melatih ketelitian membaca soal kata, angka, logika, dan gambar. **Buka tes ›**

Hari 4-5 Latih kembali Tes Mengikuti Instruksi dengan membaca kata bersyarat, lalu periksa jawaban sebelum mengirim. **Buka tes ›**

Hari 6-7 Kerjakan Tes SKD CPNS untuk melatih pemahaman instruksi dalam sesi kognitif yang lebih panjang dan beragam. **Buka tes ›**

Hasil ini adalah latihan, bukan penilaian psikologis resmi atau penentu kelulusan seleksi kerja. Analisis ini dibuat dengan bantuan AI dari skor di atas, bukan oleh psikolog.

05 Rekap jawaban

Benar dan salah untuk setiap soal.

Benar | Salah atau kosong

1	2	3	4	5	6	7	8	9	10
11	12								

CONTOH

06 Pembahasan soal

Jawaban benar dan pembahasan yang disetujui.

ARMY ALPHA · SOAL 1

Berilah tanda pada lingkaran sebagai berikut : Tanda silang (x) apabila pernyataan salah Tanda checklist (V) apabila pernyataan benar Tanda samadengan (=) apabila pernyataan keduanya benar **Pernyataannya:** Lingkaran 1: Mobil lebih cepat dari sepeda Lingkaran 2: Pesawat terbang lebih cepat dari mobil Lingkaran 3: Siput lebih cepat dari sepeda Lingkaran 4: Siput lebih cepat dari mobil Lingkaran 5: Pesawat terbang cepat, mobil juga cepat

Jawaban Anda



Kunci jawaban



Jawaban Anda: **Centang (V): lingkaran 1, lingkaran 2; Silang (X): lingkaran 3, lingkaran 4; Sama dengan (=): lingkaran 5** · **Benar**

Pembahasan.
Lingkaran 1 diberi **centang (V)** karena mobil memang lebih cepat daripada sepeda; lingkaran 2 diberi **centang (V)** karena pesawat terbang memang lebih cepat daripada mobil; lingkaran 3 diberi **silang (X)** karena siput tidak lebih cepat daripada sepeda; lingkaran 4 diberi **silang (X)** karena siput tidak lebih cepat daripada mobil; lingkaran 5 diberi **tanda sama dengan (=)** karena kedua pernyataannya sama-sama benar: pesawat terbang cepat dan mobil juga cepat.

CONTOH

ARMY ALPHA · SOAL 2

Berilah tanda arsir pada bilangan yang habis dibagi lima (5) dan berilah tanda sama dengan pada angka yang habis dibagi tiga (3)

Jawaban Anda



Kunci jawaban



Jawaban Anda: **Sama dengan (=): lingkaran berisi 33, lingkaran berisi 36, lingkaran berisi 39; Arsir: lingkaran berisi 35** · **Benar**

Pembahasan.
Bilangan yang habis dibagi 5 adalah 35, sehingga bilangan itu diberi **tanda arsir**. Bilangan yang habis dibagi 3 adalah 33, 36 dan 39, sehingga ketiganya diberi **tanda sama dengan (=)**.

ARMY ALPHA · SOAL 3

Tulislah ya atau tidak dari pernyataan di bawah ini : Lingkaran 1: Ikan – Pindang Lingkaran 2: Sapi – Getuk Lingkaran 3: Kambing – Sate

Jawaban Anda



Kunci jawaban



Jawaban Anda: **Ya: lingkaran 1, lingkaran 3; Tidak: lingkaran 2** · **Benar**

Pembahasan.
Pernyataan pada setiap lingkaran dinilai dari hubungan antara hewan dan makanan olahannya. **Lingkaran 1: Ya**, karena ikan dapat diolah menjadi pindang; **Lingkaran 2: Tidak**, karena getuk tidak dibuat dari sapi; **Lingkaran 3: Ya**, karena kambing dapat diolah menjadi sate.

CONTOH

ARMY ALPHA · SOAL 4

Perintahnya : Tuliskan huruf A pada lingkaran ke 4 Tuliskan huruf H pada lingkaran ke 1 Tuliskan huruf N pada lingkaran ke 5 Tuliskan huruf J pada lingkaran ke 3 Tuliskan huruf U pada lingkaran ke 2

Jawaban Anda



Kunci jawaban



Jawaban Anda: **lingkaran 1: H; lingkaran 2: U; lingkaran 3: J; lingkaran 4: A; lingkaran 5: N** · **Benar**

Pembahasan.
Ikuti nomor lingkaran dari kiri ke kanan, lalu tuliskan huruf sesuai perintah: lingkaran ke-1 **H**, ke-2 **U**, ke-3 **J**, ke-4 **A**, dan ke-5 **N**. Jadi, susunan tandanya dari kiri ke kanan adalah **H-U-J-A-N**.

ARMY ALPHA · SOAL 5

Beri tanda n pada bidang segitiga yang tidak bersinggungan dengan bidang lain dan tanda m pada bidang yang saling bersinggungan

Jawaban Anda

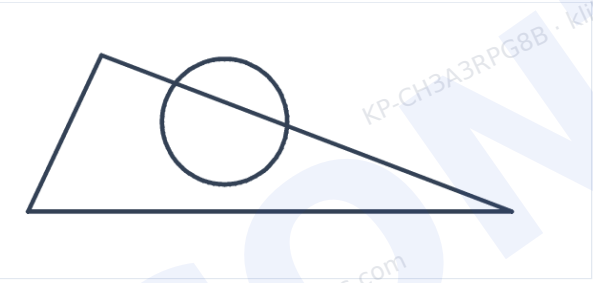

Kunci jawaban

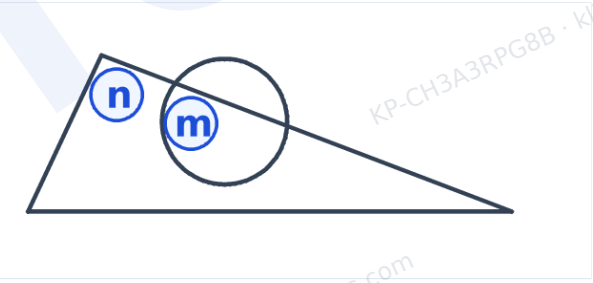

Jawaban Anda: **tidak dijawab** · **Tidak dijawab** · Jawaban benar: **tanda m: di dalam lingkaran dan segitiga; tanda n: di dalam segitiga, di luar lingkaran**

Pembahasan.
Bidang yang saling bersinggungan adalah bagian yang berada di dalam **lingkaran sekaligus segitiga**, sehingga diberi tanda **m**. Bidang segitiga yang tidak bersinggungan dengan bidang lain adalah bagian **di dalam segitiga tetapi di luar lingkaran**, sehingga diberi tanda **n**.

ARMY ALPHA · SOAL 6

Perintahnya : Beri tanda A apabila ada 3 bidang saling bersinggungan Berikan tanda B apabila 2 bidang saling bersinggungan Berikan tanda C apabila ada bidang yang tidak bersinggungan dengan bidang lain

Jawaban Anda

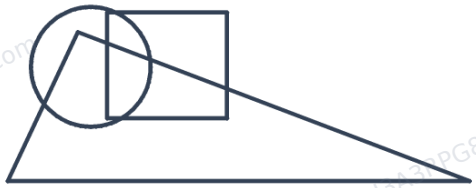

Kunci jawaban

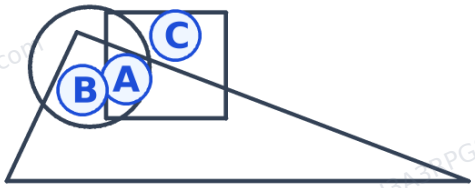

Jawaban Anda: **tidak dijawab** · **Tidak dijawab** · Jawaban benar: **tanda A: di bagian yang tertutup 3 bangun sekaligus; tanda B: di bagian yang tertutup 2 bangun sekaligus; tanda C: di bagian yang tertutup hanya 1 bangun**

Pembahasan.
Perhatikan setiap bagian pada gambar berdasarkan jumlah bangun yang menutupinya. Berikan tanda **C** pada bagian yang hanya tertutup oleh satu bangun, tanda **B** pada bagian tempat dua bangun saling bersinggungan, dan tanda **A** pada bagian tempat segitiga, lingkaran, serta segi empat bertumpuk sekaligus.

CONTOH

ARMY ALPHA · SOAL 7

Berilah tanda silang pada huruf ke 10, 7 dan 3 kemudian beri tanda lingkaran pada huruf ke 5, 8, 13

Jawaban Anda



Kunci jawaban



Jawaban Anda: **Silang (X): huruf D (ke-3), huruf H (ke-7), huruf K (ke-10); Lingkari (O): huruf F (ke-5), huruf I (ke-8), huruf N (ke-13)** · **Benar**

Pembahasan.
Hitung huruf dari kiri ke kanan: huruf ke-10 adalah K, ke-7 adalah H, ke-3 adalah D, sehingga ketiganya diberi tanda **silang (X)**. Huruf ke-5 adalah F, ke-8 adalah I, ke-13 adalah N, sehingga ketiganya diberi tanda **lingkaran (O)**.

ARMY ALPHA · SOAL 8

Perintah : Tulis huruf ke-2 dari LEMARI pada lingkaran ke-3 Tulis huruf ke-5 dari KAPAL pada lingkaran ke-2 Tulis huruf ke-4 dari KERETA pada lingkaran ke-1

Jawaban Anda



Kunci jawaban



Jawaban Anda: **tidak dijawab** · **Tidak dijawab** · Jawaban benar: **lingkaran 1: E; lingkaran 2: L; lingkaran 3: E**

Pembahasan.
Tentukan huruf sesuai posisi yang diminta: huruf ke-4 dari **KERETA** adalah **E**, sehingga ditulis pada lingkaran ke-1; huruf ke-5 dari **KAPAL** adalah **L**, sehingga ditulis pada lingkaran ke-2; huruf ke-2 dari **LEMARI** adalah **E**, sehingga ditulis pada lingkaran ke-3.

CONTOH

ARMY ALPHA · SOAL 9

Tandailah dengan garis bawah pada angka yang lebih besar dari 10 dan lebih kecil dari 40, kemudian beri tanda garis atas pada angka yang kurang dari 85 dan lebih besar dari 60

Jawaban Anda

13 55 22 66 26 86 57 25 68 98 69 54 90 75 41 70

Kunci jawaban

13 55 22 66 26 86 57 25 68 98 69 54 90 75 41 70

Jawaban Anda: **Garis bawah: angka 13, angka 22, angka 26, angka 25; Garis atas: angka 66, angka 68, angka 69, angka 75, angka 70** · **Benar**

Pembahasan.
Angka yang diberi **garis bawah** harus lebih besar dari 10 dan lebih kecil dari 40, yaitu 13, 22, 26 dan 25. Angka yang diberi **garis atas** harus lebih besar dari 60 dan kurang dari 85, yaitu 66, 68, 69, 75 dan 70. Angka lainnya tidak memenuhi salah satu dari kedua rentang tersebut.

ARMY ALPHA · SOAL 10

Perintahnya : Beri angka lima 5 pada bidang yang paling besar Beri angka 1 pada bidang yang paling kecil Beri angka 2 pada bidang yang lebih besar sedikit dari bidang angka 1 Beri angka 4 pada bidang sebelah kanan angka 5 Beri angka 3 pada bidang sebelah kiri angka 2

Jawaban Anda



Kunci jawaban



Jawaban Anda: **tidak dijawab** · **Tidak dijawab** · Jawaban benar: **bidang ke-1 dari kiri: 5; bidang ke-2 dari kiri: 4; bidang ke-3 dari kiri: 3; bidang ke-4 dari kiri: 2; bidang ke-5 dari kiri: 1**

Pembahasan.
Bandingkan lebar bidang dari kiri ke kanan: 209, 69, 137, 50 dan 30. Bidang paling besar adalah bidang ke-1, sehingga diberi angka 5; bidang paling kecil adalah bidang ke-5, sehingga diberi angka 1. Bidang yang sedikit lebih besar daripada bidang angka 1 adalah bidang ke-4, sehingga diberi angka 2. Bidang di sebelah kanan angka 5 adalah bidang ke-2, sehingga diberi angka 4, sedangkan bidang di sebelah kiri angka 2 adalah bidang ke-3, sehingga diberi angka 3.

ARMY ALPHA · SOAL 11

Perintah : Beri tanda (O) pada bidang segitiga yang berangka genap Berikan tanda negative (-) pada bidang segi empat yang berisi angka dan huruf Berikan tanda sama dengan (=) pada lingkaran yang didalamnya hanya ada angka

Jawaban Anda



Kunci jawaban



Jawaban Anda: **Sama dengan (=): lingkaran berisi 3; Negatif (−): segi empat berisi 5H; Lingkari (O): segitiga berisi 4** · **Benar**

Pembahasan.
Periksa setiap bidang sesuai bentuk dan isinya. Tanda sama dengan (=) diberikan pada lingkaran yang hanya berisi angka, yaitu lingkaran berisi 3. Tanda O diberikan pada segitiga yang berisi angka genap, yaitu segitiga berisi 4. Tanda negatif (−) diberikan pada segi empat yang berisi gabungan angka dan huruf, yaitu segi empat berisi 5H.

ARMY ALPHA · SOAL 12

Berikan tanda silang pada bilangan yang habis dibagi 2 dan lebih besar dari 15, kemudian lingkarilah bilangan yang habis di bagi 3 dan lebih kecil dari 15

Jawaban Anda



Kunci jawaban



Jawaban Anda: **tidak dijawab** · **Tidak dijawab** · Jawaban benar: **Lingkari (O): angka 12; Silang (X): angka 16, angka 18**

Pembahasan.
Bilangan yang habis dibagi 2 dan lebih besar dari 15 adalah **16 dan 18**, sehingga diberi tanda silang (X). Bilangan yang habis dibagi 3 dan lebih kecil dari 15 adalah **12**, sehingga diberi lingkaran (O).

CONTOH

07 Catatan dan keabsahan

Dasar perhitungan dan batas penggunaan laporan.

Laporan ini disusun otomatis dari jawaban peserta pada Latihan Tes Mengikuti Instruksi (model Army Alpha). Skor dihitung otomatis dengan norma aa12-skala-pemilik, dan dapat dipakai sebagai bahan belajar dan refleksi diri. Laporan ini bukan hasil asesmen psikologis resmi dan tidak menggantikan pemeriksaan oleh psikolog berizin.

No. laporan KP-CH3A3RPG8B
Dihasilkan oleh KlikPsikotes pada 29 Oktober 2026, 04.20 WIB.
Sebutkan nomor ini bila perlu menanyakan laporan.

Latihan lagi?
Tes lain dan laporan lengkap ada di **klikpsikotes.com**

CONTOH
KP-CH3A3RPG8B · klikpsikotes.com