KlikPsikotes

No. laporan
KP-HS1T0XT39Y

LAPORAN HASIL TES

Tes Matriks Progresif Lanjutan (model APM)

Tes kognitif

CONTOH · peserta fiktif

DISUSUN UNTUK

Peserta Contoh

TANGGAL TES	MODE	SOAL TERJAWAB
28 Oktober 2026	**Latihan**	**48 dari 48**

Tentang laporan ini

Untuk siapa laporan ini dan cara membacanya.

Terima kasih telah mengerjakan **Tes Matriks Progresif Lanjutan (model APM)**. Laporan ini merangkum hasil Anda: skor, kategorinya, dan penjelasan setiap aspek. Skor dihitung otomatis dari jawaban Anda dengan kunci dan norma dari sumber tes.

IDENTITAS PESERTA

Nama lengkap **Peserta Contoh**	Email **peserta.contoh@example.com**
Usia saat tes **26 tahun**	Jenis kelamin **Perempuan**
Pendidikan terakhir **Sarjana (D4/S1)**	Tes **Tes Matriks Progresif Lanjutan (model APM)**
Waktu selesai **28 Oktober 2026, 03.56 WIB**	Lama pengerjaan **16 menit 0 detik**
Soal terjawab **48 dari 48 soal**	

CARA MEMBACA LAPORAN

1. **Mulai dari ringkasan**
   Hasil utama dan kategorinya.
2. **Skor baku dan mentah**
   Baku dibandingkan norma; mentah adalah jumlah jawaban yang dinilai.
3. **Kategori**
   Posisi skor pada pita dari sumber tes.
4. **Gambaran saat ini**
   Kondisi saat tes, bukan label permanen.

CONTOH

Isi laporan

01 Ringkasan hasil
02 Rincian skor
03 Analisis Coach AI
04 Rekap jawaban
05 Pembahasan soal
06 Catatan dan keabsahan

CONTOH

01 Ringkasan hasil

Hasil utama dan apa artinya secara singkat.

SET II BENAR

27 / 36

Persentil 75–90, usia 23–27 tahun

Set I latihan: 8 dari 12, memenuhi syarat

35 dari 48 soal dijawab benar.

RINGKASAN

Set I benar 8 dari 12, Set II benar 27 dari 36, Persentil 75–90 untuk usia 23–27 tahun.

02 Rincian skor

Skor setiap aspek beserta kategorinya.

ASPEK	SKOR	KATEGORI
Set I (latihan)	8	Memenuhi syarat
Set II	27	Persentil 75–90

03 Analisis Coach AI

Kekuatan, hal yang bisa dikembangkan, dan rencana latihan.

APM Set II: 27/36, Persentil 75–90 pada norma usia 23–27 tahun

SET I	SET II	PERSENTIL
8/12; syarat terpenuhi	27/36 benar	75–90; norma usia 23–27 tahun

Pada latihan APM, Set I memenuhi syarat sehingga Set II dibandingkan dengan norma usia 23–27 tahun. Skor Set II Anda berada pada Persentil 75–90; hasil ini merujuk pada data pembanding Inggris tahun 1992.

Kekuatan Anda

Syarat Set I terpenuhi

Anda menjawab benar 8 dari 12 soal Set I, melampaui syarat minimal 6.

Penalaran pola gambar

Pada Set II, Anda menjawab benar 27 dari 36 soal. Hasil latihan tercatat pada Persentil 75–90 untuk kelompok norma usia 23–27 tahun.

Bisa dikembangkan

Membaca pola baris dan kolom

Latihan ini belum menunjukkan bagian pola mana yang paling menantang, jadi latih pemeriksaan perubahan baris dan kolom secara teratur.

Coba: Pada setiap soal, catat perubahan bentuk, jumlah, atau arah di tiap baris dan kolom sebelum memilih jawaban.

Memeriksa pola diagonal

Pola diagonal juga dapat membantu menguji hubungan antarbagian matriks.

Coba: Untuk soal latihan, periksa kedua diagonal dan pastikan aturan yang Anda temukan cocok dengan seluruh gambar.

Rencana latihan 7 hari

Hari 1	Tinjau kembali soal APM yang keliru dan tulis aturan pola baris, kolom, atau diagonal yang terlewat. **Buka tes ›**
Hari 2–3	Kerjakan Tes Analogi Gambar untuk berlatih mengenali perubahan dari A ke B dan menerapkannya pada C. **Buka tes ›**
Hari 4–5	Latih Tes Penalaran Gambar pada bagian deret dan melengkapi pola untuk memperkuat pemeriksaan hubungan visual. **Buka tes ›**
Hari 6–7	Kerjakan satu sesi APM dengan tenang, lalu periksa apakah aturan pola berlaku konsisten pada baris, kolom, dan diagonal. **Buka tes ›**

Ini hasil latihan, bukan penilaian psikologis resmi; persentil Set II menggunakan pembanding Inggris tahun 1992 dan kelompok usia 23–27 tahun. Analisis ini dibuat dengan bantuan AI dari skor di atas, bukan oleh psikolog.

04 Rekap jawaban

Benar dan salah untuk setiap soal.

Benar | Salah atau kosong

I.1	I.2	I.3	I.4	I.5	I.6	I.7	I.8	I.9	I.10
I.11	I.12	II.1	II.2	II.3	II.4	II.5	II.6	II.7	II.8
II.9	II.10	II.11	II.12	II.13	II.14	II.15	II.16	II.17	II.18
II.19	II.20	II.21	II.22	II.23	II.24	II.25	II.26	II.27	II.28
II.29	II.30	II.31	II.32	II.33	II.34	II.35	II.36		

CONTOH

05 Pembahasan soal

Jawaban benar dan pembahasan yang disetujui.

SET I (LATIHAN) · SOAL 1

Soal 1.

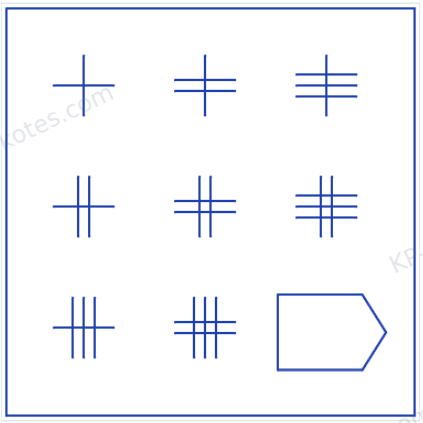

1	2	3	4	5	6	7	8
			 Pilihan Anda · benar				

Jawaban Anda: **4** · **Benar**

Pembahasan.

Banyaknya garis tegak sama dengan nomor baris, dan banyaknya garis mendatar sama dengan nomor kolom. Kotak kanan bawah (baris 3, kolom 3) berisi tiga garis tegak dan tiga garis mendatar: pilihan **4**.

SET I (LATIHAN) · SOAL 2

Soal 2.

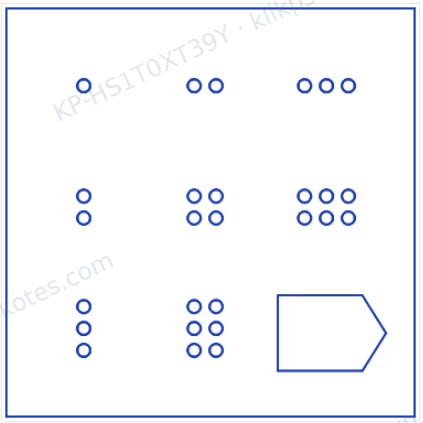

1	2	3	4	5	6	7	8
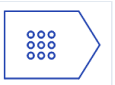		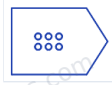	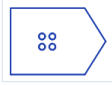				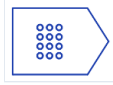
Kunci				Pilihan Anda			

Jawaban Anda: **5** · **Kurang tepat** · Jawaban benar: **1**

Pembahasan.

Banyaknya lingkaran kecil adalah nomor baris kali nomor kolom, tersusun dalam baris dan kolom kecil: 1, 2, 3 di baris atas; 2, 4, 6 di baris tengah; 3, 6, ... di baris bawah. Kotak terakhir berisi 3 × 3 = 9 lingkaran kecil: pilihan **1**.

CONTOH

SET I (LATIHAN) · SOAL 3

Soal 3.

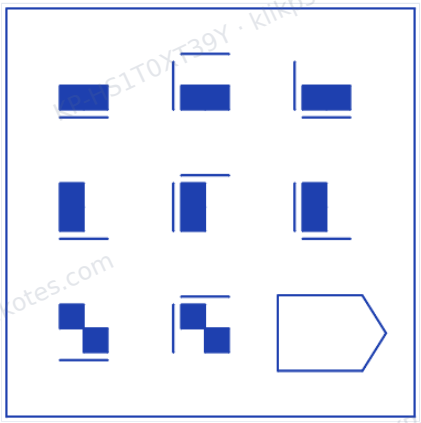

1	2	3	4	5	6	7	8
							 Pilihan Anda · benar

Jawaban Anda: **8** · **Benar**

Pembahasan.

Setiap kotak adalah gabungan bagian milik barisnya dan bagian milik kolomnya: bagian yang sama muncul di sepanjang baris, dan bagian lain muncul di sepanjang kolom. Kotak kanan bawah menggabungkan bagian baris bawah dan bagian kolom kanan: pilihan **8**.

CONTOH

SET I (LATIHAN) · SOAL 4

Soal 4.



1	2	3	4	5	6	7	8
						 Pilihan Anda · benar	

Jawaban Anda: **7** · **Benar**

Pembahasan.

bintang membesar satu langkah setiap bergeser ke kanan dan satu langkah setiap turun ke bawah. Kotak kanan bawah berada empat langkah dari kotak kiri atas, jadi berisi bintang terbesar: pilihan **7**.

CONTOH

SET I (LATIHAN) · SOAL 5

Soal 5.

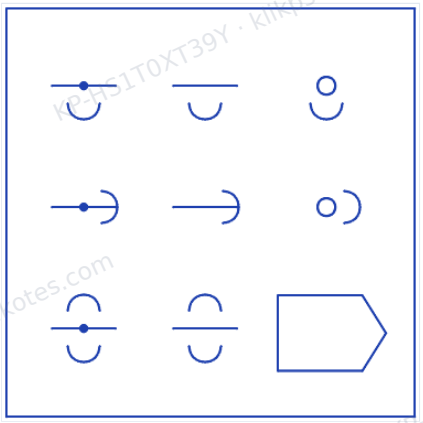

1	2	3	4	5	6	7	8
							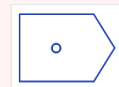
Kunci							Pilihan Anda

Jawaban Anda: **8** · **Kurang tepat** · Jawaban benar: **1**

Pembahasan.

Setiap kotak adalah gabungan bagian milik barisnya dan bagian milik kolomnya: bagian yang sama muncul di sepanjang baris, dan bagian lain muncul di sepanjang kolom. Kotak kanan bawah menggabungkan bagian baris bawah dan bagian kolom kanan: pilihan **1**.

CONTOH

SET I (LATIHAN) · SOAL 6

Soal 6.

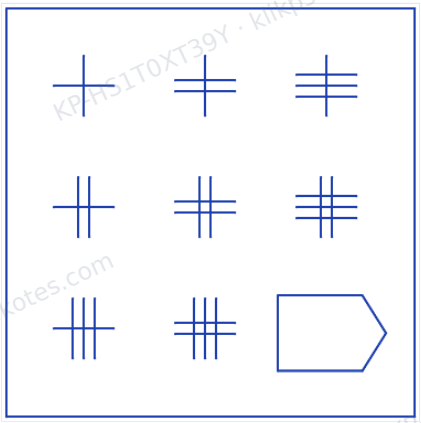

1	2	3	4	5	6	7	8
				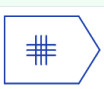 Pilihan Anda · benar	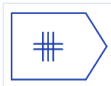		

Jawaban Anda: **5** · **Benar**

Pembahasan.

Banyaknya garis tegak sama dengan nomor baris, dan banyaknya garis mendatar sama dengan nomor kolom. Kotak kanan bawah (baris 3, kolom 3) berisi tiga garis tegak dan tiga garis mendatar: pilihan **5**.

CONTOH

SET I (LATIHAN) · SOAL 7

Soal 7.

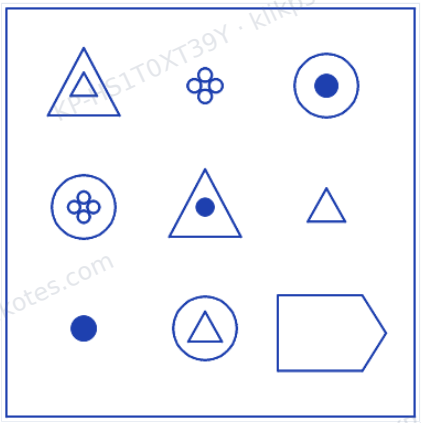

1	2	3	4	5	6	7	8
						 Pilihan Anda · benar	

Jawaban Anda: **7** · **Benar**

Pembahasan.

Ada dua ciri yang masing-masing muncul tepat sekali di setiap baris dan kolom: gambar (segitiga, bunga empat, bulatan) dan bingkai (bingkai segitiga, bingkai lingkaran, tanpa bingkai). Baris bawah belum memuat bunga empat dan belum memuat bingkai bingkai segitiga, jadi kotak kosong berisi keduanya: pilihan **7**.

CONTOH

SET I (LATIHAN) · SOAL 8

Soal 8.

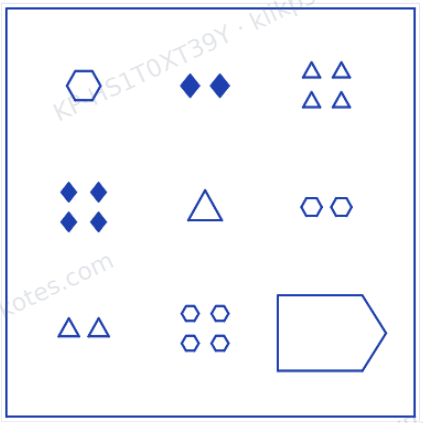

1	2	3	4	5	6	7	8
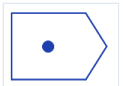			 Pilihan Anda			 Kunci	

Jawaban Anda: **4** · **Kurang tepat** · Jawaban benar: **7**

Pembahasan.

Ada dua ciri yang masing-masing muncul tepat sekali di setiap baris dan kolom: gambar (segi enam, belah ketupat hitam, segitiga) dan jumlah (satu, empat, dua). Baris bawah belum memuat belah ketupat hitam dan belum memuat jumlah satu, jadi kotak kosong berisi keduanya: pilihan **7**.

CONTOH

SET I (LATIHAN) · SOAL 9

Soal 9.

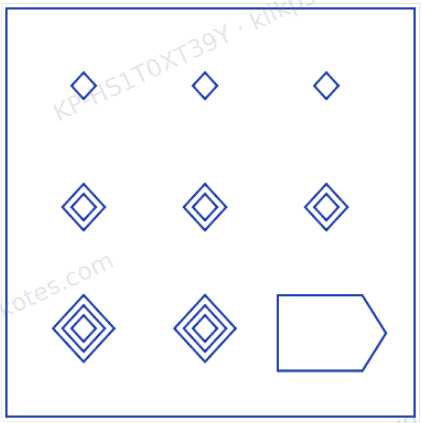

1	2	3	4	5	6	7	8
			 Pilihan Anda · benar				

Jawaban Anda: **4** · **Benar**

Pembahasan.

Setiap baris berisi belah ketupat bersarang dengan jumlah yang sama: satu pada baris atas, dua pada baris tengah, dan tiga pada baris bawah. Kotak yang kosong ada di baris bawah, jadi isinya tiga belah ketupat bersarang: pilihan **4**.

CONTOH

SET I (LATIHAN) · SOAL 10

Soal 10.

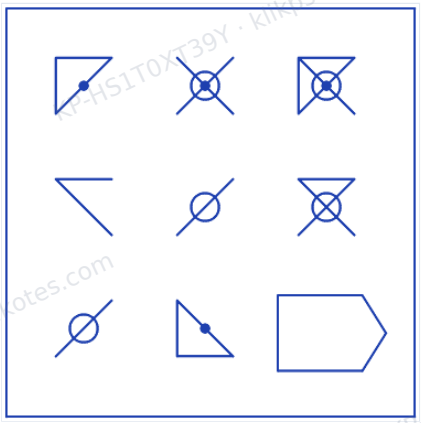

1	2	3	4	5	6	7	8
							 Pilihan Anda · benar

Jawaban Anda: **8** · **Benar**

Pembahasan.

Pada setiap baris, gambar ketiga adalah gabungan gambar pertama dan kedua: semua bagian keduanya digambar bersama. Terapkan aturan itu pada dua gambar di baris bawah: hasilnya pilihan **8**.

CONTOH

SET I (LATIHAN) · SOAL 11

Soal 11.

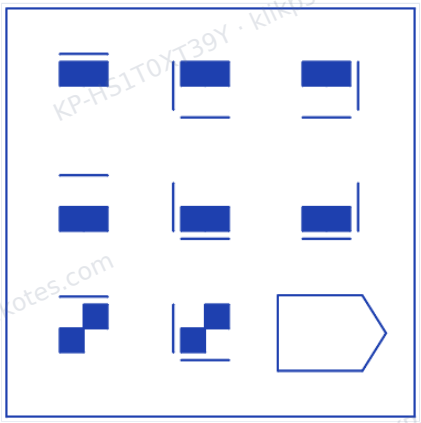

1	2	3	4	5	6	7	8
		 Pilihan Anda · benar					

Jawaban Anda: **3** · **Benar**

Pembahasan.

Setiap kotak adalah gabungan bagian milik barisnya dan bagian milik kolomnya: bagian yang sama muncul di sepanjang baris, dan bagian lain muncul di sepanjang kolom. Kotak kanan bawah menggabungkan bagian baris bawah dan bagian kolom kanan: pilihan **3**.

CONTOH

SET I (LATIHAN) · SOAL 12

Soal 12.

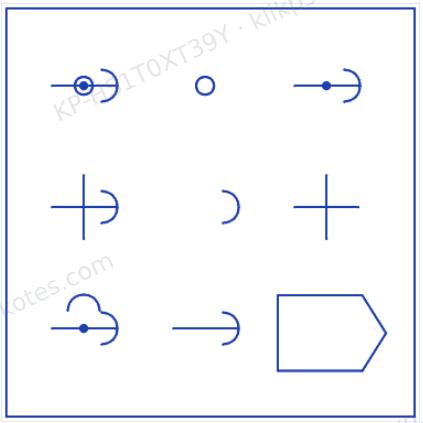

1	2	3	4	5	6	7	8
				 Kunci	 Pilihan Anda		

Jawaban Anda: **6** · **Kurang tepat** · Jawaban benar: **5**

Pembahasan.

Pada setiap baris, gambar ketiga adalah gambar pertama dikurangi gambar kedua: bagian yang ada di gambar kedua dihapus dari gambar pertama. Terapkan aturan itu pada dua gambar di baris bawah: hasilnya pilihan **5**.

CONTOH

SET II · SOAL 1

Soal 1.



1	2	3	4	5	6	7	8
							 Pilihan Anda · benar

Jawaban Anda: **8** · **Benar**

Pembahasan.

Ketiga gambar (segi enam, tanda tambah tebal, bunga empat) muncul tepat sekali di setiap baris dan kolom, sedangkan bingkainya ditentukan oleh baris (bingkai lingkaran, tanpa bingkai, bingkai segitiga). Kotak kosong berisi tanda tambah tebal dengan bingkai bingkai segitiga: pilihan **8**.

CONTOH

SET II · SOAL 2

Soal 2.

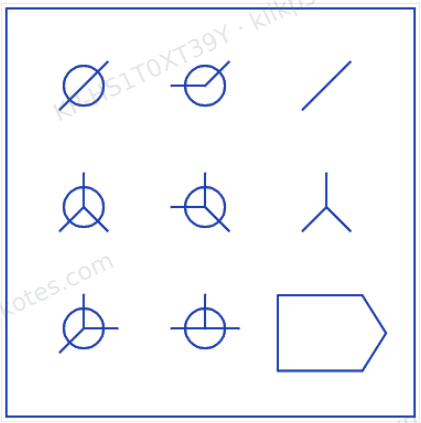

1	2	3	4	5	6	7	8
							 Pilihan Anda · benar

Jawaban Anda: **8** · **Benar**

Pembahasan.

Setiap kotak adalah gabungan bagian milik barisnya dan bagian milik kolomnya: bagian yang sama muncul di sepanjang baris, dan bagian lain muncul di sepanjang kolom. Kotak kanan bawah menggabungkan bagian baris bawah dan bagian kolom kanan: pilihan **8**.

CONTOH

SET II · SOAL 3

Soal 3.

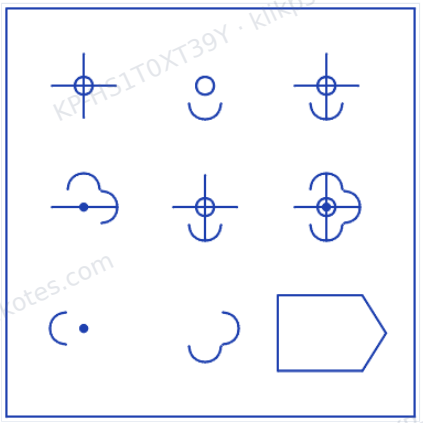

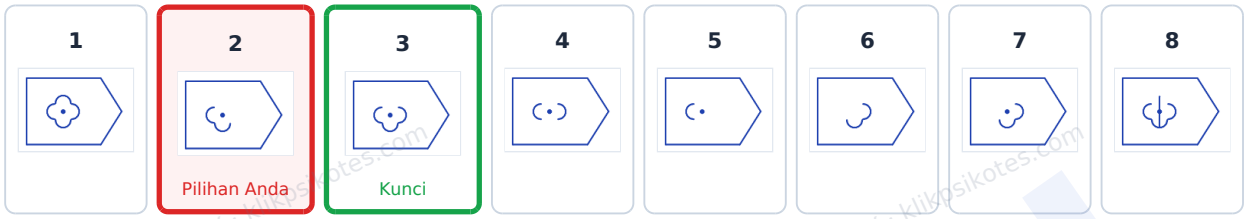

Jawaban Anda: **2** · **Kurang tepat** · Jawaban benar: **3**

Pembahasan.

Pada setiap baris, gambar ketiga adalah gabungan gambar pertama dan kedua: semua bagian keduanya digambar bersama. Terapkan aturan itu pada dua gambar di baris bawah: hasilnya pilihan **3**.

CONTOH

SET II · SOAL 4

Soal 4.

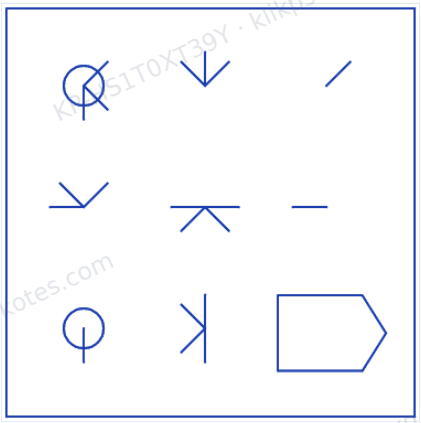

1	2	3	4	5	6	7	8
				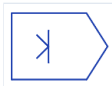			 Pilihan Anda · benar

Jawaban Anda: **8** · **Benar**

Pembahasan.

Pada setiap baris, gambar ketiga adalah bagian yang sama dari gambar pertama dan kedua: hanya bagian yang dimiliki keduanya yang tetap ada. Terapkan aturan itu pada dua gambar di baris bawah: hasilnya pilihan **8**.

CONTOH

SET II · SOAL 5

Soal 5.

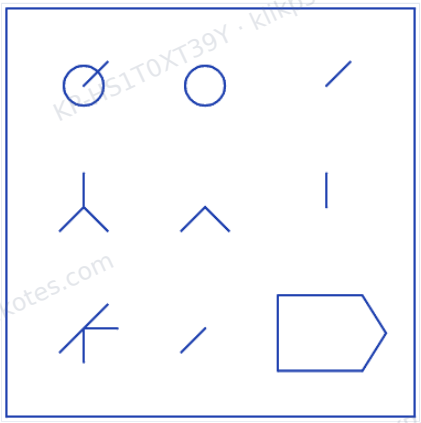

1	2	3	4	5	6	7	8
						 Pilihan Anda · benar	

Jawaban Anda: **7** · **Benar**

Pembahasan.

Pada setiap baris, gambar ketiga adalah gambar pertama dikurangi gambar kedua: bagian yang ada di gambar kedua dihapus dari gambar pertama. Terapkan aturan itu pada dua gambar di baris bawah: hasilnya pilihan **7**.

CONTOH

SET II · SOAL 6

Soal 6.

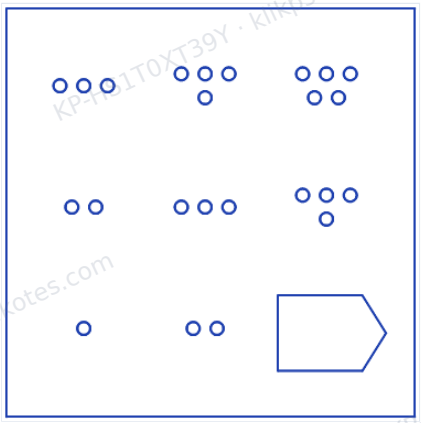

1	2	3	4	5	6	7	8
		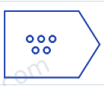	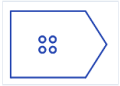	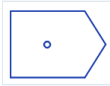			
Pilihan Anda · benar							

Jawaban Anda: **1** · **Benar**

Pembahasan.

Di setiap baris, banyaknya lingkaran kecil bertambah satu dari kiri ke kanan, dan setiap baris dimulai dengan satu lebih sedikit daripada baris di atasnya: 3, 4, 5 di baris atas; 2, 3, 4 di baris tengah; 1, 2, ... di baris bawah. Kotak terakhir berisi tiga lingkaran kecil: pilihan **1**.

CONTOH

SET II · SOAL 7

Soal 7.

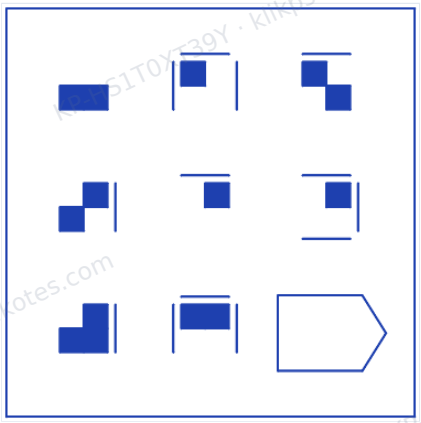

1	2	3	4	5	6	7	8
							 Pilihan Anda · benar

Jawaban Anda: **8** · **Benar**

Pembahasan.

Pada setiap kolom, gambar paling bawah adalah gabungan gambar pertama dan kedua: semua bagian keduanya digambar bersama. Terapkan aturan itu pada dua gambar di kolom kanan: hasilnya pilihan **8**.

CONTOH

SET II · SOAL 8

Soal 8.

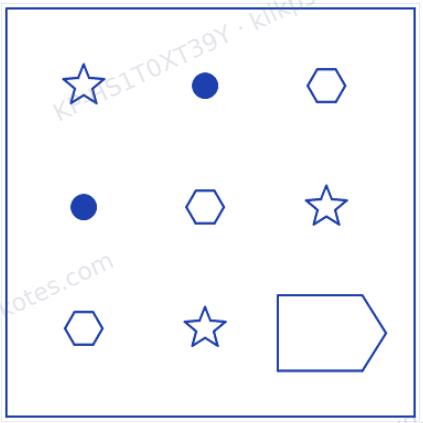

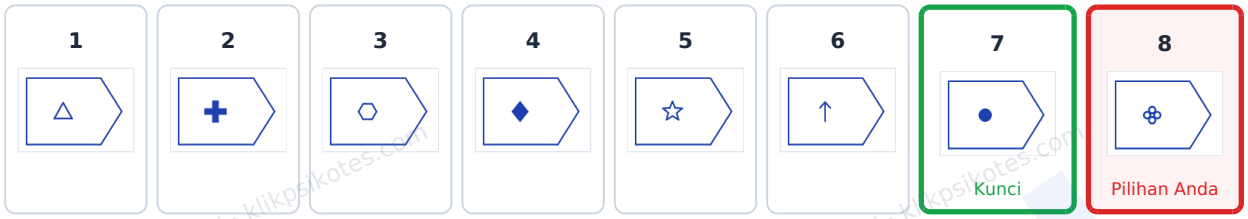

Jawaban Anda: **8** · **Kurang tepat** · Jawaban benar: **7**

Pembahasan.

Ketiga gambar (bintang, bulatan, segi enam) muncul tepat sekali di setiap baris dan setiap kolom, bergeser satu tempat dari baris ke baris. Baris bawah belum memuat bulatan, jadi itulah isi kotak kosong: pilihan **7**.

CONTOH

SET II · SOAL 9

Soal 9.

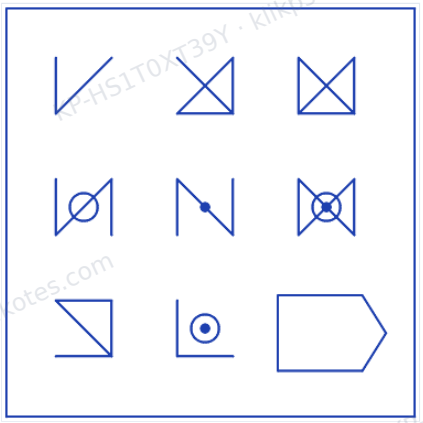

1	2	3	4	5	6	7	8
	 Pilihan Anda · benar						

Jawaban Anda: **2** · **Benar**

Pembahasan.

Pada setiap baris, gambar ketiga adalah gabungan gambar pertama dan kedua: semua bagian keduanya digambar bersama. Terapkan aturan itu pada dua gambar di baris bawah: hasilnya pilihan **2**.

CONTOH

SET II · SOAL 10

Soal 10.



1	2	3	4	5	6	7	8
						 Pilihan Anda · benar	

Jawaban Anda: **7** · **Benar**

Pembahasan.

bintang membesar satu langkah setiap bergeser ke kanan dan satu langkah setiap turun ke bawah. Kotak kanan bawah berada empat langkah dari kotak kiri atas, jadi berisi bintang terbesar: pilihan **7**.

CONTOH

SET II · SOAL 11

Soal 11.

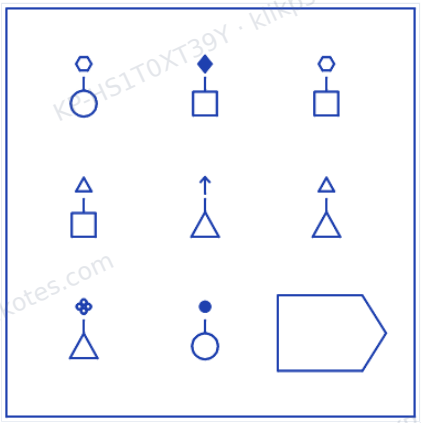

1	2	3	4	5	6	7	8
	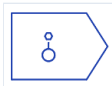			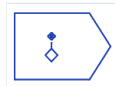		 Pilihan Anda · benar	

Jawaban Anda: **7** · **Benar**

Pembahasan.

Pada setiap baris, gambar ketiga memakai bagian atas gambar pertama dan bagian bawah gambar kedua. Di baris bawah, itu berarti bunga empat di atas dan lingkaran di bawah: pilihan **7**.

CONTOH

SET II · SOAL 12

Soal 12.

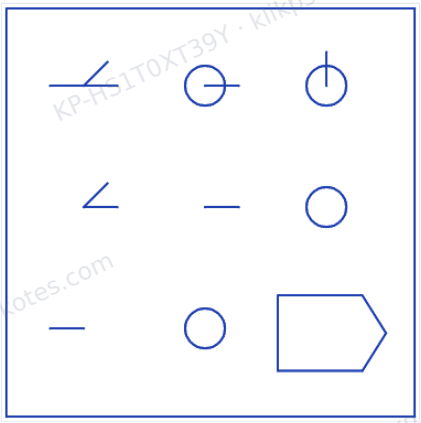

1	2	3	4	5	6	7	8
					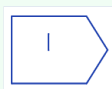 Pilihan Anda · benar		

Jawaban Anda: **6** · **Benar**

Pembahasan.

Pada setiap kolom, gambar paling bawah adalah gambar pertama dikurangi gambar kedua: bagian yang ada di gambar kedua dihapus dari gambar pertama. Terapkan aturan itu pada dua gambar di kolom kanan: hasilnya pilihan **6**.

CONTOH

SET II · SOAL 13

Soal 13.

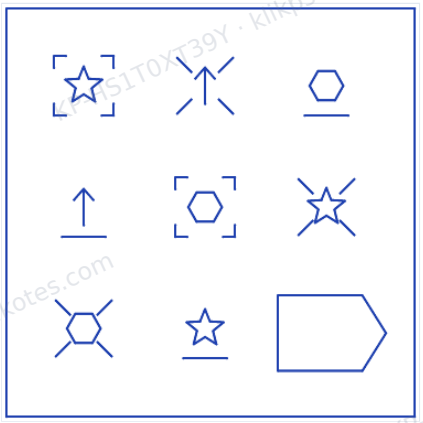

1	2	3	4	5	6	7	8
 Pilihan Anda				 Kunci			

Jawaban Anda: **1** · **Kurang tepat** · Jawaban benar: **5**

Pembahasan.

Ada dua ciri yang masing-masing muncul tepat sekali di setiap baris dan kolom: gambar (bintang, anak panah, segi enam) dan hiasan (sudut siku, garis bawah, garis silang). Baris bawah belum memuat anak panah dan belum memuat hiasan sudut siku, jadi kotak kosong berisi keduanya: pilihan **5**.

CONTOH

SET II · SOAL 14

Soal 14.

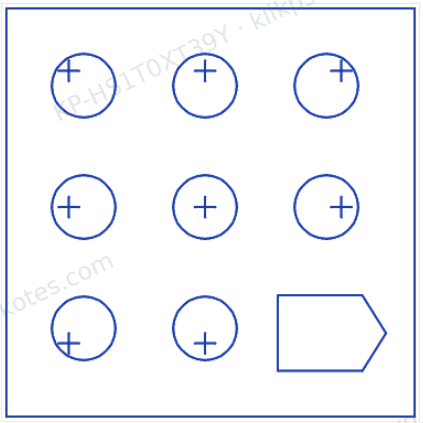

1	2	3	4	5	6	7	8
		 Pilihan Anda · benar					

Jawaban Anda: **3** · **Benar**

Pembahasan.

Di setiap kotak, tanda tambah berada di dalam lingkaran pada letak yang sama dengan letak kotak itu di dalam matriks: kiri atas di kotak kiri atas, tengah di kotak tengah, dan seterusnya. Kotak kanan bawah berisi tanda tambah di kanan bawah: pilihan **3**.

CONTOH

SET II · SOAL 15

Soal 15.

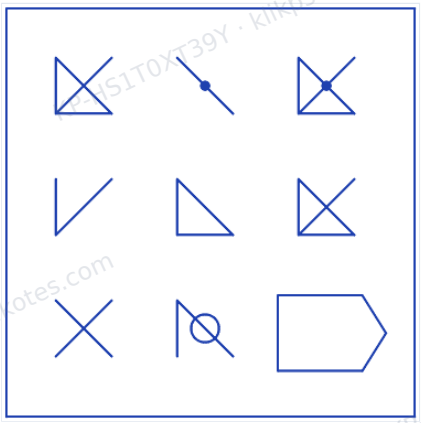

1	2	3	4	5	6	7	8
			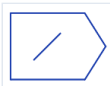			 Pilihan Anda · benar	

Jawaban Anda: **7** · **Benar**

Pembahasan.

Pada setiap baris, gambar ketiga adalah gabungan gambar pertama dan kedua: semua bagian keduanya digambar bersama. Terapkan aturan itu pada dua gambar di baris bawah: hasilnya pilihan **7**.

CONTOH

SET II · SOAL 16

Soal 16.

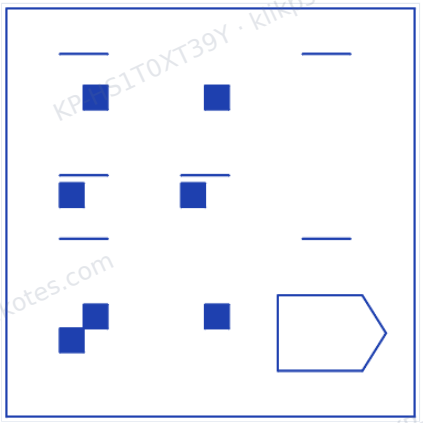

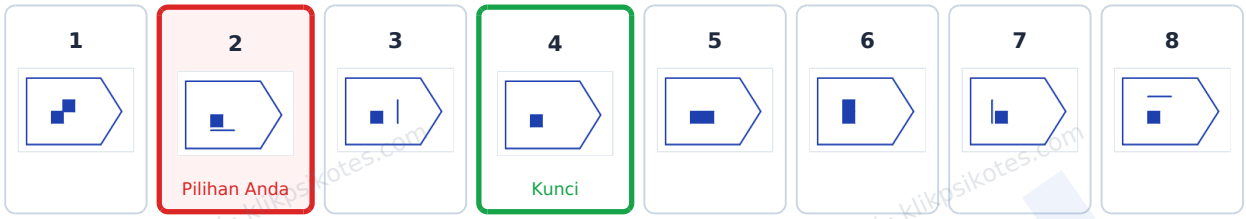

Jawaban Anda: **2** · **Kurang tepat** · Jawaban benar: **4**

Pembahasan.

Pada setiap baris, gambar ketiga adalah gambar pertama dikurangi gambar kedua: bagian yang ada di gambar kedua dihapus dari gambar pertama. Terapkan aturan itu pada dua gambar di baris bawah: hasilnya pilihan **4**.

CONTOH

SET II · SOAL 17

Soal 17.



1	2	3	4	5	6	7	8
					 Pilihan Anda · benar		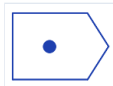

Jawaban Anda: **6** · **Benar**

Pembahasan.

Ada dua ciri yang masing-masing muncul tepat sekali di setiap baris dan kolom: gambar (bulatan, bintang, segi enam) dan bingkai (tanpa bingkai, bingkai persegi, bingkai lingkaran). Baris bawah belum memuat bintang dan belum memuat bingkai tanpa bingkai, jadi kotak kosong berisi keduanya: pilihan **6**.

CONTOH

SET II · SOAL 18

Soal 18.

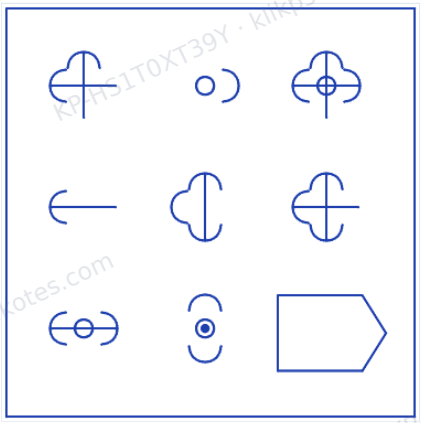

1	2	3	4	5	6	7	8
						 Pilihan Anda · benar	

Jawaban Anda: **7** · **Benar**

Pembahasan.

Pada setiap baris, gambar ketiga adalah gabungan gambar pertama dan kedua: semua bagian keduanya digambar bersama. Terapkan aturan itu pada dua gambar di baris bawah: hasilnya pilihan **7**.

CONTOH

SET II · SOAL 19

Soal 19.

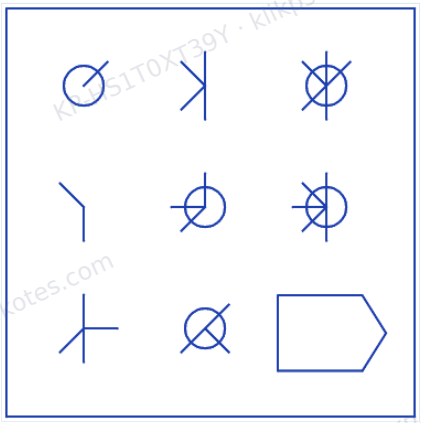

1	2	3	4	5	6	7	8
				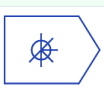 Pilihan Anda · benar			

Jawaban Anda: **5** · **Benar**

Pembahasan.

Pada setiap baris, gambar ketiga adalah gabungan gambar pertama dan kedua: semua bagian keduanya digambar bersama. Terapkan aturan itu pada dua gambar di baris bawah: hasilnya pilihan **5**.

CONTOH

SET II · SOAL 20

Soal 20.

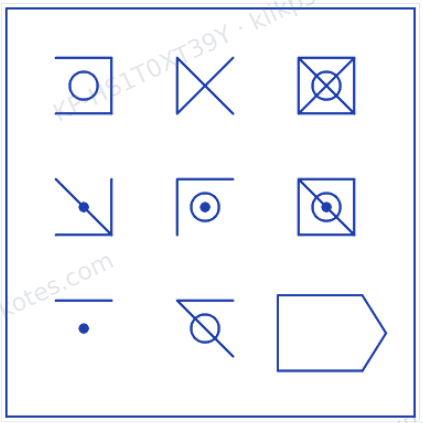

1	2	3	4	5	6	7	8
						 Pilihan Anda · benar	

Jawaban Anda: **7** · **Benar**

Pembahasan.

Pada setiap baris, gambar ketiga adalah gabungan gambar pertama dan kedua: semua bagian keduanya digambar bersama. Terapkan aturan itu pada dua gambar di baris bawah: hasilnya pilihan **7**.

CONTOH

SET II · SOAL 21

Soal 21.

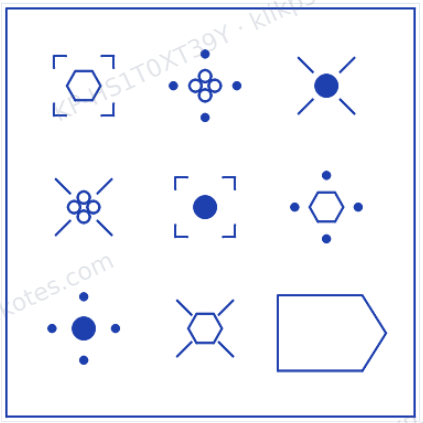

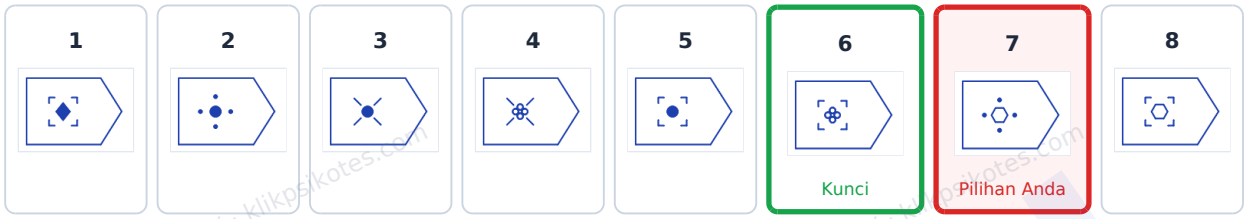

Jawaban Anda: **7** · **Kurang tepat** · Jawaban benar: **6**

Pembahasan.

Ada dua ciri yang masing-masing muncul tepat sekali di setiap baris dan kolom: gambar (segi enam, bunga empat, bulatan) dan hiasan (sudut siku, garis silang, empat titik). Baris bawah belum memuat bunga empat dan belum memuat hiasan sudut siku, jadi kotak kosong berisi keduanya: pilihan **6**.

CONTOH

SET II · SOAL 22

Soal 22.

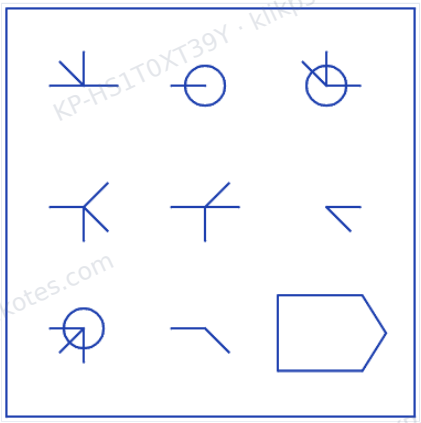

1	2	3	4	5	6	7	8
Pilihan Anda						Kunci	

Jawaban Anda: **1** · **Kurang tepat** · Jawaban benar: **7**

Pembahasan.

Pada setiap baris, gambar ketiga adalah gabungan gambar pertama dan kedua tanpa bagian yang dimiliki keduanya: bagian yang sama saling meniadakan. Terapkan aturan itu pada dua gambar di baris bawah: hasilnya pilihan **7**.

CONTOH

SET II · SOAL 23

Soal 23.

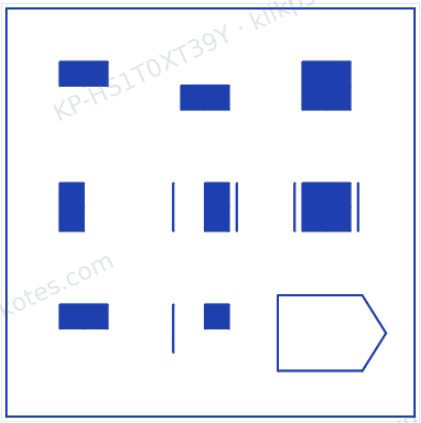

1	2	3	4	5	6	7	8
							 Pilihan Anda · benar

Jawaban Anda: **8** · **Benar**

Pembahasan.

Pada setiap baris, gambar ketiga adalah gabungan gambar pertama dan kedua: semua bagian keduanya digambar bersama. Terapkan aturan itu pada dua gambar di baris bawah: hasilnya pilihan **8**.

CONTOH

SET II · SOAL 24

Soal 24.

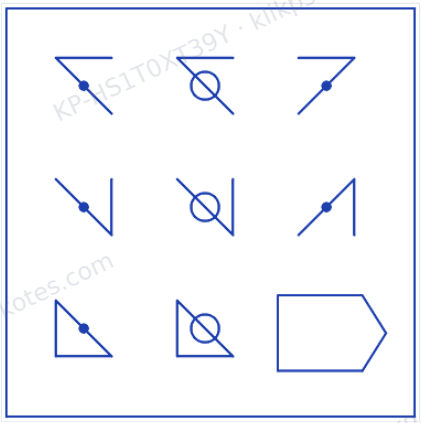

1	2	3	4	5	6	7	8
			 Pilihan Anda · benar				

Jawaban Anda: **4** · **Benar**

Pembahasan.

Setiap kotak adalah gabungan bagian milik barisnya dan bagian milik kolomnya: bagian yang sama muncul di sepanjang baris, dan bagian lain muncul di sepanjang kolom. Kotak kanan bawah menggabungkan bagian baris bawah dan bagian kolom kanan: pilihan **4**.

CONTOH

SET II · SOAL 25

Soal 25.

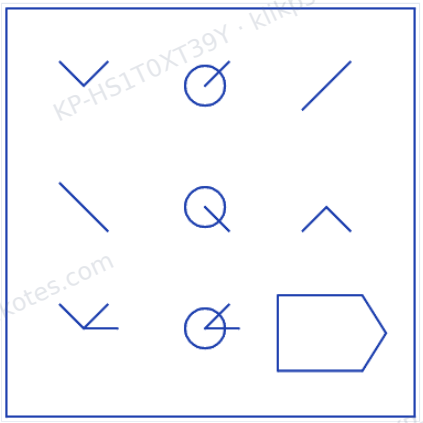

1	2	3	4	5	6	7	8
		 Pilihan Anda	 Kunci				

Jawaban Anda: **3** · **Kurang tepat** · Jawaban benar: **4**

Pembahasan.

Setiap kotak adalah gabungan bagian milik barisnya dan bagian milik kolomnya: bagian yang sama muncul di sepanjang baris, dan bagian lain muncul di sepanjang kolom. Kotak kanan bawah menggabungkan bagian baris bawah dan bagian kolom kanan: pilihan **4**.

CONTOH

SET II · SOAL 26

Soal 26.

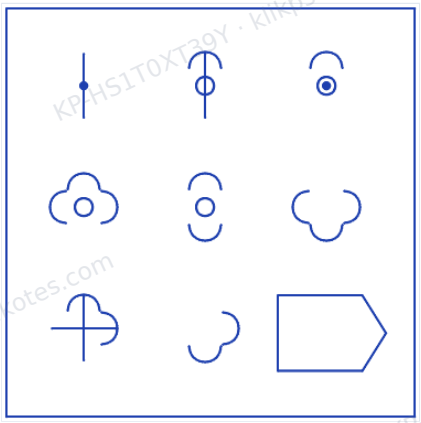

1	2	3	4	5	6	7	8
				 Pilihan Anda · benar			

Jawaban Anda: **5** · **Benar**

Pembahasan.

Pada setiap baris, gambar ketiga adalah gabungan gambar pertama dan kedua tanpa bagian yang dimiliki keduanya: bagian yang sama saling meniadakan. Terapkan aturan itu pada dua gambar di baris bawah: hasilnya pilihan **5**.

CONTOH

SET II · SOAL 27

Soal 27.

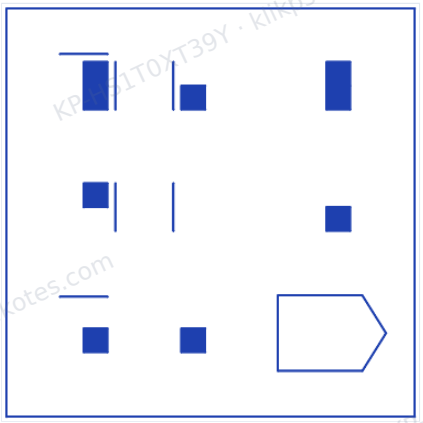

1	2	3	4	5	6	7	8
			 Pilihan Anda · benar				

Jawaban Anda: **4** · **Benar**

Pembahasan.

Pada setiap kolom, gambar paling bawah adalah gambar pertama dikurangi gambar kedua: bagian yang ada di gambar kedua dihapus dari gambar pertama. Terapkan aturan itu pada dua gambar di kolom kanan: hasilnya pilihan **4**.

CONTOH

SET II · SOAL 28

Soal 28.

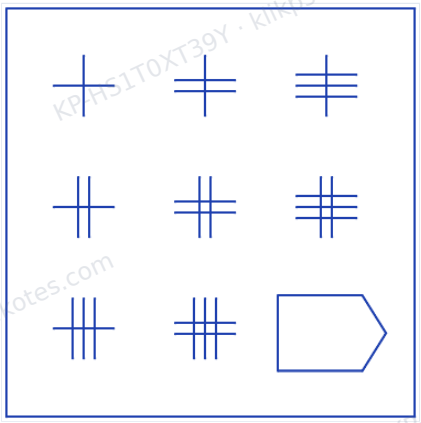

1	2	3	4	5	6	7	8
			 Pilihan Anda · benar				

Jawaban Anda: **4** · **Benar**

Pembahasan.

Banyaknya garis tegak sama dengan nomor baris, dan banyaknya garis mendatar sama dengan nomor kolom. Kotak kanan bawah (baris 3, kolom 3) berisi tiga garis tegak dan tiga garis mendatar: pilihan **4**.

CONTOH

SET II · SOAL 29

Soal 29.

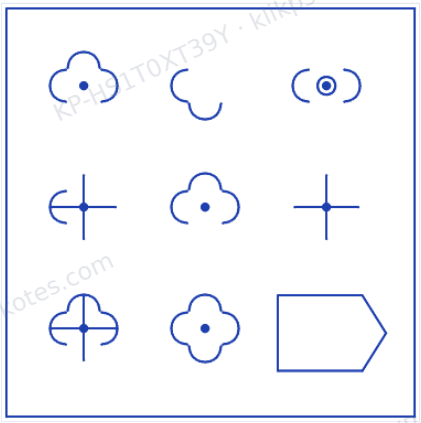

1	2	3	4	5	6	7	8
	 Pilihan Anda · benar						

Jawaban Anda: **2** · **Benar**

Pembahasan.

Pada setiap kolom, gambar paling bawah adalah gabungan gambar pertama dan kedua: semua bagian keduanya digambar bersama. Terapkan aturan itu pada dua gambar di kolom kanan: hasilnya pilihan **2**.

CONTOH

SET II · SOAL 30

Soal 30.

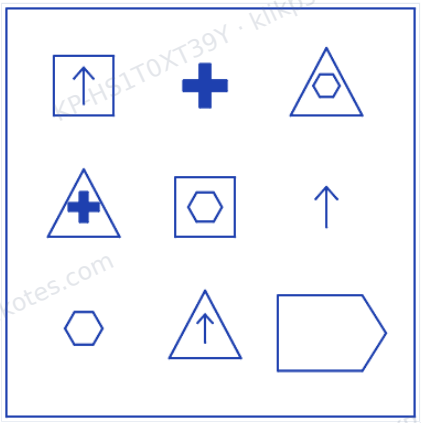

1	2	3	4	5	6	7	8
				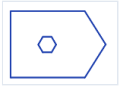			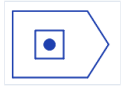
Pilihan Anda · benar							

Jawaban Anda: **1** · **Benar**

Pembahasan.

Ada dua ciri yang masing-masing muncul tepat sekali di setiap baris dan kolom: gambar (anak panah, tanda tambah tebal, segi enam) dan bingkai (bingkai persegi, bingkai segitiga, tanpa bingkai). Baris bawah belum memuat tanda tambah tebal dan belum memuat bingkai bingkai persegi, jadi kotak kosong berisi keduanya: pilihan **1**.

CONTOH

SET II · SOAL 31

Soal 31.

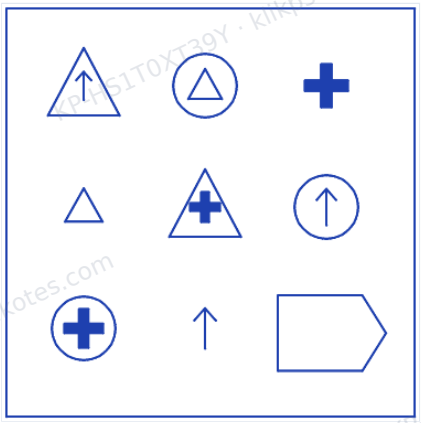

1	2	3	4	5	6	7	8
	 Pilihan Anda · benar						

Jawaban Anda: **2** · **Benar**

Pembahasan.

Ada dua ciri yang masing-masing muncul tepat sekali di setiap baris dan kolom: gambar (anak panah, segitiga, tanda tambah tebal) dan bingkai (bingkai segitiga, tanpa bingkai, bingkai lingkaran). Baris bawah belum memuat segitiga dan belum memuat bingkai bingkai segitiga, jadi kotak kosong berisi keduanya: pilihan **2**.

CONTOH

SET II · SOAL 32

Soal 32.

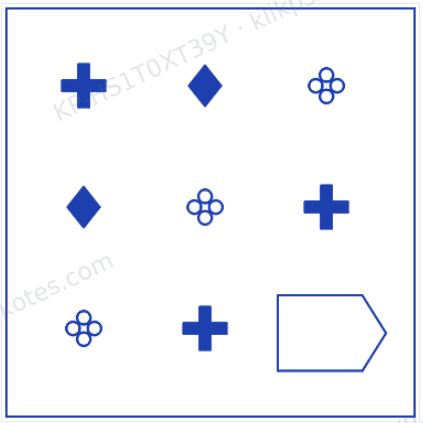

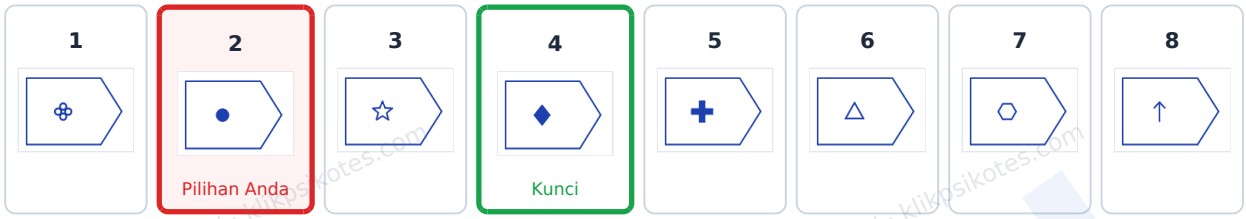

Jawaban Anda: **2** · **Kurang tepat** · Jawaban benar: **4**

Pembahasan.

Ketiga gambar (tanda tambah tebal, belah ketupat hitam, bunga empat) muncul tepat sekali di setiap baris dan setiap kolom, bergeser satu tempat dari baris ke baris. Baris bawah belum memuat belah ketupat hitam, jadi itulah isi kotak kosong: pilihan **4**.

CONTOH

SET II · SOAL 33

Soal 33.

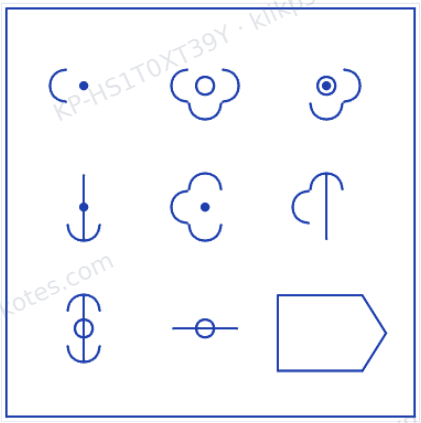

1	2	3	4	5	6	7	8
			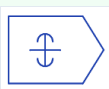 Pilihan Anda · benar		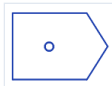		

Jawaban Anda: **4** · **Benar**

Pembahasan.

Pada setiap baris, gambar ketiga adalah gabungan gambar pertama dan kedua tanpa bagian yang dimiliki keduanya: bagian yang sama saling meniadakan. Terapkan aturan itu pada dua gambar di baris bawah: hasilnya pilihan **4**.

CONTOH

SET II · SOAL 34

Soal 34.

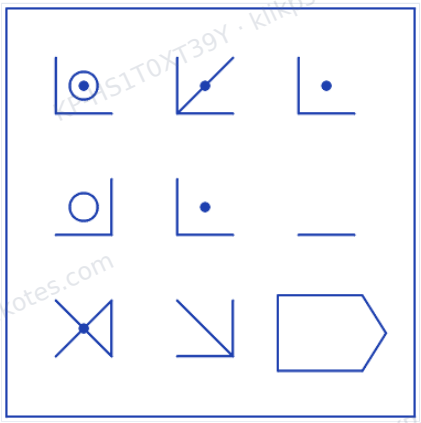

1	2	3	4	5	6	7	8
 Pilihan Anda · benar		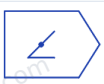					

Jawaban Anda: **1** · **Benar**

Pembahasan.

Pada setiap baris, gambar ketiga adalah bagian yang sama dari gambar pertama dan kedua: hanya bagian yang dimiliki keduanya yang tetap ada. Terapkan aturan itu pada dua gambar di baris bawah: hasilnya pilihan **1**.

CONTOH

SET II · SOAL 35

Soal 35.

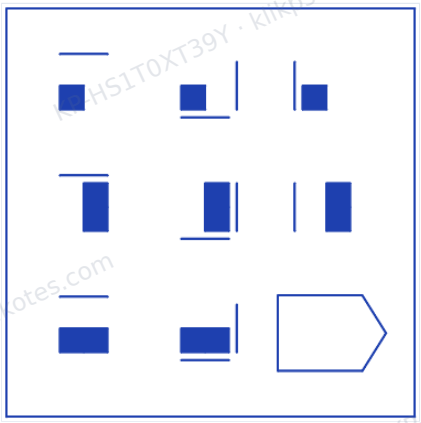

1	2	3	4	5	6	7	8
							 Pilihan Anda · benar

Jawaban Anda: **8** · **Benar**

Pembahasan.

Setiap kotak adalah gabungan bagian milik barisnya dan bagian milik kolomnya: bagian yang sama muncul di sepanjang baris, dan bagian lain muncul di sepanjang kolom. Kotak kanan bawah menggabungkan bagian baris bawah dan bagian kolom kanan: pilihan **8**.

CONTOH

SET II · SOAL 36

Soal 36.

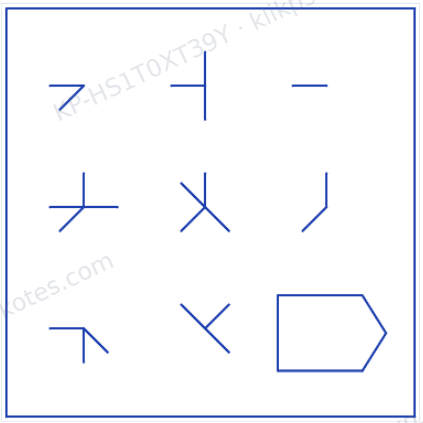

1	2	3	4	5	6	7	8
			 Pilihan Anda				 Kunci

Jawaban Anda: **4** · **Kurang tepat** · Jawaban benar: **8**

Pembahasan.

Pada setiap baris, gambar ketiga adalah bagian yang sama dari gambar pertama dan kedua: hanya bagian yang dimiliki keduanya yang tetap ada. Terapkan aturan itu pada dua gambar di baris bawah: hasilnya pilihan **8**.

06 Catatan dan keabsahan

Dasar perhitungan dan batas penggunaan laporan.

Laporan ini disusun otomatis dari jawaban peserta pada Latihan Tes Matriks Progresif Lanjutan (model APM). Skor dihitung otomatis dengan norma apm-table10-uk, dan dapat dipakai sebagai bahan belajar dan refleksi diri. Laporan ini bukan hasil asesmen psikologis resmi dan tidak menggantikan pemeriksaan oleh psikolog berizin.

No. laporan KP-HS1T0XT39Y

Dihasilkan oleh KlikPsikotes pada 28 Oktober 2026, 12.54 WIB.

Sebutkan nomor ini bila perlu menanyakan laporan.

Latihan lagi?

Tes lain dan laporan lengkap ada di **klikpsikotes.com**