KlikPsikotes

No. laporan
KP-YHB6NMRD23

LAPORAN HASIL TES

Tes Bangun Ruang (model TIU 6)

Tes kognitif

CONTOH · peserta fiktif

DISUSUN UNTUK

Peserta Contoh

TANGGAL TES	MODE	SOAL TERJAWAB
29 Oktober 2026	**Latihan**	**40 dari 40**

Tentang laporan ini

Untuk siapa laporan ini dan cara membacanya.

Terima kasih telah mengerjakan **Tes Bangun Ruang (model TIU 6)**. Laporan ini merangkum hasil Anda: skor, kategorinya, dan penjelasan setiap aspek. Skor dihitung otomatis dari jawaban Anda dengan kunci dan norma dari sumber tes.

IDENTITAS PESERTA

Nama lengkap **Peserta Contoh**	Email **peserta.contoh@example.com**
Usia saat tes **26 tahun**	Jenis kelamin **Perempuan**
Pendidikan terakhir **Sarjana (D4/S1)**	Tes **Tes Bangun Ruang (model TIU 6) (BR40)**
Waktu selesai **29 Oktober 2026, 05.20 WIB**	Lama pengerjaan **13 menit 20 detik**
Soal terjawab **40 dari 40 soal**	

CARA MEMBACA LAPORAN

1. **Mulai dari ringkasan**
   Hasil utama dan kategorinya.
2. **Skor baku dan mentah**
   Baku dibandingkan norma; mentah adalah jumlah jawaban yang dinilai.
3. **Kategori**
   Posisi skor pada pita dari sumber tes.
4. **Gambaran saat ini**
   Kondisi saat tes, bukan label permanen.

CONTOH

Isi laporan

01 Ringkasan hasil
02 Rincian skor
03 Interpretasi per aspek
04 Analisis Coach AI
05 Rekap jawaban
06 Pembahasan soal
07 Catatan dan keabsahan

CONTOH
KP-YHB6NMRD23 · klikpsikotes.com

01 Ringkasan hasil

Hasil utama dan apa artinya secara singkat.

SKOR SKALA

5

Baik Sekali

33 dari 40 soal dijawab benar.

RINGKASAN

Benar 33 dari 40 soal, skor skala 5 (Baik Sekali).

02 Rincian skor

Skor setiap aspek beserta kategorinya.

ASPEK	SKOR	KATEGORI
Bangun ruang	**5** mentah 33	Baik Sekali

03 Interpretasi per aspek

Penjelasan tiap aspek menurut pita skor.

Bangun ruang

Baik Sekali · skor 5

Benar 33–40 soal (skor skala 5). Hampir semua guntingan dinilai tepat. Anda membayangkan lipatan bangun dengan cermat dan konsisten, termasuk pada guntingan yang rumit.

Saran Pertahankan cara kerja ini. Untuk menjaga ketelitian, coba kerjakan dengan target waktu sendiri tanpa mengorbankan ketepatan, karena pada tes sungguhan biasanya ada batas waktu.

CONTOH

04 Analisis Coach AI

Kekuatan, hal yang bisa dikembangkan, dan rencana latihan.

Kemampuan bangun ruang Anda berada pada kategori Baik Sekali

SKOR BANGUN RUANG	SKOR STANDAR	WAKTU PENGERJAAN
33/40 benar	**Skala 5**	**13 menit, waktu tidak habis**

Pada BR40, Anda meraih kategori **Baik Sekali** dengan 33 jawaban benar dari 40 soal. Hasil ini menunjukkan kemampuan membayangkan lipatan bangun secara cermat dan konsisten dalam latihan ini.

Kekuatan Anda

Visualisasi ruang

Anda tampak kuat dalam membayangkan perubahan bentuk dan lipatan bangun ruang.

Kecermatan pola

Penjelasan hasil menunjukkan Anda dapat menangani guntingan yang rumit dengan konsisten.

Penyelesaian tuntas

Semua 40 soal terjawab dalam 13 menit dan waktu tidak habis.

Bisa dikembangkan

Meninjau kesalahan

Lima jawaban yang belum tepat perlu ditinjau untuk menemukan pola kekeliruannya.

Coba: Catat nomor soal yang salah dan jelaskan kembali arah lipatannya tanpa melihat kunci.

Transfer penalaran gambar

Kemampuan bangun ruang dapat diperluas ke soal perubahan pola dan analogi gambar.

Coba: Latih AG30 dengan fokus pada perubahan posisi, arah, dan bentuk dari A ke B.

Rencana latihan 7 hari

Hari 1 Tinjau lima soal BR40 yang salah dan gambar ulang langkah lipatannya. **Buka tes ›**

Hari 2–3 Kerjakan AG30 untuk melatih penerapan perubahan bentuk dari A ke B pada C. **Buka tes ›**

Hari 4–5 Kerjakan KU12 untuk memperluas latihan kemampuan gambar, logika, kata, dan angka dalam batas waktu. **Buka tes ›**

Hari 6–7 Kerjakan SPM dengan membaca pola baris, kolom, dan hubungan antarbagian secara berurutan. **Buka tes ›**

Ini adalah hasil latihan BR40, bukan penilaian psikologis resmi atau penentu kelulusan seleksi. Analisis ini dibuat dengan bantuan AI dari skor di atas, bukan oleh psikolog.

05 Rekap jawaban

Benar dan salah untuk setiap soal.

Benar | Salah atau kosong

1	2	3	4	5	6	7	8	9	10
11	12	13	14	15	16	17	18	19	20
21	22	23	24	25	26	27	28	29	30
31	32	33	34	35	36	37	38	39	40

CONTOH

06 Pembahasan soal

Jawaban benar dan pembahasan yang disetujui.

BANGUN RUANG · SOAL 1

Apakah **guntingan bertanda biru** dapat dilipat menjadi **bangun di kotak abu-abu** dengan semua sisi tertutup?

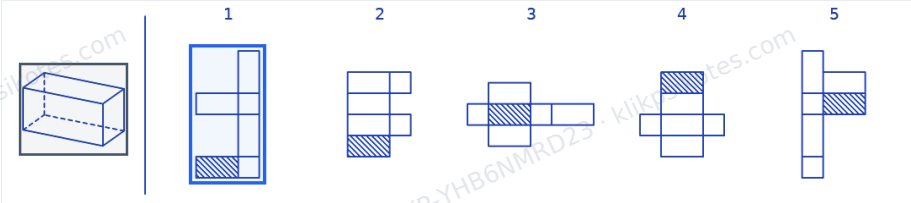

Jawaban Anda: **Salah** · **Benar**

Pembahasan.
Jawabannya **Salah**. Guntingan 1 tidak dapat dilipat menjadi balok: bila dilipat, ada bidang yang bertumpuk atau tidak pas dengan sisinya, sehingga ada sisi balok yang tetap terbuka.

BANGUN RUANG · SOAL 2

Apakah **guntingan bertanda biru** dapat dilipat menjadi **bangun di kotak abu-abu** dengan semua sisi tertutup?

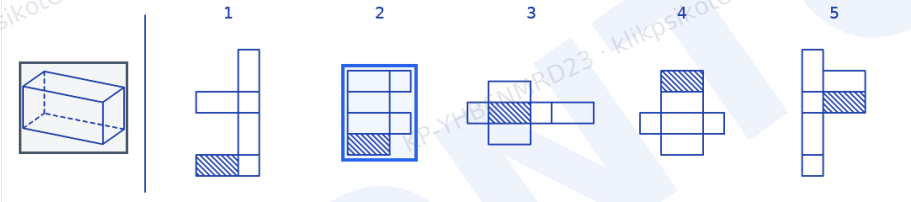

Jawaban Anda: **Salah** · **Benar**

Pembahasan.
Jawabannya **Salah**. Guntingan 2 tidak dapat dilipat menjadi balok: bila dilipat, ada bidang yang bertumpuk atau tidak pas dengan sisinya, sehingga ada sisi balok yang tetap terbuka.

CONTOH

BANGUN RUANG · SOAL 3

Apakah **guntingan bertanda biru** dapat dilipat menjadi **bangun di kotak abu-abu** dengan semua sisi tertutup?

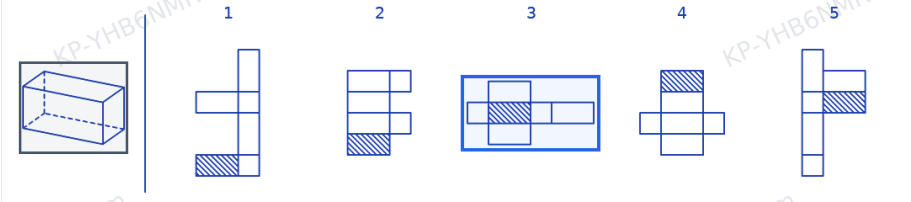

Jawaban Anda: **Betul** · **Benar**

Pembahasan.
Jawabannya **Betul**. Guntingan 3 dapat dilipat menjadi balok: setiap bidangnya menutup tepat satu sisi balok, dan setiap lipatan mempertemukan sisi-sisi yang sama panjang.

BANGUN RUANG · SOAL 4

Apakah **guntingan bertanda biru** dapat dilipat menjadi **bangun di kotak abu-abu** dengan semua sisi tertutup?

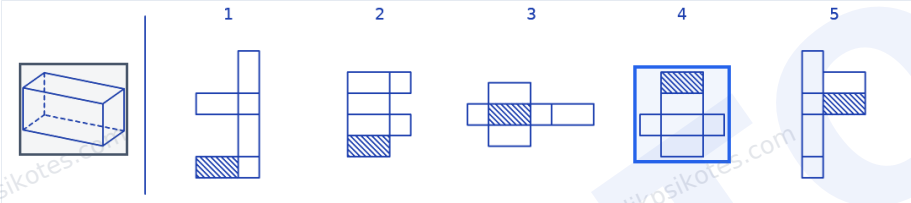

Jawaban Anda: **Betul** · **Benar**

Pembahasan.
Jawabannya **Betul**. Guntingan 4 dapat dilipat menjadi balok: setiap bidangnya menutup tepat satu sisi balok, dan setiap lipatan mempertemukan sisi-sisi yang sama panjang.

CONTOH

BANGUN RUANG · SOAL 5

Apakah **guntingan bertanda biru** dapat dilipat menjadi **bangun di kotak abu-abu** dengan semua sisi tertutup?

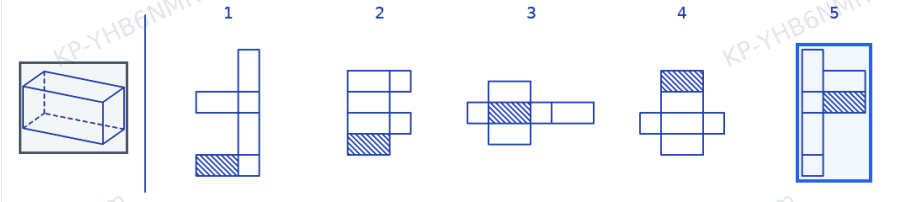

Jawaban Anda: **Salah** · **Benar**

Pembahasan.
Jawabannya **Salah**. Guntingan 5 tidak dapat dilipat menjadi balok: bila dilipat, ada bidang yang bertumpuk atau tidak pas dengan sisinya, sehingga ada sisi balok yang tetap terbuka.

BANGUN RUANG · SOAL 6

Apakah **guntingan bertanda biru** dapat dilipat menjadi **bangun di kotak abu-abu** dengan semua sisi tertutup?

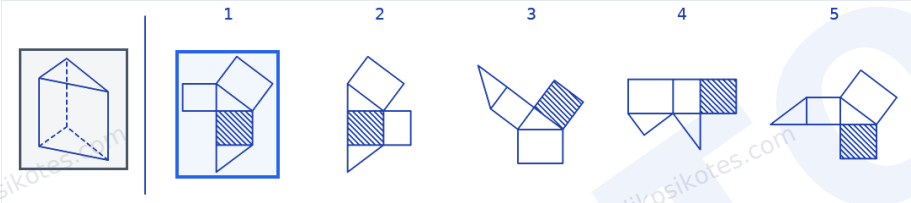

Jawaban Anda: **Betul** · **Benar**

Pembahasan.
Jawabannya **Betul**. Guntingan 1 dapat dilipat menjadi prisma segitiga siku: setiap bidangnya menutup tepat satu sisi prisma segitiga siku, dan setiap lipatan mempertemukan sisi-sisi yang sama panjang.

CONTOH

BANGUN RUANG · SOAL 7

Apakah **guntingan bertanda biru** dapat dilipat menjadi **bangun di kotak abu-abu** dengan semua sisi tertutup?

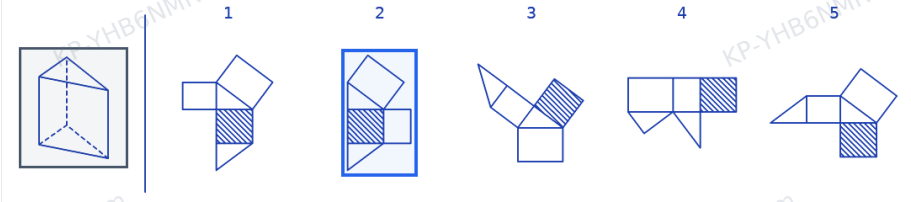

Jawaban Anda: **Salah** · **Benar**

Pembahasan.
Jawabannya **Salah**. Guntingan 2 tidak dapat dilipat menjadi prisma segitiga siku: bila dilipat, ada bidang yang bertumpuk atau tidak pas dengan sisinya, sehingga ada sisi prisma segitiga siku yang tetap terbuka.

BANGUN RUANG · SOAL 8

Apakah **guntingan bertanda biru** dapat dilipat menjadi **bangun di kotak abu-abu** dengan semua sisi tertutup?

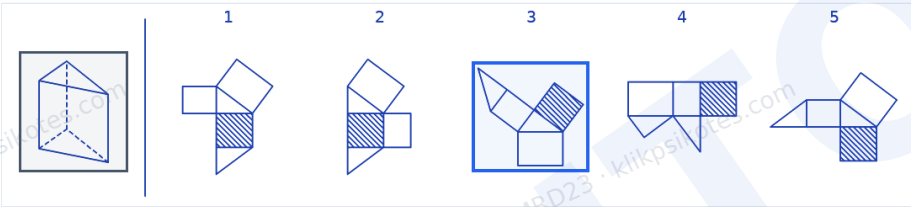

Jawaban Anda: **Salah** · **Kurang tepat** · Jawaban benar: **Betul**

Pembahasan.
Jawabannya **Betul**. Guntingan 3 dapat dilipat menjadi prisma segitiga siku: setiap bidangnya menutup tepat satu sisi prisma segitiga siku, dan setiap lipatan mempertemukan sisi-sisi yang sama panjang.

CONTOH

BANGUN RUANG · SOAL 9

Apakah **guntingan bertanda biru** dapat dilipat menjadi **bangun di kotak abu-abu** dengan semua sisi tertutup?

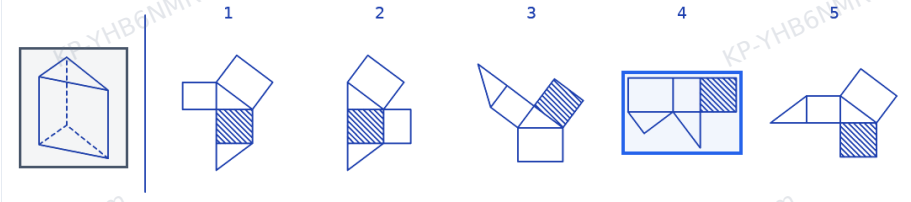

Jawaban Anda: **Salah** · **Benar**

Pembahasan.
Jawabannya **Salah**. Guntingan 4 tidak dapat dilipat menjadi prisma segitiga siku: bila dilipat, ada bidang yang bertumpuk atau tidak pas dengan sisinya, sehingga ada sisi prisma segitiga siku yang tetap terbuka.

BANGUN RUANG · SOAL 10

Apakah **guntingan bertanda biru** dapat dilipat menjadi **bangun di kotak abu-abu** dengan semua sisi tertutup?

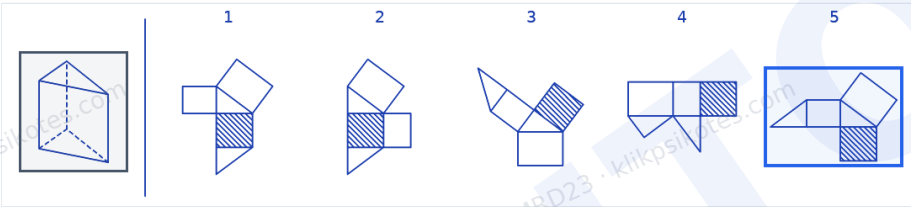

Jawaban Anda: **Betul** · **Benar**

Pembahasan.
Jawabannya **Betul**. Guntingan 5 dapat dilipat menjadi prisma segitiga siku: setiap bidangnya menutup tepat satu sisi prisma segitiga siku, dan setiap lipatan mempertemukan sisi-sisi yang sama panjang.

CONTOH

BANGUN RUANG · SOAL 11

Apakah **guntingan bertanda biru** dapat dilipat menjadi **bangun di kotak abu-abu** dengan semua sisi tertutup?

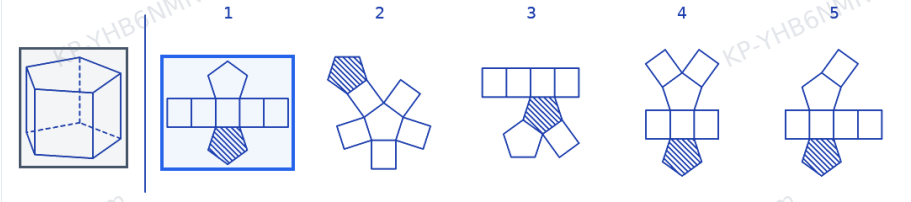

Jawaban Anda: **Betul** · **Benar**

Pembahasan.
Jawabannya **Betul**. Guntingan 1 dapat dilipat menjadi prisma segi lima: setiap bidangnya menutup tepat satu sisi prisma segi lima, dan setiap lipatan mempertemukan sisi-sisi yang sama panjang.

BANGUN RUANG · SOAL 12

Apakah **guntingan bertanda biru** dapat dilipat menjadi **bangun di kotak abu-abu** dengan semua sisi tertutup?

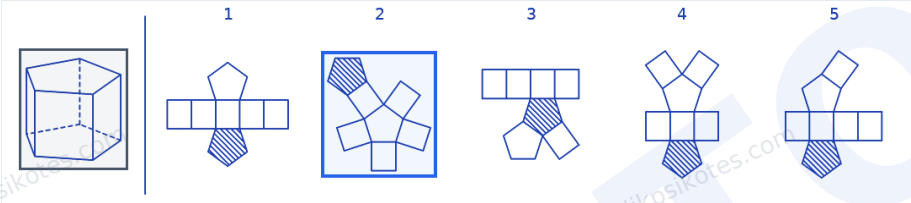

Jawaban Anda: **Betul** · **Benar**

Pembahasan.
Jawabannya **Betul**. Guntingan 2 dapat dilipat menjadi prisma segi lima: setiap bidangnya menutup tepat satu sisi prisma segi lima, dan setiap lipatan mempertemukan sisi-sisi yang sama panjang.

CONTOH

BANGUN RUANG · SOAL 13

Apakah **guntingan bertanda biru** dapat dilipat menjadi **bangun di kotak abu-abu** dengan semua sisi tertutup?

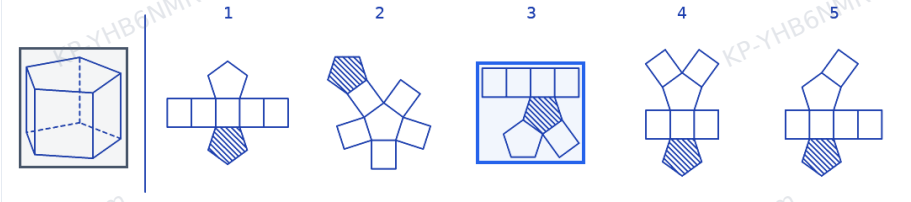

Jawaban Anda: **Betul** · **Kurang tepat** · Jawaban benar: **Salah**

Pembahasan.
Jawabannya **Salah**. Guntingan 3 tidak dapat dilipat menjadi prisma segi lima: bila dilipat, ada bidang yang bertumpuk atau tidak pas dengan sisinya, sehingga ada sisi prisma segi lima yang tetap terbuka.

BANGUN RUANG · SOAL 14

Apakah **guntingan bertanda biru** dapat dilipat menjadi **bangun di kotak abu-abu** dengan semua sisi tertutup?

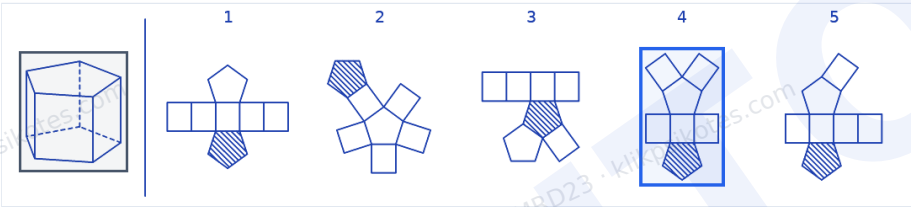

Jawaban Anda: **Salah** · **Kurang tepat** · Jawaban benar: **Betul**

Pembahasan.
Jawabannya **Betul**. Guntingan 4 dapat dilipat menjadi prisma segi lima: setiap bidangnya menutup tepat satu sisi prisma segi lima, dan setiap lipatan mempertemukan sisi-sisi yang sama panjang.

CONTOH

BANGUN RUANG · SOAL 15

Apakah **guntingan bertanda biru** dapat dilipat menjadi **bangun di kotak abu-abu** dengan semua sisi tertutup?

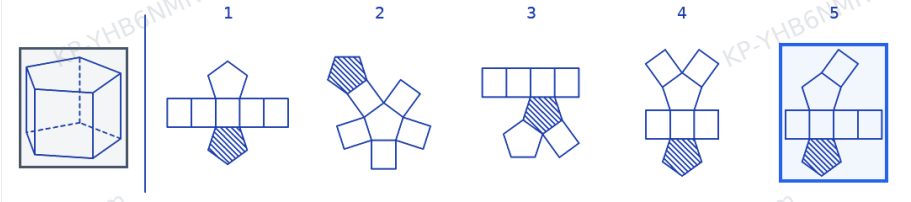

Jawaban Anda: **Salah** · **Benar**

Pembahasan.
Jawabannya **Salah**. Guntingan 5 tidak dapat dilipat menjadi prisma segi lima: bila dilipat, ada bidang yang bertumpuk atau tidak pas dengan sisinya, sehingga ada sisi prisma segi lima yang tetap terbuka.

BANGUN RUANG · SOAL 16

Apakah **guntingan bertanda biru** dapat dilipat menjadi **bangun di kotak abu-abu** dengan semua sisi tertutup?

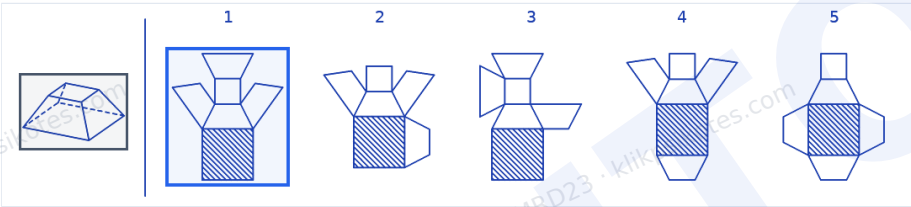

Jawaban Anda: **Salah** · **Kurang tepat** · Jawaban benar: **Betul**

Pembahasan.
Jawabannya **Betul**. Guntingan 1 dapat dilipat menjadi limas terpancung: setiap bidangnya menutup tepat satu sisi limas terpancung, dan setiap lipatan mempertemukan sisi-sisi yang sama panjang.

CONTOH
KP-YHB6NMRD23 · klikpsikotes.com

BANGUN RUANG · SOAL 17

Apakah **guntingan bertanda biru** dapat dilipat menjadi **bangun di kotak abu-abu** dengan semua sisi tertutup?

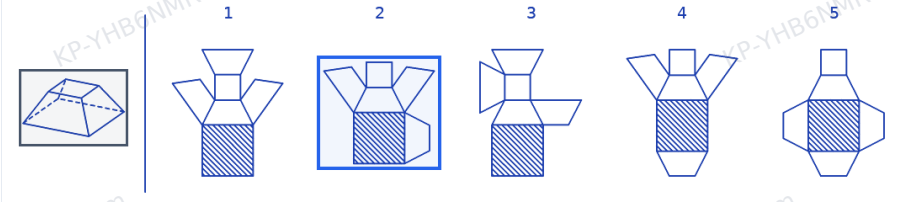

Jawaban Anda: **Salah** · **Benar**

Pembahasan.
Jawabannya **Salah**. Guntingan 2 tidak dapat dilipat menjadi limas terpancung: bila dilipat, ada bidang yang bertumpuk atau tidak pas dengan sisinya, sehingga ada sisi limas terpancung yang tetap terbuka.

BANGUN RUANG · SOAL 18

Apakah **guntingan bertanda biru** dapat dilipat menjadi **bangun di kotak abu-abu** dengan semua sisi tertutup?

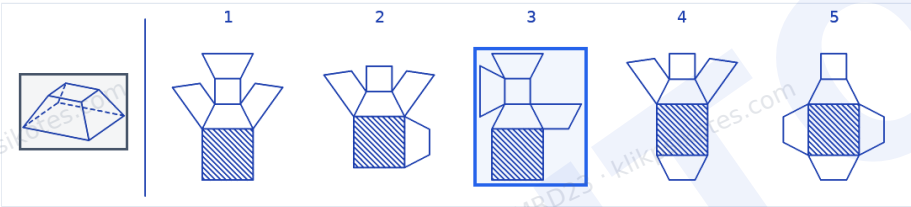

Jawaban Anda: **Salah** · **Benar**

Pembahasan.
Jawabannya **Salah**. Guntingan 3 tidak dapat dilipat menjadi limas terpancung: bila dilipat, ada bidang yang bertumpuk atau tidak pas dengan sisinya, sehingga ada sisi limas terpancung yang tetap terbuka.

BANGUN RUANG · SOAL 19

Apakah **guntingan bertanda biru** dapat dilipat menjadi **bangun di kotak abu-abu** dengan semua sisi tertutup?

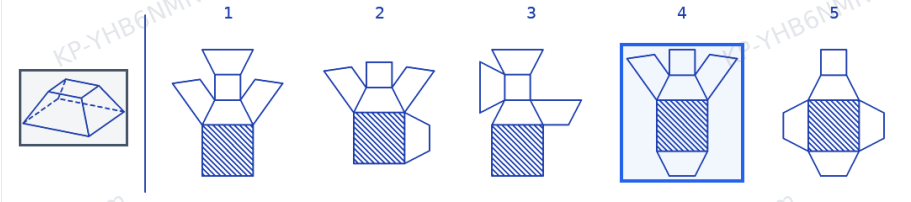

Jawaban Anda: **Betul** · **Benar**

Pembahasan.
Jawabannya **Betul**. Guntingan 4 dapat dilipat menjadi limas terpancung: setiap bidangnya menutup tepat satu sisi limas terpancung, dan setiap lipatan mempertemukan sisi-sisi yang sama panjang.

BANGUN RUANG · SOAL 20

Apakah **guntingan bertanda biru** dapat dilipat menjadi **bangun di kotak abu-abu** dengan semua sisi tertutup?

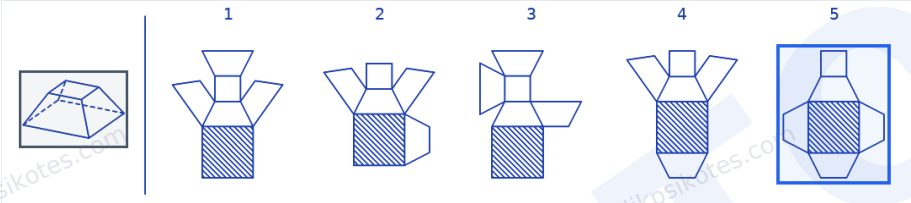

Jawaban Anda: **Betul** · **Benar**

Pembahasan.
Jawabannya **Betul**. Guntingan 5 dapat dilipat menjadi limas terpancung: setiap bidangnya menutup tepat satu sisi limas terpancung, dan setiap lipatan mempertemukan sisi-sisi yang sama panjang.

CONTOH
KP-YHB6NMRD23 · klikpsikotes.com

BANGUN RUANG · SOAL 21

Apakah **guntingan bertanda biru** dapat dilipat menjadi **bangun di kotak abu-abu** dengan semua sisi tertutup?

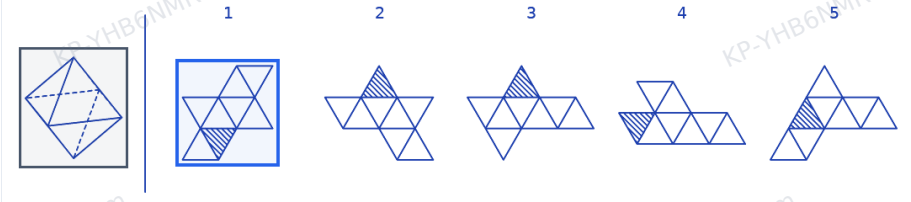

Jawaban Anda: **Salah** · **Kurang tepat** · Jawaban benar: **Betul**

Pembahasan.
Jawabannya **Betul**. Guntingan 1 dapat dilipat menjadi oktahedron: setiap bidangnya menutup tepat satu sisi oktahedron, dan setiap lipatan mempertemukan sisi-sisi yang sama panjang.

BANGUN RUANG · SOAL 22

Apakah **guntingan bertanda biru** dapat dilipat menjadi **bangun di kotak abu-abu** dengan semua sisi tertutup?

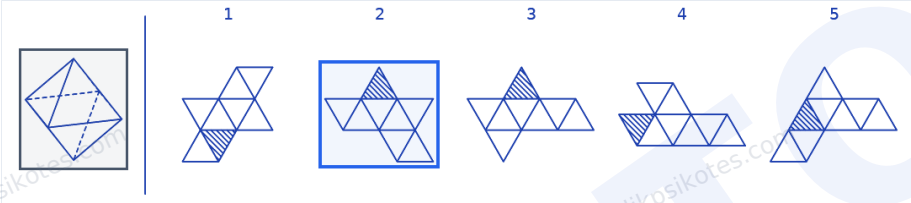

Jawaban Anda: **Salah** · **Kurang tepat** · Jawaban benar: **Betul**

Pembahasan.
Jawabannya **Betul**. Guntingan 2 dapat dilipat menjadi oktahedron: setiap bidangnya menutup tepat satu sisi oktahedron, dan setiap lipatan mempertemukan sisi-sisi yang sama panjang.

CONTOH

BANGUN RUANG · SOAL 23

Apakah **guntingan bertanda biru** dapat dilipat menjadi **bangun di kotak abu-abu** dengan semua sisi tertutup?

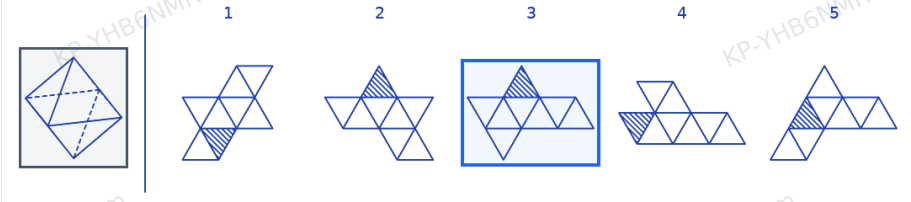

Jawaban Anda: **Betul** · **Benar**

Pembahasan.
Jawabannya **Betul**. Guntingan 3 dapat dilipat menjadi oktahedron: setiap bidangnya menutup tepat satu sisi oktahedron, dan setiap lipatan mempertemukan sisi-sisi yang sama panjang.

BANGUN RUANG · SOAL 24

Apakah **guntingan bertanda biru** dapat dilipat menjadi **bangun di kotak abu-abu** dengan semua sisi tertutup?

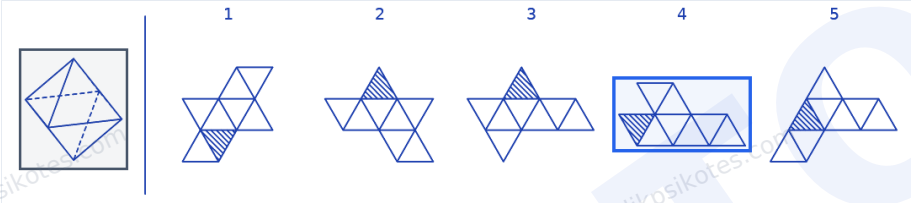

Jawaban Anda: **Salah** · **Benar**

Pembahasan.
Jawabannya **Salah**. Guntingan 4 tidak dapat dilipat menjadi oktahedron: bila dilipat, ada bidang yang bertumpuk atau tidak pas dengan sisinya, sehingga ada sisi oktahedron yang tetap terbuka.

CONTOH

BANGUN RUANG · SOAL 25

Apakah **guntingan bertanda biru** dapat dilipat menjadi **bangun di kotak abu-abu** dengan semua sisi tertutup?

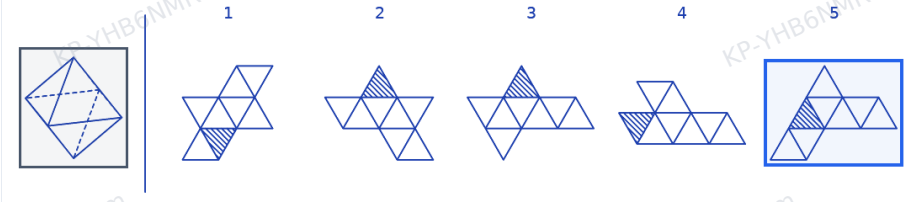

Jawaban Anda: **Salah** · **Benar**

Pembahasan.
Jawabannya **Salah**. Guntingan 5 tidak dapat dilipat menjadi oktahedron: bila dilipat, ada bidang yang bertumpuk atau tidak pas dengan sisinya, sehingga ada sisi oktahedron yang tetap terbuka.

BANGUN RUANG · SOAL 26

Apakah **guntingan bertanda biru** dapat dilipat menjadi **bangun di kotak abu-abu** dengan semua sisi tertutup?

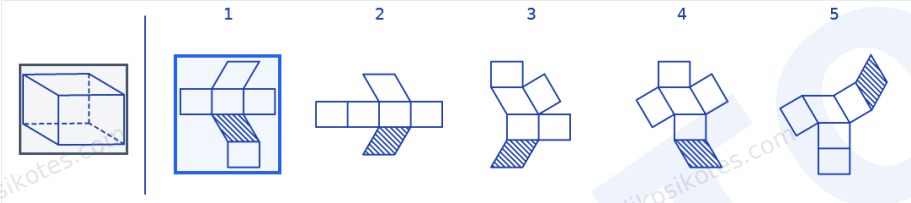

Jawaban Anda: **Betul** · **Benar**

Pembahasan.
Jawabannya **Betul**. Guntingan 1 dapat dilipat menjadi prisma belah ketupat: setiap bidangnya menutup tepat satu sisi prisma belah ketupat, dan setiap lipatan mempertemukan sisi-sisi yang sama panjang.

CONTOH

BANGUN RUANG · SOAL 27

Apakah **guntingan bertanda biru** dapat dilipat menjadi **bangun di kotak abu-abu** dengan semua sisi tertutup?

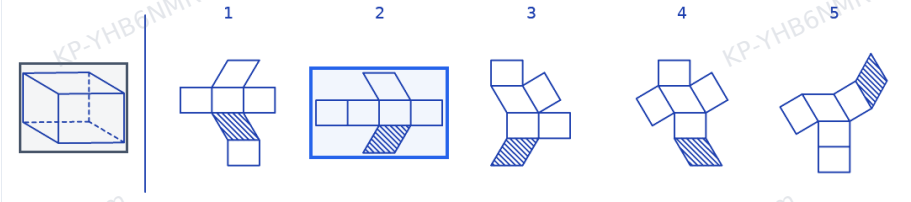

Jawaban Anda: **Betul** · **Benar**

Pembahasan.
Jawabannya **Betul**. Guntingan 2 dapat dilipat menjadi prisma belah ketupat: setiap bidangnya menutup tepat satu sisi prisma belah ketupat, dan setiap lipatan mempertemukan sisi-sisi yang sama panjang.

BANGUN RUANG · SOAL 28

Apakah **guntingan bertanda biru** dapat dilipat menjadi **bangun di kotak abu-abu** dengan semua sisi tertutup?

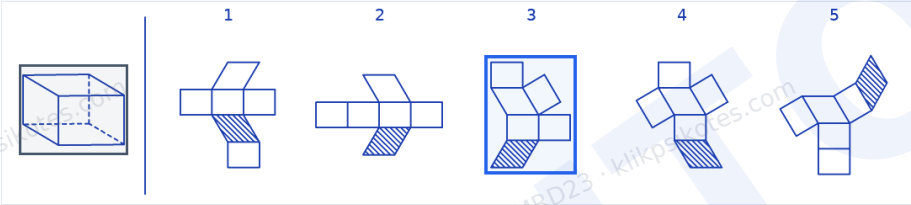

Jawaban Anda: **Salah** · **Benar**

Pembahasan.
Jawabannya **Salah**. Guntingan 3 tidak dapat dilipat menjadi prisma belah ketupat: bila dilipat, ada bidang yang bertumpuk atau tidak pas dengan sisinya, sehingga ada sisi prisma belah ketupat yang tetap terbuka.

CONTOH

BANGUN RUANG · SOAL 29

Apakah **guntingan bertanda biru** dapat dilipat menjadi **bangun di kotak abu-abu** dengan semua sisi tertutup?

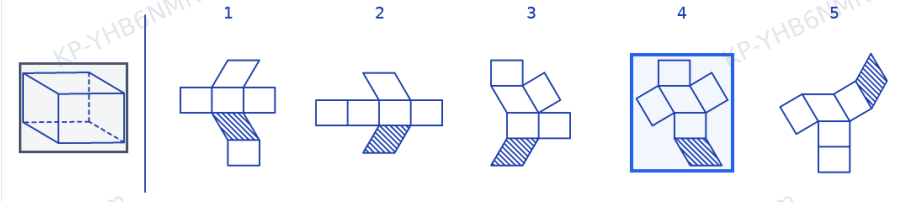

Jawaban Anda: **Salah** · **Benar**

Pembahasan.
Jawabannya **Salah**. Guntingan 4 tidak dapat dilipat menjadi prisma belah ketupat: bila dilipat, ada bidang yang bertumpuk atau tidak pas dengan sisinya, sehingga ada sisi prisma belah ketupat yang tetap terbuka.

BANGUN RUANG · SOAL 30

Apakah **guntingan bertanda biru** dapat dilipat menjadi **bangun di kotak abu-abu** dengan semua sisi tertutup?

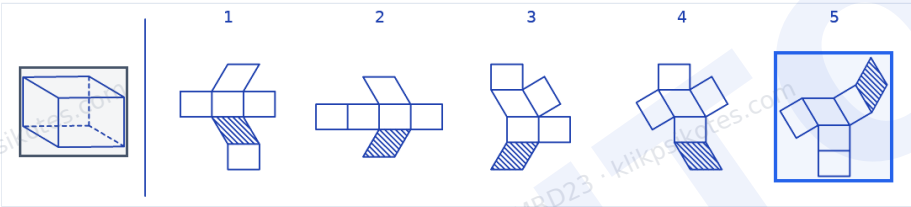

Jawaban Anda: **Salah** · **Benar**

Pembahasan.
Jawabannya **Salah**. Guntingan 5 tidak dapat dilipat menjadi prisma belah ketupat: bila dilipat, ada bidang yang bertumpuk atau tidak pas dengan sisinya, sehingga ada sisi prisma belah ketupat yang tetap terbuka.

CONTOH

BANGUN RUANG · SOAL 31

Apakah **guntingan bertanda biru** dapat dilipat menjadi **bangun di kotak abu-abu** dengan semua sisi tertutup?

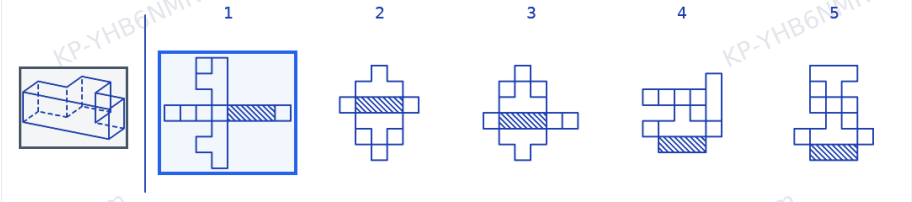

Jawaban Anda: **Salah** · **Kurang tepat** · Jawaban benar: **Betul**

Pembahasan.
Jawabannya **Betul**. Guntingan 1 dapat dilipat menjadi prisma huruf T: setiap bidangnya menutup tepat satu sisi prisma huruf T, dan setiap lipatan mempertemukan sisi-sisi yang sama panjang.

BANGUN RUANG · SOAL 32

Apakah **guntingan bertanda biru** dapat dilipat menjadi **bangun di kotak abu-abu** dengan semua sisi tertutup?

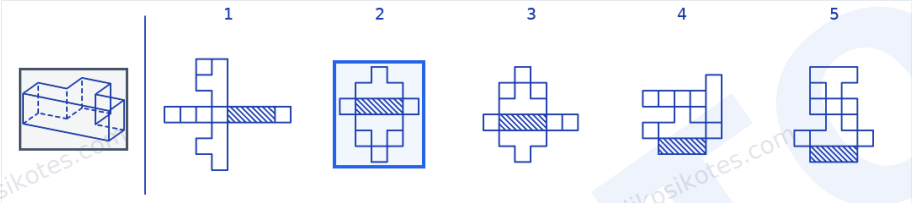

Jawaban Anda: **Betul** · **Benar**

Pembahasan.
Jawabannya **Betul**. Guntingan 2 dapat dilipat menjadi prisma huruf T: setiap bidangnya menutup tepat satu sisi prisma huruf T, dan setiap lipatan mempertemukan sisi-sisi yang sama panjang.

CONTOH

BANGUN RUANG · SOAL 33

Apakah **guntingan bertanda biru** dapat dilipat menjadi **bangun di kotak abu-abu** dengan semua sisi tertutup?

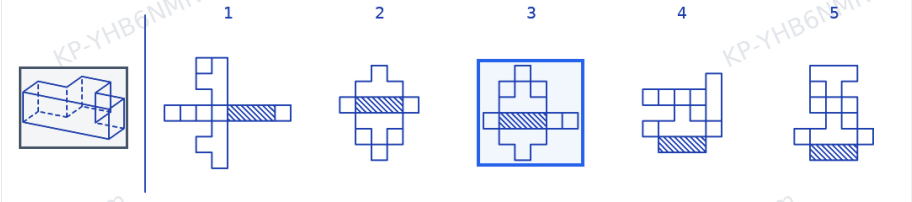

Jawaban Anda: **Betul** · **Benar**

Pembahasan.
Jawabannya **Betul**. Guntingan 3 dapat dilipat menjadi prisma huruf T: setiap bidangnya menutup tepat satu sisi prisma huruf T, dan setiap lipatan mempertemukan sisi-sisi yang sama panjang.

BANGUN RUANG · SOAL 34

Apakah **guntingan bertanda biru** dapat dilipat menjadi **bangun di kotak abu-abu** dengan semua sisi tertutup?

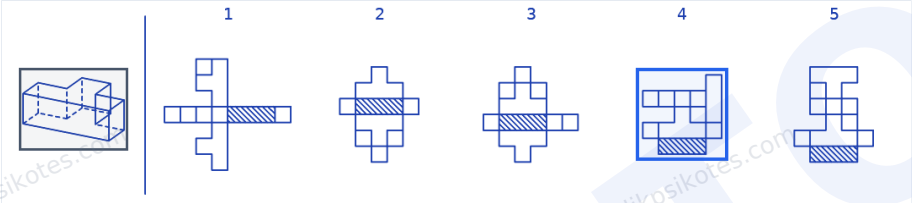

Jawaban Anda: **Salah** · **Benar**

Pembahasan.
Jawabannya **Salah**. Guntingan 4 tidak dapat dilipat menjadi prisma huruf T: bila dilipat, ada bidang yang bertumpuk atau tidak pas dengan sisinya, sehingga ada sisi prisma huruf T yang tetap terbuka.

CONTOH

BANGUN RUANG · SOAL 35

Apakah **guntingan bertanda biru** dapat dilipat menjadi **bangun di kotak abu-abu** dengan semua sisi tertutup?

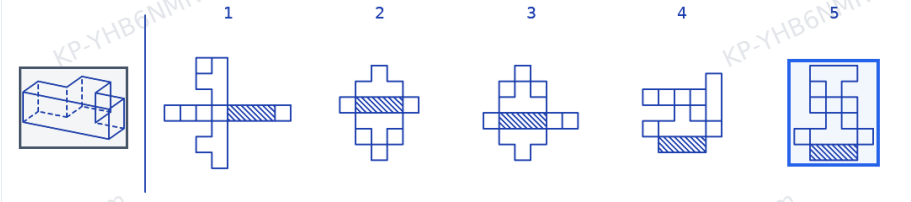

Jawaban Anda: **Salah** · **Benar**

Pembahasan.
Jawabannya **Salah**. Guntingan 5 tidak dapat dilipat menjadi prisma huruf T: bila dilipat, ada bidang yang bertumpuk atau tidak pas dengan sisinya, sehingga ada sisi prisma huruf T yang tetap terbuka.

BANGUN RUANG · SOAL 36

Apakah **guntingan bertanda biru** dapat dilipat menjadi **bangun di kotak abu-abu** dengan semua sisi tertutup?

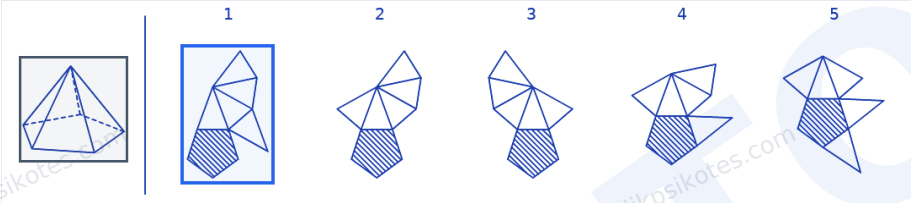

Jawaban Anda: **Salah** · **Benar**

Pembahasan.
Jawabannya **Salah**. Guntingan 1 tidak dapat dilipat menjadi limas segi lima: bila dilipat, ada bidang yang bertumpuk atau tidak pas dengan sisinya, sehingga ada sisi limas segi lima yang tetap terbuka.

CONTOH

BANGUN RUANG · SOAL 37

Apakah **guntingan bertanda biru** dapat dilipat menjadi **bangun di kotak abu-abu** dengan semua sisi tertutup?

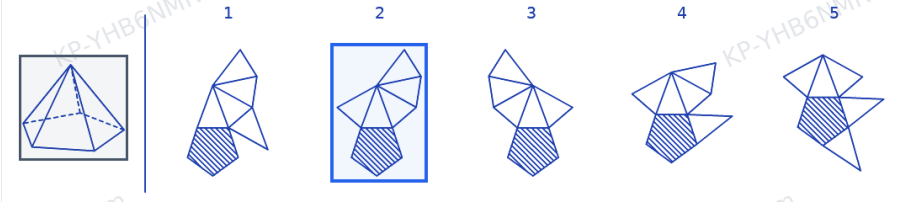

Jawaban Anda: **Betul** · **Benar**

Pembahasan.
Jawabannya **Betul**. Guntingan 2 dapat dilipat menjadi limas segi lima: setiap bidangnya menutup tepat satu sisi limas segi lima, dan setiap lipatan mempertemukan sisi-sisi yang sama panjang.

BANGUN RUANG · SOAL 38

Apakah **guntingan bertanda biru** dapat dilipat menjadi **bangun di kotak abu-abu** dengan semua sisi tertutup?

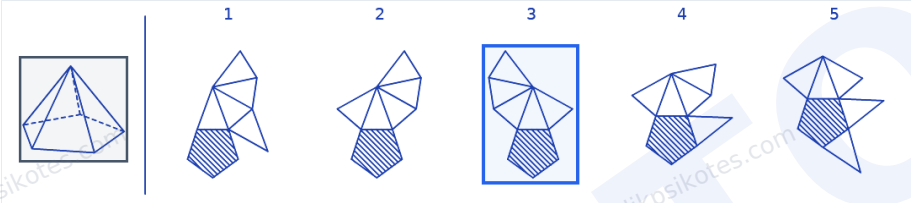

Jawaban Anda: **Betul** · **Benar**

Pembahasan.
Jawabannya **Betul**. Guntingan 3 dapat dilipat menjadi limas segi lima: setiap bidangnya menutup tepat satu sisi limas segi lima, dan setiap lipatan mempertemukan sisi-sisi yang sama panjang.

CONTOH

BANGUN RUANG · SOAL 39

Apakah **guntingan bertanda biru** dapat dilipat menjadi **bangun di kotak abu-abu** dengan semua sisi tertutup?

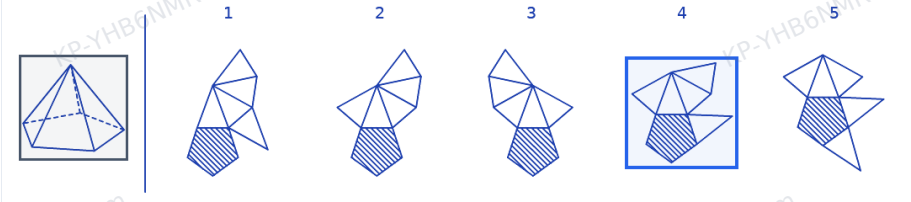

Jawaban Anda: **Salah** · **Benar**

Pembahasan.
Jawabannya **Salah**. Guntingan 4 tidak dapat dilipat menjadi limas segi lima: bila dilipat, ada bidang yang bertumpuk atau tidak pas dengan sisinya, sehingga ada sisi limas segi lima yang tetap terbuka.

BANGUN RUANG · SOAL 40

Apakah **guntingan bertanda biru** dapat dilipat menjadi **bangun di kotak abu-abu** dengan semua sisi tertutup?

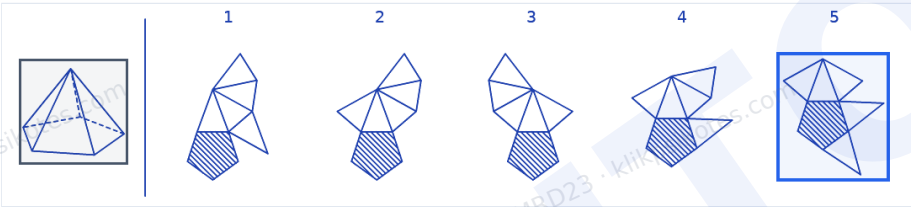

Jawaban Anda: **Salah** · **Benar**

Pembahasan.
Jawabannya **Salah**. Guntingan 5 tidak dapat dilipat menjadi limas segi lima: bila dilipat, ada bidang yang bertumpuk atau tidak pas dengan sisinya, sehingga ada sisi limas segi lima yang tetap terbuka.

07 Catatan dan keabsahan

Dasar perhitungan dan batas penggunaan laporan.

Laporan ini disusun otomatis dari jawaban peserta pada Latihan Tes Bangun Ruang (model TIU 6). Skor dihitung otomatis dengan norma tiu6-skala, dan dapat dipakai sebagai bahan belajar dan refleksi diri. Laporan ini bukan hasil asesmen psikologis resmi dan tidak menggantikan pemeriksaan oleh psikolog berizin.

No. laporan KP-YHB6NMRD23
Dihasilkan oleh KlikPsikotes pada 29 Oktober 2026, 05.07 WIB.
Sebutkan nomor ini bila perlu menanyakan laporan.

Latihan lagi?
Tes lain dan laporan lengkap ada di **klikpsikotes.com**

CONTOH
KP-YHB6NMRD23 · klikpsikotes.com