KlikPsikotes

No. laporan
**KP-FZN3GM707M**

LAPORAN HASIL TES

# Tes Penalaran Gambar (model CFIT 3A)

Tes kognitif

**CONTOH · peserta fiktif**

DISUSUN UNTUK

## Peserta Contoh

| TANGGAL TES | MODE | SOAL TERJAWAB |
|---|---|---|
| **28 Oktober 2026** | **Latihan** | **50 dari 50** |

# Tentang laporan ini

Untuk siapa laporan ini dan cara membacanya.

Terima kasih telah mengerjakan **Tes Penalaran Gambar (model CFIT 3A)**. Laporan ini merangkum hasil Anda: skor, kategorinya, dan penjelasan setiap aspek. Skor dihitung otomatis dari jawaban Anda dengan kunci dan norma dari sumber tes.

### IDENTITAS PESERTA

| | |
|---|---|
| Nama lengkap<br>**Peserta Contoh** | Email<br>**peserta.contoh@example.com** |
| Usia saat tes<br>**26 tahun** | Jenis kelamin<br>**Perempuan** |
| Pendidikan terakhir<br>**Sarjana (D4/S1)** | Tes<br>**Tes Penalaran Gambar (model CFIT 3A) (CFIT3A)** |
| Waktu selesai<br>**28 Oktober 2026, 03.50 WIB** | Lama pengerjaan<br>**10 menit 37 detik** |
| Soal terjawab<br>**50 dari 50 soal** | |

### CARA MEMBACA LAPORAN

1. **Mulai dari ringkasan**
   Hasil utama dan kategorinya.
2. **Skor baku dan mentah**
   Baku dibandingkan norma; mentah adalah jumlah jawaban yang dinilai.
3. **Kategori**
   Posisi skor pada pita dari sumber tes.
4. **Gambaran saat ini**
   Kondisi saat tes, bukan label permanen.

## Isi laporan

01 Ringkasan hasil
02 Rincian skor
03 Interpretasi per aspek
04 Analisis Coach AI
05 Rekap jawaban
06 Pembahasan soal
07 Catatan dan keabsahan

CONTOH
KP-FZN3GM707M · klikpsikotes.com

## 01 Ringkasan hasil

Hasil utama dan apa artinya secara singkat.

PERKIRAAN IQ (USIA 17+)

**133**

Superior

**33 dari 50** soal dijawab benar.

RINGKASAN

Benar 33 dari 50 soal, perkiraan IQ (usia 17+) 133 (Superior).

## 02 Rincian skor

Skor setiap aspek beserta kategorinya.

| ASPEK | SKOR | KATEGORI |
|---|---|---|
| Penalaran gambar | **133**<br>mentah 33 | Superior |

## 03 Interpretasi per aspek

Penjelasan tiap aspek menurut pita skor.

### Penalaran gambar

Superior · skor 133

IQ 120–139 (kategori sumber: Superior).

CONTOH

## 04 Analisis Coach AI

Kekuatan, hal yang bisa dikembangkan, dan rencana latihan.

### CFIT 3A: skor standar 133, kategori Superior pada latihan penalaran gambar

| SKOR STANDAR | KATEGORI | JAWABAN |
|---|---|---|
| 133 (perkiraan IQ usia 17+) | Superior menurut norma tes | 33 benar dari 50 soal |

Pada latihan CFIT 3A, skor penalaran gambar Anda masuk kategori Superior menurut norma yang digunakan. Data ini tidak merinci jenis soal yang benar atau keliru, jadi belum menunjukkan pola kekuatan dan area berkembang yang lebih spesifik.

**Kekuatan Anda**

**Penalaran gambar**

Skor standar 133 berada dalam rentang kategori Superior pada hasil ini. Ini menunjukkan performa kuat pada latihan penalaran gambar.

**Menuntaskan soal**

Anda menjawab seluruh 50 soal dalam 11 menit, tanpa waktu habis.

**Bisa dikembangkan**

**Tinjau jawaban keliru**

Ada 17 jawaban yang tidak benar, tetapi data tidak merinci soal atau pola yang perlu diperbaiki.

Coba: Saat berlatih lagi, catat pola gambar yang membuat Anda ragu dan alasan memilih jawaban.

**Perluas variasi pola**

Latihan ini hanya memberi satu skor gabungan penalaran gambar, tanpa rincian jenis soal.

Coba: Latih analogi gambar dan jelaskan perubahan pola sebelum memilih jawaban.

### Rencana latihan 7 hari

**Hari 1** Ulangi latihan CFIT 3A dengan tenang, lalu catat pola soal yang terasa sulit. **Buka tes ›**

**Hari 2–3** Kerjakan Tes Analogi Gambar untuk melatih pengenalan perubahan dari A ke B dan menerapkannya pada C. **Buka tes ›**

**Hari 4–5** Latih Tes Matriks Progresif dengan membaca perubahan gambar secara berurutan sebelum memilih potongan. **Buka tes ›**

**Hari 6–7** Kerjakan kembali CFIT 3A dan bandingkan catatan pola sulit serta ketepatan jawaban dengan latihan sebelumnya. **Buka tes ›**

Ini adalah hasil latihan, bukan penilaian psikologis resmi atau kesimpulan tentang kelayakan kerja. Analisis ini dibuat dengan bantuan AI dari skor di atas, bukan oleh psikolog.

## 05 Rekap jawaban

Benar dan salah untuk setiap soal.

Benar | Salah atau kosong

| | | | | | | | | | |
|---|---|---|---|---|---|---|---|---|---|
| 1 | 2 | 3 | 4 | 5 | 6 | 7 | 8 | 9 | 10 |
| 11 | 12 | 13 | 14 | 15 | 16 | 17 | 18 | 19 | 20 |
| 21 | 22 | 23 | 24 | 25 | 26 | 27 | 28 | 29 | 30 |
| 31 | 32 | 33 | 34 | 35 | 36 | 37 | 38 | 39 | 40 |
| 41 | 42 | 43 | 44 | 45 | 46 | 47 | 48 | 49 | 50 |

CONTOH

## 06 Pembahasan soal

Jawaban benar dan pembahasan yang disetujui.

**TES 1: DERET GAMBAR · SOAL 1**

Tes 1, soal 1.



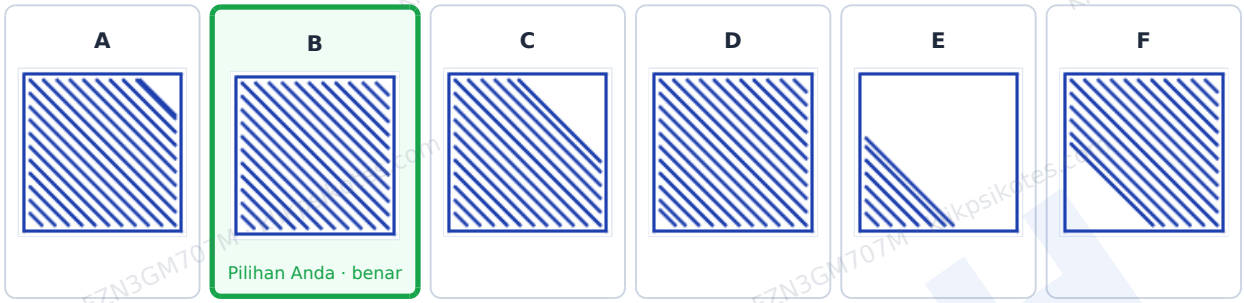


Jawaban Anda: **B** · **Benar**

**Pembahasan.**

Arsiran tumbuh dari sudut kiri bawah dan makin luas pada setiap gambar, sementara bagian kosongnya makin kecil. Langkah berikutnya menutup seluruh kotak, jadi jawabannya **b**. Pilihan lain masih menyisakan bagian kosong atau tumbuh dari sudut lain.

CONTOH

### TES 1: DERET GAMBAR · SOAL 2

Tes 1, soal 2.

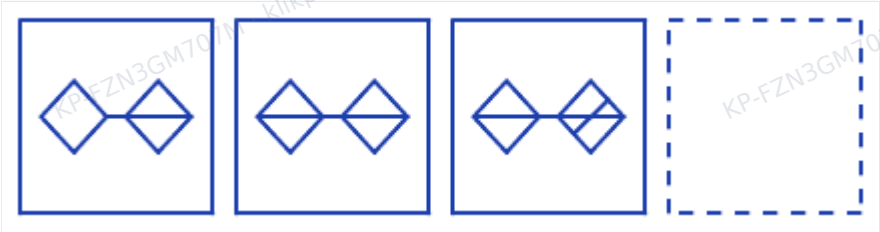

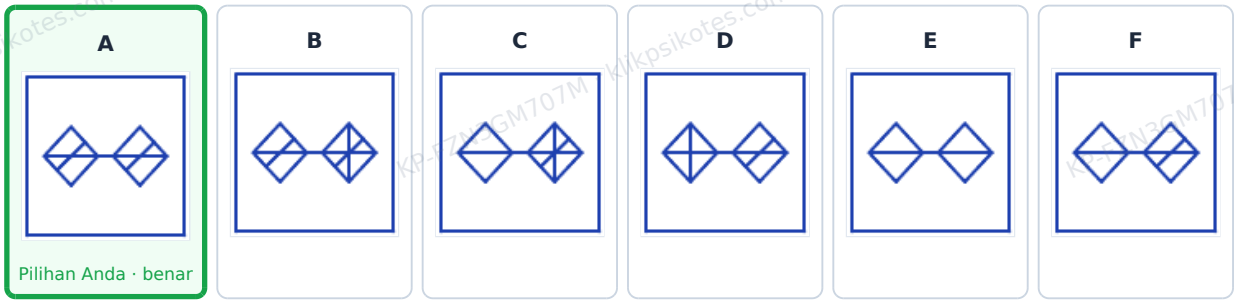


Jawaban Anda: **A** · **Benar**

**Pembahasan.**
Garis ditambahkan satu per satu secara bergantian: garis mendatar di bentuk kanan, garis mendatar di bentuk kiri, lalu garis miring kanan di bentuk kanan. Berikutnya garis miring kanan di bentuk kiri, sehingga kedua bentuk sama-sama berisi garis mendatar dan miring kanan. Itu pilihan **a**. Pilihan lain kurang satu garis, garisnya berbeda, atau garisnya di bentuk yang salah.

CONTOH

**TES 1: DERET GAMBAR · SOAL 3**

Tes 1, soal 3.

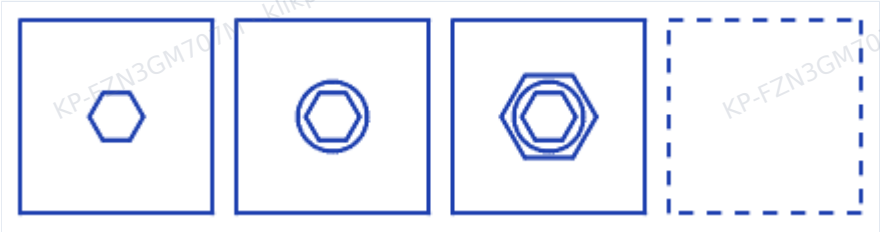

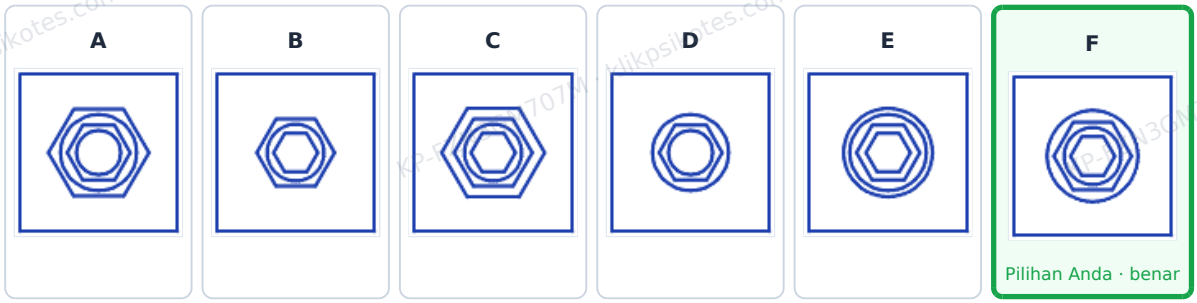


Jawaban Anda: **F** · **Benar**

**Pembahasan.**
Setiap gambar menambah satu bentuk baru di luar bentuk sebelumnya, bergantian segi enam dan lingkaran, dengan segi enam di bagian paling dalam. Bentuk ketiga adalah segi enam, jadi yang keempat adalah lingkaran di paling luar: pilihan **f**. Pilihan lain urutannya salah, jumlahnya kurang, atau bentuk terluarnya keliru.

CONTOH

**TES 1: DERET GAMBAR · SOAL 4**

Tes 1, soal 4.

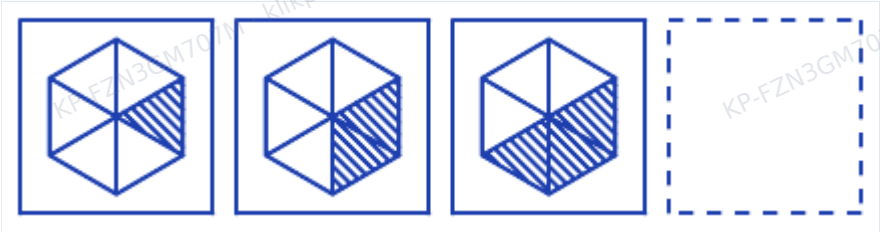

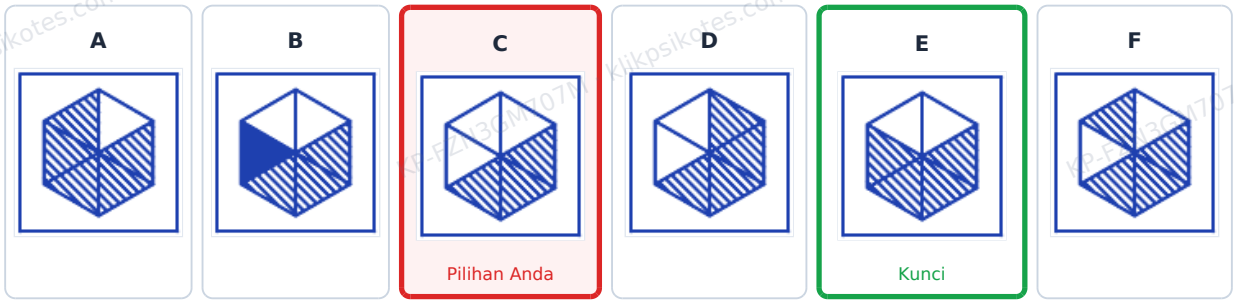


Jawaban Anda: **C** · **Kurang tepat** · Jawaban benar: **E**

**Pembahasan.**
Pada setiap gambar, bagian yang diarsir bertambah satu, berurutan **searah jarum jam**. Gambar ketiga berisi tiga bagian berarsir, jadi berikutnya empat bagian berarsir berurutan, dengan bagian baru tepat di sebelah bagian terakhir: pilihan **e**. Pilihan lain jumlahnya salah, ada bagian yang terlewat, bagian barunya di arah lain, atau bagian barunya hitam pekat, bukan diarsir.

CONTOH

**TES 1: DERET GAMBAR · SOAL 5**

Tes 1, soal 5.

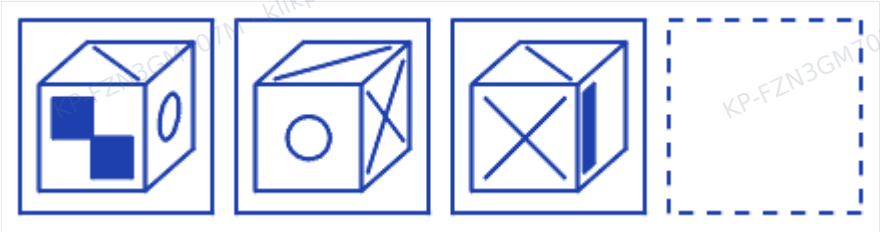

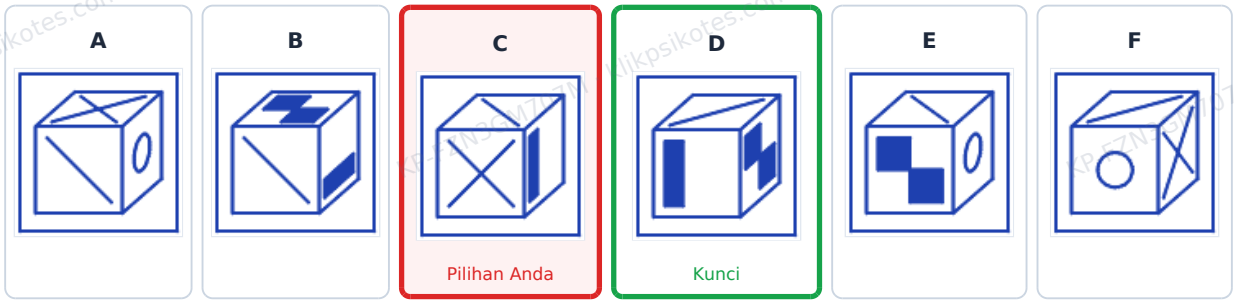


Jawaban Anda: **C** · **Kurang tepat** · Jawaban benar: **D**

**Pembahasan.**
Kubus berputar seperempat putaran ke kiri pada sumbu tegaknya di setiap gambar: sisi depan berpindah ke samping dan sisi baru muncul di depan, sedangkan sisi atas ikut berputar di tempat. Putaran berikutnya menghasilkan pilihan **d**. Pilihan lain belum berputar, berputar ke arah sebaliknya, atau kubusnya terguling ke depan.

CONTOH

**TES 1: DERET GAMBAR · SOAL 6**

Tes 1, soal 6.

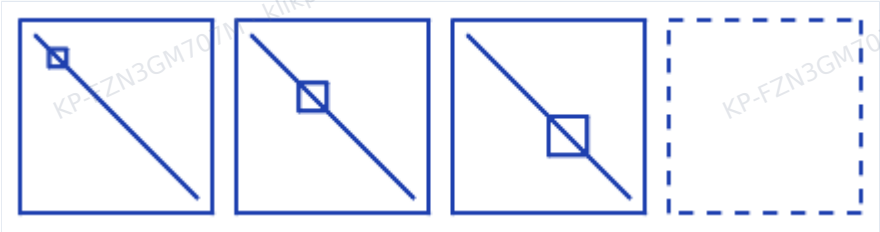

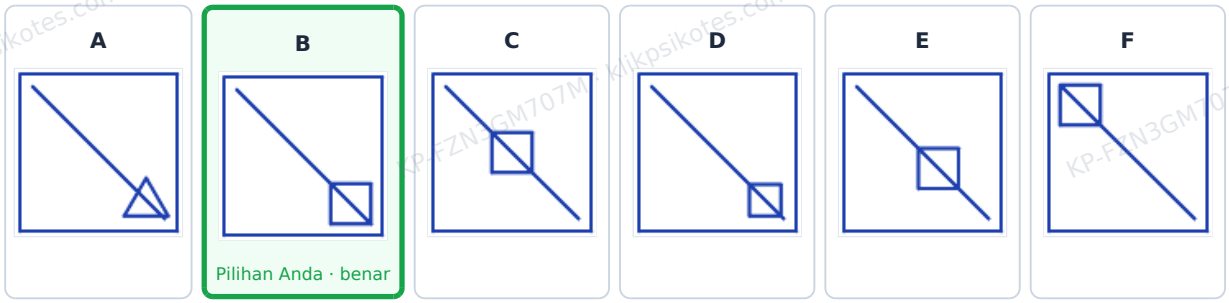


Jawaban Anda: **B** · **Benar**

**Pembahasan.**
Bentuk bergerak sepanjang garis miring dari kiri atas ke kanan bawah, selangkah lebih jauh dan sedikit lebih besar pada setiap gambar. Berikutnya ia berada di ujung garis dengan ukuran terbesar: pilihan **b**. Pilihan lain ukurannya tidak bertambah, letaknya tidak maju, atau bentuknya berubah.

CONTOH

**TES 1: DERET GAMBAR · SOAL 7**

Tes 1, soal 7.

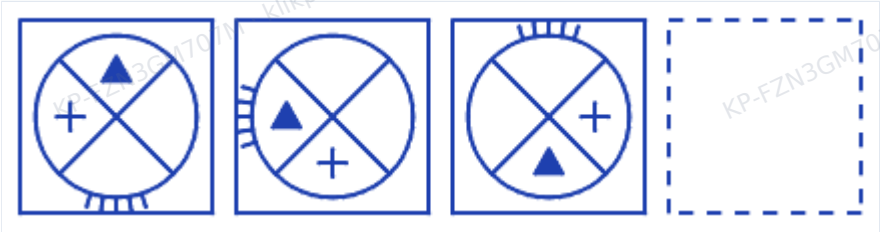

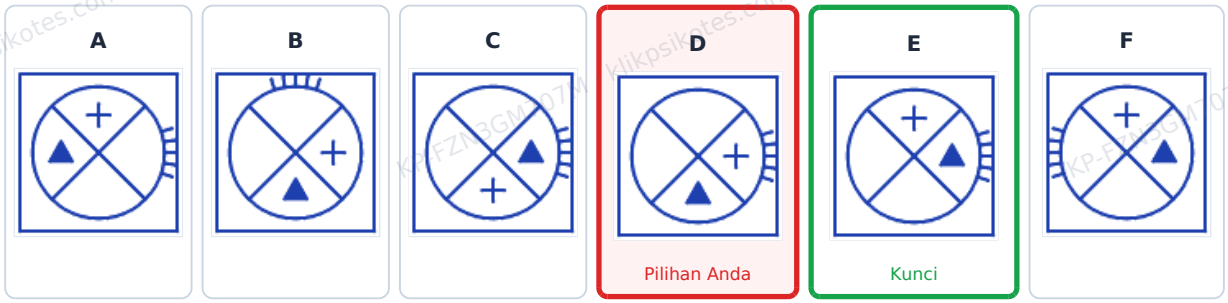


Jawaban Anda: **D** · **Kurang tepat** · Jawaban benar: **E**

**Pembahasan.**
Ketiga tanda berpindah satu tempat pada setiap gambar: segitiga dan tanda tambah di dalam lingkaran bergerak berlawanan arah jarum jam, sedangkan gerigi di tepi lingkaran bergerak searah jarum jam. Langkah berikutnya: segitiga di kanan, tanda tambah di atas, dan gerigi di kanan, yaitu pilihan **e**. Pilihan lain ada tanda yang tidak berpindah atau bergerak ke arah yang salah.

CONTOH

### TES 1: DERET GAMBAR · SOAL 8

Tes 1, soal 8.

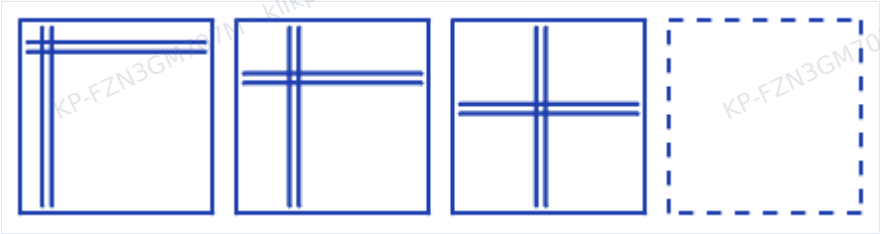

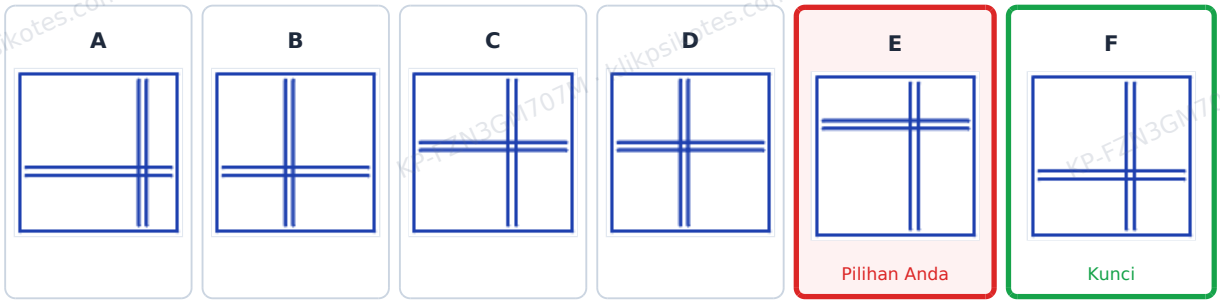


Jawaban Anda: **E** · **Kurang tepat** · Jawaban benar: **F**

**Pembahasan.**
Garis ganda tegak bergeser ke kanan dan garis ganda mendatar bergeser ke bawah, sama jauhnya pada setiap gambar. Setelah satu langkah lagi keduanya berada di pilihan **f**. Pilihan lain ada garis yang tidak bergeser, bergeser terlalu jauh, atau mundur.

CONTOH

**TES 1: DERET GAMBAR · SOAL 9**

Tes 1, soal 9.

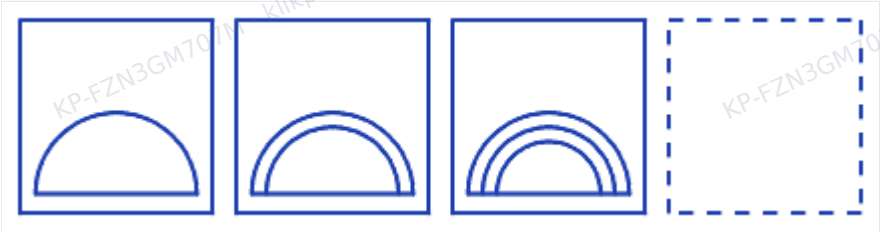

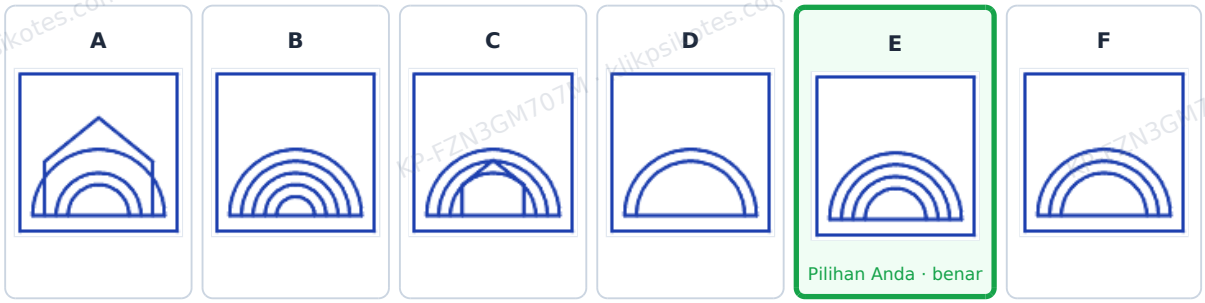


Jawaban Anda: **E** · **Benar**

**Pembahasan.**
Setiap gambar menambah satu setengah lingkaran yang lebih kecil di dalam setengah lingkaran sebelumnya, semuanya berdiri pada alas yang sama: satu, dua, lalu tiga. Berikutnya empat setengah lingkaran: pilihan **e**. Pilihan lain jumlahnya salah atau salah satu bentuknya berbeda.

CONTOH

### TES 1: DERET GAMBAR · SOAL 10

Tes 1, soal 10.

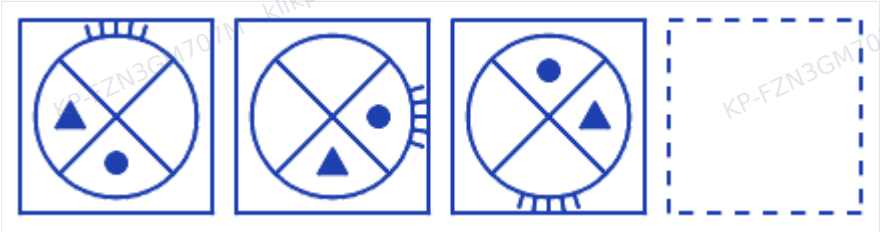

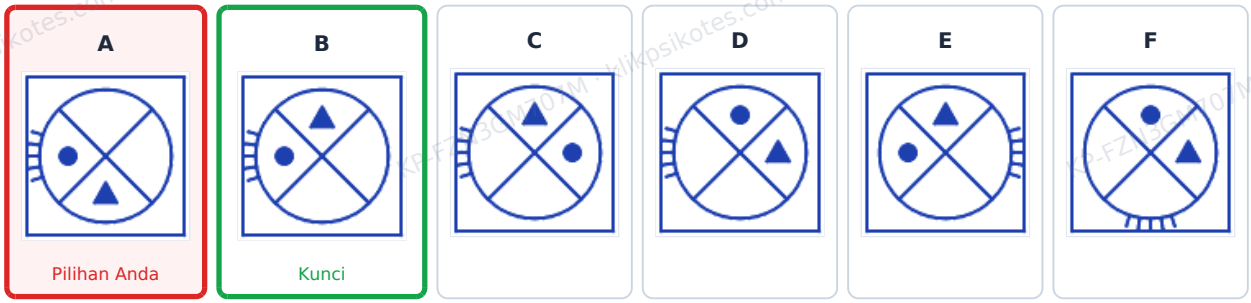


Jawaban Anda: **A** · **Kurang tepat** · Jawaban benar: **B**

**Pembahasan.**
Ketiga tanda berpindah satu tempat pada setiap gambar: bulatan dan segitiga di dalam lingkaran bergerak berlawanan arah jarum jam, sedangkan gerigi di tepi lingkaran bergerak searah jarum jam. Langkah berikutnya: bulatan di kiri, segitiga di atas, dan gerigi di kiri, yaitu pilihan **b**. Pilihan lain ada tanda yang tidak berpindah atau bergerak ke arah yang salah.

CONTOH

### TES 1: DERET GAMBAR · SOAL 11

Tes 1, soal 11.

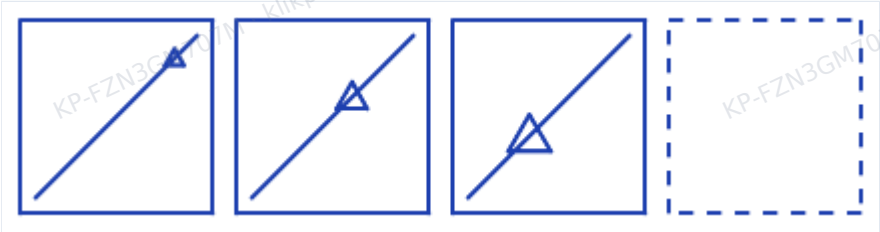

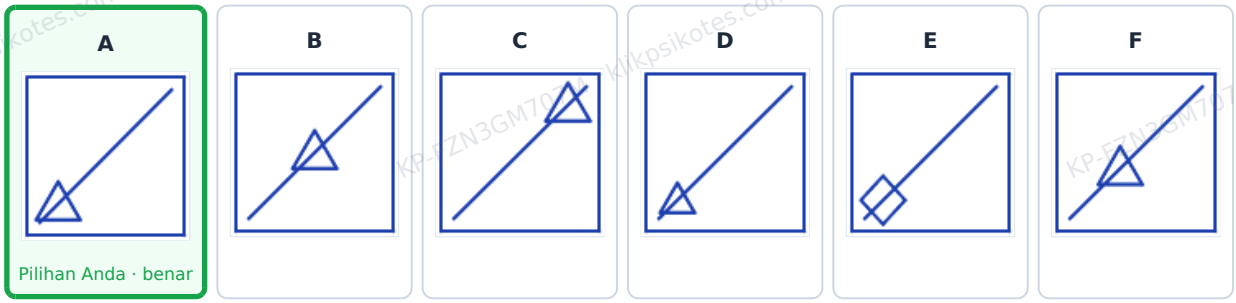


Jawaban Anda: **A** · **Benar**

**Pembahasan.**
Bentuk bergerak sepanjang garis miring dari kanan atas ke kiri bawah, selangkah lebih jauh dan sedikit lebih besar pada setiap gambar. Berikutnya ia berada di ujung garis dengan ukuran terbesar: pilihan **a**. Pilihan lain ukurannya tidak bertambah, letaknya tidak maju, atau bentuknya berubah.

CONTOH

**TES 1: DERET GAMBAR · SOAL 12**

Tes 1, soal 12.

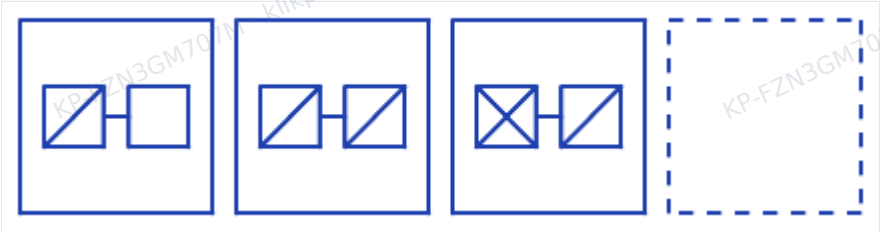

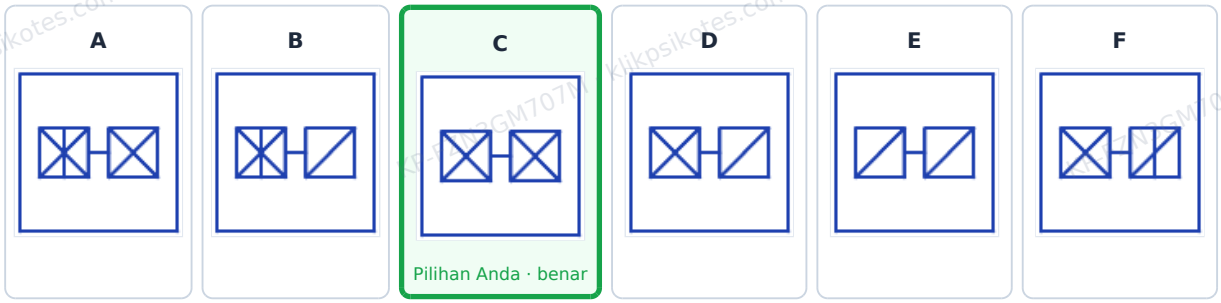


Jawaban Anda: **C** · **Benar**

**Pembahasan.**
Garis ditambahkan satu per satu secara bergantian: garis miring kanan di bentuk kiri, garis miring kanan di bentuk kanan, lalu garis miring kiri di bentuk kiri. Berikutnya garis miring kiri di bentuk kanan, sehingga kedua bentuk sama-sama berisi garis miring kanan dan miring kiri. Itu pilihan **c**. Pilihan lain kurang satu garis, garisnya berbeda, atau garisnya di bentuk yang salah.

CONTOH

**TES 1: DERET GAMBAR · SOAL 13**

Tes 1, soal 13.

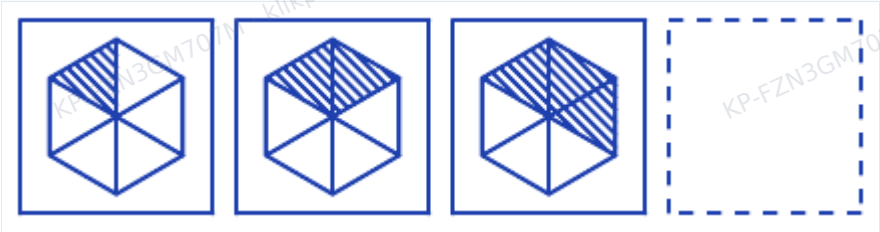

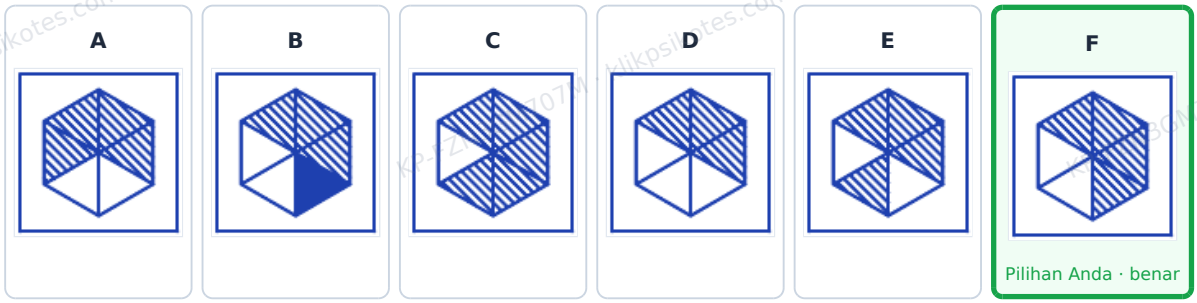


Jawaban Anda: **F** · **Benar**

**Pembahasan.**
Pada setiap gambar, bagian yang diarsir bertambah satu, berurutan **searah jarum jam**. Gambar ketiga berisi tiga bagian berarsir, jadi berikutnya empat bagian berarsir berurutan, dengan bagian baru tepat di sebelah bagian terakhir: pilihan **f**. Pilihan lain jumlahnya salah, ada bagian yang terlewat, bagian barunya di arah lain, atau bagian barunya hitam pekat, bukan diarsir.

CONTOH

### TES 2: GAMBAR YANG BERBEDA · SOAL 14

Tes 2, soal 1.

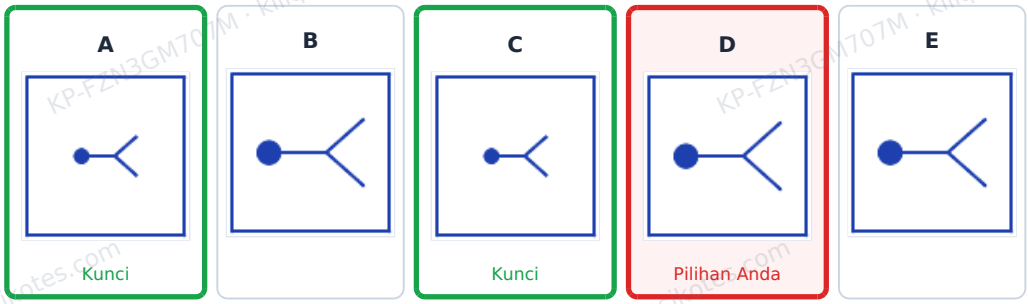


Jawaban Anda: **D** · **Kurang tepat** · Jawaban benar: **A dan C**

**Pembahasan.**
Kelima gambar berbentuk sama, tetapi gambar **a dan c** jauh lebih kecil daripada tiga gambar lainnya yang berukuran sama. Jadi yang berbeda adalah ukurannya.

### TES 2: GAMBAR YANG BERBEDA · SOAL 15

Tes 2, soal 2.

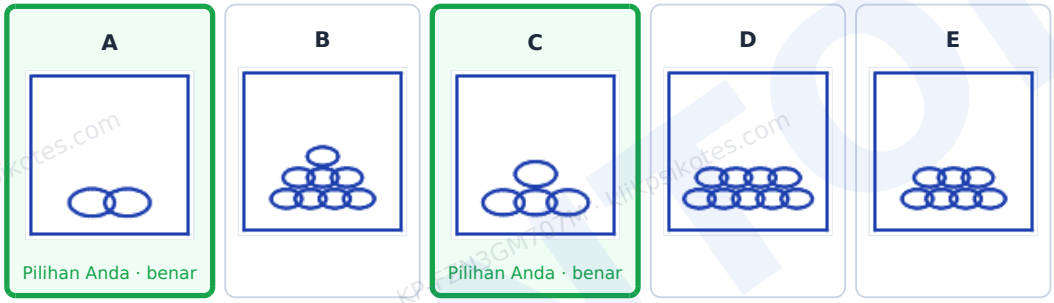


Jawaban Anda: **A dan C** · **Benar**

**Pembahasan.**
Gambar **a dan c** hanya berisi sedikit elips, sedangkan tiga gambar lainnya berisi tumpukan elips yang jauh lebih banyak.

### TES 2: GAMBAR YANG BERBEDA · SOAL 16

Tes 2, soal 3.

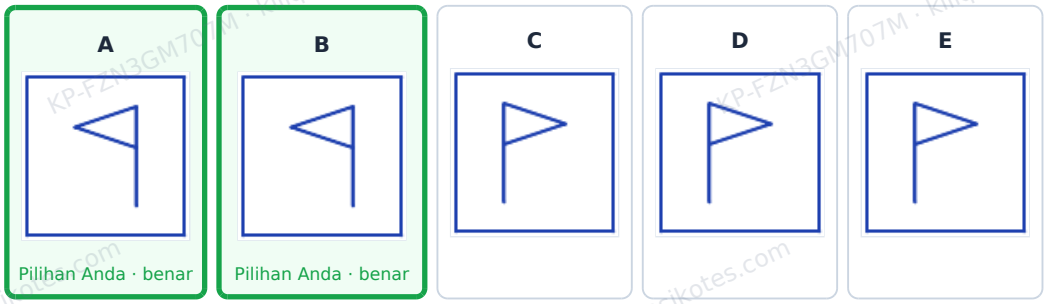


Jawaban Anda: **A dan B** · **Benar**

**Pembahasan.**
Gambar **a dan b** adalah cerminan kiri-kanan dari tiga gambar lainnya: bentuknya sama, tetapi menghadap ke arah sebaliknya.

### TES 2: GAMBAR YANG BERBEDA · SOAL 17

Tes 2, soal 4.

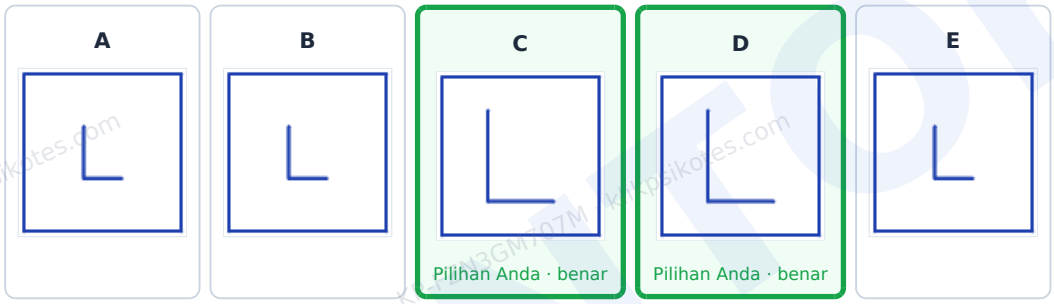


Jawaban Anda: **C dan D** · **Benar**

**Pembahasan.**
Kelima gambar berbentuk sama, tetapi gambar **c dan d** jauh lebih besar daripada tiga gambar lainnya yang berukuran sama. Jadi yang berbeda adalah ukurannya.

CONTOH

### TES 2: GAMBAR YANG BERBEDA · SOAL 18

Tes 2, soal 5.

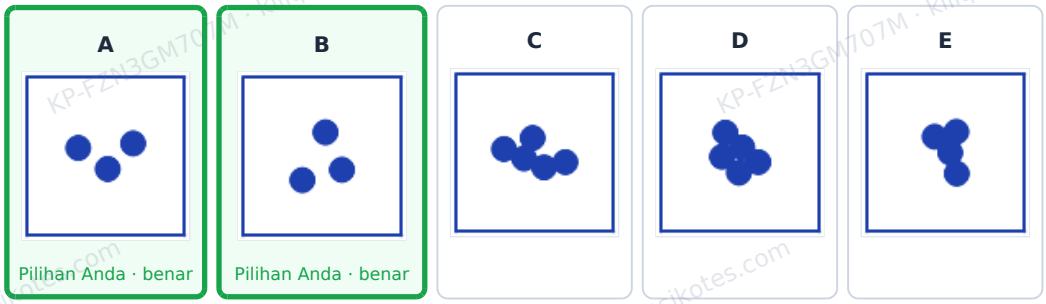


Jawaban Anda: **A dan B** · **Benar**

**Pembahasan.**
Pada tiga gambar, bulatan-bulatannya saling bersentuhan. Pada gambar **a dan b** bulatannya berjauhan dan tidak saling menyentuh.

### TES 2: GAMBAR YANG BERBEDA · SOAL 19

Tes 2, soal 6.

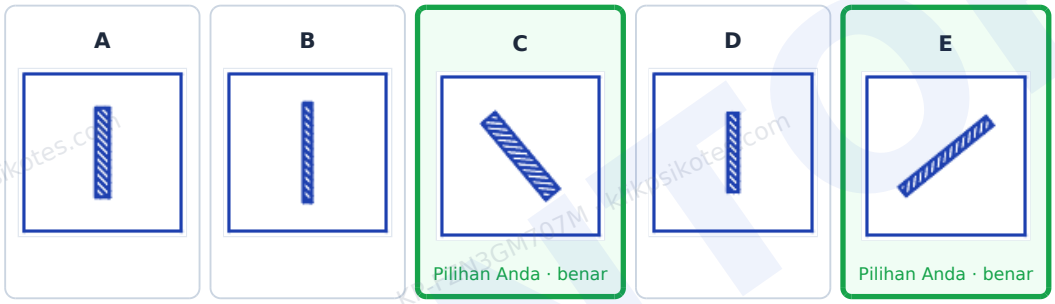


Jawaban Anda: **C dan E** · **Benar**

**Pembahasan.**
Panjang dan tebal batangnya berbeda-beda, tetapi tiga batang berdiri tegak lurus. Batang pada gambar **c dan e** miring.

### TES 2: GAMBAR YANG BERBEDA · SOAL 20

Tes 2, soal 7.

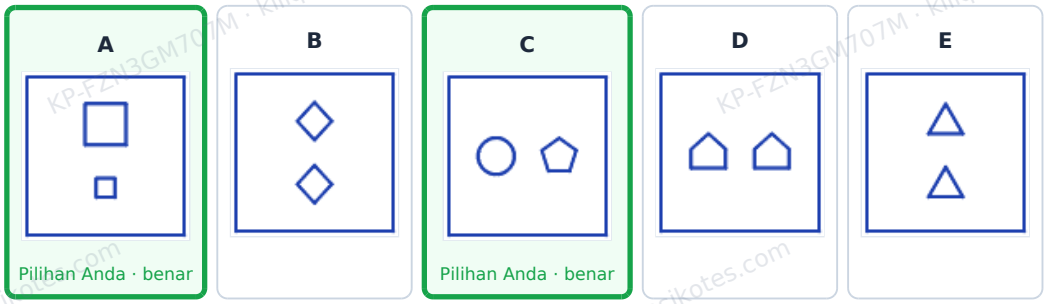


Jawaban Anda: **A dan C** · **Benar**

**Pembahasan.**
Tiga gambar berisi dua bentuk yang persis sama: sama jenis dan sama besar. Gambar **a dan c** tidak: yang satu berisi dua bentuk yang berbeda jenis, yang lain dua bentuk sejenis tetapi berbeda ukuran.

### TES 2: GAMBAR YANG BERBEDA · SOAL 21

Tes 2, soal 8.

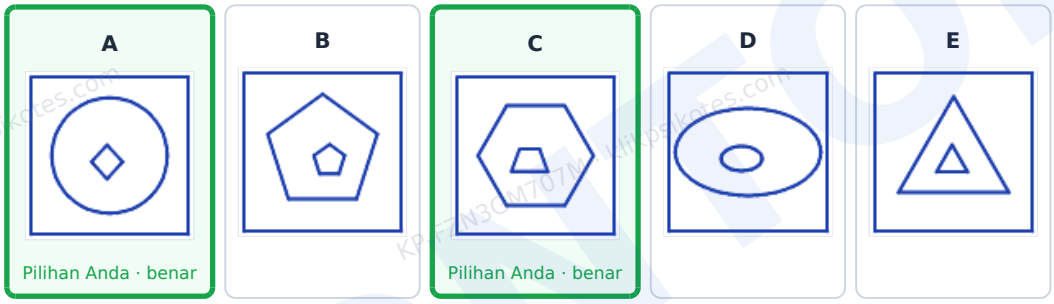


Jawaban Anda: **A dan C** · **Benar**

**Pembahasan.**
Pada tiga gambar, bentuk kecil di dalam sejenis dengan bentuk besar yang mengelilinginya. Pada gambar **a dan c** bentuk kecilnya berbeda jenis dengan bentuk luarnya.

### TES 2: GAMBAR YANG BERBEDA · SOAL 22

Tes 2, soal 9.

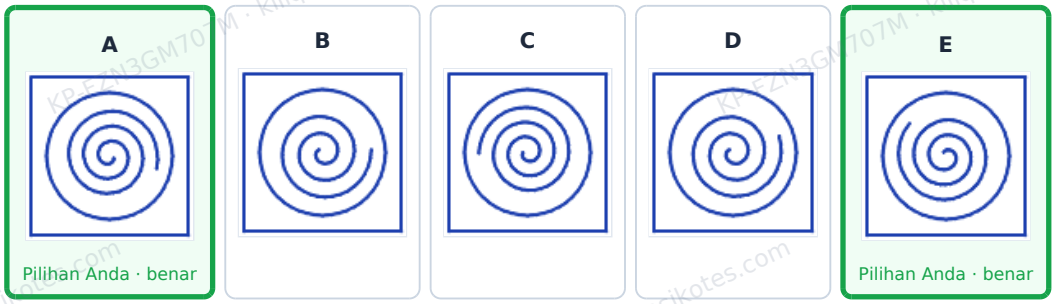


Jawaban Anda: **A dan E** · **Benar**

**Pembahasan.**

Telusuri setiap spiral dari tengah ke luar: pada tiga gambar spiralnya melilit berlawanan arah jarum jam. Spiral pada gambar **a dan e** melilit ke arah sebaliknya.

### TES 2: GAMBAR YANG BERBEDA · SOAL 23

Tes 2, soal 10.

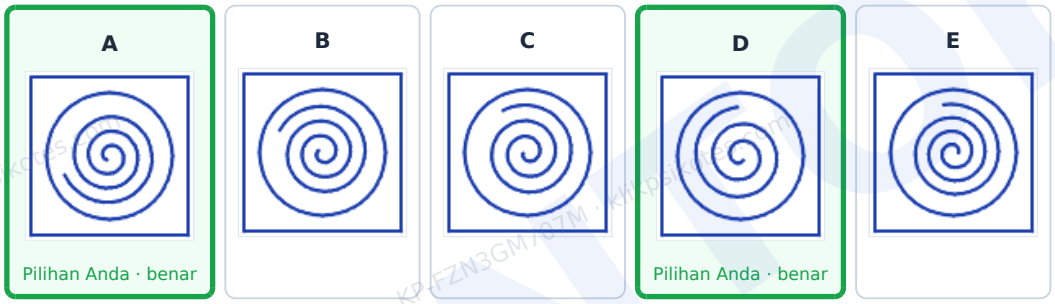


Jawaban Anda: **A dan D** · **Benar**

**Pembahasan.**

Telusuri setiap spiral dari tengah ke luar: pada tiga gambar spiralnya melilit berlawanan arah jarum jam. Spiral pada gambar **a dan d** melilit ke arah sebaliknya.

### TES 2: GAMBAR YANG BERBEDA · SOAL 24

Tes 2, soal 11.

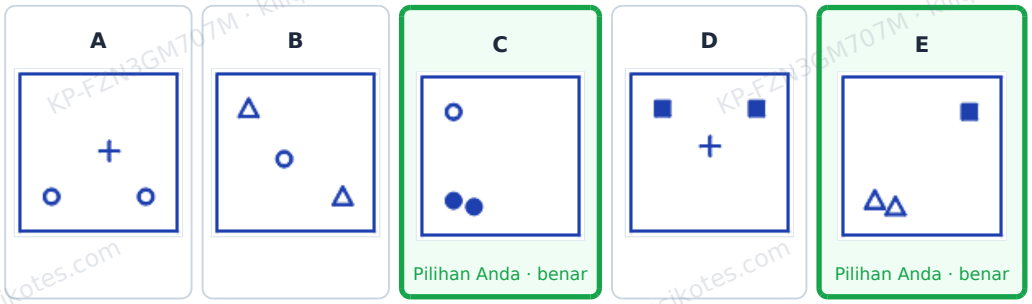


Jawaban Anda: **C dan E** · **Benar**

**Pembahasan.**
Setiap gambar berisi dua tanda yang sama dan satu tanda yang berbeda. Pada tiga gambar, kedua tanda yang sama letaknya berjauhan. Pada gambar **c dan e** kedua tanda yang sama berdempetan.

### TES 2: GAMBAR YANG BERBEDA · SOAL 25

Tes 2, soal 12.

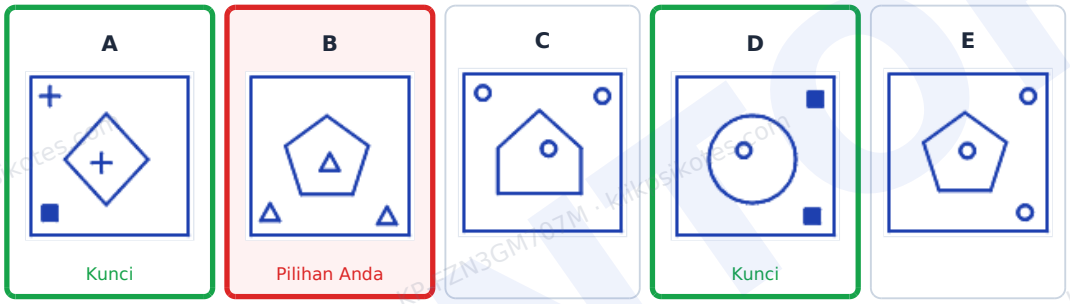


Jawaban Anda: **B** · **Kurang tepat** · Jawaban benar: **A dan D**

**Pembahasan.**
Pada tiga gambar, kedua tanda di luar bentuk sama, dan tanda di dalam bentuk juga sama dengan keduanya. Gambar **a dan d** tidak: yang satu tanda di dalamnya berbeda, yang lain kedua tanda di luarnya berbeda.

### TES 2: GAMBAR YANG BERBEDA · SOAL 26

Tes 2, soal 13.

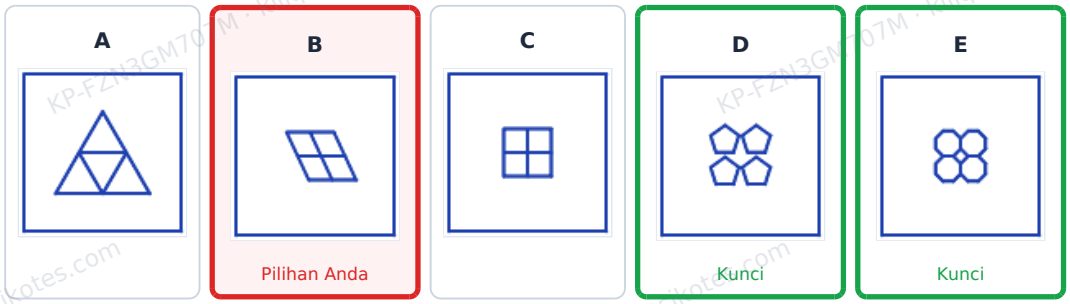


Jawaban Anda: **B** · **Kurang tepat** · Jawaban benar: **D dan E**

**Pembahasan.**
Bentuk-bentuk pada tiga gambar (jajar genjang, segitiga, persegi) dapat disusun rapat tanpa celah, seperti ubin. Bentuk pada gambar **d dan e** (segi lima dan segi delapan) selalu menyisakan celah bila disusun.

### TES 2: GAMBAR YANG BERBEDA · SOAL 27

Tes 2, soal 14.

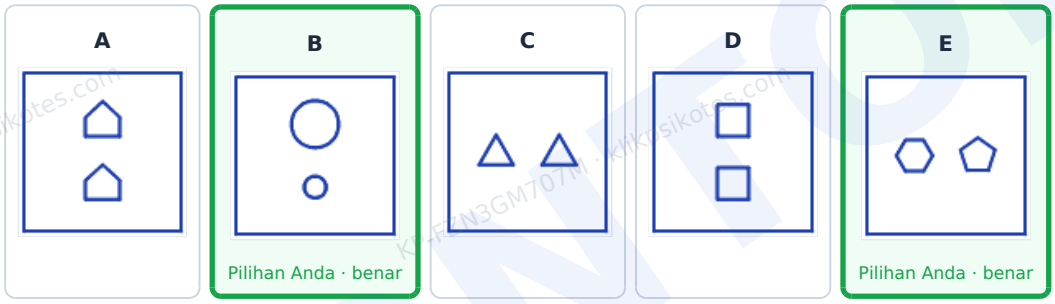


Jawaban Anda: **B dan E** · **Benar**

**Pembahasan.**
Tiga gambar berisi dua bentuk yang persis sama: sama jenis dan sama besar. Gambar **b dan e** tidak: yang satu berisi dua bentuk yang berbeda jenis, yang lain dua bentuk sejenis tetapi berbeda ukuran.

**TES 3: MELENGKAPI POLA · SOAL 28**

Tes 3, soal 1.

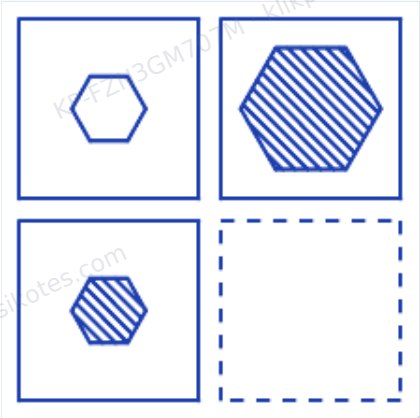

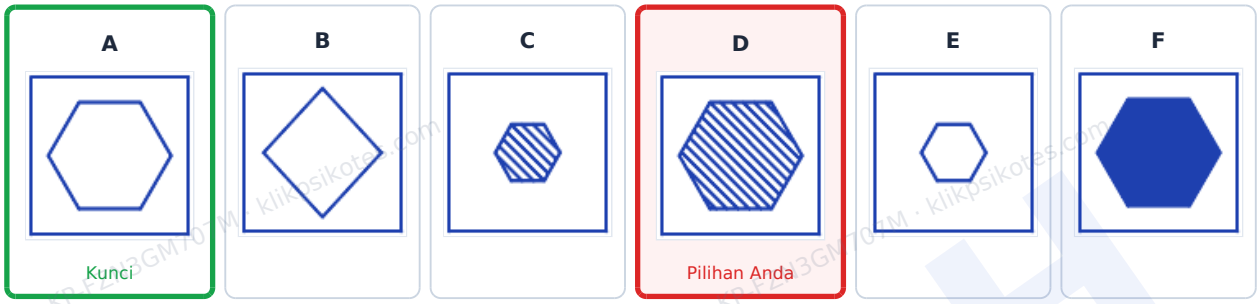


Jawaban Anda: **D** · **Kurang tepat** · Jawaban benar: **A**

**Pembahasan.**
Ukuran segi enam ditentukan oleh kolomnya: kecil di kolom kiri, besar di kolom kanan. Arsirannya berselang-seling seperti papan catur, sehingga kotak kanan bawah tidak diarsir. Jadi jawabannya segi enam besar yang kosong: **a**.

CONTOH

**TES 3: MELENGKAPI POLA · SOAL 29**

Tes 3, soal 2.



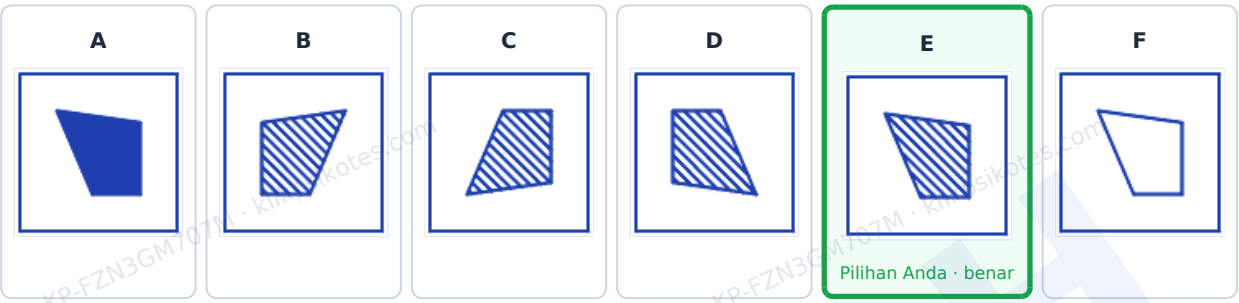


Jawaban Anda: **E** · **Benar**

**Pembahasan.**
Dari kolom kiri ke kolom kanan, bentuk dicerminkan kiri-kanan dan bagian dalamnya diarsir. Dari baris atas ke baris bawah, bentuk dicerminkan atas-bawah. Kotak kanan bawah mendapat kedua pencerminan dan berarsir: pilihan **e**.

CONTOH
KP-FZN3GM707M · klikpsikotes.com

**TES 3: MELENGKAPI POLA · SOAL 30**

Tes 3, soal 3.

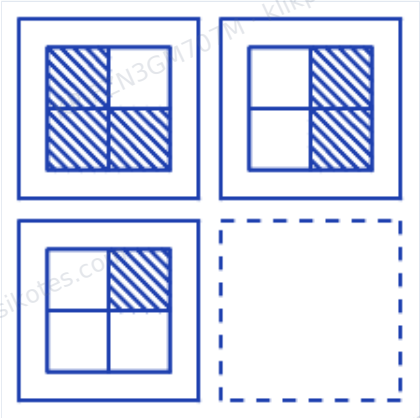

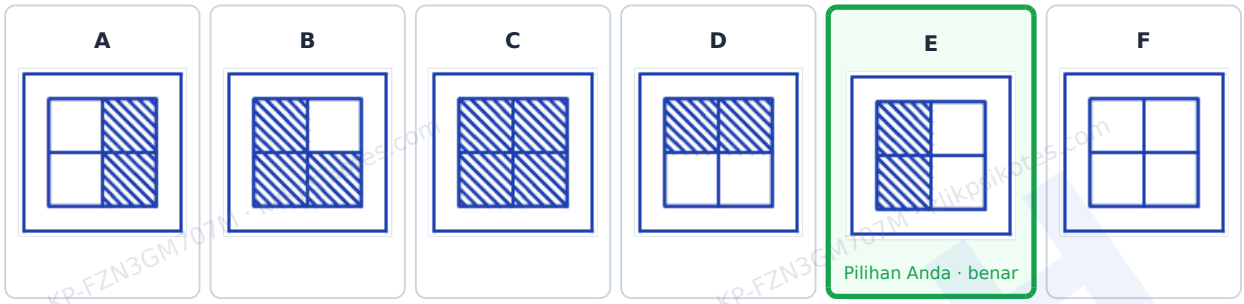


Jawaban Anda: **E** · **Benar**

**Pembahasan.**
Setiap gambar di baris bawah adalah kebalikan gambar di atasnya: bagian yang diarsir menjadi kosong dan bagian yang kosong menjadi diarsir. Kebalikan gambar kanan atas adalah pilihan **e**.

CONTOH

### TES 3: MELENGKAPI POLA · SOAL 31

Tes 3, soal 4.

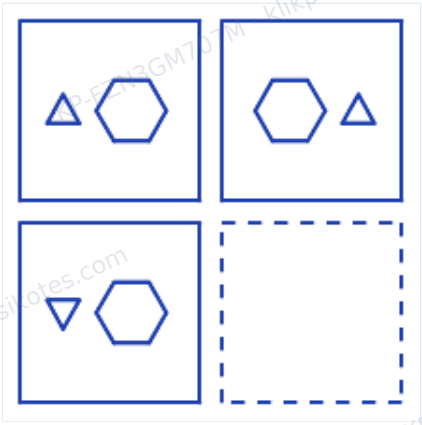

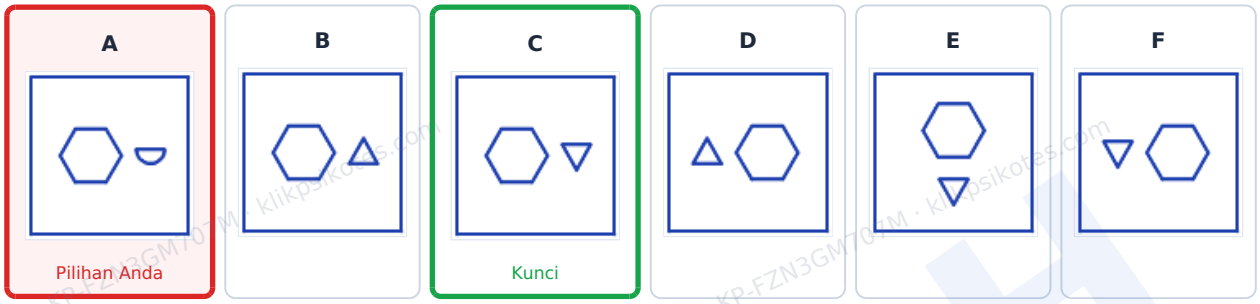


Jawaban Anda: **A** · **Kurang tepat** · Jawaban benar: **C**

**Pembahasan.**
Kolom menentukan letak segitiga: di sebelah kiri pada kolom kiri dan di sebelah kanan pada kolom kanan. Baris menentukan arahnya: menghadap ke atas pada baris atas dan ke bawah pada baris bawah. Kotak kanan bawah mengikuti keduanya: pilihan **c**.

CONTOH

**TES 3: MELENGKAPI POLA · SOAL 32**

Tes 3, soal 5.

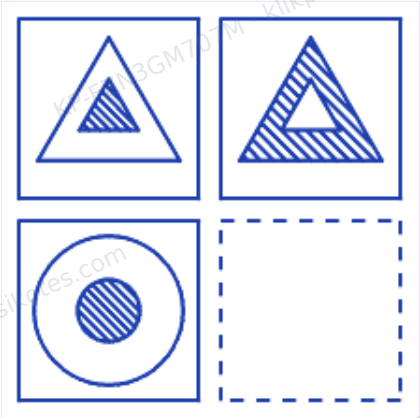

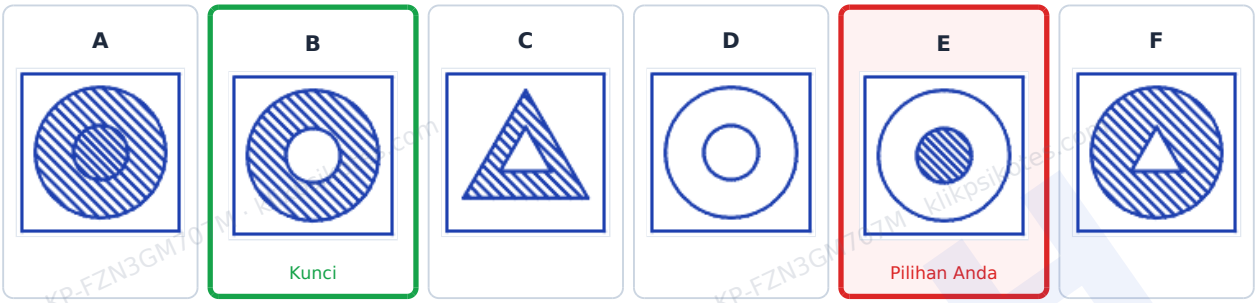


Jawaban Anda: **E** · **Kurang tepat** · Jawaban benar: **B**

**Pembahasan.**
Baris menentukan bentuknya, dan dari kolom kiri ke kolom kanan arsirannya bertukar: bagian yang diarsir menjadi kosong dan sebaliknya. Kotak kanan bawah memakai bentuk baris bawah dengan arsiran yang sudah bertukar: pilihan **b**.

CONTOH

**TES 3: MELENGKAPI POLA · SOAL 33**

Tes 3, soal 6.

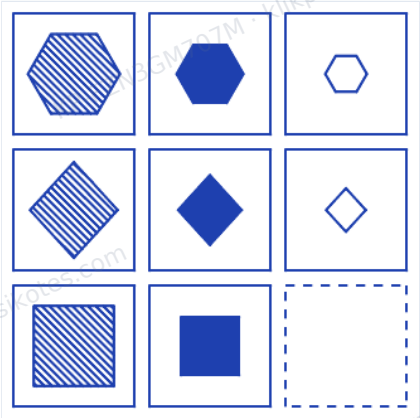

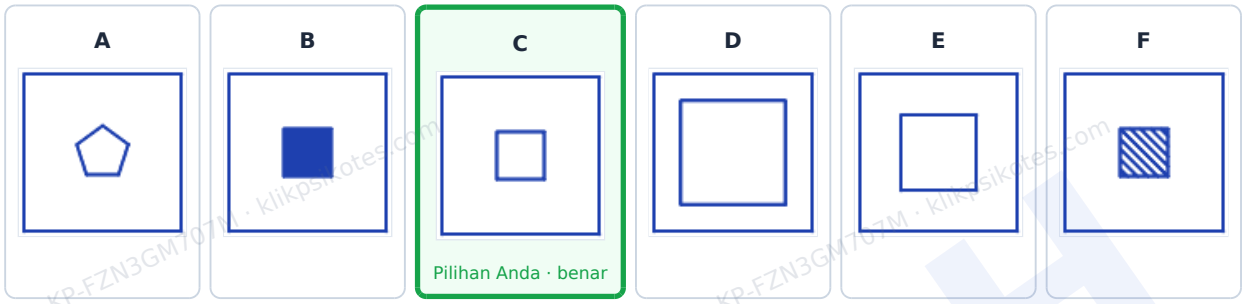


Jawaban Anda: **C** · **Benar**

**Pembahasan.**
Setiap baris memakai satu bentuk: segi enam, belah ketupat, lalu persegi. Setiap kolom menentukan ukuran (dari besar ke kecil) dan isinya (arsir, pekat, kosong). Kotak kanan bawah berisi persegi kecil yang kosong: pilihan **c**.

CONTOH
KP-FZN3GM707M · klikpsikotes.com

**TES 3: MELENGKAPI POLA · SOAL 34**

Tes 3, soal 7.

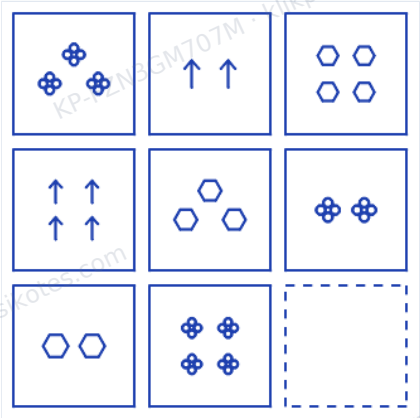

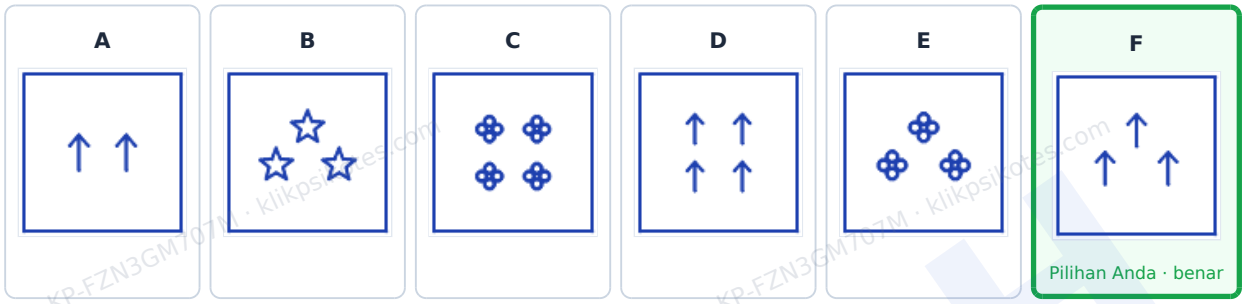


Jawaban Anda: **F** · **Benar**

**Pembahasan.**
Ada dua ciri yang masing-masing muncul tepat sekali di setiap baris dan kolom: gambar (bunga empat, anak panah, segi enam) dan jumlah (tiga, empat, dua). Baris bawah belum memuat anak panah dan belum memuat jumlah tiga, jadi kotak kosong berisi keduanya: pilihan **f**.

CONTOH
KP-FZN3GM707M · klikpsikotes.com

**TES 3: MELENGKAPI POLA · SOAL 35**

Tes 3, soal 8.

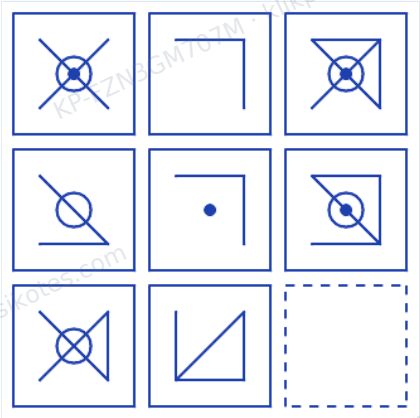

| A | B | C | D | E | F |
|---|---|---|---|---|---|
|  |  |  Pilihan Anda · benar |  | 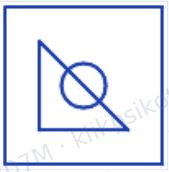 |  |

Jawaban Anda: **C** · **Benar**

**Pembahasan.**
Pada setiap baris, gambar ketiga adalah gabungan gambar pertama dan kedua: semua bagian keduanya digambar bersama. Terapkan aturan itu pada dua gambar di baris bawah: hasilnya pilihan **c**.

CONTOH
KP-FZN3GM707M · klikpsikotes.com

**TES 3: MELENGKAPI POLA · SOAL 36**

Tes 3, soal 9.

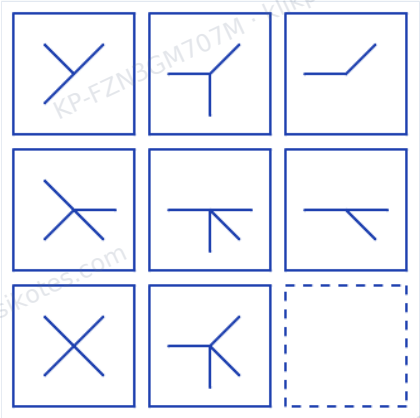

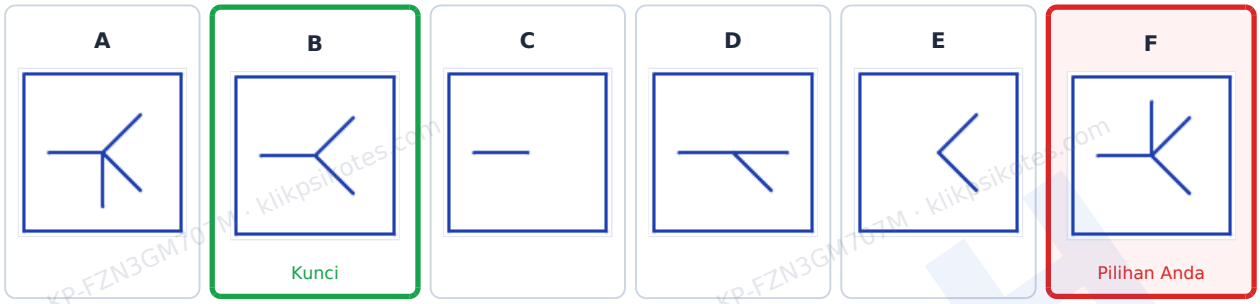


Jawaban Anda: **F** · **Kurang tepat** · Jawaban benar: **B**

**Pembahasan.**
Setiap kotak adalah gabungan bagian milik barisnya dan bagian milik kolomnya: bagian yang sama muncul di sepanjang baris, dan bagian lain muncul di sepanjang kolom. Kotak kanan bawah menggabungkan bagian baris bawah dan bagian kolom kanan: pilihan **b**.

CONTOH

### TES 3: MELENGKAPI POLA · SOAL 37

Tes 3, soal 10.

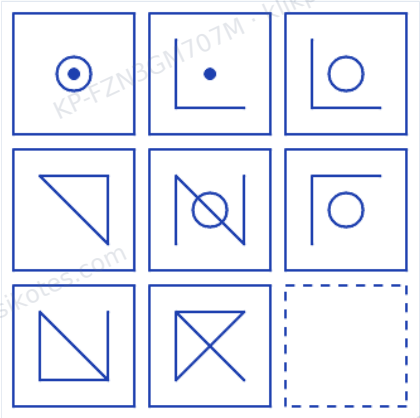

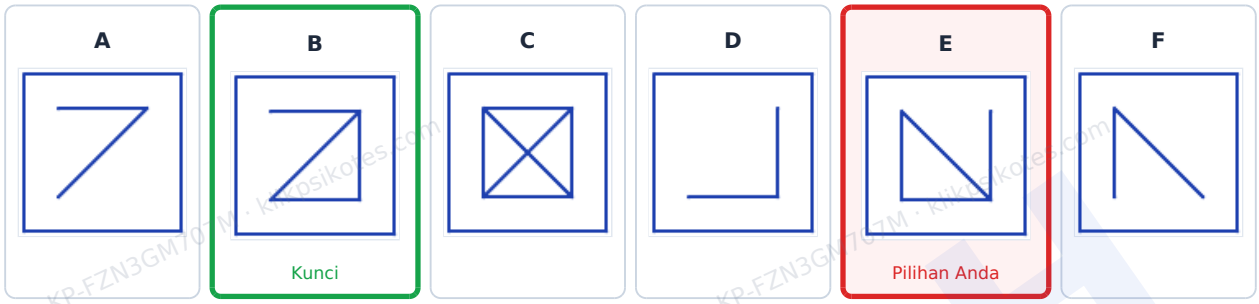


Jawaban Anda: **E** · **Kurang tepat** · Jawaban benar: **B**

**Pembahasan.**
Pada setiap baris, gambar ketiga adalah gabungan gambar pertama dan kedua tanpa bagian yang dimiliki keduanya: bagian yang sama saling meniadakan. Terapkan aturan itu pada dua gambar di baris bawah: hasilnya pilihan **b**.

CONTOH

**TES 3: MELENGKAPI POLA · SOAL 38**

Tes 3, soal 11.

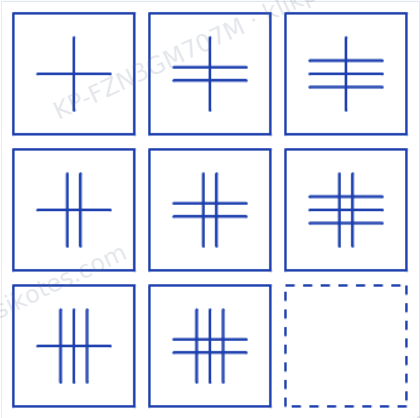

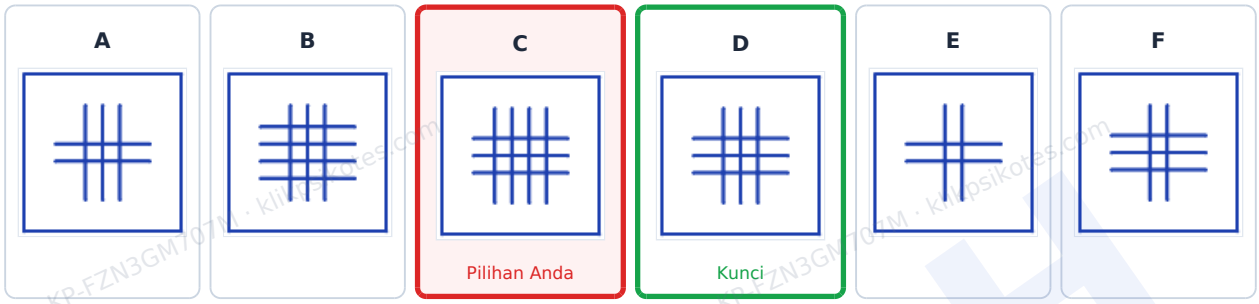


Jawaban Anda: **C** · **Kurang tepat** · Jawaban benar: **D**

**Pembahasan.**
Banyaknya garis tegak sama dengan nomor baris, dan banyaknya garis mendatar sama dengan nomor kolom. Kotak kanan bawah (baris 3, kolom 3) berisi tiga garis tegak dan tiga garis mendatar: pilihan **d**.

CONTOH

**TES 3: MELENGKAPI POLA · SOAL 39**

Tes 3, soal 12.

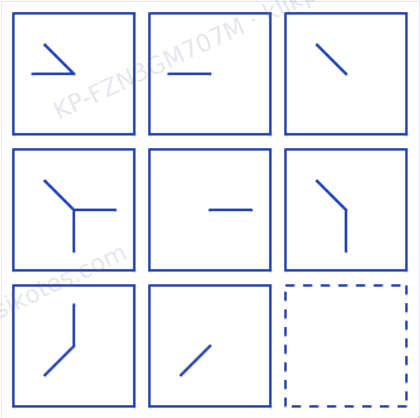

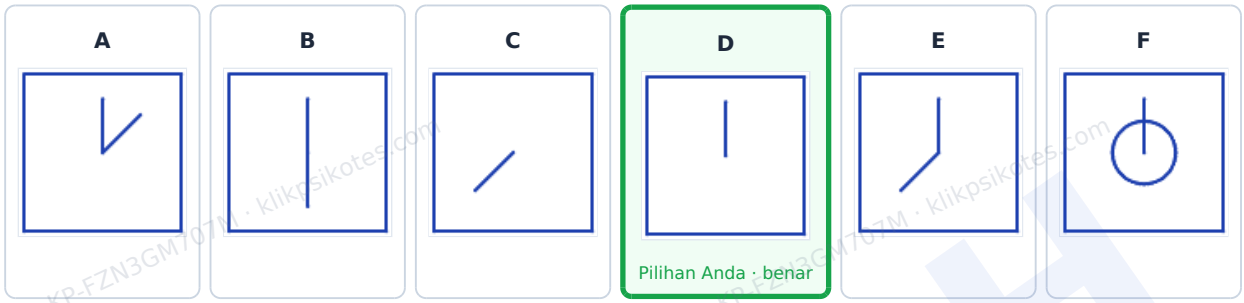


Jawaban Anda: **D** · **Benar**

**Pembahasan.**
Pada setiap baris, gambar ketiga adalah gambar pertama dikurangi gambar kedua: bagian yang ada di gambar kedua dihapus dari gambar pertama. Terapkan aturan itu pada dua gambar di baris bawah: hasilnya pilihan **d**.

CONTOH
KP-FZN3GM707M · klikpsikotes.com

### TES 3: MELENGKAPI POLA · SOAL 40

Tes 3, soal 13.

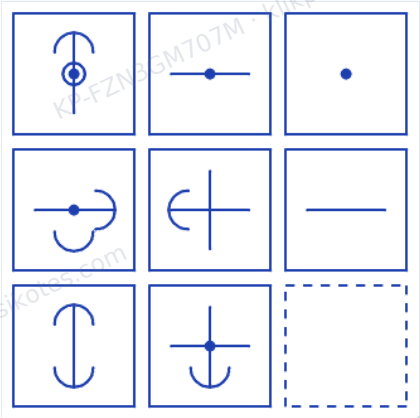

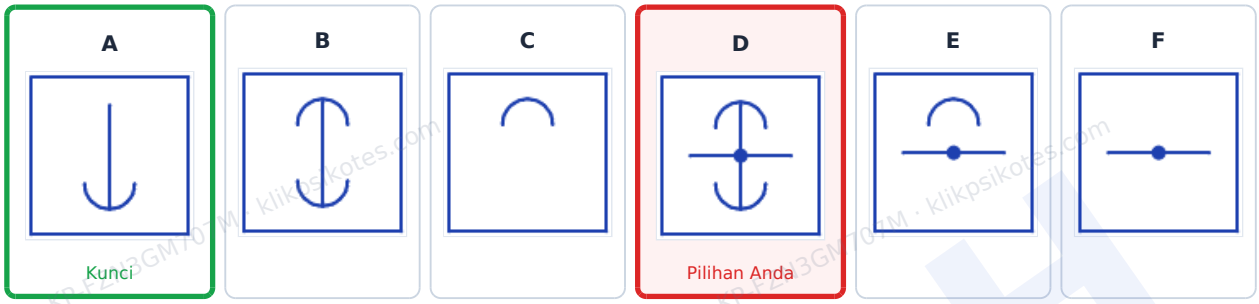


Jawaban Anda: **D** · **Kurang tepat** · Jawaban benar: **A**

**Pembahasan.**
Pada setiap baris, gambar ketiga adalah bagian yang sama dari gambar pertama dan kedua: hanya bagian yang dimiliki keduanya yang tetap ada. Terapkan aturan itu pada dua gambar di baris bawah: hasilnya pilihan **a**.

CONTOH
KP-FZN3GM707M · klikpsikotes.com

**TES 4: LETAK TITIK · SOAL 41**

Tes 4, soal 1.

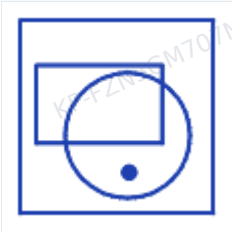

A



B



C



D



E



Pilihan Anda · benar

Jawaban Anda: **E** · **Benar**

**Pembahasan.**
Pada gambar contoh, titik berada di dalam lingkaran tetapi di luar persegi panjang. Hanya pada gambar **e** ada daerah dengan kedudukan yang sama, sehingga titik dapat diletakkan di sana. Pada gambar lain bentuk-bentuknya tersusun sehingga daerah seperti itu tidak ada.

CONTOH

**TES 4: LETAK TITIK · SOAL 42**

Tes 4, soal 2.



A



Pilihan Anda · benar

B



C

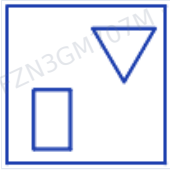

D



E



Jawaban Anda: **A** · **Benar**

**Pembahasan.**
Pada gambar contoh, titik berada di dalam persegi panjang dan segitiga. Hanya pada gambar **a** ada daerah dengan kedudukan yang sama, sehingga titik dapat diletakkan di sana. Pada gambar lain bentuk-bentuknya tersusun sehingga daerah seperti itu tidak ada.

CONTOH

**TES 4: LETAK TITIK · SOAL 43**

Tes 4, soal 3.



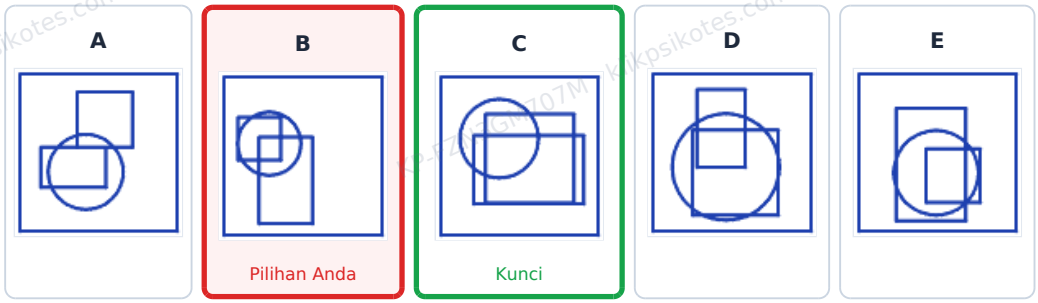


Jawaban Anda: **B** · **Kurang tepat** · Jawaban benar: **C**

**Pembahasan.**
Pada gambar contoh, titik berada di dalam persegi panjang dan persegi tetapi di luar lingkaran. Hanya pada gambar **c** ada daerah dengan kedudukan yang sama, sehingga titik dapat diletakkan di sana. Pada gambar lain bentuk-bentuknya tersusun sehingga daerah seperti itu tidak ada.

CONTOH

**TES 4: LETAK TITIK · SOAL 44**

Tes 4, soal 4.

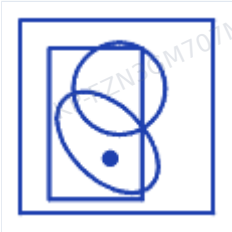

A



B



C



D



E



Pilihan Anda · benar

Jawaban Anda: **E** · **Benar**

**Pembahasan.**
Pada gambar contoh, titik berada di dalam persegi panjang dan elips tetapi di luar lingkaran. Hanya pada gambar **e** ada daerah dengan kedudukan yang sama, sehingga titik dapat diletakkan di sana. Pada gambar lain bentuk-bentuknya tersusun sehingga daerah seperti itu tidak ada.

CONTOH

**TES 4: LETAK TITIK · SOAL 45**

Tes 4, soal 5.



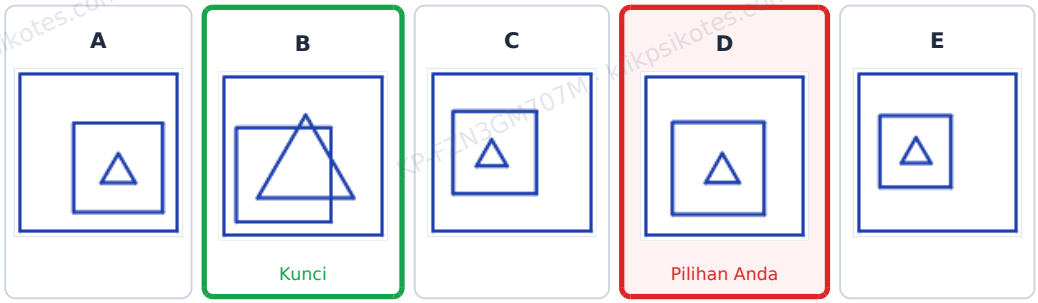


Jawaban Anda: **D** · **Kurang tepat** · Jawaban benar: **B**

**Pembahasan.**
Pada gambar contoh, titik berada di dalam segitiga tetapi di luar persegi. Hanya pada gambar **b** ada daerah dengan kedudukan yang sama, sehingga titik dapat diletakkan di sana. Pada gambar lain bentuk-bentuknya tersusun sehingga daerah seperti itu tidak ada.

CONTOH

**TES 4: LETAK TITIK · SOAL 46**

Tes 4, soal 6.



**A**



Pilihan Anda · benar

**B**



**C**



**D**



**E**



Jawaban Anda: **A** · **Benar**

**Pembahasan.**
Pada gambar contoh, titik berada di dalam lingkaran tetapi di luar segitiga dan persegi panjang. Hanya pada gambar **a** ada daerah dengan kedudukan yang sama, sehingga titik dapat diletakkan di sana. Pada gambar lain bentuk-bentuknya tersusun sehingga daerah seperti itu tidak ada.

CONTOH

**TES 4: LETAK TITIK · SOAL 47**

Tes 4, soal 7.



**A**



Pilihan Anda · benar

**B**



**C**



**D**



**E**



Jawaban Anda: **A** · **Benar**

**Pembahasan.**
Pada gambar contoh, titik berada di dalam lingkaran dan segitiga tetapi di luar persegi panjang. Hanya pada gambar **a** ada daerah dengan kedudukan yang sama, sehingga titik dapat diletakkan di sana. Pada gambar lain bentuk-bentuknya tersusun sehingga daerah seperti itu tidak ada.

CONTOH

**TES 4: LETAK TITIK · SOAL 48**

Tes 4, soal 8.



A



B



C



D



Pilihan Anda · benar

E



Jawaban Anda: **D** · **Benar**

**Pembahasan.**
Pada gambar contoh, satu titik berada di dalam persegi panjang tetapi di luar elips dan segitiga, dan titik lain berada di dalam elips dan persegi panjang tetapi di luar segitiga. Hanya pada gambar **d** ada daerah dengan kedudukan yang sama, sehingga titik dapat diletakkan di sana. Pada gambar lain bentuk-bentuknya tersusun sehingga daerah seperti itu tidak ada.

CONTOH

**TES 4: LETAK TITIK · SOAL 49**

Tes 4, soal 9.

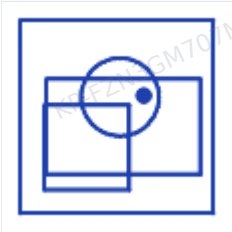

A



B



C



D



E



Pilihan Anda · benar

Jawaban Anda: **E** · **Benar**

**Pembahasan.**
Pada gambar contoh, titik berada di dalam lingkaran dan persegi panjang tetapi di luar persegi. Hanya pada gambar **e** ada daerah dengan kedudukan yang sama, sehingga titik dapat diletakkan di sana. Pada gambar lain bentuk-bentuknya tersusun sehingga daerah seperti itu tidak ada.

CONTOH

**TES 4: LETAK TITIK · SOAL 50**

Tes 4, soal 10.



A



B



C



D



E



Pilihan Anda · benar

Jawaban Anda: **E** · **Benar**

**Pembahasan.**
Pada gambar contoh, titik berada di dalam segitiga tetapi di luar persegi panjang dan lingkaran. Hanya pada gambar **e** ada daerah dengan kedudukan yang sama, sehingga titik dapat diletakkan di sana. Pada gambar lain bentuk-bentuknya tersusun sehingga daerah seperti itu tidak ada.

## 07 Catatan dan keabsahan

Dasar perhitungan dan batas penggunaan laporan.

Laporan ini disusun otomatis dari jawaban peserta pada Latihan Tes Penalaran Gambar (model CFIT 3A). Skor dihitung otomatis dengan norma cfit-skala-3a-17plus, dan dapat dipakai sebagai bahan belajar dan refleksi diri. Laporan ini bukan hasil asesmen psikologis resmi dan tidak menggantikan pemeriksaan oleh psikolog berizin.

**No. laporan KP-FZN3GM707M**
Dihasilkan oleh KlikPsikotes pada 28 Oktober 2026, 12.54 WIB.
Sebutkan nomor ini bila perlu menanyakan laporan.

**Latihan lagi?**
Tes lain dan laporan lengkap ada di **klikpsikotes.com**