KlikPsikotes

No. laporan
KP-G0P47R60WT

LAPORAN HASIL TES

Tes Struktur Inteligensi (model IST)

Tes kognitif

CONTOH · peserta fiktif

DISUSUN UNTUK

Peserta Contoh

TANGGAL TES	MODE	SOAL TERJAWAB
28 Oktober 2026	Latihan	163 dari 177

Tentang laporan ini

Untuk siapa laporan ini dan cara membacanya.

Terima kasih telah mengerjakan **Tes Struktur Inteligensi (model IST)**. Laporan ini merangkum hasil Anda: skor, kategorinya, dan penjelasan setiap aspek. Skor dihitung otomatis dari jawaban Anda dengan kunci dan norma dari sumber tes.

IDENTITAS PESERTA

Nama lengkap **Peserta Contoh**	Email **peserta.contoh@example.com**
Usia saat tes **26 tahun**	Jenis kelamin **Perempuan**
Pendidikan terakhir **Sarjana (D4/S1)**	Tes **Tes Struktur Inteligensi (model IST)**
Waktu selesai **28 Oktober 2026, 04.42 WIB**	Lama pengerjaan **1 jam 1 menit 42 detik**
Soal terjawab **163 dari 177 soal**	

CARA MEMBACA LAPORAN

1. **Mulai dari ringkasan**
   Hasil utama dan kategorinya.
2. **Skor baku dan mentah**
   Baku dibandingkan norma; mentah adalah jumlah jawaban yang dinilai.
3. **Kategori**
   Posisi skor pada pita dari sumber tes.
4. **Gambaran saat ini**
   Kondisi saat tes, bukan label permanen.

CONTOH

Isi laporan

01 Ringkasan hasil
02 Rincian skor
03 Interpretasi per aspek
04 Analisis Coach AI
05 Rekap jawaban
06 Pembahasan soal
07 Catatan dan keabsahan

CONTOH
KP-G0P47R60WT · klikpsikotes.com

01 Ringkasan hasil

Hasil utama dan apa artinya secara singkat.

IQ (NORMA USIA)

123

Superior

Kecenderungan profil: **Seimbang**

Struktur kecerdasan: **Kecerdasan teoretis**. Grafik empat subtes pertama membentuk huruf M: ada kelebihan dalam abstraksi dan dalam menyatakannya dengan bahasa, sehingga WA dan GE lebih menonjol dibandingkan SE dan AN.

124 dari 176 soal dijawab benar.

RINGKASAN

IQ 123 (Superior), profil Seimbang.

CONTOH

02 Rincian skor

Skor setiap aspek beserta kategorinya.

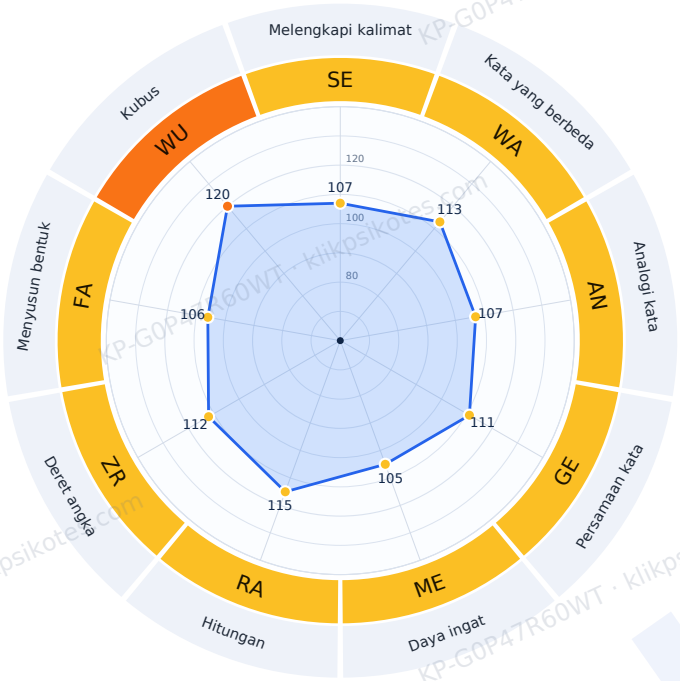

Setiap sektor adalah satu subtes dengan skor baku menurut norma usia (lingkaran 60–140, setiap cincin 10). Warna menunjukkan kategori dari tabel sumber dan angka di titik adalah skor bakunya.

Sangat rendah (≤80) · Rendah (81–94) · Sedang (95–99) · Cukup (100–104) · Tinggi (105–118) · Sangat tinggi (>118)

ASPEK	SKOR	KATEGORI
Melengkapi kalimat (SE)	**107** mentah 14	Tinggi
Kata yang berbeda (WA)	**113** mentah 14	Tinggi
Analogi kata (AN)	**107** mentah 13	Tinggi
Persamaan kata (GE)	**111** mentah 24	Tinggi
Daya ingat (ME)	**105** mentah 13	Tinggi

ASPEK	SKOR	KATEGORI
Hitungan (RA)	**115** mentah 15	Tinggi
Deret angka (ZR)	**112** mentah 15	Tinggi
Menyusun bentuk (FA)	**106** mentah 12	Tinggi
Kubus (WU)	**120** mentah 16	Sangat tinggi
IQ	**123** mentah 136	Superior

03 Interpretasi per aspek

Penjelasan tiap aspek menurut pita skor.

Melengkapi kalimat (SE)

Tinggi skor 107

Yang diukur: Mengukur pembentukan keputusan, common sense, dan penilaian yang mendekati realitas. Dengan subtes ini diusahakan tampak apakah seseorang berpikir secara mandiri.

Skor standar 105–118.

Kata yang berbeda (WA)

Tinggi skor 113

Yang diukur: Mengukur daya berpikir verbal yang integratif: memahami isi suatu pengertian dan kemampuan menghayati masalah bahasa.

Skor standar 105–118.

Analogi kata (AN)

Tinggi skor 107

Yang diukur: Mengukur kemampuan mengombinasikan, sehingga dapat menunjukkan kelincahan (fleksibilitas) dan kedalaman berpikir.

Skor standar 105–118.

Persamaan kata (GE)

Tinggi skor 111

Yang diukur: Mengukur kemampuan abstraksi, yaitu pembentukan pengertian dan kemampuan menyatakan pengertian di dalam bahasa.

Skor standar 105–118.

Daya ingat (ME)

Tinggi skor 105

Yang diukur: Mengukur kemampuan menyimpan kata-kata yang telah dipelajari (daya ingat).

Skor standar 105–118.

Hitungan (RA)

Tinggi skor 115

Yang diukur: Mengukur daya pikir praktis dalam masalah hitungan.

Skor standar 105–118.

Deret angka (ZR)

Tinggi skor 112

Yang diukur: Mengukur daya pikir teoretis mengenai hitungan dan komponen-komponen ritmis.

Skor standar 105–118.

Menyusun bentuk (FA)

Tinggi skor 106

Yang diukur: Mengukur kemampuan membayangkan, yaitu cara berpikir secara keseluruhan yang konkret.

Skor standar 105–118.

Kubus (WU)

Sangat tinggi skor 120

Yang diukur: Mengukur kemampuan membayangkan ruang dan komponen konstruktif-teknis, kemampuan membayangkan tiga dimensi, dan adanya momen-momen analitis.

Skor standar 119 ke atas.

CONTOH

IQ

Superior skor 123

IQ 120–127 (kategori sumber: Superior).

04 Analisis Coach AI

Kekuatan, hal yang bisa dikembangkan, dan rencana latihan.

IST: IQ 123 (Superior), dengan profil seimbang dan kekuatan pada kubus

SKOR IST	PROFIL	PUNCAK SUBTES
IQ 123: Superior	**Seimbang; subtes dalam kategori Tinggi atau lebih**	**WU 120: Sangat tinggi**

Pada latihan IST ini, skor standar IQ 123 berada dalam kategori Superior menurut norma usia. Profil disebut seimbang; WU paling menonjol, sementara ME 105 merupakan skor subtes terendah dan tetap berkategori Tinggi.

Kekuatan Anda

Visualisasi ruang

Kubus (WU) mendapat skor standar 120, kategori Sangat tinggi. Subtes ini mengukur bayangan ruang tiga dimensi dan komponen konstruktif-teknis.

Bahasa dan abstraksi

Kata yang berbeda (WA) 113 dan Persamaan kata (GE) 111 termasuk Tinggi. Hasil khusus IST juga menyebut WA dan GE lebih menonjol dalam profil teoretis.

Penalaran angka

Hitungan (RA) 115 dan Deret angka (ZR) 112 sama-sama berkategori Tinggi, menunjukkan hasil baik pada hitungan praktis dan pola angka.

Bisa dikembangkan

Daya ingat kata

ME 105 adalah skor subtes terendah pada profil ini, meski masih berkategori Tinggi.

Coba: Latih mengingat 8–10 kata, tutup daftar, lalu tulis kembali dan periksa hasilnya.

Membayangkan bentuk

FA 106 berada sedikit di atas ME dan berkategori Tinggi; latihan visual dapat membantu membandingkan bentuk dengan WU yang lebih kuat.

Coba: Kerjakan soal menyusun bentuk, lalu jelaskan bagian mana yang perlu diputar atau digabung.

Menjaga kelengkapan jawaban

Anda menjawab 163 dari 177 soal dalam 62 menit, tanpa kehabisan waktu.

Coba: Dalam latihan berikutnya, sisakan beberapa menit untuk meninjau soal yang belum terjawab.

Rencana latihan 7 hari

Hari 1	Tinjau kembali bagian daya ingat dan menyusun bentuk; catat jenis kesalahan tanpa mengejar waktu. **Buka tes ›**
Hari 2-3	Kerjakan Tes Bangun Ruang (model TIU 6) untuk melatih visualisasi bentuk dan ruang yang berkaitan dengan WU serta FA. **Buka tes ›**
Hari 4-5	Latih soal daya ingat kata dan susun bentuk, lalu periksa jawaban secara bertahap. **Buka tes ›**
Hari 6-7	Coba Tes Analogi Gambar (model TIU 5) untuk melatih pengamatan perubahan pola secara visual. **Buka tes ›**

Ini adalah hasil latihan IST, bukan penilaian psikologis resmi atau kesimpulan tentang kelayakan kerja. Analisis ini dibuat dengan bantuan AI dari skor di atas, bukan oleh psikolog.

05 Rekap jawaban

Benar dan salah untuk setiap soal.

Benar | Salah atau kosong

1	2	3	4	5	6	7	8	9	10
11	12	13	14	15	16	17	18	19	20
21	22	23	24	25	26	27	28	29	30

31	32	33	34	35	36	37	38	39	40
41	42	43	44	45	46	47	48	49	50
51	52	53	54	55	56	57	58	59	60
61	62	63	64	65	66	67	68	69	70
71	72	73	74	75	76	77	78	79	80
81	82	83	84	85	86	87	88	89	90
91	92	93	94	95	96	97	98	99	100
101	102	103	104	105	106	107	108	109	110
111	112	113	114	115	116	117	118	119	120
121	122	123	124	125	126	127	128	129	130
131	132	133	134	135	136	137	138	139	140
141	142	143	144	145	146	147	148	149	150
151	152	153	154	155	156	157	158	159	160
161	162	163	164	165	166	167	168	169	170
171	172	173	174	175	176				

CONTOH
KP-G0P47R60WT · klikpsikotes.com

06 Pembahasan soal

Jawaban benar dan pembahasan yang disetujui.

SE: MELENGKAPI KALIMAT · SOAL 1

1. Pengaruh seorang pemimpin terhadap anggotanya sebaiknya tumbuh dari .....

A. jabatan **B.** kepandaian **C.** popularitas **D.** keramahan **E.** keteladanan (pilihan Anda) (kunci)

Jawaban Anda: **E. keteladanan** · **Benar**

> **Pembahasan.**
> Pengaruh pemimpin yang sehat seharusnya lahir dari perilaku yang dapat dicontoh, bukan semata-mata dari kedudukan atau popularitas. Oleh karena itu, jawaban yang tepat adalah **E. keteladanan** .

SE: MELENGKAPI KALIMAT · SOAL 2

2. Kebalikan kata “basah” ialah .....

A. kering (kunci) **B.** lembap (pilihan Anda) **C.** licin **D.** dingin **E.** kusam

Jawaban Anda: **B. lembap** · **Kurang tepat** · Jawaban benar: **A. kering**

> **Pembahasan.**
> Kata **basah** berarti mengandung air, sedangkan kebalikannya adalah **A. kering**, yaitu tidak mengandung air. Pilihan lain tidak menyatakan kebalikan makna basah secara tepat.

SE: MELENGKAPI KALIMAT · SOAL 3

3. ..... tidak tergolong gejala atmosfer.

A. gerimis **B.** embun **C.** pelangi **D.** letusan gunung (pilihan Anda) (kunci) **E.** awan

Jawaban Anda: **D. letusan gunung** · **Benar**

> **Pembahasan.**
> **D. letusan gunung** tidak tergolong gejala atmosfer karena terjadi akibat aktivitas geologi di dalam atau pada permukaan bumi. Pilihan lainnya merupakan gejala atmosfer.

SE: MELENGKAPI KALIMAT · SOAL 4

4. Karena tidak jujur, ia ..... janji kepada temannya.

A. menjaga **B.** menepati **C.** memegang **D.** memenuhi **E.** mengingkari (pilihan Anda) (kunci)

Jawaban Anda: **E. mengingkari** · **Benar**

Pembahasan.
E. mengingkari paling tepat karena berarti tidak menepati janji. Pilihan lainnya bermakna menjaga atau melaksanakan janji.

SE: MELENGKAPI KALIMAT · SOAL 5

5. Seekor serangga pasti mempunyai .....

A. sayap **B.** sengat **C.** capit **D.** enam kaki (pilihan Anda) (kunci) **E.** cangkang

Jawaban Anda: **D. enam kaki** · **Benar**

Pembahasan.
Jawaban **D. enam kaki** benar karena enam kaki merupakan ciri dasar semua serangga. Pilihan lain hanya dimiliki oleh jenis serangga tertentu atau bukan bagian tubuh serangga.

SE: MELENGKAPI KALIMAT · SOAL 6

6. Penumpang ..... menunjukkan tiket sebelum naik kereta.

A. lazimnya (pilihan Anda) (kunci) **B.** mustahil **C.** sesekali **D.** tidak lazim **E.** senantiasa

Jawaban Anda: **A. lazimnya** · **Benar**

Pembahasan.
Jawaban **A. lazimnya** paling tepat karena pada umumnya penumpang menunjukkan tiket sebelum naik kereta. Kata ini menyatakan kebiasaan umum tanpa mengandung makna mutlak seperti “senantiasa”.

CONTOH

SE: MELENGKAPI KALIMAT · SOAL 7

7. Di antara bahan berikut, yang memberikan energi terbesar untuk bobot yang sama ialah .....

A. roti (pilihan Anda) **B.** mentega (kunci) **C.** jagung **D.** pisang **E.** yoghurt

Jawaban Anda: **A. roti** · **Kurang tepat** · Jawaban benar: **B. mentega**

Pembahasan.
Untuk bobot yang sama, **B. mentega** memberikan energi terbesar karena kandungan utamanya adalah lemak. Lemak menghasilkan energi lebih banyak per gram dibandingkan protein dan karbohidrat.

SE: MELENGKAPI KALIMAT · SOAL 8

8. Dalam perdebatan harus ada .....

A. pembawa acara **B.** penonton **C.** perbedaan pendapat (kunci) **D.** catatan **E.** kesimpulan (pilihan Anda)

Jawaban Anda: **E. kesimpulan** · **Kurang tepat** · Jawaban benar: **C. perbedaan pendapat**

Pembahasan.
Jawaban **C. perbedaan pendapat** paling tepat karena perdebatan terjadi ketika terdapat pandangan yang tidak sama mengenai suatu hal. Pembawa acara, penonton, catatan, dan kesimpulan tidak wajib ada dalam setiap perdebatan.

SE: MELENGKAPI KALIMAT · SOAL 9

9. Keputusan yang belum bersifat tetap disebut keputusan yang .....

A. mutlak **B.** rancu **C.** tentatif (pilihan Anda) (kunci) **D.** sepihak **E.** final

Jawaban Anda: **C. tentatif** · **Benar**

Pembahasan.
Jawaban **C. tentatif** benar karena tentatif berarti belum pasti atau belum tetap sehingga masih dapat berubah. Kalimat tersebut menyatakan bahwa keputusan itu belum bersifat tetap.

SE: MELENGKAPI KALIMAT · SOAL 10

10. Setiap payung memiliki .....

A. pegangan **B.** kancing **C.** tali pengikat **D.** rangka (kunci) **E.** pita hias (pilihan Anda)

Jawaban Anda: **E. pita hias** · **Kurang tepat** · Jawaban benar: **D. rangka**

Pembahasan.
Jawaban **D. rangka** benar karena rangka merupakan bagian pokok yang menopang dan membentuk payung. Pegangan, kancing, tali pengikat, dan pita hias hanya terdapat pada model payung tertentu.

SE: MELENGKAPI KALIMAT · SOAL 11

11. Suatu ..... tidak berfungsi mencegah cedera saat bekerja.

A. sarung tangan kerja **B.** sepatu keselamatan **C.** pelindung telinga **D.** pagar pembatas **E.** salep luka (pilihan Anda) (kunci)

Jawaban Anda: **E. salep luka** · **Benar**

Pembahasan.
Jawaban **E. salep luka** benar karena salep luka digunakan setelah luka terjadi, bukan untuk mencegah cedera saat bekerja. Pilihan lainnya merupakan perlengkapan atau sarana keselamatan yang berfungsi mencegah cedera.

SE: MELENGKAPI KALIMAT · SOAL 12

12. Panjang sisi terpendek kertas ukuran A4 ialah ..... cm.

A. 21 (pilihan Anda) (kunci) **B.** 24 **C.** 27 **D.** 29 **E.** 30

Jawaban Anda: **A. 21** · **Benar**

Pembahasan.
Jawaban **A. 21** benar karena ukuran kertas A4 adalah 21 cm × 29,7 cm. Jadi, sisi terpendeknya berukuran 21 cm.

SE: MELENGKAPI KALIMAT · SOAL 13

13. Orang yang berpandangan kuno dan enggan menerima gagasan baru dapat disebut .....

A. modern **B.** inovatif **C.** kolot (kunci) **D.** adaptif **E.** terbuka (pilihan Anda)

Jawaban Anda: **E. terbuka** · **Kurang tepat** · Jawaban benar: **C. kolot**

Pembahasan.
Jawaban **C. kolot** tepat karena kolot berarti berpandangan kuno dan tidak mudah menerima gagasan atau perubahan baru. Pilihan lainnya menunjukkan sikap mengikuti perkembangan, menciptakan pembaruan, menyesuaikan diri, atau menerima hal baru.

SE: MELENGKAPI KALIMAT · SOAL 14

14. Lawannya “diam” ialah .....

A. berjalan **B.** berlari **C.** bergerak (kunci) **D.** melangkah **E.** berpindah (pilihan Anda)

Jawaban Anda: **E. berpindah** · **Kurang tepat** · Jawaban benar: **C. bergerak**

Pembahasan.
Kata “diam” berarti tidak bergerak atau tidak melakukan gerakan. Lawan makna yang paling tepat adalah **C. bergerak**, sedangkan pilihan lain hanya menyatakan jenis gerakan tertentu.

SE: MELENGKAPI KALIMAT · SOAL 15

15. Panjang Pulau Jawa dari barat ke timur kira-kira ..... km.

A. 750 **B.** 900 **C.** 1200 **D.** 1000 (pilihan Anda) (kunci) **E.** 1500

Jawaban Anda: **D. 1000** · **Benar**

Pembahasan.
Panjang Pulau Jawa dari barat ke timur diperkirakan sekitar **D. 1000 km**. Angka 750 dan 900 km cenderung terlalu pendek, sementara 1200 dan 1500 km terlalu panjang.

CONTOH

SE: MELENGKAPI KALIMAT · SOAL 16

16. Sebelum menerima suatu berita, kita perlu memeriksa ..... sumbernya.

A. keandalan (pilihan Anda) (kunci) **B.** kelengkapan **C.** kejelasan **D.** ketepatan **E.** kebenaran

Jawaban Anda: **A. keandalan** · **Benar**

Pembahasan.
Jawaban yang tepat adalah **A. keandalan**. Keandalan sumber menunjukkan tingkat dapat dipercaya atau tidaknya sumber tersebut sebelum informasi diterima.

SE: MELENGKAPI KALIMAT · SOAL 17

17. Peserta yang datang lebih awal ..... memperoleh tempat duduk di bagian depan.

A. lazimnya (pilihan Anda) (kunci) **B.** seketika **C.** sengaja **D.** terutama **E.** sepenuhnya

Jawaban Anda: **A. lazimnya** · **Benar**

Pembahasan.
A. lazimnya paling tepat karena menyatakan kecenderungan yang umum terjadi: peserta yang datang lebih awal biasanya memperoleh tempat duduk di bagian depan.

SE: MELENGKAPI KALIMAT · SOAL 18

18. Dari beberapa kota di Pulau Kalimantan berikut, kota ..... berada pada posisi paling selatan.

A. Pontianak **B.** Samarinda **C.** Banjarmasin (pilihan Anda) (kunci) **D.** Palangka Raya **E.** Tanjung Selor

Jawaban Anda: **C. Banjarmasin** · **Benar**

Pembahasan.
Jawaban **C. Banjarmasin** benar karena secara geografis kota ini berada lebih selatan daripada Pontianak, Samarinda, Palangka Raya, dan Tanjung Selor. Dengan demikian, Banjarmasin paling tepat mengisi bagian rumpang.

CONTOH

SE: MELENGKAPI KALIMAT · SOAL 19

19. Jika diketahui persentase lampu yang gagal dalam pemeriksaan, kita dapat menentukan .....

A. kapasitas produksi **B.** harga jual lampu **C.** persentase lampu lolos (pilihan Anda) (kunci) **D.** lama pemeriksaan **E.** biaya perawatan

Jawaban Anda: **C. persentase lampu lolos** · **Benar**

Pembahasan.
Persentase lampu yang lolos dapat diperoleh dengan mengurangkan persentase lampu yang gagal dari 100%. Jadi, jawaban yang tepat adalah **C. persentase lampu lolos**.

SE: MELENGKAPI KALIMAT · SOAL 20

20. Keliling bumi di sekitar khatulistiwa kira-kira ..... kilometer.

A. 40.000 (pilihan Anda) (kunci) **B.** 30.000 **C.** 50.000 **D.** 60.000 **E.** 70.000

Jawaban Anda: **A. 40.000** · **Benar**

Pembahasan.
Keliling bumi di sekitar khatulistiwa kira-kira 40.075 kilometer. Jadi, **A. 40.000** merupakan perkiraan yang paling tepat.

WA: MENCARI KATA YANG BERBEDA · SOAL 21

21. Pilih kata yang **tidak** memiliki kesamaan dengan keempat kata lainnya.

A. spiral **B.** oval (pilihan Anda) **C.** cincin **D.** lingkaran **E.** segitiga (kunci)

Jawaban Anda: **B. oval** · **Kurang tepat** · Jawaban benar: **E. segitiga**

Pembahasan.
Jawaban yang benar adalah **E. segitiga**. Kata **spiral, oval, cincin,** dan **lingkaran** sama-sama berkaitan dengan bentuk yang melengkung atau membulat, sedangkan **segitiga** tersusun atas sisi lurus dan sudut.

CONTOH

WA: MENCARI KATA YANG BERBEDA · SOAL 22

22. Pilih kata yang **tidak** memiliki kesamaan dengan keempat kata lainnya.

A. memuji (pilihan Anda) (kunci) **B.** mengusap **C.** menekan **D.** mencubit **E.** mengiris

Jawaban Anda: **A. memuji** · **Benar**

Pembahasan.
Jawaban **A. memuji** benar karena memuji merupakan tindakan verbal, sedangkan mengusap, menekan, mencubit, dan mengiris merupakan tindakan fisik.

WA: MENCARI KATA YANG BERBEDA · SOAL 23

23. Pilih kata yang **tidak** memiliki kesamaan dengan keempat kata lainnya.

A. tinggi **B.** diameter **C.** diagonal (pilihan Anda) **D.** massa (kunci) **E.** jari-jari

Jawaban Anda: **C. diagonal** · **Kurang tepat** · Jawaban benar: **D. massa**

Pembahasan.
D. massa berbeda karena menyatakan banyaknya materi, sedangkan empat kata lainnya berkaitan dengan ukuran linear suatu bentuk.

WA: MENCARI KATA YANG BERBEDA · SOAL 24

24. Pilih kata yang **tidak** memiliki kesamaan dengan keempat kata lainnya.

A. menunda **B.** mengulur **C.** memperlambat **D.** menangguhkan **E.** mempercepat (pilihan Anda) (kunci)

Jawaban Anda: **E. mempercepat** · **Benar**

Pembahasan.
E. mempercepat berbeda karena berarti membuat sesuatu berlangsung lebih cepat, sedangkan empat pilihan lainnya bermakna menunda atau memperlambat.

CONTOH

WA: MENCARI KATA YANG BERBEDA · SOAL 25

25. Pilih kata yang **tidak** memiliki kesamaan dengan keempat kata lainnya.

A. khatulistiwa (pilihan Anda) (kunci) **B.** barat **C.** timur laut **D.** barat daya **E.** utara

Jawaban Anda: **A. khatulistiwa** · **Benar**

Pembahasan.
Jawaban yang benar adalah **A. khatulistiwa**. Keempat pilihan lainnya merupakan arah mata angin, sedangkan khatulistiwa adalah garis khayal pada permukaan bumi.

WA: MENCARI KATA YANG BERBEDA · SOAL 26

26. Pilih kata yang **tidak** memiliki kesamaan dengan keempat kata lainnya.

A. penurunan (pilihan Anda) (kunci) **B.** kenaikan **C.** pertumbuhan **D.** peningkatan **E.** perkembangan

Jawaban Anda: **A. penurunan** · **Benar**

Pembahasan.
Jawaban yang tepat adalah **A. penurunan**. Kata **kenaikan**, **pertumbuhan**, **peningkatan**, dan **perkembangan** sama-sama berkaitan dengan bertambah atau majunya sesuatu, sedangkan **penurunan** menunjukkan keadaan yang menjadi lebih rendah.

WA: MENCARI KATA YANG BERBEDA · SOAL 27

27. Pilih kata yang **tidak** memiliki kesamaan dengan keempat kata lainnya.

A. saku (pilihan Anda) (kunci) **B.** kancing **C.** resleting **D.** gesper **E.** pengait

Jawaban Anda: **A. saku** · **Benar**

Pembahasan.
Jawaban yang benar adalah **A. saku**. Kancing, resleting, gesper, dan pengait memiliki fungsi utama mengikat atau menutup, sedangkan saku digunakan untuk menyimpan barang.

CONTOH

WA: MENCARI KATA YANG BERBEDA · SOAL 28

28. Pilih kata yang **tidak** memiliki kesamaan dengan keempat kata lainnya.

A. redup **B.** jernih **C.** empuk (pilihan Anda) (kunci) **D.** suram **E.** cerah

Jawaban Anda: **C. empuk** · **Benar**

Pembahasan.
Jawaban yang benar adalah **C. empuk**. Kata “redup”, “jernih”, “suram”, dan “cerah” berhubungan dengan tampilan atau keadaan visual, sedangkan “empuk” menggambarkan tekstur yang dirasakan melalui sentuhan.

WA: MENCARI KATA YANG BERBEDA · SOAL 29

29. Pilih kata yang **tidak** memiliki kesamaan dengan keempat kata lainnya.

A. pensil **B.** pulpen **C.** penghapus (pilihan Anda) (kunci) **D.** spidol **E.** krayon

Jawaban Anda: **C. penghapus** · **Benar**

Pembahasan.
Jawaban yang benar adalah **C. penghapus**. Pensil, pulpen, spidol, dan krayon berfungsi menghasilkan tanda atau gambar, sedangkan penghapus berfungsi menghilangkannya.

WA: MENCARI KATA YANG BERBEDA · SOAL 30

30. Pilih kata yang **tidak** memiliki kesamaan dengan keempat kata lainnya.

A. gitar **B.** ukulele **C.** kecapi **D.** piano (pilihan Anda) (kunci) **E.** mandolin

Jawaban Anda: **D. piano** · **Benar**

Pembahasan.
Jawaban yang benar adalah **D. piano**. Gitar, ukulele, kecapi, dan mandolin dimainkan dengan cara dipetik, sedangkan piano dimainkan dengan menekan tuts.

CONTOH

WA: MENCARI KATA YANG BERBEDA · SOAL 31

31. Pilih kata yang **tidak** memiliki kesamaan dengan keempat kata lainnya.

A. halus **B.** kenyal **C.** lembut **D.** kesat (pilihan Anda) **E.** melingkar (kunci)

Jawaban Anda: **D. kesat** · **Kurang tepat** · Jawaban benar: **E. melingkar**

Pembahasan.
Jawaban yang benar adalah **E. melingkar**. Kata **halus, kenyal, lembut,** dan **kesat** sama-sama berkaitan dengan sifat permukaan yang dapat dirasakan, sedangkan **melingkar** menggambarkan bentuk benda.

WA: MENCARI KATA YANG BERBEDA · SOAL 32

32. Pilih kata yang **tidak** memiliki kesamaan dengan keempat kata lainnya.

A. denah **B.** rambu (pilihan Anda) **C.** arloji (kunci) **D.** mercusuar **E.** patok

Jawaban Anda: **B. rambu** · **Kurang tepat** · Jawaban benar: **C. arloji**

Pembahasan.
C. arloji berbeda karena menunjukkan waktu, sedangkan empat pilihan lainnya dapat menjadi petunjuk atau penanda untuk menemukan lokasi.

WA: MENCARI KATA YANG BERBEDA · SOAL 33

33. Pilih kata yang **tidak** memiliki kesamaan dengan keempat kata lainnya.

A. pengawasan **B.** keberanian (pilihan Anda) (kunci) **C.** pengaturan **D.** pengumpulan **E.** pengiriman

Jawaban Anda: **B. keberanian** · **Benar**

Pembahasan.
Jawaban **B. keberanian** benar karena tidak mengikuti pola pembentukan nomina berawalan peN- seperti pilihan lainnya. Keberanian dibentuk dari kata dasar berani dengan imbuhan ke-an, sedangkan pengawasan, pengaturan, pengumpulan, dan pengiriman berkaitan dengan tindakan atau proses.

CONTOH

WA: MENCARI KATA YANG BERBEDA · SOAL 34

34. Pilih kata yang **tidak** memiliki kesamaan dengan keempat kata lainnya.

A. mengayuh **B.** mengemudi **C.** berlari (pilihan Anda) (kunci) **D.** mendayung **E.** menunggang

Jawaban Anda: **C. berlari** · **Benar**

Pembahasan.
Jawaban **C. berlari** benar karena “mengayuh”, “mengemudi”, “mendayung”, dan “menunggang” menunjukkan kegiatan bergerak dengan bantuan alat, kendaraan, atau hewan. “Berlari” dilakukan langsung dengan tenaga tubuh sendiri.

WA: MENCARI KATA YANG BERBEDA · SOAL 35

35. Pilih kata yang **tidak** memiliki kesamaan dengan keempat kata lainnya.

A. biografi (pilihan Anda) (kunci) **B.** novel **C.** cerpen **D.** dongeng **E.** fabel

Jawaban Anda: **A. biografi** · **Benar**

Pembahasan.
A. biografi tidak sekelompok dengan empat kata lainnya: biografi mengisahkan kehidupan nyata, sedangkan novel, cerpen, dongeng, dan fabel merupakan cerita rekaan.

WA: MENCARI KATA YANG BERBEDA · SOAL 36

36. Pilih kata yang **tidak** memiliki kesamaan dengan keempat kata lainnya.

A. cekung **B.** cembung **C.** datar (pilihan Anda) **D.** berlekuk **E.** tebal (kunci)

Jawaban Anda: **C. datar** · **Kurang tepat** · Jawaban benar: **E. tebal**

Pembahasan.
Jawaban **E. tebal** benar karena “cekung”, “cembung”, “datar”, dan “berlekuk” menggambarkan bentuk atau karakteristik permukaan benda. Sementara itu, “tebal” terutama menunjukkan ukuran atau dimensi, bukan bentuk khusus.

WA: MENCARI KATA YANG BERBEDA · SOAL 37

37. Pilih kata yang **tidak** memiliki kesamaan dengan keempat kata lainnya.

A. selak **B.** selot **C.** gagang pintu (pilihan Anda) (kunci) **D.** kait pintu **E.** rantai pintu

Jawaban Anda: **C. gagang pintu** · **Benar**

Pembahasan.
C. gagang pintu berbeda karena berfungsi sebagai pegangan untuk membuka atau menutup pintu, sedangkan empat pilihan lainnya merupakan mekanisme untuk menahan atau mengamankan pintu.

WA: MENCARI KATA YANG BERBEDA · SOAL 38

38. Pilih kata yang **tidak** memiliki kesamaan dengan keempat kata lainnya.

A. engsel (pilihan Anda) **B.** jahitan **C.** perjanjian **D.** rombongan (kunci) **E.** sekat

Jawaban Anda: **A. engsel** · **Kurang tepat** · Jawaban benar: **D. rombongan**

Pembahasan.
Empat kata selain rombongan berkaitan dengan fungsi menghubungkan, menyatukan, mengikat, atau memisahkan. **D. rombongan** berbeda karena berarti kumpulan orang.

WA: MENCARI KATA YANG BERBEDA · SOAL 39

39. Pilih kata yang **tidak** memiliki kesamaan dengan keempat kata lainnya.

A. menghaluskan **B.** meratakan **C.** menghibur (pilihan Anda) (kunci) **D.** memoles **E.** mengilapkan

Jawaban Anda: **C. menghibur** · **Benar**

Pembahasan.
Jawaban yang benar adalah **C. menghibur**. Kata **menghaluskan, meratakan, memoles,** dan **mengilapkan** sama-sama berkaitan dengan mengolah permukaan benda, sedangkan **menghibur** berkaitan dengan perasaan atau keadaan seseorang.

CONTOH

WA: MENCARI KATA YANG BERBEDA · SOAL 40

40. Pilih kata yang **tidak** memiliki kesamaan dengan keempat kata lainnya.

A. keramik **B.** kaca **C.** aluminium **D.** beton **E.** wol (pilihan Anda) (kunci)

Jawaban Anda: **E. wol** · **Benar**

> **Pembahasan.**
> Jawaban **E. wol** benar karena keramik, kaca, aluminium, dan beton memiliki sifat keras atau padat, sedangkan wol berupa serat yang lembut dan lentur.

AN: ANALOGI KATA · SOAL 41

41. Menerima : menolak = Memuji : ?

A. mencela (kunci) **B.** menyanjung **C.** menghargai **D.** menilai (pilihan Anda) **E.** menyapa

Jawaban Anda: **D. menilai** · **Kurang tepat** · Jawaban benar: **A. mencela**

> **Pembahasan.**
> Menerima berlawanan makna dengan menolak. Hubungan yang sama terdapat pada memuji dan **A. mencela**.

AN: ANALOGI KATA · SOAL 42

42. Dokumen : map = Kue : ?

A. toples (pilihan Anda) (kunci) **B.** piring **C.** meja **D.** dapur **E.** oven

Jawaban Anda: **A. toples** · **Benar**

> **Pembahasan.**
> **Map** adalah wadah untuk menyimpan dokumen. Hubungan yang sama ditunjukkan oleh **A. toples**, yaitu wadah untuk menyimpan kue.

CONTOH

AN: ANALOGI KATA · SOAL 43

43. Pesawat : landasan pacu = Helikopter : ?

A. baling-baling **B.** helipad (pilihan Anda) (kunci) **C.** kabin **D.** bahan bakar **E.** hanggar

Jawaban Anda: **B. helipad** · **Benar**

Pembahasan.
Hubungan **pesawat** dengan **landasan pacu** adalah tempat yang digunakan untuk lepas landas dan mendarat. Dengan hubungan yang sama, **helikopter** menggunakan **helipad**.

AN: ANALOGI KATA · SOAL 44

44. Tembaga : aluminium = Anting : ?

A. topi **B.** sandal **C.** bros (kunci) **D.** sabuk (pilihan Anda) **E.** selendang

Jawaban Anda: **D. sabuk** · **Kurang tepat** · Jawaban benar: **C. bros**

Pembahasan.
Hubungan **tembaga : aluminium** menunjukkan dua benda yang sama-sama termasuk logam. Anting dan **C. bros** juga merupakan dua jenis perhiasan yang sekelompok.

AN: ANALOGI KATA · SOAL 45

45. Persegi panjang : balok = Segitiga : ?

A. prisma segitiga (pilihan Anda) (kunci) **B.** limas segitiga **C.** tabung **D.** kerucut **E.** prisma segi lima

Jawaban Anda: **A. prisma segitiga** · **Benar**

Pembahasan.
Hubungannya adalah bangun datar yang diperpanjang menjadi bangun ruang dengan penampang yang sama. Persegi panjang menjadi balok, sedangkan segitiga menjadi **A. prisma segitiga**.

CONTOH

AN: ANALOGI KATA · SOAL 46

46. Pertimbangan : keputusan = Membahas : ?

A. pendapat **B.** keputusan (pilihan Anda) (kunci) **C.** masalah **D.** alasan **E.** pertanyaan

Jawaban Anda: **B. keputusan** · **Benar**

Pembahasan.
Pertimbangan dapat mengarah pada **B. keputusan**; demikian pula membahas suatu hal dapat menghasilkan keputusan. Pilihan lain hanya berkaitan dengan proses atau isi pembahasan, bukan hasil yang paling tepat.

AN: ANALOGI KATA · SOAL 47

47. Mulut : getir = Hidung : ?

A. menelan **B.** bersin **C.** wangi (pilihan Anda) (kunci) **D.** pedas **E.** gurih

Jawaban Anda: **C. wangi** · **Benar**

Pembahasan.
Getir adalah rasa yang dikenali melalui mulut, sedangkan hidung mengenali bau. Jadi, jawaban yang tepat adalah **C. wangi**.

AN: ANALOGI KATA · SOAL 48

48. Cahaya : jendela = Udara : ?

A. atap **B.** kipas (pilihan Anda) **C.** ventilasi (kunci) **D.** kamar **E.** pintu

Jawaban Anda: **B. kipas** · **Kurang tepat** · Jawaban benar: **C. ventilasi**

Pembahasan.
Hubungan **cahaya : jendela** adalah cahaya masuk melalui jendela. Hubungan yang sama terdapat pada **udara : ventilasi**, karena udara keluar-masuk melalui ventilasi.

CONTOH

AN: ANALOGI KATA · SOAL 49

49. Rem : penghenti = Kemudi : ?

A. penggerak **B.** penyeimbang **C.** pengarah (pilihan Anda) (kunci) **D.** penghubung **E.** penahan

Jawaban Anda: **C. pengarah** · **Benar**

Pembahasan.
Hubungan **rem : penghenti** menunjukkan suatu bagian berdasarkan peran atau fungsinya. Dengan pola yang sama, kemudi berperan sebagai **C. pengarah**, yaitu alat untuk menentukan arah gerak.

AN: ANALOGI KATA · SOAL 50

50. Pembuat roti : pembuat kue = Pengrajin mebel : ?

A. toko mebel **B.** tanah liat **C.** pembeli mebel **D.** ruang pamer **E.** pengrajin keramik (pilihan Anda) (kunci)

Jawaban Anda: **E. pengrajin keramik** · **Benar**

Pembahasan.
Pembuat roti dan pembuat kue merupakan dua pekerjaan yang sama-sama menghasilkan makanan dengan jenis berbeda. Hubungan yang sama terdapat pada pengrajin mebel dan **E. pengrajin keramik**, yaitu dua pekerjaan yang menghasilkan benda berbeda.

AN: ANALOGI KATA · SOAL 51

51. Hidung tersumbat : aroma = Lidah kebas : ?

A. manisan **B.** makanan (pilihan Anda) **C.** bumbu **D.** minuman **E.** rasa (kunci)

Jawaban Anda: **B. makanan** · **Kurang tepat** · Jawaban benar: **E. rasa**

Pembahasan.
Hidung tersumbat dapat mengurangi kemampuan mengenali **aroma**. Dengan hubungan yang sama, lidah kebas dapat mengurangi kemampuan mengenali **E. rasa**.

AN: ANALOGI KATA · SOAL 52

52. Makanan : bumbu = Sambutan : ?

A. humor (pilihan Anda) (kunci) **B.** salam **C.** pembukaan **D.** pembicara **E.** penutup

Jawaban Anda: **A. humor** · **Benar**

Pembahasan.
Hubungan makanan dan bumbu adalah bumbu menjadi pelengkap yang menambah daya tarik makanan. Dalam sambutan, **A. humor** dapat menjadi selingan atau penyegar agar penyampaian lebih menarik.

AN: ANALOGI KATA · SOAL 53

53. Kecewa : perasaan = Takut : ?

A. niat **B.** tabiat **C.** reaksi **D.** sikap **E.** perasaan (pilihan Anda) (kunci)

Jawaban Anda: **E. perasaan** · **Benar**

Pembahasan.
Kecewa adalah salah satu **perasaan**, dan takut juga merupakan salah satu perasaan. Oleh karena itu, jawaban yang benar adalah **E. perasaan**.

AN: ANALOGI KATA · SOAL 54

54. Piano : gitar = Apel : ?

A. pohon **B.** jeruk (kunci) **C.** manis (pilihan Anda) **D.** kebun **E.** kulit

Jawaban Anda: **C. manis** · **Kurang tepat** · Jawaban benar: **B. jeruk**

Pembahasan.
Piano dan gitar sama-sama merupakan alat musik. Apel dan **B. jeruk** sama-sama merupakan jenis buah.

CONTOH

AN: ANALOGI KATA · SOAL 55

55. Kedalaman laut : tekanan air = Ketinggian tempat : ?

A. kelembapan udara **B.** arah angin **C.** curah hujan **D.** suhu udara (pilihan Anda) (kunci) **E.** tutupan awan

Jawaban Anda: **D. suhu udara** · **Benar**

Pembahasan.
Hubungannya adalah suatu ukuran tempat memengaruhi keadaan fisik tertentu: semakin dalam laut, tekanan air semakin besar; demikian pula ketinggian tempat memengaruhi suhu udara. Jawaban yang tepat adalah **D. suhu udara**.

AN: ANALOGI KATA · SOAL 56

56. Perusahaan : restrukturisasi = Organisme : ?

A. adaptasi (kunci) **B.** habitat **C.** reproduksi (pilihan Anda) **D.** metabolisme **E.** pertumbuhan

Jawaban Anda: **C. reproduksi** · **Kurang tepat** · Jawaban benar: **A. adaptasi**

Pembahasan.
Hubungan **perusahaan : restrukturisasi** adalah perubahan susunan atau cara kerja suatu perusahaan. Hubungan yang sama terdapat pada **organisme : adaptasi**, karena adaptasi merupakan perubahan pada organisme agar sesuai dengan lingkungannya.

AN: ANALOGI KATA · SOAL 57

57. Kebisingan : penyumbat telinga = Silau : ?

A. kacamata bening **B.** topi lebar **C.** kacamata hitam (pilihan Anda) (kunci) **D.** payung lipat **E.** lensa pembesar

Jawaban Anda: **C. kacamata hitam** · **Benar**

Pembahasan.
Kebisingan dapat diatasi dengan penyumbat telinga, sedangkan silau dapat dikurangi dengan **C. kacamata hitam**.

AN: ANALOGI KATA · SOAL 58

58. Kaca : dipoles = Kayu : ?

A. dipahat **B.** diamplas (kunci) **C.** dicat (pilihan Anda) **D.** dipaku **E.** dibakar

Jawaban Anda: **C. dicat** · **Kurang tepat** · Jawaban benar: **B. diamplas**

Pembahasan.
Kaca biasanya **dipoles** untuk menghaluskan permukaannya. Dengan hubungan yang sama, kayu biasanya **B. diamplas** untuk menghaluskan permukaan.

AN: ANALOGI KATA · SOAL 59

59. Penjahit : jarum = Pengrajin kayu : ?

A. mebel **B.** serbuk kayu **C.** bengkel **D.** pahat (pilihan Anda) (kunci) **E.** ukiran

Jawaban Anda: **D. pahat** · **Benar**

Pembahasan.
Jarum adalah alat yang digunakan oleh penjahit. Dengan hubungan yang sama, **D. pahat** merupakan alat yang digunakan oleh pengrajin kayu.

AN: ANALOGI KATA · SOAL 60

60. Gundukan : bukit = Percikan : ?

A. bara kecil **B.** asap tipis **C.** nyala redup **D.** pijar terang **E.** kobaran besar (pilihan Anda) (kunci)

Jawaban Anda: **E. kobaran besar** · **Benar**

Pembahasan.
Hubungan **gundukan : bukit** menunjukkan bentuk yang kecil berkembang menjadi bentuk yang lebih besar dan menonjol. Hubungan yang sama terdapat pada **percikan : kobaran besar**, sehingga jawaban yang tepat adalah **E. kobaran besar**.

CONTOH

GE: PERSAMAAN KATA · SOAL 61

61. apel — pisang

Jawaban Anda: **tidak dijawab** · **Tidak dijawab** · Jawaban benar: **buah / buah-buahan (nilai sebagian: pangan, makanan, tumbuhan)**

Pembahasan.
Apel dan **pisang** sama-sama termasuk **buah**, sehingga kata tersebut paling tepat meliputi pengertian keduanya. “Buah-buahan” juga merupakan bentuk yang tepat untuk menyatakan kelompok buah.

GE: PERSAMAAN KATA · SOAL 62

62. kucing — anjing

Jawaban Anda: **hewan** · **Benar**

Pembahasan.
Kucing dan anjing sama-sama termasuk kelompok **hewan**, **binatang**, atau secara lebih khusus **mamalia**. Istilah seperti fauna dan makhluk hidup masih berkaitan, tetapi cakupannya tidak setepat jawaban utama.

GE: PERSAMAAN KATA · SOAL 63

63. kuda — sapi

Jawaban Anda: **mamalia** · **Benar**

Pembahasan.
Kuda dan sapi sama-sama termasuk kelompok mamalia. Jawaban yang tepat adalah **mamalia**.

GE: PERSAMAAN KATA · SOAL 64

64. kambing — kelinci

Jawaban Anda: **mamalia** · **Benar**

Pembahasan.
Kambing dan kelinci sama-sama termasuk golongan **mamalia**.

CONTOH

GE: PERSAMAAN KATA · SOAL 65

65. siaran — buletin

Jawaban Anda: **media** · **Benar**

> **Pembahasan.**
> Siaran dan buletin sama-sama merupakan **media** untuk menyampaikan informasi kepada orang lain.

GE: PERSAMAAN KATA · SOAL 66

66. bus — sepeda

Jawaban Anda: **kendaraan** · **Benar**

> **Pembahasan.**
> Bus dan sepeda sama-sama merupakan **kendaraan** yang digunakan untuk berpindah tempat. Istilah **alat transportasi** dan **sarana transportasi** juga mencakup keduanya.

GE: PERSAMAAN KATA · SOAL 67

67. paru-paru — ginjal

Jawaban Anda: **tidak dijawab** · **Tidak dijawab** · Jawaban benar: **organ / organ tubuh / alat tubuh (nilai sebagian: bagian tubuh, anggota tubuh)**

> **Pembahasan.**
> Paru-paru dan ginjal sama-sama merupakan organ tubuh. **Organ** mencakup pengertian keduanya secara tepat.

GE: PERSAMAAN KATA · SOAL 68

68. tua — muda

Jawaban Anda: **usia** · **Benar**

> **Pembahasan.**
> Kata **usia** merupakan pengertian yang meliputi tua dan muda karena keduanya menunjukkan tahap atau masa hidup. “Umur” juga merupakan sinonim baku yang tepat.

GE: PERSAMAAN KATA · SOAL 69

69. nyala — bara

Jawaban Anda: **api** · **Benar**

> **Pembahasan.**
> Nyala dan bara merupakan **api** dalam keadaan yang berbeda: nyala tampak berkobar, sedangkan bara masih menyala tanpa nyala besar.

GE: PERSAMAAN KATA · SOAL 70

70. cita-cita — harapan

Jawaban Anda: **keinginan** · **Benar**

> **Pembahasan.**
> Kata bernilai 2 adalah **keinginan**, **impian**, atau **angan-angan** karena cita-cita dan harapan sama-sama merupakan sesuatu yang diinginkan atau dibayangkan untuk terwujud. Kata **niat**, **rencana**, dan **hasrat** hanya berhubungan dengan sebagian maknanya.

GE: PERSAMAAN KATA · SOAL 71

71. lumut — rusa

Jawaban Anda: **tidak dijawab** · **Tidak dijawab** · Jawaban benar: **makhluk / makhluk hidup / organisme / organisme hidup (nilai sebagian: hidup, biologi, ilmu hayat, ilmu hayati)**

> **Pembahasan.**
> Lumut dan rusa sama-sama tergolong **makhluk hidup** atau organisme.

CONTOH

GE: PERSAMAAN KATA · SOAL 72

72. peta — diagram

Jawaban Anda: **tidak dijawab** · **Tidak dijawab** · Jawaban benar: **representasi / visualisasi / gambaran / peragaan / penyajian (nilai sebagian: gambar, ilustrasi, lukisan, skema)**

> **Pembahasan.**
> **Peta** dan **diagram** sama-sama merupakan **representasi**, yaitu penyajian suatu objek, keadaan, atau hubungan dalam bentuk yang dapat dipahami. Oleh sebab itu, **representasi** menjadi pengertian yang paling tepat untuk keduanya.

GE: PERSAMAAN KATA · SOAL 73

73. kehadiran — ketidakhadiran

Jawaban Anda: **status** · **Benar**

> **Pembahasan.**
> Kata **status** tepat karena kehadiran dan ketidakhadiran sama-sama menunjukkan status seseorang dalam suatu keadaan atau kegiatan.

GE: PERSAMAAN KATA · SOAL 74

74. optimistis — pesimistis

Jawaban Anda: **pandangan** · **Benar**

> **Pembahasan.**
> Optimistis dan pesimistis menunjukkan pandangan yang berbeda terhadap keadaan atau kemungkinan yang akan terjadi. Kata **pandangan** mencakup pengertian keduanya.

CONTOH

GE: PERSAMAAN KATA · SOAL 75

75. premis — kesimpulan

Jawaban Anda: **proposisi** · **Benar**

Pembahasan.
Jawaban **proposisi** bernilai 2 karena premis dan kesimpulan sama-sama merupakan proposisi, yakni pernyataan yang dapat dinilai benar atau salah dalam suatu penalaran. Pilihan lain hanya menyatakan bentuk atau isi yang lebih umum.

GE: PERSAMAAN KATA · SOAL 76

76. serong — tegak

Jawaban Anda: **orientasi** · **Benar**

Pembahasan.
Kata **serong** dan **tegak** sama-sama menggambarkan orientasi atau arah suatu posisi. Istilah yang paling tepat untuk mencakup keduanya adalah **orientasi**.

RA: HITUNGAN · SOAL 77

77. Ibu membeli 50 butir telur. Dalam perjalanan pulang, 21 butir pecah. Berapa butir telur yang masih utuh?

Jawaban Anda: **29** · **Benar**

Pembahasan.
Telur yang masih utuh = jumlah semula dikurangi yang pecah: 50 − 21 = **29 butir**.

RA: HITUNGAN · SOAL 78

78. Sebuah kapal berlayar sejauh 30 km dalam satu jam. Dengan kecepatan yang sama, berapa km yang ditempuh kapal itu dalam 4 jam?

Jawaban Anda: **120** · **Benar**

Pembahasan.
Jarak = kecepatan × waktu = 30 × 4 = **120 km**.

RA: HITUNGAN · SOAL 79

79. Seorang pedagang menimbang 13 karung beras dan mendapat berat total 190 kg. Satu karung kosong beratnya 2 kg. Berapa kg berat beras di dalam karung-karung itu?

Jawaban Anda: **164** · **Benar**

Pembahasan.
Berat semua karung kosong = 13 × 2 = 26 kg. Berat beras = 190 − 26 = **164 kg**.

RA: HITUNGAN · SOAL 80

80. Bekal air minum di sebuah kapal cukup untuk 4 orang awak selama 117 hari. Berapa hari bekal itu cukup jika awaknya 12 orang?

Jawaban Anda: **39** · **Benar**

Pembahasan.
Persediaan itu sama dengan 4 × 117 = 468 jatah harian. Untuk 12 orang: 468 ÷ 12 = **39 hari**.

RA: HITUNGAN · SOAL 81

81. Setiap 4 butir telur dijual seharga 3 ribu rupiah. Berapa butir telur yang didapat dengan uang 15 ribu rupiah?

Jawaban Anda: **20** · **Benar**

Pembahasan.
15 ribu rupiah cukup untuk 15 ÷ 3 = 5 kali harga 3 ribu rupiah, dan setiap 3 ribu rupiah mendapat 4 butir. Jadi 5 × 4 = **20 butir**.

RA: HITUNGAN · SOAL 82

82. Tiap ¼ detik, seorang atlet lari cepat maju 1,25 m. Bila kecepatannya tetap, berapa meter yang ia tempuh selama 4 detik?

Jawaban Anda: **20** · **Benar**

Pembahasan.
Satu detik terdiri atas empat kali ¼ detik, jadi dalam 1 detik atlet itu menempuh 4 × 1,25 = 5 m. Dalam 4 detik: 4 × 5 = **20 m**.

RA: HITUNGAN · SOAL 83

83. Sekolah terletak 40 m di sebelah utara pasar, dan pasar terletak 50 m di sebelah utara masjid. Berapa meter jarak antara sekolah dan masjid?

Jawaban Anda: **90** · **Benar**

> **Pembahasan.**
> Sekolah, pasar, dan masjid berada pada satu garis ke arah utara, jadi jaraknya dijumlahkan: 40 + 50 = **90 m**.

RA: HITUNGAN · SOAL 84

84. Tali tambang sepanjang 4½ m dijual seharga 45 ribu rupiah. Berapa ribu rupiah harga tali tambang yang sama sepanjang 2½ m?

Jawaban Anda: **tidak dijawab** · **Tidak dijawab** · Jawaban benar: **angka 2, 5 (urutan bebas)**

> **Pembahasan.**
> Harga per meter = 45 ÷ 4½ = 10 ribu rupiah. Harga 2½ meter = 2½ × 10 = **25 ribu rupiah**.

RA: HITUNGAN · SOAL 85

85. Sebidang sawah biasanya dipanen oleh 9 petani selama 3 hari. Kalau panen harus beres dalam setengah hari, berapa petani yang dibutuhkan?

Jawaban Anda: **54** · **Benar**

> **Pembahasan.**
> Pekerjaan itu sama dengan 9 × 3 = 27 hari kerja satu petani. Agar selesai dalam ½ hari diperlukan 27 ÷ ½ = **54 petani**.

CONTOH

RA: HITUNGAN · SOAL 86

86. Sebuah foto yang lebarnya 24 cm diperbesar sehingga lebarnya menjadi 27 cm. Dengan perbesaran yang sama, foto yang lebarnya 32 cm akan menjadi berapa cm?

Jawaban Anda: **36** · **Benar**

> **Pembahasan.**
> Lebar foto bertambah dengan perbandingan 24 : 27 = 8 : 9. Foto 32 cm menjadi 32 × 9 ÷ 8 = **36 cm**.

RA: HITUNGAN · SOAL 87

87. Mesin di sebuah percetakan mampu mencetak 400 lembar brosur selama 5 jam. Berapa lembar brosur yang tercetak dalam 30 menit?

Jawaban Anda: **40** · **Benar**

> **Pembahasan.**
> Dalam 1 jam: 400 ÷ 5 = 80 lembar. Dalam setengah jam: 80 ÷ 2 = **40 lembar**.

RA: HITUNGAN · SOAL 88

88. Cat hijau dibuat dari 3 bagian cat kuning dan 2 bagian cat biru. Berapa liter cat kuning yang dibutuhkan untuk membuat 15 liter cat hijau?

Jawaban Anda: **tidak dijawab** · **Tidak dijawab** · Jawaban benar: **9**

> **Pembahasan.**
> Seluruh campuran = 3 + 2 = 5 bagian, jadi 1 bagian = 15 ÷ 5 = 3 liter. Cat kuning = 3 × 3 = **9 liter**.

CONTOH
KP-G0P47R60WT · klikpsikotes.com

RA: HITUNGAN · SOAL 89

89. Di sebuah kebun, untuk setiap 5 pohon mangga terdapat 7 pohon jeruk. Jika seluruhnya ada 180 pohon, berapa pohon jeruk di kebun itu?

Jawaban Anda: **105** · **Benar**

> **Pembahasan.**
> Perbandingan mangga : jeruk = 5 : 7, seluruhnya 12 bagian. 1 bagian = 180 ÷ 12 = 15. Pohon jeruk = 7 × 15 = **105 pohon**.

RA: HITUNGAN · SOAL 90

90. Dua mesin jahit bekerja bersamaan. Saat mesin A sudah menjahit 50 potong baju, mesin B baru menjahit 75 potong. Berapa potong yang sudah dijahit mesin A ketika mesin B mencapai 30 potong?

Jawaban Anda: **20** · **Benar**

> **Pembahasan.**
> Perbandingan mesin A : mesin B = 50 : 75 = 2 : 3. Jadi mesin A menjahit 30 × 2 ÷ 3 = **20 potong**.

RA: HITUNGAN · SOAL 91

91. Seorang petani menjual 1/12 hasil panennya ke pasar dan 5 kali jumlah itu ke koperasi. Sisanya, 96 kg, disimpan di lumbung. Berapa kg hasil panen semula?

Jawaban Anda: **192** · **Benar**

> **Pembahasan.**
> Ke pasar 1/12 dan ke koperasi 5 × 1/12 = 5/12, jadi yang terpakai 6/12 dan sisanya 6/12 bagian = 96 kg. 1/12 bagian = 16 kg, jadi hasil panen semula = 12 × 16 = **192 kg**.

RA: HITUNGAN · SOAL 92

92. Jumlah siswa di dua kelas adalah 43 orang. Kelas yang satu memiliki 5 siswa lebih banyak daripada kelas yang lain. Berapa siswa di kelas yang lebih kecil?

Jawaban Anda: **tidak dijawab** · **Tidak dijawab** · Jawaban benar: **angka 1, 9 (urutan bebas)**

> **Pembahasan.**
> Kurangi dulu selisihnya: 43 − 5 = 38, lalu bagi dua: 38 ÷ 2 = **19 siswa**.

RA: HITUNGAN · SOAL 93

93. Sebidang tanah yang lebarnya 98 m dibagi menjadi dua petak sehingga lebar petak yang satu ¾ dari lebar petak yang lain. Berapa meter lebar petak yang lebih sempit?

Jawaban Anda: **tidak dijawab** · **Tidak dijawab** · Jawaban benar: **angka 4, 2 (urutan bebas)**

> **Pembahasan.**
> Perbandingan kedua bagian = 3 : 4, seluruhnya 7 bagian. 1 bagian = 98 ÷ 7 = 14 m, jadi petak yang lebih sempit = 3 × 14 = **42 m**.

RA: HITUNGAN · SOAL 94

94. Dari seluruh anggaran sebuah kegiatan, 3/5 dipakai untuk konsumsi dan 3/5 dari sisanya untuk sewa tempat. Berapa persen anggaran yang masih tersisa?

Jawaban Anda: **tidak dijawab** · **Tidak dijawab** · Jawaban benar: **angka 1, 6 (urutan bebas)**

> **Pembahasan.**
> Setelah konsumsi, yang tersisa 1 − 3/5 = 2/5. Dari sisa itu 3/5 dipakai untuk sewa tempat, jadi yang masih tinggal 2/5 dari sisa: 2/5 × 2/5 = 4/25 = **16%**.

RA: HITUNGAN · SOAL 95

95. Sebuah ember yang terisi ¾ bagian berisi madu seharga 48 ribu rupiah. Berapa ribu rupiah harga madu itu jika ember hanya terisi 3/8 penuh?

Jawaban Anda: **24** · **Benar**

> **Pembahasan.**
> Harga isi satu ember penuh = 48 ÷ ¾ = 64 ribu rupiah. Jika terisi 3/8: 3/8 × 64 = **24 ribu rupiah**.

CONTOH
KP-G0P47R60WT · klikpsikotes.com

RA: HITUNGAN · SOAL 96

96. Di keluarga Hasan, setiap anak perempuan menghitung bahwa saudara laki-lakinya sama banyak dengan saudara perempuannya. Setiap anak laki-laki menghitung bahwa saudara perempuannya tiga kali jumlah saudara laki-lakinya. Ada berapa anak laki-laki di keluarga Hasan?

Jawaban Anda: **2** · **Benar**

Pembahasan.
Misalkan jumlah anak laki-laki = L dan anak perempuan = P. Seorang anak perempuan mempunyai L saudara laki-laki dan P − 1 saudara perempuan, jadi L = P − 1. Seorang anak laki-laki mempunyai P saudara perempuan dan L − 1 saudara laki-laki, jadi P = 3(L − 1). Kedua syarat terpenuhi oleh L = 2 dan P = 3. Jadi, ada **2 anak laki-laki**.

ZR: DERET ANGKA · SOAL 97

97. **7 10 13 16 19 22 25 ?**

Jawaban Anda: **28** · **Benar**

Pembahasan.
Setiap angka bertambah 3: 7 + 3 = 10, 10 + 3 = 13, 13 + 3 = 16, dan seterusnya. Angka berikutnya adalah 25 + 3 = **28**.

ZR: DERET ANGKA · SOAL 98

98. **12 14 17 19 22 24 27 ?**

Jawaban Anda: **29** · **Benar**

Pembahasan.
Penambahannya bergantian +2 dan +3: 12 + 2 = 14, 14 + 3 = 17, 17 + 2 = 19, dan seterusnya. Angka berikutnya adalah 27 + 2 = **29**.

CONTOH
KP-G0P47R60WT · klikpsikotes.com

ZR: DERET ANGKA · SOAL 99

99. **16 15 20 19 24 23 28 ?**

Jawaban Anda: **27** · **Benar**

Pembahasan.
Polanya bergantian dikurangi 1 lalu ditambah 5: 16 − 1 = 15, 15 + 5 = 20, 20 − 1 = 19, dan seterusnya. Angka berikutnya adalah 28 − 1 = **27**.

ZR: DERET ANGKA · SOAL 100

100. **23 18 24 19 25 20 26 ?**

Jawaban Anda: **21** · **Benar**

Pembahasan.
Polanya bergantian dikurangi 5 lalu ditambah 6: 23 − 5 = 18, 18 + 6 = 24, 24 − 5 = 19, dan seterusnya. Angka berikutnya adalah 26 − 5 = **21**.

ZR: DERET ANGKA · SOAL 101

101. **3 7 14 18 36 40 80 ?**

Jawaban Anda: **84** · **Benar**

Pembahasan.
Polanya bergantian ditambah 4 lalu dikali 2: 3 + 4 = 7, 7 × 2 = 14, 14 + 4 = 18, dan seterusnya. Angka berikutnya adalah 80 + 4 = **84**.

ZR: DERET ANGKA · SOAL 102

102. **27 26 28 25 29 24 30 ?**

Jawaban Anda: **23** · **Benar**

Pembahasan.
Selisihnya bergantian dikurangi dan ditambah, dan besarnya naik satu setiap langkah: −1, +2, −3, +4: 27 − 1 = 26, 26 + 2 = 28, 28 − 3 = 25, dan seterusnya. Angka berikutnya adalah 30 − 7 = **23**.

CONTOH

ZR: DERET ANGKA · SOAL 103

103. **44 40 20 60 56 28 84 ?**

Jawaban Anda: **80** · **Benar**

Pembahasan.
Polanya berulang setiap tiga langkah, yaitu dikurangi 4, dibagi 2, lalu dikali 3: 44 − 4 = 40, 40 ÷ 2 = 20, 20 × 3 = 60, dan seterusnya. Angka berikutnya adalah 84 − 4 = **80**.

ZR: DERET ANGKA · SOAL 104

104. **44 45 48 24 8 9 12 ?**

Jawaban Anda: **tidak dijawab** · **Tidak dijawab** · Jawaban benar: **6**

Pembahasan.
Polanya berulang: ditambah 1, ditambah 3, dibagi 2, lalu dibagi 3: 44 + 1 = 45, 45 + 3 = 48, 48 ÷ 2 = 24, dan seterusnya. Angka berikutnya adalah 12 ÷ 2 = **6**.

ZR: DERET ANGKA · SOAL 105

105. **12 13 11 13 14 12 14 ?**

Jawaban Anda: **15** · **Benar**

Pembahasan.
Polanya berulang setiap tiga langkah: +1, −2, lalu +2: 12 + 1 = 13, 13 − 2 = 11, 11 + 2 = 13, dan seterusnya. Angka berikutnya adalah 14 + 1 = **15**.

ZR: DERET ANGKA · SOAL 106

106. **13 11 14 10 15 9 16 ?**

Jawaban Anda: **8** · **Benar**

Pembahasan.
Selisihnya bergantian dikurangi dan ditambah, dan besarnya naik satu setiap langkah: −2, +3, −4, +5: 13 − 2 = 11, 11 + 3 = 14, 14 − 4 = 10, dan seterusnya. Angka berikutnya adalah 16 − 8 = **8**.

ZR: DERET ANGKA · SOAL 107

107. **46 44 22 20 10 8 4 ?**

Jawaban Anda: **2** · **Benar**

Pembahasan.
Polanya bergantian dikurangi 2 lalu dibagi 2: 46 − 2 = 44, 44 ÷ 2 = 22, 22 − 2 = 20, dan seterusnya. Angka berikutnya adalah 4 − 2 = **2**.

ZR: DERET ANGKA · SOAL 108

108. **6 9 10 8 11 12 10 ?**

Jawaban Anda: **tidak dijawab** · **Tidak dijawab** · Jawaban benar: **angka 1, 3 (urutan bebas)**

Pembahasan.
Polanya berulang setiap tiga langkah: +3, +1, lalu −2: 6 + 3 = 9, 9 + 1 = 10, 10 − 2 = 8, dan seterusnya. Angka berikutnya adalah 10 + 3 = **13**.

ZR: DERET ANGKA · SOAL 109

109. **10 14 19 24 30 36 43 ?**

Jawaban Anda: **tidak dijawab** · **Tidak dijawab** · Jawaban benar: **50 / 5**

Pembahasan.
Selisih antarangka adalah 4, 5, 5, 6, 6, 7, yaitu setiap selisih (kecuali yang pertama) muncul dua kali lalu naik 1: 10 + 4 = 14, 14 + 5 = 19, 19 + 5 = 24, dan seterusnya. Angka berikutnya adalah 43 + 7 = **50**.

ZR: DERET ANGKA · SOAL 110

110. **5 4 8 6 18 15 60 ?**

Jawaban Anda: **56** · **Benar**

Pembahasan.
Polanya bergantian dikurangi lalu dikali, dan keduanya naik satu setiap kali: −1, ×2, −2, ×3, −3, ×4: 5 − 1 = 4, 4 × 2 = 8, 8 − 2 = 6, dan seterusnya. Angka berikutnya adalah 60 − 4 = **56**.

CONTOH

ZR: DERET ANGKA · SOAL 111

111. **15 18 22 11 14 18 9 ?**

Jawaban Anda: **12** · **Benar**

Pembahasan.
Polanya berulang setiap tiga langkah: ditambah 3, ditambah 4, lalu dibagi 2: 15 + 3 = 18, 18 + 4 = 22, 22 ÷ 2 = 11, dan seterusnya. Angka berikutnya adalah 9 + 3 = **12**.

ZR: DERET ANGKA · SOAL 112

112. **4 11 20 31 44 59 76 ?**

Jawaban Anda: **95** · **Benar**

Pembahasan.
Selisih antarangka adalah 7, 9, 11, 13, 15, 17, yaitu selalu bertambah 2: 4 + 7 = 11, 11 + 9 = 20, 20 + 11 = 31, dan seterusnya. Angka berikutnya adalah 76 + 19 = **95**.

ZR: DERET ANGKA · SOAL 113

113. **7 8 10 7 11 16 10 ?**

Jawaban Anda: **tidak dijawab** · **Tidak dijawab** · Jawaban benar: **angka 1, 7 (urutan bebas)**

Pembahasan.
Besar perubahannya naik 1 setiap langkah dan setiap langkah ketiga dikurangi: +1, +2, −3, +4, +5, −6: 7 + 1 = 8, 8 + 2 = 10, 10 − 3 = 7, dan seterusnya. Angka berikutnya adalah 10 + 7 = **17**.

ZR: DERET ANGKA · SOAL 114

114. **12 9 27 30 10 7 21 ?**

Jawaban Anda: **24** · **Benar**

Pembahasan.
Polanya berulang setiap empat langkah dengan angka 3: dikurangi 3, dikali 3, ditambah 3, lalu dibagi 3: 12 − 3 = 9, 9 × 3 = 27, 27 + 3 = 30, dan seterusnya. Angka berikutnya adalah 21 + 3 = **24**.

ZR: DERET ANGKA · SOAL 115

115. **10 4 12 7 21 17 51 ?**

Jawaban Anda: **48** · **Benar**

Pembahasan.

Polanya bergantian dikurangi lalu dikali 3, dan pengurangnya turun satu setiap kali: −6, ×3, −5, ×3, −4: 10 − 6 = 4, 4 × 3 = 12, 12 − 5 = 7, dan seterusnya. Angka berikutnya adalah 51 − 3 = **48**.

ZR: DERET ANGKA · SOAL 116

116. **4 16 12 3 7 28 24 ?**

Jawaban Anda: **tidak dijawab** · **Tidak dijawab** · Jawaban benar: **6**

Pembahasan.

Polanya berulang setiap empat langkah dengan angka 4: dikali 4, dikurangi 4, dibagi 4, lalu ditambah 4: 4 × 4 = 16, 16 − 4 = 12, 12 ÷ 4 = 3, dan seterusnya. Angka berikutnya adalah 24 ÷ 4 = **6**.

CONTOH

FA: MENYUSUN BENTUK · SOAL 117

Soal 117.



A	B	C	D	E
				
Pilihan Anda · benar				

Jawaban Anda: **A** · **Benar**

Pembahasan.

Potongan-potongan itu dapat diputar dan digeser, lalu disatukan tanpa celah dan tanpa tumpang tindih, menjadi kubah **a**. Bentuk lain tidak mungkin: luas setiap bentuk lain berbeda dari luas semua potongan bila digabung, padahal memutar dan menggeser potongan tidak mengubah luasnya.

CONTOH

FA: MENYUSUN BENTUK · SOAL 118

Soal 118.



A



B



Pilihan Anda · benar

C



D



E



Jawaban Anda: **B** · **Benar**

Pembahasan.

Potongan-potongan itu dapat diputar dan digeser, lalu disatukan tanpa celah dan tanpa tumpang tindih, menjadi setengah elips **b**. Bentuk lain tidak mungkin: luas setiap bentuk lain berbeda dari luas semua potongan bila digabung, padahal memutar dan menggeser potongan tidak mengubah luasnya.

KP-G0P47R60WT · klikpsikotes.com
CONTOH

FA: MENYUSUN BENTUK · SOAL 119

Soal 119.



A	B	C	D	E
				
Pilihan Anda · benar				

Jawaban Anda: **A** · **Benar**

Pembahasan.

Potongan-potongan itu dapat diputar dan digeser, lalu disatukan tanpa celah dan tanpa tumpang tindih, menjadi trapesium **a**. Bentuk lain tidak mungkin: luas setiap bentuk lain berbeda dari luas semua potongan bila digabung, padahal memutar dan menggeser potongan tidak mengubah luasnya.

CONTOH
KP-G0P47R60WT · klikpsikotes.com

FA: MENYUSUN BENTUK · SOAL 120

Soal 120.



A



B



C



D



E



Pilihan Anda · benar

Jawaban Anda: **E** · **Benar**

Pembahasan.

Potongan-potongan itu dapat diputar dan digeser, lalu disatukan tanpa celah dan tanpa tumpang tindih, menjadi segi lima **e**. Bentuk lain tidak mungkin: luas setiap bentuk lain berbeda dari luas semua potongan bila digabung, padahal memutar dan menggeser potongan tidak mengubah luasnya.

KP-G0P47R60WT · klikpsikotes.com
CONTOH

FA: MENYUSUN BENTUK · SOAL 121

Soal 121.



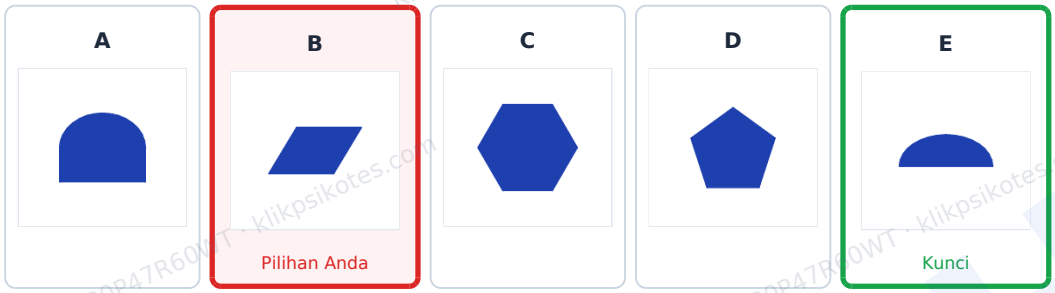

Jawaban Anda: **B** · **Kurang tepat** · Jawaban benar: **E**

Pembahasan.

Potongan-potongan itu dapat diputar dan digeser, lalu disatukan tanpa celah dan tanpa tumpang tindih, menjadi setengah elips **e**. Bentuk lain tidak mungkin: luas setiap bentuk lain berbeda dari luas semua potongan bila digabung, padahal memutar dan menggeser potongan tidak mengubah luasnya.

CONTOH
KP-G0P47R60WT · klikpsikotes.com

FA: MENYUSUN BENTUK · SOAL 122

Soal 122.



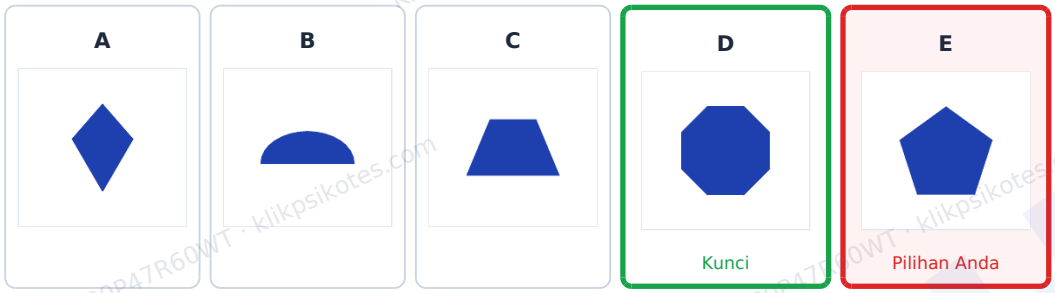

Jawaban Anda: **E** · **Kurang tepat** · Jawaban benar: **D**

Pembahasan.

Potongan-potongan itu dapat diputar dan digeser, lalu disatukan tanpa celah dan tanpa tumpang tindih, menjadi segi delapan **d**. Bentuk lain tidak mungkin: luas setiap bentuk lain berbeda dari luas semua potongan bila digabung, padahal memutar dan menggeser potongan tidak mengubah luasnya.

CONTOH

FA: MENYUSUN BENTUK · SOAL 123

Soal 123.



A



B



C



D



Pilihan Anda · benar

E



Jawaban Anda: **D** · **Benar**

Pembahasan.

Potongan-potongan itu dapat diputar dan digeser, lalu disatukan tanpa celah dan tanpa tumpang tindih, menjadi trapesium **d**. Bentuk lain tidak mungkin: luas setiap bentuk lain berbeda dari luas semua potongan bila digabung, padahal memutar dan menggeser potongan tidak mengubah luasnya.

CONTOH
KP-G0P47R60WT · klikpsikotes.com

FA: MENYUSUN BENTUK · SOAL 124

Soal 124.



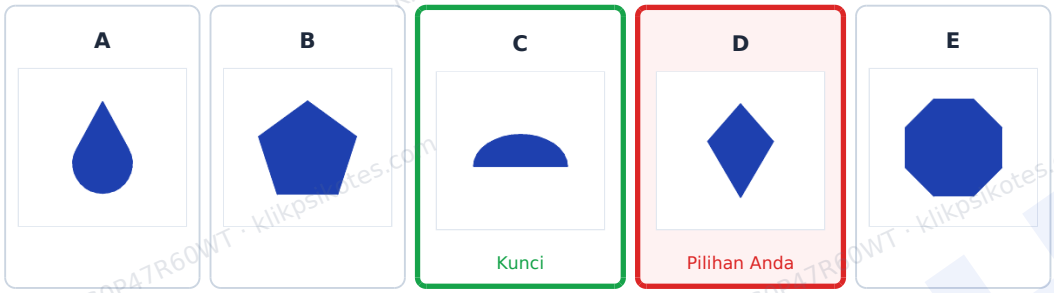

Jawaban Anda: **D** · **Kurang tepat** · Jawaban benar: **C**

Pembahasan.

Potongan-potongan itu dapat diputar dan digeser, lalu disatukan tanpa celah dan tanpa tumpang tindih, menjadi setengah elips **c**. Bentuk lain tidak mungkin: luas setiap bentuk lain berbeda dari luas semua potongan bila digabung, padahal memutar dan menggeser potongan tidak mengubah luasnya.

CONTOH
KP-G0P47R60WT · klikpsikotes.com

FA: MENYUSUN BENTUK · SOAL 125

Soal 125.



A	B	C	D	E
		 Pilihan Anda · benar		

Jawaban Anda: **C** · **Benar**

Pembahasan.

Potongan-potongan itu dapat diputar dan digeser, lalu disatukan tanpa celah dan tanpa tumpang tindih, menjadi segi enam **c**. Bentuk lain tidak mungkin: luas setiap bentuk lain berbeda dari luas semua potongan bila digabung, padahal memutar dan menggeser potongan tidak mengubah luasnya.

CONTOH

FA: MENYUSUN BENTUK · SOAL 126

Soal 126.



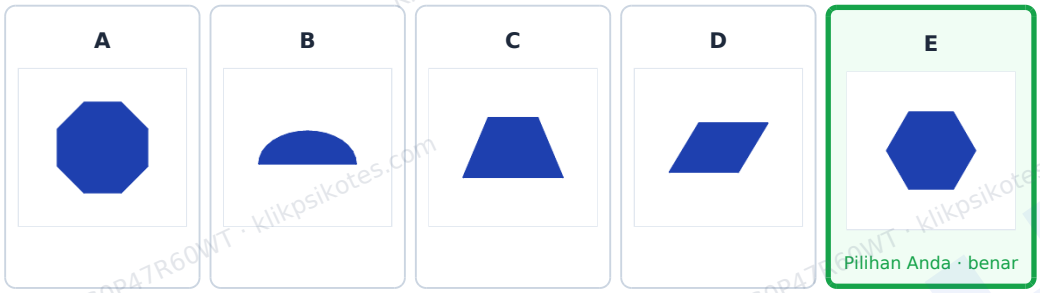

Jawaban Anda: **E** · **Benar**

Pembahasan.

Potongan-potongan itu dapat diputar dan digeser, lalu disatukan tanpa celah dan tanpa tumpang tindih, menjadi segi enam **e**. Bentuk lain tidak mungkin: luas setiap bentuk lain berbeda dari luas semua potongan bila digabung, padahal memutar dan menggeser potongan tidak mengubah luasnya.

CONTOH
KP-G0P47R60WT · klikpsikotes.com

FA: MENYUSUN BENTUK · SOAL 127

Soal 127.



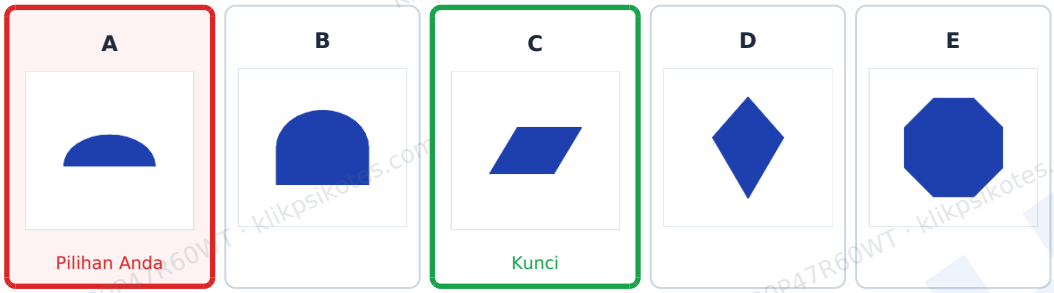

Jawaban Anda: **A** · **Kurang tepat** · Jawaban benar: **C**

Pembahasan.

Potongan-potongan itu dapat diputar dan digeser, lalu disatukan tanpa celah dan tanpa tumpang tindih, menjadi jajar genjang **c**. Bentuk lain tidak mungkin: luas setiap bentuk lain berbeda dari luas semua potongan bila digabung, padahal memutar dan menggeser potongan tidak mengubah luasnya.

CONTOH
KP-G0P47R60WT · klikpsikotes.com

FA: MENYUSUN BENTUK · SOAL 128

Soal 128.



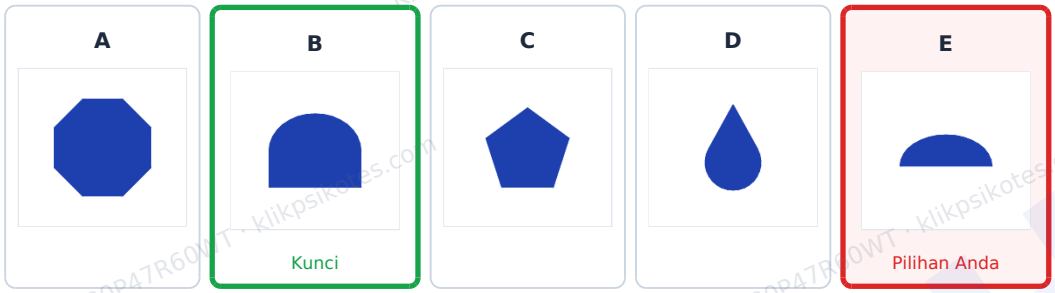

Jawaban Anda: **E** · **Kurang tepat** · Jawaban benar: **B**

Pembahasan.

Potongan-potongan itu dapat diputar dan digeser, lalu disatukan tanpa celah dan tanpa tumpang tindih, menjadi kubah **b**. Bentuk lain tidak mungkin: luas setiap bentuk lain berbeda dari luas semua potongan bila digabung, padahal memutar dan menggeser potongan tidak mengubah luasnya.

CONTOH

FA: MENYUSUN BENTUK · SOAL 129

Soal 129.



A	B	C	D	E
			 Pilihan Anda · benar	

Jawaban Anda: **D** · **Benar**

Pembahasan.

Potongan-potongan itu dapat diputar dan digeser, lalu disatukan tanpa celah dan tanpa tumpang tindih, menjadi segi enam **d**. Bentuk lain tidak mungkin: luas setiap bentuk lain berbeda dari luas semua potongan bila digabung, padahal memutar dan menggeser potongan tidak mengubah luasnya.

CONTOH

FA: MENYUSUN BENTUK · SOAL 130

Soal 130.



A



B



C



Pilihan Anda · benar

D



E



Jawaban Anda: **C** · **Benar**

Pembahasan.

Potongan-potongan itu dapat diputar dan digeser, lalu disatukan tanpa celah dan tanpa tumpang tindih, menjadi setengah elips **c**. Bentuk lain tidak mungkin: luas setiap bentuk lain berbeda dari luas semua potongan bila digabung, padahal memutar dan menggeser potongan tidak mengubah luasnya.

CONTOH

FA: MENYUSUN BENTUK · SOAL 131

Soal 131.



A	B	C	D	E
			 Pilihan Anda · benar	

Jawaban Anda: **D** · **Benar**

Pembahasan.

Potongan-potongan itu dapat diputar dan digeser, lalu disatukan tanpa celah dan tanpa tumpang tindih, menjadi jajar genjang **d**. Bentuk lain tidak mungkin: luas setiap bentuk lain berbeda dari luas semua potongan bila digabung, padahal memutar dan menggeser potongan tidak mengubah luasnya.

CONTOH
KP-G0P47R60WT · klikpsikotes.com

FA: MENYUSUN BENTUK · SOAL 132

Soal 132.



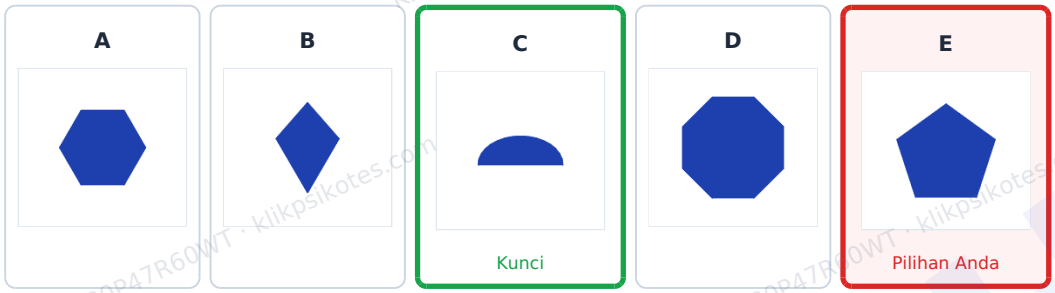

Jawaban Anda: **E** · **Kurang tepat** · Jawaban benar: **C**

Pembahasan.

Potongan-potongan itu dapat diputar dan digeser, lalu disatukan tanpa celah dan tanpa tumpang tindih, menjadi setengah elips **c**. Bentuk lain tidak mungkin: luas setiap bentuk lain berbeda dari luas semua potongan bila digabung, padahal memutar dan menggeser potongan tidak mengubah luasnya.

CONTOH
KP-G0P47R60WT · klikpsikotes.com

FA: MENYUSUN BENTUK · SOAL 133

Soal 133.



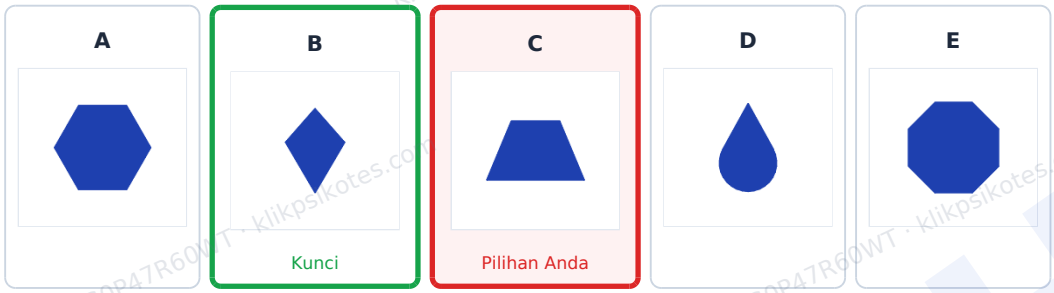

Jawaban Anda: **C** · **Kurang tepat** · Jawaban benar: **B**

Pembahasan.

Potongan-potongan itu dapat diputar dan digeser, lalu disatukan tanpa celah dan tanpa tumpang tindih, menjadi layang-layang **b**. Bentuk lain tidak mungkin: luas setiap bentuk lain berbeda dari luas semua potongan bila digabung, padahal memutar dan menggeser potongan tidak mengubah luasnya.

CONTOH
KP-G0P47R60WT · klikpsikotes.com

FA: MENYUSUN BENTUK · SOAL 134

Soal 134.



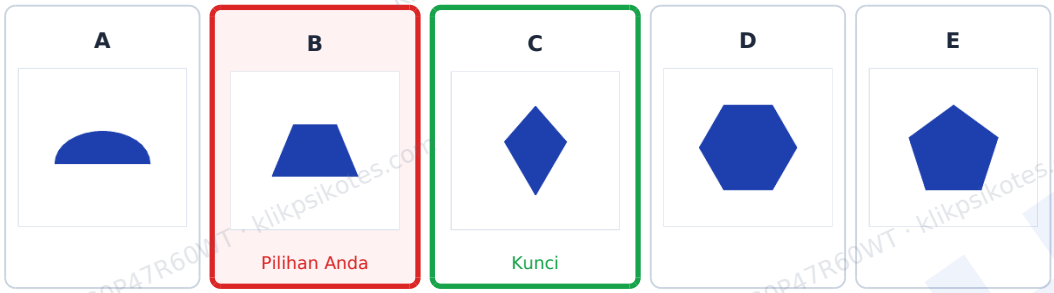

Jawaban Anda: **B** · **Kurang tepat** · Jawaban benar: **C**

Pembahasan.

Potongan-potongan itu dapat diputar dan digeser, lalu disatukan tanpa celah dan tanpa tumpang tindih, menjadi layang-layang **c**. Bentuk lain tidak mungkin: luas setiap bentuk lain berbeda dari luas semua potongan bila digabung, padahal memutar dan menggeser potongan tidak mengubah luasnya.

CONTOH
KP-G0P47R60WT · klikpsikotes.com

FA: MENYUSUN BENTUK · SOAL 135

Soal 135.



A



Pilihan Anda · benar

B



C



D

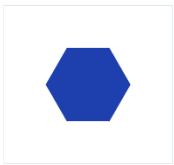

E



Jawaban Anda: **A** · **Benar**

Pembahasan.

Potongan-potongan itu dapat diputar dan digeser, lalu disatukan tanpa celah dan tanpa tumpang tindih, menjadi kubah **a**. Bentuk lain tidak mungkin: luas setiap bentuk lain berbeda dari luas semua potongan bila digabung, padahal memutar dan menggeser potongan tidak mengubah luasnya.

KP-G0P47R60WT · klikpsikotes.com
CONTOH

FA: MENYUSUN BENTUK · SOAL 136

Soal 136.



A



B



C



Pilihan Anda · benar

D



E



Jawaban Anda: **C** · **Benar**

Pembahasan.

Potongan-potongan itu dapat diputar dan digeser, lalu disatukan tanpa celah dan tanpa tumpang tindih, menjadi trapesium **c**. Bentuk lain tidak mungkin: luas setiap bentuk lain berbeda dari luas semua potongan bila digabung, padahal memutar dan menggeser potongan tidak mengubah luasnya.

CONTOH

WU: KUBUS · SOAL 137

Soal 137.

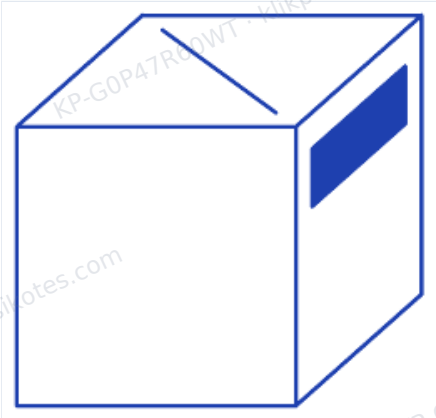

A

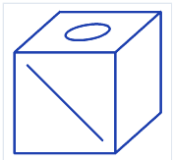

B

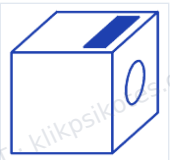

C



D



E

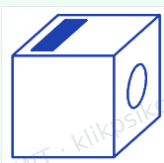

Pilihan Anda · benar

Jawaban Anda: **E** · **Benar**

Pembahasan.

Kubus soal adalah kubus **e** yang diputar atau digulingkan: tanda kosong tetap di sisi depan, dan tanda pita pindah dari sisi atas ke sisi kanan, dengan arah tanda yang tetap cocok. Sisi bertanda diagonal tidak tampak pada gambar kubus e, dan tanda itu memang tidak ada di tiga sisinya yang tampak, jadi tanda itu bisa berada di salah satu sisinya yang tersembunyi. Kubus lain tidak dapat diputar ke kedudukan ini: selalu ada sisi yang tandanya atau arahnya tidak cocok.

CONTOH

WU: KUBUS · SOAL 138

Soal 138.

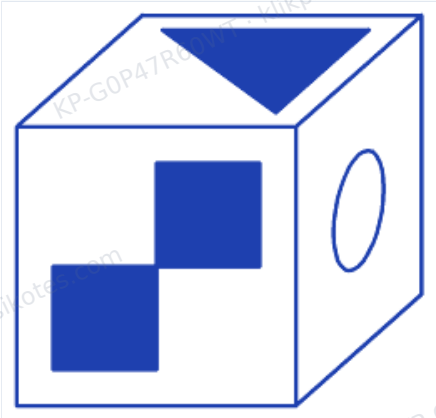

A



B



C



D



E



Pilihan Anda · benar

Jawaban Anda: **E** · **Benar**

Pembahasan.

Kubus soal adalah kubus **e** yang diputar atau digulingkan: tanda catur tetap di sisi depan, dan tanda setengah pindah dari sisi kanan ke sisi atas, dengan arah tanda yang tetap cocok. Sisi bertanda lingkaran tidak tampak pada gambar kubus e, dan tanda itu memang tidak ada di tiga sisinya yang tampak, jadi tanda itu bisa berada di salah satu sisinya yang tersembunyi. Kubus lain tidak dapat diputar ke kedudukan ini: selalu ada sisi yang tandanya atau arahnya tidak cocok.

CONTOH

WU: KUBUS · SOAL 139

Soal 139.

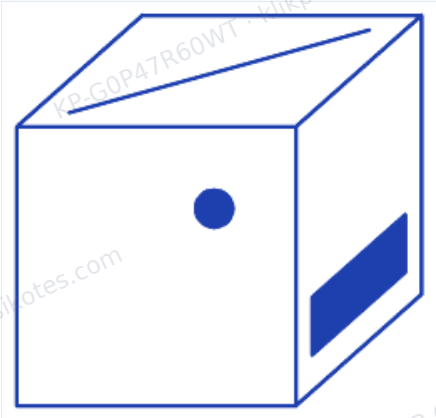

A

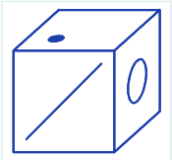

Pilihan Anda · benar

B



C

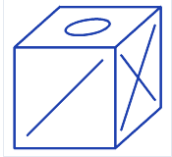

D

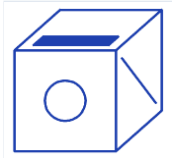

E



Jawaban Anda: **A** · **Benar**

Pembahasan.

Kubus soal adalah kubus **a** yang diputar atau digulingkan: tanda diagonal pindah dari sisi depan ke sisi atas, dan tanda titik pindah dari sisi atas ke sisi depan, dengan arah tanda yang tetap cocok. Sisi bertanda pita tidak tampak pada gambar kubus a, dan tanda itu memang tidak ada di tiga sisinya yang tampak, jadi tanda itu bisa berada di salah satu sisinya yang tersembunyi. Kubus lain tidak dapat diputar ke kedudukan ini: selalu ada sisi yang tandanya atau arahnya tidak cocok.

CONTOH

WU: KUBUS · SOAL 140

Soal 140.

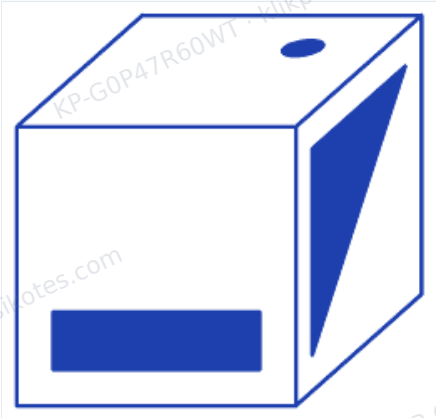

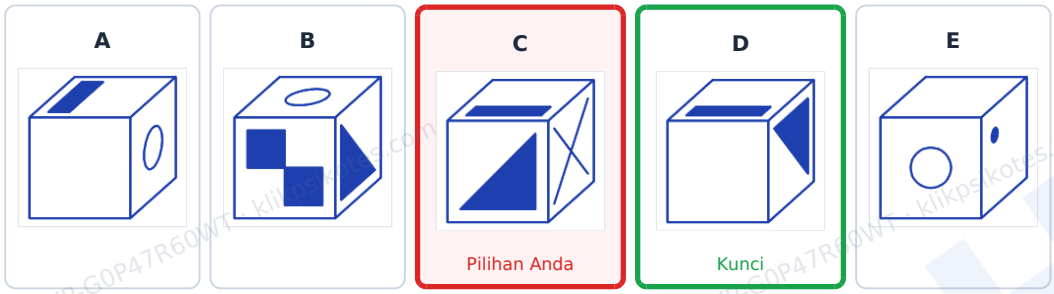

Jawaban Anda: **C** · **Kurang tepat** · Jawaban benar: **D**

Pembahasan.

Kubus soal adalah kubus **d** yang diputar atau digulingkan: tanda pita pindah dari sisi atas ke sisi depan, dan tanda setengah tetap di sisi kanan, dengan arah tanda yang tetap cocok. Sisi bertanda titik tidak tampak pada gambar kubus d, dan tanda itu memang tidak ada di tiga sisinya yang tampak, jadi tanda itu bisa berada di salah satu sisinya yang tersembunyi. Kubus lain tidak dapat diputar ke kedudukan ini: selalu ada sisi yang tandanya atau arahnya tidak cocok.

CONTOH

WU: KUBUS · SOAL 141

Soal 141.

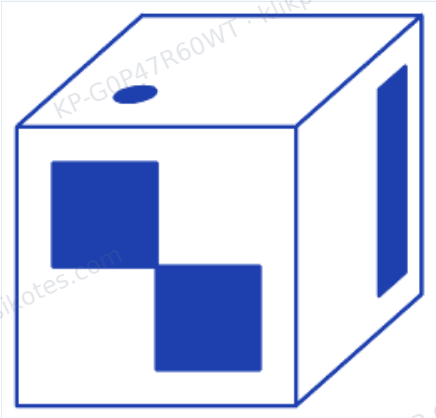

A

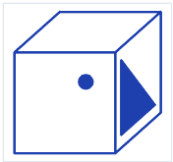

B



C



Pilihan Anda · benar

D



E

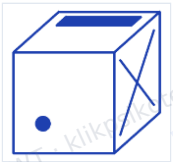

Jawaban Anda: **C** · **Benar**

Pembahasan.

Kubus soal adalah kubus **c** yang diputar atau digulingkan: tanda pita pindah dari sisi depan ke sisi kanan, dan tanda catur pindah dari sisi kanan ke sisi depan, dengan arah tanda yang tetap cocok. Sisi bertanda titik tidak tampak pada gambar kubus c, dan tanda itu memang tidak ada di tiga sisinya yang tampak, jadi tanda itu bisa berada di salah satu sisinya yang tersembunyi. Kubus lain tidak dapat diputar ke kedudukan ini: selalu ada sisi yang tandanya atau arahnya tidak cocok.

CONTOH

WU: KUBUS · SOAL 142

Soal 142.

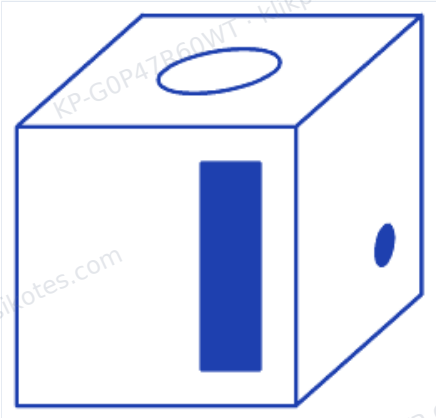

A

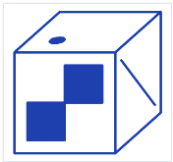

B



Pilihan Anda

C



Kunci

D



E



Jawaban Anda: **B** · **Kurang tepat** · Jawaban benar: **C**

Pembahasan.

Kubus soal adalah kubus **c** yang diputar atau digulingkan: tanda titik pindah dari sisi atas ke sisi kanan, dan tanda lingkaran pindah dari sisi kanan ke sisi atas, dengan arah tanda yang tetap cocok. Sisi bertanda pita tidak tampak pada gambar kubus c, dan tanda itu memang tidak ada di tiga sisinya yang tampak, jadi tanda itu bisa berada di salah satu sisinya yang tersembunyi. Kubus lain tidak dapat diputar ke kedudukan ini: selalu ada sisi yang tandanya atau arahnya tidak cocok.

WU: KUBUS · SOAL 143

Soal 143.



A

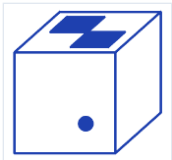

B

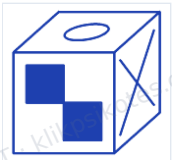

C



Pilihan Anda · benar

D

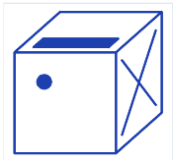

E



Jawaban Anda: **C** · **Benar**

Pembahasan.

Kubus soal adalah kubus **c** yang diputar atau digulingkan: tanda silang pindah dari sisi depan ke sisi atas, dan tanda catur pindah dari sisi atas ke sisi depan, dengan arah tanda yang tetap cocok. Sisi bertanda titik tidak tampak pada gambar kubus c, dan tanda itu memang tidak ada di tiga sisinya yang tampak, jadi tanda itu bisa berada di salah satu sisinya yang tersembunyi. Kubus lain tidak dapat diputar ke kedudukan ini: selalu ada sisi yang tandanya atau arahnya tidak cocok.

CONTOH

WU: KUBUS · SOAL 144

Soal 144.

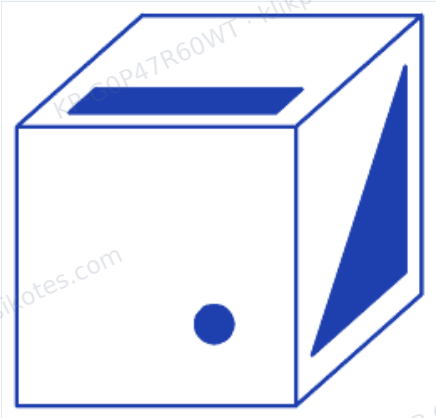

A



Pilihan Anda · benar

B

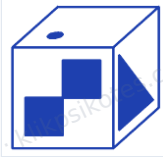

C



D



E



Jawaban Anda: **A** · **Benar**

Pembahasan.

Kubus soal adalah kubus **a** yang diputar atau digulingkan: tanda setengah pindah dari sisi atas ke sisi kanan, dan tanda pita pindah dari sisi kanan ke sisi atas, dengan arah tanda yang tetap cocok. Sisi bertanda titik tidak tampak pada gambar kubus a, dan tanda itu memang tidak ada di tiga sisinya yang tampak, jadi tanda itu bisa berada di salah satu sisinya yang tersembunyi. Kubus lain tidak dapat diputar ke kedudukan ini: selalu ada sisi yang tandanya atau arahnya tidak cocok.

CONTOH

WU: KUBUS · SOAL 145

Soal 145.

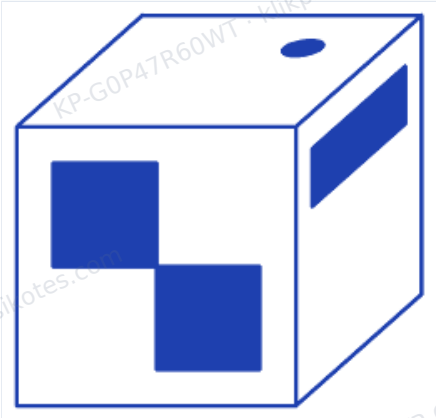

A

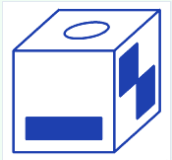

Pilihan Anda · benar

B



C



D

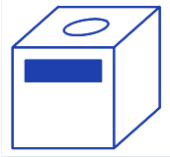

E



Jawaban Anda: **A** · **Benar**

Pembahasan.

Kubus soal adalah kubus **a** yang diputar atau digulingkan: tanda pita pindah dari sisi depan ke sisi kanan, dan tanda catur pindah dari sisi kanan ke sisi depan, dengan arah tanda yang tetap cocok. Sisi bertanda titik tidak tampak pada gambar kubus a, dan tanda itu memang tidak ada di tiga sisinya yang tampak, jadi tanda itu bisa berada di salah satu sisinya yang tersembunyi. Kubus lain tidak dapat diputar ke kedudukan ini: selalu ada sisi yang tandanya atau arahnya tidak cocok.

CONTOH

WU: KUBUS · SOAL 146

Soal 146.

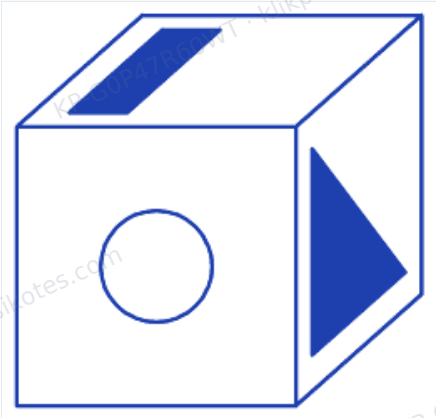

A

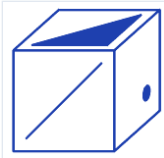

B



C



D



E

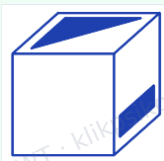

Pilihan Anda · benar

Jawaban Anda: **E** · **Benar**

Pembahasan.

Kubus soal adalah kubus **e** yang diputar atau digulingkan: tanda setengah pindah dari sisi atas ke sisi kanan, dan tanda pita pindah dari sisi kanan ke sisi atas, dengan arah tanda yang tetap cocok. Sisi bertanda lingkaran tidak tampak pada gambar kubus e, dan tanda itu memang tidak ada di tiga sisinya yang tampak, jadi tanda itu bisa berada di salah satu sisinya yang tersembunyi. Kubus lain tidak dapat diputar ke kedudukan ini: selalu ada sisi yang tandanya atau arahnya tidak cocok.

CONTOH

WU: KUBUS · SOAL 147

Soal 147.

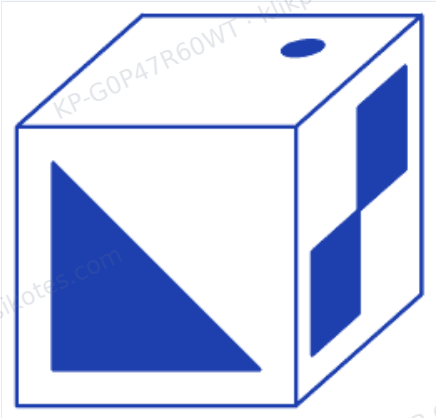

A



B



C



D



E



Pilihan Anda · benar

Jawaban Anda: **E** · **Benar**

Pembahasan.

Kubus soal adalah kubus **e** yang diputar atau digulingkan: tanda titik pindah dari sisi depan ke sisi atas, tanda catur pindah dari sisi atas ke sisi kanan, dan tanda setengah pindah dari sisi kanan ke sisi depan, dengan arah tanda yang tetap cocok. Kubus lain tidak dapat diputar ke kedudukan ini: selalu ada sisi yang tandanya atau arahnya tidak cocok.

CONTOH
KP-G0P47R60WT · klikpsikotes.com

WU: KUBUS · SOAL 148

Soal 148.

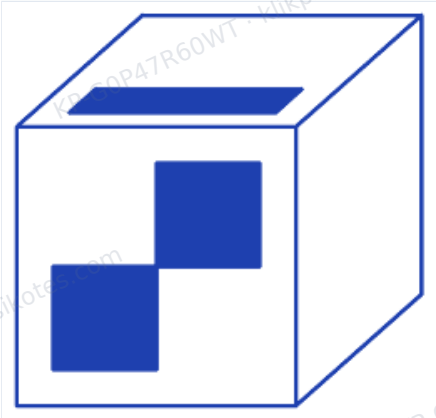

A	B	C	D	E
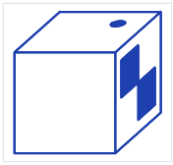		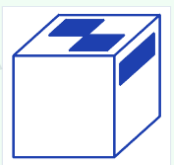 Pilihan Anda · benar	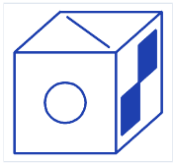	

Jawaban Anda: **C** · **Benar**

Pembahasan.

Kubus soal adalah kubus **c** yang diputar atau digulingkan: tanda kosong pindah dari sisi depan ke sisi kanan, tanda catur pindah dari sisi atas ke sisi depan, dan tanda pita pindah dari sisi kanan ke sisi atas, dengan arah tanda yang tetap cocok. Kubus lain tidak dapat diputar ke kedudukan ini: selalu ada sisi yang tandanya atau arahnya tidak cocok.

CONTOH
KP-G0P47R60WT · klikpsikotes.com

WU: KUBUS · SOAL 149

Soal 149.

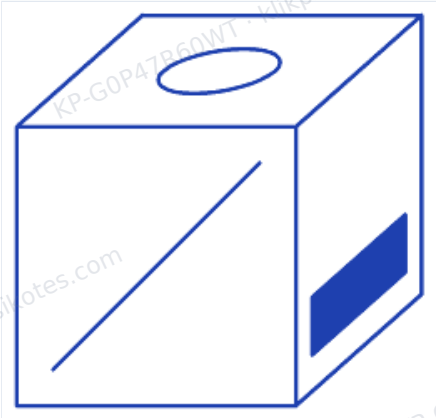

A



B

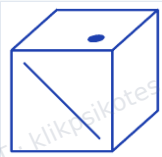

C

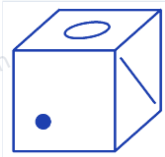

D

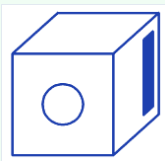

Pilihan Anda · benar

E



Jawaban Anda: **D** · **Benar**

Pembahasan.

Kubus soal adalah kubus **d** yang diputar atau digulingkan: tanda lingkaran pindah dari sisi depan ke sisi atas, dan tanda pita tetap di sisi kanan, dengan arah tanda yang tetap cocok. Sisi bertanda diagonal tidak tampak pada gambar kubus d, dan tanda itu memang tidak ada di tiga sisinya yang tampak, jadi tanda itu bisa berada di salah satu sisinya yang tersembunyi. Kubus lain tidak dapat diputar ke kedudukan ini: selalu ada sisi yang tandanya atau arahnya tidak cocok.

CONTOH

WU: KUBUS · SOAL 150

Soal 150.

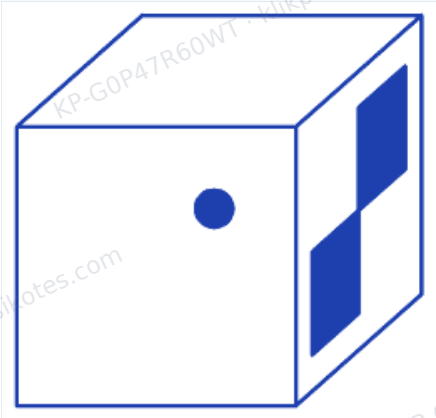

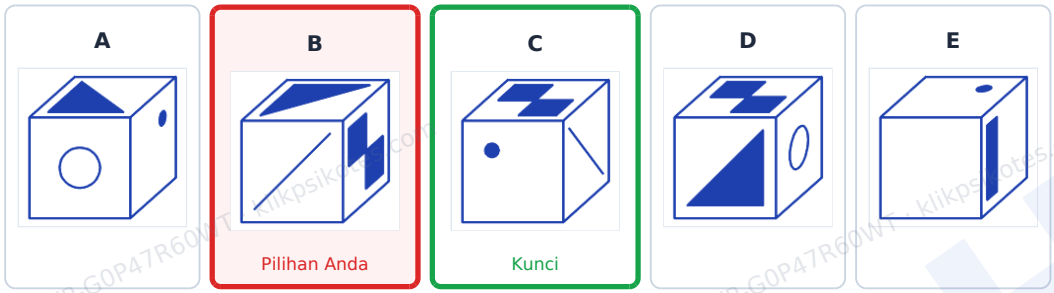

Jawaban Anda: **B** · **Kurang tepat** · Jawaban benar: **C**

Pembahasan.

Kubus soal adalah kubus **c** yang diputar atau digulingkan: tanda titik tetap di sisi depan, dan tanda catur pindah dari sisi atas ke sisi kanan, dengan arah tanda yang tetap cocok. Sisi bertanda kosong tidak tampak pada gambar kubus c, dan tanda itu memang tidak ada di tiga sisinya yang tampak, jadi tanda itu bisa berada di salah satu sisinya yang tersembunyi. Kubus lain tidak dapat diputar ke kedudukan ini: selalu ada sisi yang tandanya atau arahnya tidak cocok.

CONTOH

WU: KUBUS · SOAL 151

Soal 151.

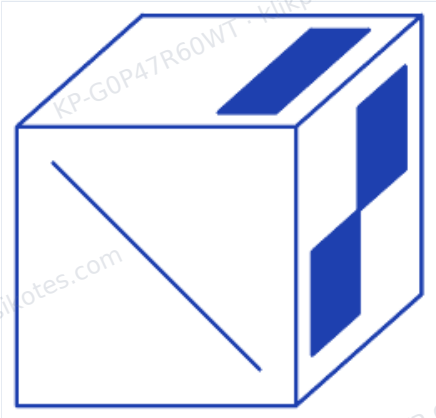

A



B



C

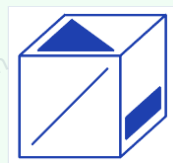

Pilihan Anda · benar

D



E

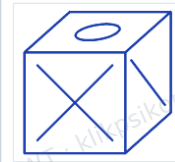

Jawaban Anda: **C** · **Benar**

Pembahasan.

Kubus soal adalah kubus **c** yang diputar atau digulingkan: tanda diagonal tetap di sisi depan, dan tanda pita pindah dari sisi kanan ke sisi atas, dengan arah tanda yang tetap cocok. Sisi bertanda catur tidak tampak pada gambar kubus c, dan tanda itu memang tidak ada di tiga sisinya yang tampak, jadi tanda itu bisa berada di salah satu sisinya yang tersembunyi. Kubus lain tidak dapat diputar ke kedudukan ini: selalu ada sisi yang tandanya atau arahnya tidak cocok.

CONTOH

WU: KUBUS · SOAL 152

Soal 152.

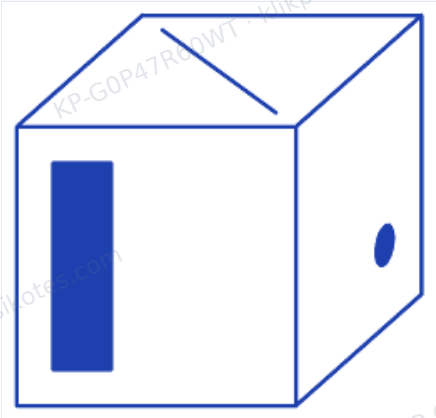

A

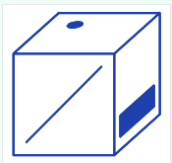

Pilihan Anda · benar

B



C

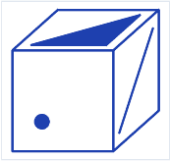

D

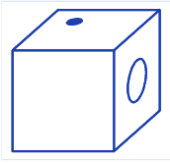

E



Jawaban Anda: **A** · **Benar**

Pembahasan.

Kubus soal adalah kubus **a** yang diputar atau digulingkan: tanda diagonal pindah dari sisi depan ke sisi atas, tanda titik pindah dari sisi atas ke sisi kanan, dan tanda pita pindah dari sisi kanan ke sisi depan, dengan arah tanda yang tetap cocok. Kubus lain tidak dapat diputar ke kedudukan ini: selalu ada sisi yang tandanya atau arahnya tidak cocok.

CONTOH
KP-G0P47R60WT · klikpsikotes.com

WU: KUBUS · SOAL 153

Soal 153.

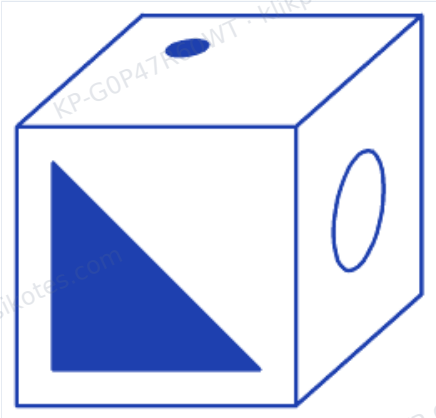

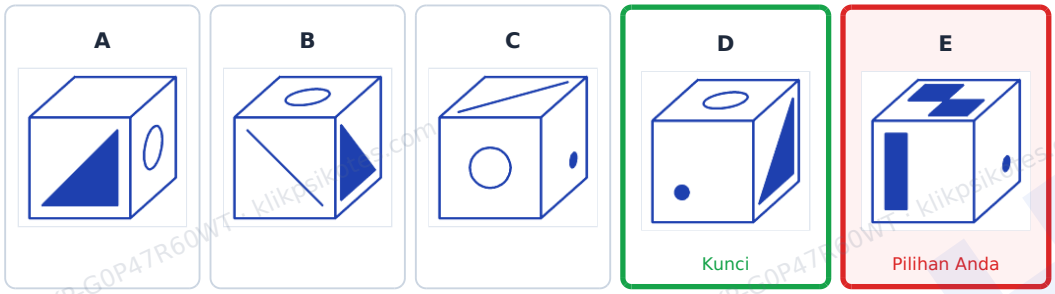

Jawaban Anda: **E** · **Kurang tepat** · Jawaban benar: **D**

Pembahasan.

Kubus soal adalah kubus **d** yang diputar atau digulingkan: tanda titik pindah dari sisi depan ke sisi atas, tanda lingkaran pindah dari sisi atas ke sisi kanan, dan tanda setengah pindah dari sisi kanan ke sisi depan, dengan arah tanda yang tetap cocok. Kubus lain tidak dapat diputar ke kedudukan ini: selalu ada sisi yang tandanya atau arahnya tidak cocok.

CONTOH

WU: KUBUS · SOAL 154

Soal 154.

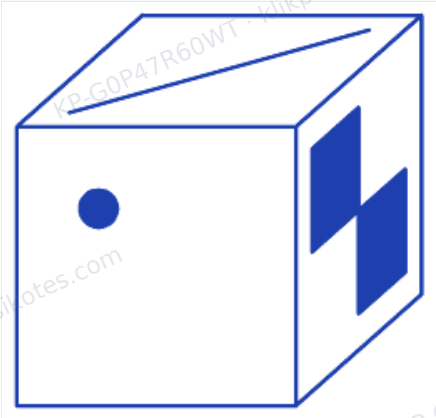

A



B



Pilihan Anda · benar

C



D

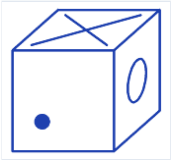

E



Jawaban Anda: **B** · **Benar**

Pembahasan.

Kubus soal adalah kubus **b** yang diputar atau digulingkan: tanda catur pindah dari sisi depan ke sisi kanan, dan tanda diagonal tetap di sisi atas, dengan arah tanda yang tetap cocok. Sisi bertanda titik tidak tampak pada gambar kubus b, dan tanda itu memang tidak ada di tiga sisinya yang tampak, jadi tanda itu bisa berada di salah satu sisinya yang tersembunyi. Kubus lain tidak dapat diputar ke kedudukan ini: selalu ada sisi yang tandanya atau arahnya tidak cocok.

CONTOH

WU: KUBUS · SOAL 155

Soal 155.

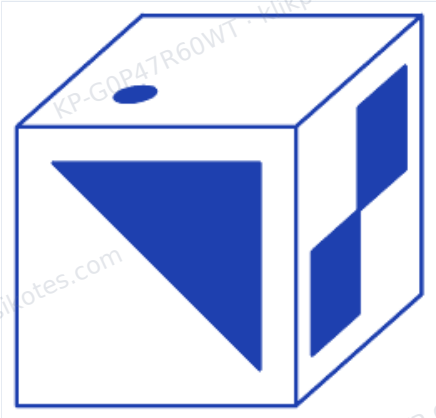

A



B



C

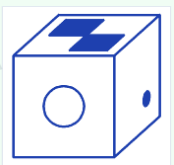

Pilihan Anda · benar

D



E

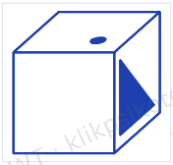

Jawaban Anda: **C** · **Benar**

Pembahasan.

Kubus soal adalah kubus **c** yang diputar atau digulingkan: tanda catur pindah dari sisi atas ke sisi kanan, dan tanda titik pindah dari sisi kanan ke sisi atas, dengan arah tanda yang tetap cocok. Sisi bertanda setengah tidak tampak pada gambar kubus c, dan tanda itu memang tidak ada di tiga sisinya yang tampak, jadi tanda itu bisa berada di salah satu sisinya yang tersembunyi. Kubus lain tidak dapat diputar ke kedudukan ini: selalu ada sisi yang tandanya atau arahnya tidak cocok.

CONTOH

WU: KUBUS · SOAL 156

Soal 156.

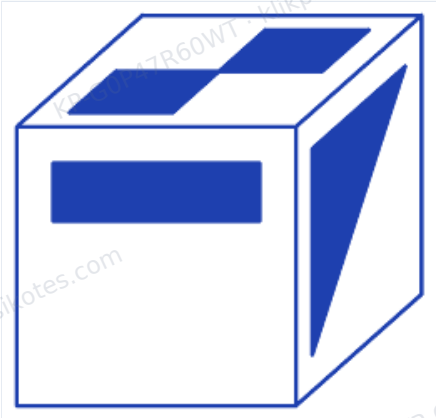

A



B



C



D



Pilihan Anda · benar

E

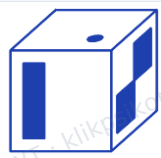

Jawaban Anda: **D** · **Benar**

Pembahasan.

Kubus soal adalah kubus **d** yang diputar atau digulingkan: tanda catur pindah dari sisi depan ke sisi atas, dan tanda pita pindah dari sisi atas ke sisi depan, dengan arah tanda yang tetap cocok. Sisi bertanda setengah tidak tampak pada gambar kubus d, dan tanda itu memang tidak ada di tiga sisinya yang tampak, jadi tanda itu bisa berada di salah satu sisinya yang tersembunyi. Kubus lain tidak dapat diputar ke kedudukan ini: selalu ada sisi yang tandanya atau arahnya tidak cocok.

CONTOH

ME: DAYA INGAT · SOAL 157

157. Kata yang mempunyai huruf permulaan – A – adalah .....

A. sayuran **B.** binatang (pilihan Anda) (kunci) **C.** buah **D.** kesenian **E.** bunga

Jawaban Anda: **B. binatang** · **Benar**

Pembahasan.
Dalam daftar hafalan, satu-satunya kata berhuruf awal **A** adalah **ANOA**, yang termasuk golongan **binatang**. Jawaban: **b) binatang**.

ME: DAYA INGAT · SOAL 158

158. Kata yang mempunyai huruf permulaan – B – adalah .....

A. sayuran (pilihan Anda) (kunci) **B.** binatang **C.** buah **D.** kesenian **E.** bunga

Jawaban Anda: **A. sayuran** · **Benar**

Pembahasan.
Dalam daftar hafalan, satu-satunya kata berhuruf awal **B** adalah **BROKOLI**, yang termasuk golongan **sayuran**. Jawaban: **a) sayuran**.

ME: DAYA INGAT · SOAL 159

159. Kata yang mempunyai huruf permulaan – C – adalah .....

A. sayuran (pilihan Anda) (kunci) **B.** binatang **C.** buah **D.** kesenian **E.** bunga

Jawaban Anda: **A. sayuran** · **Benar**

Pembahasan.
Dalam daftar hafalan, satu-satunya kata berhuruf awal **C** adalah **CAISIM**, yang termasuk golongan **sayuran**. Jawaban: **a) sayuran**.

CONTOH

ME: DAYA INGAT · SOAL 160

160. Kata yang mempunyai huruf permulaan – D – adalah .....

A. sayuran **B.** binatang **C.** buah (pilihan Anda) (kunci) **D.** kesenian **E.** bunga

Jawaban Anda: **C. buah** · **Benar**

> **Pembahasan.**
> Dalam daftar hafalan, satu-satunya kata berhuruf awal **D** adalah **DURIAN**, yang termasuk golongan **buah**. Jawaban: **c) buah**.

ME: DAYA INGAT · SOAL 161

161. Kata yang mempunyai huruf permulaan – E – adalah .....

A. sayuran **B.** binatang **C.** buah **D.** kesenian (kunci) **E.** bunga (pilihan Anda)

Jawaban Anda: **E. bunga** · **Kurang tepat** · Jawaban benar: **D. kesenian**

> **Pembahasan.**
> Dalam daftar hafalan, satu-satunya kata berhuruf awal **E** adalah **ETSA**, yang termasuk golongan **kesenian**. Jawaban: **d) kesenian**.

ME: DAYA INGAT · SOAL 162

162. Kata yang mempunyai huruf permulaan – F – adalah .....

A. sayuran **B.** binatang **C.** buah **D.** kesenian (pilihan Anda) (kunci) **E.** bunga

Jawaban Anda: **D. kesenian** · **Benar**

> **Pembahasan.**
> Dalam daftar hafalan, satu-satunya kata berhuruf awal **F** adalah **FRESKO**, yang termasuk golongan **kesenian**. Jawaban: **d) kesenian**.

CONTOH

ME: DAYA INGAT · SOAL 163

163. Kata yang mempunyai huruf permulaan – G – adalah .....

A. sayuran **B.** binatang **C.** buah **D.** kesenian **E.** bunga (pilihan Anda) (kunci)

Jawaban Anda: **E. bunga** · **Benar**

Pembahasan.
Dalam daftar hafalan, satu-satunya kata berhuruf awal **G** adalah **GARDENIA**, yang termasuk golongan **bunga**. Jawaban: **e) bunga**.

ME: DAYA INGAT · SOAL 164

164. Kata yang mempunyai huruf permulaan – H – adalah .....

A. sayuran (pilihan Anda) **B.** binatang **C.** buah **D.** kesenian **E.** bunga (kunci)

Jawaban Anda: **A. sayuran** · **Kurang tepat** · Jawaban benar: **E. bunga**

Pembahasan.
Dalam daftar hafalan, satu-satunya kata berhuruf awal **H** adalah **HORTENSIA**, yang termasuk golongan **bunga**. Jawaban: **e) bunga**.

ME: DAYA INGAT · SOAL 165

165. Kata yang mempunyai huruf permulaan – I – adalah .....

A. sayuran **B.** binatang (kunci) **C.** buah (pilihan Anda) **D.** kesenian **E.** bunga

Jawaban Anda: **C. buah** · **Kurang tepat** · Jawaban benar: **B. binatang**

Pembahasan.
Dalam daftar hafalan, satu-satunya kata berhuruf awal **I** adalah **IMPALA**, yang termasuk golongan **binatang**. Jawaban: **b) binatang**.

CONTOH

ME: DAYA INGAT · SOAL 166

166. Kata yang mempunyai huruf permulaan – J – adalah .....

A. sayuran **B.** binatang **C.** buah **D.** kesenian (pilihan Anda) (kunci) **E.** bunga

Jawaban Anda: **D. kesenian** · **Benar**

Pembahasan.
Dalam daftar hafalan, satu-satunya kata berhuruf awal **J** adalah **JAIPONG**, yang termasuk golongan **kesenian**. Jawaban: **d) kesenian**.

ME: DAYA INGAT · SOAL 167

167. Kata yang mempunyai huruf permulaan – K – adalah .....

A. sayuran (pilihan Anda) **B.** binatang (kunci) **C.** buah **D.** kesenian **E.** bunga

Jawaban Anda: **A. sayuran** · **Kurang tepat** · Jawaban benar: **B. binatang**

Pembahasan.
Dalam daftar hafalan, satu-satunya kata berhuruf awal **K** adalah **KUDA**, yang termasuk golongan **binatang**. Jawaban: **b) binatang**.

ME: DAYA INGAT · SOAL 168

168. Kata yang mempunyai huruf permulaan – L – adalah .....

A. sayuran (pilihan Anda) (kunci) **B.** binatang **C.** buah **D.** kesenian **E.** bunga

Jawaban Anda: **A. sayuran** · **Benar**

Pembahasan.
Dalam daftar hafalan, satu-satunya kata berhuruf awal **L** adalah **LOBAK**, yang termasuk golongan **sayuran**. Jawaban: **a) sayuran**.

CONTOH

ME: DAYA INGAT · SOAL 169

169. Kata yang mempunyai huruf permulaan – M – adalah .....

A. sayuran **B.** binatang **C.** buah (pilihan Anda) (kunci) **D.** kesenian **E.** bunga

Jawaban Anda: **C. buah** · **Benar**

Pembahasan.
Dalam daftar hafalan, satu-satunya kata berhuruf awal **M** adalah **MANGGA**, yang termasuk golongan **buah**. Jawaban: **c) buah**.

ME: DAYA INGAT · SOAL 170

170. Kata yang mempunyai huruf permulaan – N – adalah .....

A. sayuran **B.** binatang **C.** buah (kunci) **D.** kesenian (pilihan Anda) **E.** bunga

Jawaban Anda: **D. kesenian** · **Kurang tepat** · Jawaban benar: **C. buah**

Pembahasan.
Dalam daftar hafalan, satu-satunya kata berhuruf awal **N** adalah **NANAS**, yang termasuk golongan **buah**. Jawaban: **c) buah**.

ME: DAYA INGAT · SOAL 171

171. Kata yang mempunyai huruf permulaan – O – adalah .....

A. sayuran **B.** binatang **C.** buah **D.** kesenian (pilihan Anda) (kunci) **E.** bunga

Jawaban Anda: **D. kesenian** · **Benar**

Pembahasan.
Dalam daftar hafalan, satu-satunya kata berhuruf awal **O** adalah **ORKESTRA**, yang termasuk golongan **kesenian**. Jawaban: **d) kesenian**.

CONTOH

ME: DAYA INGAT · SOAL 172

172. Kata yang mempunyai huruf permulaan – P – adalah .....

A. sayuran **B.** binatang **C.** buah **D.** kesenian (pilihan Anda) **E.** bunga (kunci)

Jawaban Anda: **D. kesenian** · **Kurang tepat** · Jawaban benar: **E. bunga**

Pembahasan.
Dalam daftar hafalan, satu-satunya kata berhuruf awal **P** adalah **PETUNIA**, yang termasuk golongan **bunga**. Jawaban: **e) bunga**.

ME: DAYA INGAT · SOAL 173

173. Kata yang mempunyai huruf permulaan – R – adalah .....

A. sayuran **B.** binatang **C.** buah **D.** kesenian (pilihan Anda) **E.** bunga (kunci)

Jawaban Anda: **D. kesenian** · **Kurang tepat** · Jawaban benar: **E. bunga**

Pembahasan.
Dalam daftar hafalan, satu-satunya kata berhuruf awal **R** adalah **RAFLESIA**, yang termasuk golongan **bunga**. Jawaban: **e) bunga**.

ME: DAYA INGAT · SOAL 174

174. Kata yang mempunyai huruf permulaan – S – adalah .....

A. sayuran **B.** binatang **C.** buah (pilihan Anda) (kunci) **D.** kesenian **E.** bunga

Jawaban Anda: **C. buah** · **Benar**

Pembahasan.
Dalam daftar hafalan, satu-satunya kata berhuruf awal **S** adalah **SALAK**, yang termasuk golongan **buah**. Jawaban: **c) buah**.

CONTOH
KP-G0P47R60WT · klikpsikotes.com

ME: DAYA INGAT · SOAL 175

175. Kata yang mempunyai huruf permulaan – T – adalah .....

A. sayuran (pilihan Anda) (kunci) **B.** binatang **C.** buah **D.** kesenian **E.** bunga

Jawaban Anda: **A. sayuran** · **Benar**

Pembahasan.
Dalam daftar hafalan, satu-satunya kata berhuruf awal **T** adalah **TERONG**, yang termasuk golongan **sayuran**. Jawaban: **a) sayuran**.

ME: DAYA INGAT · SOAL 176

176. Kata yang mempunyai huruf permulaan – W – adalah .....

A. sayuran **B.** binatang (pilihan Anda) (kunci) **C.** buah **D.** kesenian **E.** bunga

Jawaban Anda: **B. binatang** · **Benar**

Pembahasan.
Dalam daftar hafalan, satu-satunya kata berhuruf awal **W** adalah **WALABI**, yang termasuk golongan **binatang**. Jawaban: **b) binatang**.

07 Catatan dan keabsahan

Dasar perhitungan dan batas penggunaan laporan.

Laporan ini disusun otomatis dari jawaban peserta pada Latihan Tes Struktur Inteligensi (model IST). Skor dihitung otomatis dengan norma ist-norma-usia, dan dapat dipakai sebagai bahan belajar dan refleksi diri. Laporan ini bukan hasil asesmen psikologis resmi dan tidak menggantikan pemeriksaan oleh psikolog berizin.

No. laporan KP-G0P47R60WT
Dihasilkan oleh KlikPsikotes pada 1 November 2026, 05.19 WIB.
Sebutkan nomor ini bila perlu menanyakan laporan.

Latihan lagi?
Tes lain dan laporan lengkap ada di **klikpsikotes.com**