KlikPsikotes

No. laporan
KP-MGEJG2AT8M

LAPORAN HASIL TES

Tes Kemampuan Umum (model WPT)

Tes kognitif

CONTOH · peserta fiktif

DISUSUN UNTUK

Peserta Contoh

TANGGAL TES	MODE	SOAL TERJAWAB
28 Oktober 2026	Latihan	34 dari 50

Tentang laporan ini

Untuk siapa laporan ini dan cara membacanya.

Terima kasih telah mengerjakan **Tes Kemampuan Umum (model WPT)**. Laporan ini merangkum hasil Anda: skor, kategorinya, dan penjelasan setiap aspek. Skor dihitung otomatis dari jawaban Anda dengan kunci dan norma dari sumber tes.

IDENTITAS PESERTA

Nama lengkap **Peserta Contoh**	Email **peserta.contoh@example.com**
Usia saat tes **26 tahun**	Jenis kelamin **Perempuan**
Pendidikan terakhir **Sarjana (D4/S1)**	Tes **Tes Kemampuan Umum (model WPT) (KU12)**
Waktu selesai **28 Oktober 2026, 03.45 WIB**	Lama pengerjaan **10 menit 12 detik**
Soal terjawab **34 dari 50 soal**	

CARA MEMBACA LAPORAN

1. **Mulai dari ringkasan**
   Hasil utama dan kategorinya.
2. **Skor baku dan mentah**
   Baku dibandingkan norma; mentah adalah jumlah jawaban yang dinilai.
3. **Kategori**
   Posisi skor pada pita dari sumber tes.
4. **Gambaran saat ini**
   Kondisi saat tes, bukan label permanen.

CONTOH

Isi laporan

01 Ringkasan hasil
02 Rincian skor
03 Interpretasi per aspek
04 Analisis Coach AI
05 Rekap jawaban
06 Pembahasan soal
07 Catatan dan keabsahan

CONTOH
KP-MGEJG2AT8M · klikpsikotes.com

01 Ringkasan hasil

Hasil utama dan apa artinya secara singkat.

PERKIRAAN SKOR KEMAMPUAN UMUM

126

Superior

34 dari 50 soal dijawab benar.

RINGKASAN

Benar 34 dari 50 soal, perkiraan skor kemampuan umum 126 (Superior).

02 Rincian skor

Skor setiap aspek beserta kategorinya.

ASPEK	SKOR	KATEGORI
Kemampuan umum	**126** mentah 34	Superior

03 Interpretasi per aspek

Penjelasan tiap aspek menurut pita skor.

Kemampuan umum

Superior · skor 126

Perkiraan skor sampai 127. Istilah pada lembar skoring sumber: Superior.

CONTOH

04 Analisis Coach AI

Kekuatan, hal yang bisa dikembangkan, dan rencana latihan.

Skor kemampuan umum 126 (Superior); gunakan latihan untuk memetakan jenis soal yang paling menantang.

TES	SKOR STANDAR	KATEGORI
KU12, model WPT	Perkiraan 126	Superior

Anda menjawab benar 34 dari 50 soal dalam 10 menit. Hasil ini memberi gambaran kemampuan umum pada latihan KU12, tetapi tidak menunjukkan hasil pada tiap jenis soal secara terpisah.

Kekuatan Anda

Hasil keseluruhan

Skor standar perkiraan 126 berada pada kategori Superior menurut hasil latihan ini.

Pengerjaan

Anda menyelesaikan 34 soal dan waktu tidak habis; ini memberi dasar untuk meninjau strategi menjawab.

Bisa dikembangkan

Pemetaan jenis soal

KU12 hanya mencantumkan skor kemampuan umum, jadi belum terlihat jenis soal mana yang paling kuat atau menantang.

Coba: Catat jenis soal yang membuat Anda ragu saat latihan berikutnya.

Ketepatan menjawab

Ada 16 soal yang tidak tercatat benar, tetapi data tidak menjelaskan apakah soal itu salah atau tidak dijawab.

Coba: Setelah latihan, tinjau kembali setiap jawaban yang ragu dan tuliskan alasan yang tepat.

CONTOH

Rencana latihan 7 hari

Hari 1	Kerjakan KU12 lagi dengan tenang dan catat jenis soal yang terasa sulit. **Buka tes ›**
Hari 2–3	Latih Tes Analogi Gambar untuk berlatih menemukan perubahan pola dari A ke B, lalu menerapkannya pada C. **Buka tes ›**
Hari 4–5	Kerjakan Tes Penalaran Gambar dan catat pola yang keliru agar Anda tahu bagian yang perlu ditinjau. **Buka tes ›**
Hari 6–7	Ulangi KU12 dan bandingkan catatan jenis soal serta ketepatan dengan latihan sebelumnya. **Buka tes ›**

Ini hasil latihan, bukan penilaian psikologis resmi atau penentu kelayakan kerja maupun hasil seleksi. Analisis ini dibuat dengan bantuan AI dari skor di atas, bukan oleh psikolog.

05 Rekap jawaban

Benar dan salah untuk setiap soal.

Benar | Salah atau kosong

1	2	3	4	5	6	7	8	9	10
11	12	13	14	15	16	17	18	19	20
21	22	23	24	25	26	27	28	29	30
31	32	33	34	35	36	37	38	39	40
41	42	43	44	45	46	47	48	49	50

06 Pembahasan soal

Jawaban benar dan pembahasan yang disetujui.

KEMAMPUAN UMUM · SOAL 1

Dua bulan sebelum bulan ini, jika sekarang awal April, adalah Februari Januari Maret Mei Desember

Jawaban Anda: **1** · **Benar**

> **Pembahasan.**
> Jika sekarang awal April, satu bulan sebelumnya adalah Maret dan dua bulan sebelumnya adalah Februari. Jadi jawaban yang benar adalah pilihan **1**.

KEMAMPUAN UMUM · SOAL 2

MENGIZINKAN adalah lawan kata dari melarang menyetujui mengingatkan menghindari meragukan

Jawaban Anda: **tidak dijawab** · **Tidak dijawab** · Jawaban benar: **1**

> **Pembahasan.**
> Jawaban **1. melarang**. Mengizinkan berarti memberikan izin, sedangkan melarang berarti tidak memberikan izin atau mencegah seseorang melakukan sesuatu.

KEMAMPUAN UMUM · SOAL 3

Sebagian besar pilihan berikut memiliki kesamaan tertentu. Manakah yang paling kurang serupa dengan pilihan lainnya? April Jumat November Februari Juni

Jawaban Anda: **tidak dijawab** · **Tidak dijawab** · Jawaban benar: **2**

> **Pembahasan.**
> Jawaban **2. Jumat** benar karena April, November, Februari, dan Juni merupakan **nama bulan**, sedangkan Jumat merupakan **nama hari**.

CONTOH

KEMAMPUAN UMUM · SOAL 4

Jawablah dengan menuliskan YA atau TIDAK. Apakah a.n. berarti ‘akhir naskah’?

Jawaban Anda: **tidak** · **Benar**

Pembahasan.
a.n. adalah singkatan dari “atas nama”. Jadi, a.n. bukan berarti “akhir naskah”, sehingga jawabannya adalah **TIDAK**.

KEMAMPUAN UMUM · SOAL 5

Dalam kelompok kata berikut, manakah kata yang berbeda dari kata yang lain? delegasi komunitas rombongan perkumpulan menyatu

Jawaban Anda: **5** · **Benar**

Pembahasan.
Jawaban **5. menyatu** benar karena kata tersebut merupakan kata kerja yang menyatakan tindakan menjadi satu. Sementara itu, “delegasi”, “komunitas”, “rombongan”, dan “perkumpulan” merupakan kata benda yang menunjukkan kelompok.

KEMAMPUAN UMUM · SOAL 6

KUAT adalah lawan kata dari tegar kukuh tahan tangguh lemah

Jawaban Anda: **5** · **Benar**

Pembahasan.
Kuat berarti memiliki tenaga, daya, atau ketahanan yang besar. Lawan katanya adalah **5. lemah**, yaitu tidak kuat atau tidak bertenaga.

CONTOH

KEMAMPUAN UMUM · SOAL 7

Gambar manakah yang terbuat dari dua gambar di dalam tanda kurung? Tuliskan nomornya.

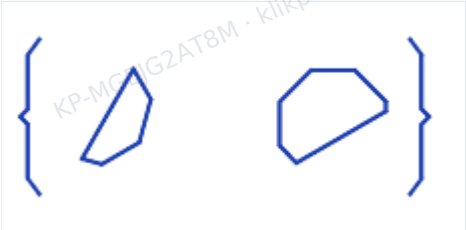

1 

2 

3 

4 

5 
Kunci

Jawaban Anda: **tidak dijawab** · **Tidak dijawab** · Jawaban benar: **5**

Pembahasan.
Jawaban: **5**. Kedua potongan di dalam kurung dapat diputar lalu disatukan pada sisi potongnya menjadi segi delapan, seperti gambar 5 yang garis pembaginya memisahkan dua bagian yang sama persis dengan kedua potongan itu. Pada gambar lain, salah satu bagiannya berbeda ukuran dengan kedua potongan, jadi tidak mungkin tersusun dari keduanya.

KEMAMPUAN UMUM · SOAL 8

Angka berapa yang melanjutkan deret berikut? 48 24 12 6 3 1½ ?

Jawaban Anda: **tidak dijawab** · **Tidak dijawab** · Jawaban benar: **0,75**

Pembahasan.
Setiap angka adalah angka sebelumnya dibagi 2. Jadi angka berikutnya adalah 1½ ÷ 2 = ¾.

CONTOH

KEMAMPUAN UMUM · SOAL 9

hadiah — pemberian. Apakah kata-kata ini: memiliki arti yang sama memiliki arti yang berlawanan tidak memiliki arti sama atau berlawanan?

Jawaban Anda: **1** · **Benar**

> **Pembahasan.**
> Jawaban **1** benar karena **hadiah** dan **pemberian** sama-sama berarti sesuatu yang diberikan kepada seseorang, biasanya sebagai tanda penghargaan atau kenang-kenangan.

KEMAMPUAN UMUM · SOAL 10

Bagian tubuh manakah yang menangkap rangsangan wangi dari makanan? pengecap penglihatan pendengar pembau peraba

Jawaban Anda: **4** · **Benar**

> **Pembahasan.**
> Jawaban **4. pembau** benar karena pembau merupakan alat indra yang menangkap dan mengenali rangsangan wangi.

KEMAMPUAN UMUM · SOAL 11

MENANG adalah lawan dari: kalah seri unggul jaya berhasil

Jawaban Anda: **1** · **Benar**

> **Pembahasan.**
> **Menang** berlawanan langsung dengan **kalah**, sehingga jawaban yang tepat adalah **1**. Seri menunjukkan hasil seimbang, sedangkan unggul, jaya, dan berhasil memiliki makna yang searah dengan kemenangan.

CONTOH
KP-MGEJG2AT8M · klikpsikotes.com

KEMAMPUAN UMUM · SOAL 12

Dalam ½ detik sebuah mobil balap menempuh 31 meter. Dengan kecepatan yang sama, berapa meter yang ditempuhnya selama 5 detik?

Jawaban Anda: **tidak dijawab** · **Tidak dijawab** · Jawaban benar: **310**

Pembahasan.
Dalam 1 detik ada dua kali ½ detik, jadi dalam 1 detik ditempuh 2 × 31 = 62 meter. Dalam 5 detik: 5 × 62 = **310** meter.

KEMAMPUAN UMUM · SOAL 13

Anggaplah dua pernyataan pertama adalah benar. Apakah pernyataan terakhir: 1. benar 2. salah 3. tidak tahu? Pahat ini merupakan alat kerja. Semua alat kerja digunakan untuk menghasilkan sesuatu. Pahat ini bukan alat kerja.

Jawaban Anda: **tidak dijawab** · **Tidak dijawab** · Jawaban benar: **2 / salah**

Pembahasan.
Pernyataan pertama menyatakan bahwa pahat ini adalah alat kerja, sedangkan kesimpulan menyatakan sebaliknya. Jadi, kesimpulan **2** salah.

KEMAMPUAN UMUM · SOAL 14

RAMAI adalah lawan kata dari riuh padat sepi gemerlap sibuk

Jawaban Anda: **tidak dijawab** · **Tidak dijawab** · Jawaban benar: **3**

Pembahasan.
Kata **ramai** berarti banyak orang atau meriah; lawan katanya adalah **3. sepi**, yang berarti tidak ramai atau tidak banyak orang.

CONTOH
KP-MGEJG2AT8M · klikpsikotes.com

KEMAMPUAN UMUM · SOAL 15

Harga 3 batang pulpen adalah 9 ribu rupiah. Berapa ribu rupiah yang harus dibayar untuk satu lusin pulpen?

Jawaban Anda: **36** · **Benar**

Pembahasan.
Satu lusin = 12 pulpen, yaitu 4 kali 3 pulpen. Harganya 4 × 9 = **36** ribu rupiah.

KEMAMPUAN UMUM · SOAL 16

Berapa pasang angka di bawah ini yang sama persis? 9115677 — 9115677 475538 — 472538 29360 — 29360 7874433 — 7874733 9146236 — 9142236

Jawaban Anda: **2** · **Benar**

Pembahasan.
Bandingkan setiap pasangan angka demi angka. Yang berbeda: 475538 dengan 472538; 7874433 dengan 7874733; 9146236 dengan 9142236; sisanya sama persis, jadi ada **2** pasangan yang sama persis.

KEMAMPUAN UMUM · SOAL 17

Misalkan Anda menyusun kata-kata berikut sehingga menjadi pernyataan yang benar. Lalu tuliskan huruf terakhir dari kata terakhir sebagai jawaban. *Umumnya burung terbang dapat*

Jawaban Anda: **G** · **Benar**

Pembahasan.
Susunan yang benar adalah “Umumnya burung dapat terbang.” Kata terakhirnya **terbang**, sehingga huruf terakhirnya adalah **G**.

CONTOH

KEMAMPUAN UMUM · SOAL 18

Saat ini umur Rani 8 tahun dan umur sepupunya 3 kali umur Rani. Berapa tahun umur sepupunya ketika Rani berumur 11 tahun?

Jawaban Anda: **tidak dijawab** · **Tidak dijawab** · Jawaban benar: **27**

Pembahasan.
Sekarang sepupunya berumur 3 × 8 = 24 tahun, jadi selisih umur mereka 16 tahun dan selisih itu tidak berubah. Ketika Rani berumur 11 tahun, sepupunya berumur 11 + 16 = **27** tahun.

KEMAMPUAN UMUM · SOAL 19

masa — massa. Apakah kata-kata ini: memiliki arti yang sama memiliki arti yang berlawanan tidak memiliki arti sama atau berlawanan?

Jawaban Anda: **tidak dijawab** · **Tidak dijawab** · Jawaban benar: **3**

Pembahasan.
Jawaban **3** benar karena **masa** dan **massa** memiliki tulisan yang hampir sama, tetapi maknanya berbeda. **Masa** berkaitan dengan waktu, sedangkan **massa** berkaitan dengan sekumpulan benda atau orang.

KEMAMPUAN UMUM · SOAL 20

Anggaplah dua pernyataan pertama adalah benar. Apakah pernyataan terakhir: 1. benar 2. salah 3. tidak tahu? Rina seumur dengan Tika. Tika lebih tua daripada Sari. Rina lebih tua daripada Dodi.

Jawaban Anda: **3** · **Benar**

Pembahasan.
Hubungan usia Rina dan Dodi tidak dijelaskan oleh kedua pernyataan pertama. Jadi kesimpulan tersebut tidak dapat dipastikan benar atau salah, sehingga jawabannya **3**.

CONTOH

KEMAMPUAN UMUM · SOAL 21

Pak Budi membeli sejumlah pot bunga seharga 7 juta rupiah. Semua pot laku terjual seharga 8,12 juta rupiah, dan setiap pot memberi untung 80 ribu rupiah. Berapa pot yang terjual?

Jawaban Anda: **14** · **Benar**

Pembahasan.
Seluruh keuntungan = 8,12 juta − 7 juta = 1.120 ribu rupiah. Karena setiap pot untung 80 ribu rupiah, jumlahnya 1.120 ÷ 80 = **14** pot.

KEMAMPUAN UMUM · SOAL 22

Misalkan Anda menyusun kata-kata berikut sehingga menjadi kalimat lengkap. Jika kalimat itu benar, tulislah (B). Jika salah, tulislah (S). *Memiliki tiga sisi segitiga*

Jawaban Anda: **b** · **Benar**

Pembahasan.
Kalimat yang tersusun adalah “Segitiga memiliki tiga sisi.” Pernyataan ini **B (benar)** karena tiga sisi merupakan ciri dasar segitiga.

KEMAMPUAN UMUM · SOAL 23

Dua dari peribahasa berikut ini memiliki arti sama. Manakah itu? Besar pasak daripada tiang. Buah jatuh tak jauh dari pohonnya. Air cucuran atap jatuhnya ke pelimbahan juga. Sambil menyelam minum air. Bagai pungguk merindukan bulan.

Jawaban Anda: **2,3** · **Benar**

Pembahasan.
Jawaban **2,3**. "Buah jatuh tak jauh dari pohonnya" dan "air cucuran atap jatuhnya ke pelimbahan juga" sama-sama menyatakan bahwa anak atau keturunan cenderung mengikuti sifat dan perilaku orang tuanya.

CONTOH

KEMAMPUAN UMUM · SOAL 24

Sebuah arloji tertinggal 1 menit 32 detik setelah 46 hari. Rata-rata berapa detik arloji itu tertinggal setiap hari?

Jawaban Anda: **2** · **Benar**

Pembahasan.
1 menit 32 detik = 92 detik. Dalam sehari: 92 ÷ 46 = **2** detik.

KEMAMPUAN UMUM · SOAL 25

progresif — regresif. Apakah kata-kata ini: memiliki arti yang sama memiliki arti yang berlawanan tidak memiliki arti sama atau berlawanan?

Jawaban Anda: **2** · **Benar**

Pembahasan.
Jawaban **2** benar karena *progresif* berarti menuju kemajuan atau perubahan ke arah yang lebih maju, sedangkan *regresif* berarti menuju kemunduran atau kembali ke keadaan sebelumnya. Kedua kata tersebut berlawanan makna.

KEMAMPUAN UMUM · SOAL 26

Anggaplah dua pernyataan pertama adalah benar. Apakah pernyataan terakhir: 1. benar 2. salah 3. tidak tahu? Setiap penulis gemar membaca. Sejumlah pengunjung bukan penulis. Sejumlah pengunjung gemar membaca.

Jawaban Anda: **3** · **Benar**

Pembahasan.
Premis pertama hanya menghubungkan penulis dengan kegemaran membaca, sedangkan premis kedua menyatakan bahwa sejumlah pengunjung bukan penulis. Tidak ada kepastian tentang kegemaran membaca para pengunjung tersebut, sehingga **3. tidak tahu**.

CONTOH

KEMAMPUAN UMUM · SOAL 27

Dalam 12 hari seorang anak menabung Rp96.000. Berapa rupiah rata-rata tabungannya setiap hari?

Jawaban Anda: **8000** · **Benar**

Pembahasan.
Rata-rata per hari = jumlah tabungan ÷ jumlah hari = Rp96.000 ÷ 12 = **8.000** rupiah.

KEMAMPUAN UMUM · SOAL 28

optimistis — pesimistis. Apakah kata-kata ini: memiliki arti yang sama memiliki arti yang berlawanan tidak memiliki arti sama atau berlawanan?

Jawaban Anda: **2** · **Benar**

Pembahasan.
Jawaban **2** benar karena optimistis berarti memiliki pandangan atau harapan baik, sedangkan pesimistis berarti memiliki pandangan atau harapan buruk. Kedua kata tersebut merupakan antonim.

KEMAMPUAN UMUM · SOAL 29

Andi dan Budi memetik 33 buah mangga. Jumlah mangga yang dipetik Andi 2 kali jumlah yang dipetik Budi. Berapa mangga yang dipetik Budi?

Jawaban Anda: **11** · **Benar**

Pembahasan.
Jika bagian Budi dianggap 1 bagian, bagian Andi adalah 2 bagian, jadi seluruhnya 3 bagian. 1 bagian = 33 ÷ 3 = **11** buah.

KEMAMPUAN UMUM · SOAL 30

Sebuah gudang berbentuk balok memiliki volume 216 m³. Jika panjangnya 12 m dan lebarnya 6 m, berapa meter tinggi gudang itu?

Jawaban Anda: **3** · **Benar**

Pembahasan.
Volume balok = panjang × lebar × tinggi. Luas alas = 12 × 6 = 72 m², jadi tinggi = 216 ÷ 72 = **3** m.

KEMAMPUAN UMUM · SOAL 31

Satu angka dalam deret berikut tidak cocok dengan pola angka lainnya. Angka berapakah itu? ½ ¼ 1/5 1/8 1/10 1/12

Jawaban Anda: **0.2** · **Benar**

Pembahasan.
Penyebutnya bertambah 2: 2, 4, 6, 8, 10, 12. Angka ke-3 seharusnya 1/6, tetapi tertulis **1/5**, jadi angka itulah yang tidak cocok.

KEMAMPUAN UMUM · SOAL 32

Jawablah dengan menuliskan YA atau TIDAK. Apakah e.g. berarti 'kesimpulannya'?

Jawaban Anda: **tidak** · **Benar**

Pembahasan.
e.g. adalah singkatan dari bahasa Latin *exempli gratia*, yang berarti "misalnya". Jadi, e.g. bukan berarti "kesimpulannya", sehingga jawabannya adalah **TIDAK**.

KEMAMPUAN UMUM · SOAL 33

naik pitam — marah. Apakah kata-kata ini: memiliki arti yang sama memiliki arti yang berlawanan tidak memiliki arti sama atau berlawanan?

Jawaban Anda: **1** · **Benar**

Pembahasan.
1 benar karena "naik pitam" adalah ungkapan yang berarti menjadi marah, sedangkan "marah" menyatakan keadaan yang sama.

KEMAMPUAN UMUM · SOAL 34

Sehelai kemeja membutuhkan 2½ meter kain. Berapa kemeja yang dapat dibuat dari 45 meter kain?

Jawaban Anda: **18** · **Benar**

Pembahasan.
2½ meter = 10/4 meter. Banyaknya = 45 ÷ 2½ = 45 × 4 ÷ 10 = **18** kemeja.

CONTOH
KP-MGEJG2AT8M · klikpsikotes.com

KEMAMPUAN UMUM · SOAL 35

Sebuah jam dinding tepat menunjukkan pukul 12.00 pada hari Senin. Pada pukul 00.00 hari Kamis, jam itu terlambat 60 detik. Dengan laju yang sama, berapa detik jam itu terlambat dalam ¼ jam?

Jawaban Anda: **0.25** · **Benar**

Pembahasan.
Dari Senin pukul 12.00 sampai pukul 00.00 hari Kamis ada 60 jam, dan selama itu jam terlambat 60 detik. Dalam ¼ jam (15 menit): 60 × 15 ÷ (60 × 60) = **0,25** detik.

KEMAMPUAN UMUM · SOAL 36

Tim voli sekolah kami menang 9 kali musim ini. Jumlah kemenangan itu adalah 3/5 dari seluruh pertandingan yang dimainkan. Berapa pertandingan yang dimainkan tim itu?

Jawaban Anda: **tidak dijawab** · **Tidak dijawab** · Jawaban benar: **15**

Pembahasan.
3/5 bagian = 9, jadi 1/5 bagian = 9 ÷ 3 = 3. Seluruhnya = 5 × 3 = **15** pertandingan.

KEMAMPUAN UMUM · SOAL 37

Angka berapa yang selanjutnya dalam deret ini? 3 1,5 0,75 0,375 ?

Jawaban Anda: **tidak dijawab** · **Tidak dijawab** · Jawaban benar: **0,1875**

Pembahasan.
Setiap angka adalah setengah dari angka sebelumnya. Jadi angka berikutnya 0,375 ÷ 2 = **0,1875**.

CONTOH

KEMAMPUAN UMUM · SOAL 38

Gambar manakah yang terbuat dari dua gambar di dalam tanda kurung? Tuliskan nomornya.

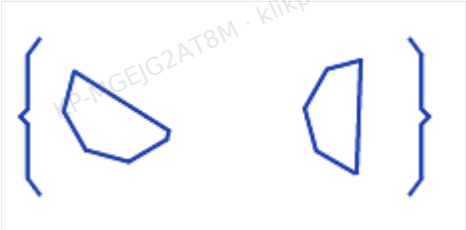

1 

2 

3 

4 

5 
Pilihan Anda · benar

Jawaban Anda: **5** · **Benar**

Pembahasan.
Jawaban: **5**. Kedua potongan di dalam kurung dapat diputar lalu disatukan pada sisi potongnya menjadi segi delapan, seperti gambar 5 yang garis pembaginya memisahkan dua bagian yang sama persis dengan kedua potongan itu. Pada gambar lain, salah satu bagiannya berbeda ukuran dengan kedua potongan, jadi tidak mungkin tersusun dari keduanya.

KEMAMPUAN UMUM · SOAL 39

Apakah makna dari kalimat berikut: 1. sama 2. berlawanan 3. tidak sama atau berlawanan? Ia selalu datang tepat waktu. Ia kerap terlambat menghadiri pertemuan.

Jawaban Anda: **tidak dijawab** · **Tidak dijawab** · Jawaban benar: **2**

Pembahasan.
Jawaban **2 (berlawanan)** benar karena kalimat pertama menyatakan ia selalu tepat waktu, sedangkan kalimat kedua menyatakan ia sering terlambat.

CONTOH

KEMAMPUAN UMUM · SOAL 40

Berapa pasang nama di bawah ini yang sama persis? Halim, T.T. — Halim, T.T. Rahmadi, G.L. — Rahmaid, G.L. Hartono, J.X. — Hatrono, J.X. Saputra, U.O. — Saputra, U.O. Wibowo, W.F. — Winowo, W.F.

Jawaban Anda: **2** · **Benar**

Pembahasan.
Bandingkan setiap pasangan huruf demi huruf. Yang berbeda: Rahmadi, G.L. dengan Rahmaid, G.L.; Hartono, J.X. dengan Hatrono, J.X.; Wibowo, W.F. dengan Winowo, W.F.; sisanya sama persis, jadi ada **2** pasangan yang sama persis.

KEMAMPUAN UMUM · SOAL 41

Dua dari peribahasa berikut ini memiliki arti sama. Manakah itu? Ada udang di balik batu. Berakit-rakit ke hulu, berenang-renang ke tepian. Bersakit-sakit dahulu, bersenang-senang kemudian. Bagai menegakkan benang basah. Karena nila setitik, rusak susu sebelanga.

Jawaban Anda: **2,3** · **Benar**

Pembahasan.
Jawaban **2,3**. Peribahasa nomor 2 dan 3 memiliki makna bahwa seseorang harus bersusah payah terlebih dahulu sebelum menikmati hasil atau kesenangan. Tiga peribahasa lainnya membahas maksud tersembunyi, pekerjaan yang hampir mustahil, dan dampak kesalahan kecil.

CONTOH

KEMAMPUAN UMUM · SOAL 42

Gambar manakah yang terbuat dari dua gambar di dalam tanda kurung? Tuliskan nomornya.



1 

2 

3 

4 

5 

Pilihan Anda · benar

Jawaban Anda: **5** · **Benar**

Pembahasan.
Jawaban: **5**. Kedua potongan di dalam kurung dapat diputar lalu disatukan pada sisi potongnya menjadi jajar genjang, seperti gambar 5 yang garis pembaginya memisahkan dua bagian yang sama persis dengan kedua potongan itu. Pada gambar lain, salah satu bagiannya berbeda ukuran dengan kedua potongan, jadi tidak mungkin tersusun dari keduanya.

KEMAMPUAN UMUM · SOAL 43

Manakah angka yang terkecil dalam kelompok angka berikut? 8 1 0,906 0,13 17

Jawaban Anda: **0.13** · **Benar**

Pembahasan.
Angka yang kurang dari 1 hanya 0,906 dan 0,13. Bandingkan angka di belakang koma satu per satu dari kiri: yang terkecil adalah **0,13**.

CONTOH

KEMAMPUAN UMUM · SOAL 44

Apakah makna dari kalimat berikut: 1. sama 2. berlawanan 3. tidak sama atau berlawanan? Sedikit demi sedikit, lama-lama menjadi bukit. Sedikit-sedikit, lama-lama menjadi bukit.

Jawaban Anda: **1** · **Benar**

Pembahasan.
Jawaban: **1 (sama)**. Kedua kalimat menyatakan bahwa sesuatu yang dikumpulkan sedikit demi sedikit pada akhirnya menjadi banyak atau besar. Perbedaannya hanya pada bentuk pengulangan kata.

KEMAMPUAN UMUM · SOAL 45

Bu Sari membeli 8 lusin telur seharga Rp360.000. Ternyata 4 lusin pecah dan tidak bisa dijual. Berapa rupiah ia harus menjual setiap lusin sisanya agar untungnya 1/4 dari harga beli?

Jawaban Anda: **tidak dijawab** · **Tidak dijawab** · Jawaban benar: **112.500**

Pembahasan.
Modal Rp360.000; keuntungan yang diinginkan 1/4 × Rp360.000 = Rp90.000, jadi seluruh penjualan harus Rp450.000. Yang dapat dijual hanya 8 − 4 = 4 lusin, sehingga harga per lusin = Rp450.000 ÷ 4 = **112.500** rupiah.

KEMAMPUAN UMUM · SOAL 46

Dalam rangkaian kata berikut ini, manakah kata yang berbeda dari yang lainnya? kelompok barisan himpunan rangkaian persahabatan

Jawaban Anda: **5** · **Benar**

Pembahasan.
Jawaban **5. persahabatan** benar karena kata tersebut menyatakan hubungan antarpihak, bukan kelompok atau kumpulan. Sementara itu, **kelompok, barisan, himpunan,** dan **rangkaian** dapat merujuk pada kumpulan atau susunan beberapa unsur.

CONTOH

KEMAMPUAN UMUM · SOAL 47

Anggaplah dua pernyataan pertama adalah benar. Apakah pernyataan terakhir: 1. benar 2. salah 3. tidak tahu? Semua penulis adalah pembaca. Rina adalah pembaca. Rina adalah penulis.

Jawaban Anda: **tidak dijawab** · **Tidak dijawab** · Jawaban benar: **3 / tidak tahu**

Pembahasan.
Jawaban **3 (tidak tahu)** benar. Dari premis bahwa semua penulis adalah pembaca dan Rina adalah pembaca, tidak dapat dipastikan bahwa Rina seorang penulis karena pembaca belum tentu penulis.

KEMAMPUAN UMUM · SOAL 48

Ani, Budi, dan Citra berdagang bersama. Ani menanam modal 5 juta rupiah, Budi 4 juta rupiah, dan Citra 1 juta rupiah. Keuntungan Rp900.000 dibagi sama rata. Berapa ribu rupiah selisih bagian Ani dibandingkan jika keuntungan dibagi menurut besarnya modal?

Jawaban Anda: **150** · **Benar**

Pembahasan.
Dalam ribu rupiah: dibagi sama rata, setiap orang mendapat 900 ÷ 3 = 300 ribu rupiah. Menurut besarnya modal, Ani mendapat 5/10 × 900 = 450 ribu rupiah. Selisihnya 450 − 300 = **150** ribu rupiah.

CONTOH

KEMAMPUAN UMUM · SOAL 49

Gambar manakah yang terbuat dari dua gambar di dalam tanda kurung? Tuliskan nomornya.



1



2



3



Kunci

4



5



Jawaban Anda: **tidak dijawab** · **Tidak dijawab** · Jawaban benar: **3**

Pembahasan.
Jawaban: **3**. Kedua potongan di dalam kurung dapat diputar lalu disatukan pada sisi potongnya menjadi layang-layang, seperti gambar 3 yang garis pembaginya memisahkan dua bagian yang sama persis dengan kedua potongan itu. Pada gambar lain, salah satu bagiannya berbeda ukuran dengan kedua potongan, jadi tidak mungkin tersusun dari keduanya.

KEMAMPUAN UMUM · SOAL 50

Sebuah perpustakaan menyusun 485 buku pada 23 rak yang semuanya terisi penuh. Rak kecil memuat 20 buku dan rak besar memuat 25 buku. Berapa rak besar yang ada?

Jawaban Anda: **tidak dijawab** · **Tidak dijawab** · Jawaban benar: **5**

Pembahasan.
Jika semua 23 rak berukuran kecil, isinya 23 × 20 = 460. Kekurangannya 485 − 460 = 25. Setiap rak besar memuat 5 lebih banyak, jadi banyaknya rak besar = 25 ÷ 5 = **5**.

CONTOH

07 Catatan dan keabsahan

Dasar perhitungan dan batas penggunaan laporan.

Laporan ini disusun otomatis dari jawaban peserta pada Latihan Tes Kemampuan Umum (model WPT). Skor dihitung otomatis dengan norma wpt-form-a-workbook, dan dapat dipakai sebagai bahan belajar dan refleksi diri. Laporan ini bukan hasil asesmen psikologis resmi dan tidak menggantikan pemeriksaan oleh psikolog berizin.

No. laporan KP-MGEJG2AT8M
Dihasilkan oleh KlikPsikotes pada 28 Oktober 2026, 12.53 WIB.
Sebutkan nomor ini bila perlu menanyakan laporan.

Latihan lagi?
Tes lain dan laporan lengkap ada di **klikpsikotes.com**

CONTOH
KP-MGEJG2AT8M · klikpsikotes.com