KlikPsikotes

No. laporan
KP-7944ZY60Y1

LAPORAN HASIL TES

Tes SKD CPNS (TWK, TIU, TKP)

Tes kognitif

CONTOH · peserta fiktif

DISUSUN UNTUK

Peserta Contoh

TANGGAL TES	MODE	SOAL TERJAWAB
30 Oktober 2026	**Latihan**	**110 dari 110**

Tentang laporan ini

Untuk siapa laporan ini dan cara membacanya.

Terima kasih telah mengerjakan **Tes SKD CPNS (TWK, TIU, TKP)**. Laporan ini merangkum hasil Anda: skor, kategorinya, dan penjelasan setiap aspek. Skor dihitung otomatis dari jawaban Anda dengan kunci dan norma dari sumber tes.

IDENTITAS PESERTA

Nama lengkap **Peserta Contoh**	Email **peserta.contoh@example.com**
Usia saat tes **26 tahun**	Jenis kelamin **Perempuan**
Pendidikan terakhir **Sarjana (D4/S1)**	Tes **Tes SKD CPNS (TWK, TIU, TKP)**
Waktu selesai **30 Oktober 2026, 14.20 WIB**	Lama pengerjaan **1 jam 25 menit 0 detik**
Soal terjawab **110 dari 110 soal**	

CARA MEMBACA LAPORAN

1. **Mulai dari ringkasan**
   Hasil utama dan kategorinya.
2. **Skor baku dan mentah**
   Baku dibandingkan norma; mentah adalah jumlah jawaban yang dinilai.
3. **Kategori**
   Posisi skor pada pita dari sumber tes.
4. **Gambaran saat ini**
   Kondisi saat tes, bukan label permanen.

Isi laporan

01 Ringkasan hasil
02 Rincian skor
03 Interpretasi per aspek
04 Analisis Coach AI
05 Rekap jawaban
06 Pembahasan soal
07 Catatan dan keabsahan

CONTOH
KP-7944ZY60Y1 · klikpsikotes.com

01 Ringkasan hasil

Hasil utama dan apa artinya secara singkat.

78 dari 110 soal dijawab benar.

RINGKASAN

TWK 120, TIU 120 dan TKP 190; total 430. Memenuhi semua nilai ambang batas.

Skor tertinggi

Nilai total SKD 430

Tes Karakteristik Pribadi 190
Memenuhi ambang batas

Tes Wawasan Kebangsaan 120
Memenuhi ambang batas

Skor terendah

Tes Wawasan Kebangsaan 120
Memenuhi ambang batas

Tes Intelegensia Umum 120
Memenuhi ambang batas

Tes Karakteristik Pribadi 190
Memenuhi ambang batas

Sebaran kategori: **Memenuhi ambang batas 3**

02 Rincian skor

Skor setiap aspek beserta kategorinya.

ASPEK	SKOR	KATEGORI
Tes Wawasan Kebangsaan (TWK)	**120** mentah 120	Memenuhi ambang batas
Tes Intelegensia Umum (TIU)	**120** mentah 120	Memenuhi ambang batas
Tes Karakteristik Pribadi (TKP)	**190** mentah 190	Memenuhi ambang batas
Nilai total SKD	**430** mentah 430	–

03 Interpretasi per aspek

Penjelasan tiap aspek menurut pita skor.

Tes Wawasan Kebangsaan (TWK)

Memenuhi ambang batas · skor 120

Nilai Anda mencapai nilai ambang batas (nilai ambang batas 65).

Tes Intelegensia Umum (TIU)

Memenuhi ambang batas · skor 120

Nilai Anda mencapai nilai ambang batas (nilai ambang batas 80).

Tes Karakteristik Pribadi (TKP)

Memenuhi ambang batas · skor 190

Nilai Anda mencapai nilai ambang batas (nilai ambang batas 166).

04 Analisis Coach AI

Kekuatan, hal yang bisa dikembangkan, dan rencana latihan.

Total SKD 430; TWK, TIU, dan TKP semuanya memenuhi ambang batas

TOTAL SKD	TWK DAN TIU	TKP
430	120 dan 120; ambang 65 dan 80	190; ambang 166

Pada latihan SKD ini, skor TWK 120, TIU 120, dan TKP 190 masing-masing memenuhi ambang batas yang tercantum. Anda menjawab seluruh 110 soal dalam 85 menit; hasil latihan ini tidak menjamin hasil seleksi resmi.

Kekuatan Anda

TWK memenuhi ambang

Skor TWK 120, lebih tinggi daripada ambang batas 65.

TIU memenuhi ambang

Skor TIU 120, lebih tinggi daripada ambang batas 80.

TKP memenuhi ambang

Skor TKP 190, lebih tinggi daripada ambang batas 166.

Bisa dikembangkan

Perdalam TIU

Hasil ini tidak memuat rincian subjenis soal TIU, jadi belum menunjukkan bagian yang paling perlu diperkuat.

Coba: Tinjau jawaban TIU yang keliru dan kelompokkan menurut jenis soal sebelum berlatih lagi.

Jaga ketepatan TWK

Skor TWK memenuhi ambang, dan latihan terarah dapat membantu mempertahankan pemahaman materi.

Coba: Catat topik TWK yang masih ragu, lalu ulangi materi dan kerjakan soal terkait.

Pertahankan capaian TKP

Skor TKP memenuhi ambang; data ini tidak merinci tema jawaban yang menjadi kekuatan atau tantangan.

Coba: Tinjau pilihan TKP yang paling sulit dan tuliskan alasan memilih respons tersebut.

Rencana latihan 7 hari

Hari 1	Tinjau hasil TWK, TIU, dan TKP, lalu tandai soal yang salah atau masih meragukan. **Buka tes ›**
Hari 2–3	Kerjakan Tes Kemampuan Umum (model WPT) untuk melatih campuran soal kata, angka, logika, dan gambar. **Buka tes ›**
Hari 4–5	Latih kembali jenis soal SKD yang paling banyak keliru dan catat alasan setiap kesalahan. **Buka tes ›**
Hari 6–7	Kerjakan Tes Mengikuti Instruksi (model Army Alpha) untuk melatih membaca perintah dengan teliti. **Buka tes ›**

Ini adalah hasil latihan, bukan penilaian resmi atau jaminan kelulusan seleksi. Analisis ini dibuat dengan bantuan AI dari skor di atas, bukan oleh psikolog.

05 Rekap jawaban

Benar dan salah untuk setiap soal.

Benar | Salah atau kosong

1	2	3	4	5	6	7	8	9	10
11	12	13	14	15	16	17	18	19	20
21	22	23	24	25	26	27	28	29	30
31	32	33	34	35	36	37	38	39	40
41	42	43	44	45	46	47	48	49	50
51	52	53	54	55	56	57	58	59	60
61	62	63	64	65	66	67	68	69	70
71	72	73	74	75	76	77	78	79	80
81	82	83	84	85	86	87	88	89	90
91	92	93	94	95	96	97	98	99	100
101	102	103	104	105	106	107	108	109	110

CONTOH
KP-7944ZY60Y1 · klikpsikotes.com

06 Pembahasan soal

Jawaban benar dan pembahasan yang disetujui.

TES WAWASAN KEBANGSAAN (TWK) · SOAL 1

Semboyan Bhinneka Tunggal Ika dikaitkan dengan upaya menjaga persatuan dalam pergaulan sehari-hari. Makna yang paling tepat adalah ....

A. Setiap daerah sebaiknya memakai satu bahasa daerah yang sama **B.** Perbedaan suku tidak menjadi alasan untuk membeda-bedakan teman (pilihan Anda) (kunci) **C.** Budaya dari luar daerah harus ditolak seluruhnya **D.** Keberagaman sebaiknya diseragamkan agar mudah diatur **E.** Pergaulan cukup dijalin dengan orang dari daerah sendiri

Jawaban Anda: **B. Perbedaan suku tidak menjadi alasan untuk membeda-bedakan teman** · **Benar**

Pembahasan.
Bhinneka Tunggal Ika berarti "berbeda-beda tetapi tetap satu". Dalam pergaulan, semboyan ini diwujudkan dengan tidak membeda-bedakan orang karena suku, bahasa daerah, agama, atau budayanya. Pilihan lain justru menyeragamkan atau menutup diri dari perbedaan.

TES WAWASAN KEBANGSAAN (TWK) · SOAL 2

Bu Rina selalu menilai dan memperlakukan orang berdasarkan harta serta jabatannya, dan meremehkan mereka yang dianggapnya lebih rendah. Sikap Bu Rina bertentangan dengan sila ....

A. Ketuhanan Yang Maha Esa **B.** Persatuan Indonesia **C.** Kemanusiaan yang adil dan beradab (pilihan Anda) (kunci) **D.** Kerakyatan yang dipimpin oleh hikmat kebijaksanaan dalam permusyawaratan/perwakilan **E.** Keadilan sosial bagi seluruh rakyat Indonesia

Jawaban Anda: **C. Kemanusiaan yang adil dan beradab** · **Benar**

Pembahasan.
Sila kedua menuntut kita mengakui persamaan derajat, hak, dan kewajiban setiap manusia tanpa membeda-bedakan kedudukan sosial atau kekayaannya. Sikap sombong dan merendahkan orang lain bertentangan dengan sila ini.

TES WAWASAN KEBANGSAAN (TWK) · SOAL 3

Pancasila sebagai paradigma pembangunan menuntut agar pembangunan tidak bersifat pragmatis. Artinya, pembangunan ....

A. Harus mendahulukan kelompok yang paling kuat agar cepat berhasil **B.** Wajib melayani satu ideologi tertentu secara mutlak **C.** Cukup diukur dari jumlah proyek yang selesai **D.** Tidak semata mengejar hasil nyata dengan mengabaikan pertimbangan etis (pilihan Anda) (kunci) **E.** Diserahkan sepenuhnya kepada pihak swasta

Jawaban Anda: **D. Tidak semata mengejar hasil nyata dengan mengabaikan pertimbangan etis** · **Benar**

Pembahasan.
Pragmatis berarti hanya mementingkan hasil atau kegunaan praktis. Pembangunan yang berlandaskan Pancasila tidak boleh hanya mengejar hasil nyata, tetapi juga harus mempertimbangkan nilai etis dan martabat manusia.

TES WAWASAN KEBANGSAAN (TWK) · SOAL 4

Pembangunan nasional di segala bidang yang menjadikan nilai-nilai Pancasila sebagai kerangka acuan dan tolok ukurnya merupakan wujud Pancasila sebagai ....

A. Ideologi tertutup **B.** Paradigma pembangunan (pilihan Anda) (kunci) **C.** Nilai instrumental **D.** Pandangan hidup golongan **E.** Perjanjian luhur

Jawaban Anda: **B. Paradigma pembangunan** · **Benar**

Pembahasan.
Pancasila sebagai paradigma pembangunan berarti nilai-nilai dasar Pancasila menjadi kerangka acuan, dasar, dan tolok ukur seluruh aspek pembangunan nasional.

CONTOH

TES WAWASAN KEBANGSAAN (TWK) · SOAL 5

Berikut ini merupakan contoh pengamalan sila ketiga Pancasila, kecuali ....

A. Mengembangkan sikap tenggang rasa dan tepa selira (pilihan Anda) (kunci) **B.** Menempatkan persatuan di atas kepentingan pribadi dan golongan **C.** Rela berkorban demi kepentingan bangsa dan negara **D.** Memajukan pergaulan demi persatuan dan kesatuan bangsa **E.** Mengembangkan rasa cinta tanah air

Jawaban Anda: **A. Mengembangkan sikap tenggang rasa dan tepa selira** · **Benar**

Pembahasan.
Sikap tenggang rasa dan tepa selira termasuk pengamalan sila kedua (Kemanusiaan yang adil dan beradab). Empat pilihan lainnya berkaitan dengan persatuan, rela berkorban, dan cinta tanah air yang merupakan pengamalan sila ketiga (Persatuan Indonesia).

TES WAWASAN KEBANGSAAN (TWK) · SOAL 6

Sikap memandang bangsa Indonesia sebagai bagian dari seluruh umat manusia sehingga mengembangkan sikap hormat-menghormati dan bekerja sama dengan bangsa lain merupakan pengamalan sila ....

A. Pertama **B.** Ketiga **C.** Keempat **D.** Kelima **E.** Kedua (pilihan Anda) (kunci)

Jawaban Anda: **E. Kedua** · **Benar**

Pembahasan.
Salah satu butir pengamalan sila kedua adalah menyadari bahwa bangsa Indonesia merupakan bagian dari seluruh umat manusia, sehingga perlu mengembangkan sikap hormat-menghormati dan kerja sama dengan bangsa lain.

CONTOH

TES WAWASAN KEBANGSAAN (TWK) · SOAL 7

Pancasila sebagai paradigma pembangunan di bidang politik menuntut agar ....

A. Kekuasaan dipusatkan pada satu lembaga negara **B.** Partai politik dibatasi menjadi satu **C.** Pemilu cukup diikuti oleh pejabat negara **D.** Keputusan politik diambil tanpa melibatkan masyarakat **E.** Rakyat ditempatkan sebagai subjek, bukan objek politik (pilihan Anda) (kunci)

Jawaban Anda: **E. Rakyat ditempatkan sebagai subjek, bukan objek politik** · **Benar**

> **Pembahasan.**
> Pembangunan politik yang berlandaskan Pancasila harus menempatkan rakyat sebagai pelaku (subjek) yang berdaulat, bukan sekadar sasaran (objek) kebijakan politik.

TES WAWASAN KEBANGSAAN (TWK) · SOAL 8

Alinea ketiga Pembukaan UUD 1945 menyatakan bahwa kemerdekaan dicapai "atas berkat rahmat Allah Yang Maha Kuasa". Pernyataan ini menunjukkan bahwa ....

A. Kemerdekaan tidak perlu diperjuangkan **B.** Kemerdekaan hanya hasil perundingan dengan penjajah **C.** Bangsa Indonesia adalah bangsa yang religius (pilihan Anda) (kunci) **D.** Perjuangan kemerdekaan dipimpin oleh tokoh agama **E.** Kemerdekaan diberikan oleh bangsa lain

Jawaban Anda: **C. Bangsa Indonesia adalah bangsa yang religius** · **Benar**

> **Pembahasan.**
> Pengakuan bahwa kemerdekaan merupakan berkat rahmat Tuhan menunjukkan bahwa bangsa Indonesia adalah bangsa yang religius, sejalan dengan sila pertama Pancasila. Pernyataan itu tidak meniadakan perjuangan bangsa Indonesia.

CONTOH

TES WAWASAN KEBANGSAAN (TWK) · SOAL 9

Dalam rapat warga, usul Pak Darto tidak dipilih. Ia tetap menerima keputusan bersama dan tidak memaksakan pendapatnya kepada peserta lain. Sikap Pak Darto mencerminkan pengamalan sila ....

A. Pertama **B.** Kedua **C.** Ketiga **D.** Keempat (pilihan Anda) (kunci) **E.** Kelima

Jawaban Anda: **D. Keempat** · **Benar**

Pembahasan.
Sila keempat menekankan musyawarah untuk mufakat: setiap orang boleh berpendapat, tetapi tidak memaksakan kehendak kepada orang lain dan menerima hasil keputusan bersama dengan tanggung jawab.

TES WAWASAN KEBANGSAAN (TWK) · SOAL 10

Rumusan Pancasila yang resmi dan sah sebagai dasar negara terdapat dalam ....

A. Pembukaan UUD 1945 yang disahkan PPKI pada 18 Agustus 1945 (kunci) **B.** Pidato Mr. Muhammad Yamin pada 29 Mei 1945 (pilihan Anda) **C.** Piagam Jakarta 22 Juni 1945 **D.** Pidato Ir. Soekarno pada 1 Juni 1945 **E.** Mukadimah Konstitusi RIS

Jawaban Anda: **B. Pidato Mr. Muhammad Yamin pada 29 Mei 1945** · **Kurang tepat** · Jawaban benar: **A. Pembukaan UUD 1945 yang disahkan PPKI pada 18 Agustus 1945**

Pembahasan.
Rumusan Pancasila yang sah adalah yang tercantum dalam alinea keempat Pembukaan UUD 1945, yang disahkan oleh PPKI pada 18 Agustus 1945. Rumusan lain merupakan usulan atau rumusan pada masa tertentu.

CONTOH

TES WAWASAN KEBANGSAAN (TWK) · SOAL 11

Janji Jepang untuk memberikan kemerdekaan kepada Indonesia "di kemudian hari" diumumkan pada 7 September 1944 oleh Perdana Menteri ....

A. Hideki Tojo **B.** Kuniaki Koiso (pilihan Anda) (kunci) **C.** Laksamana Tadashi Maeda **D.** Marsekal Hisaichi Terauchi **E.** Letjen Kumakichi Harada

Jawaban Anda: **B. Kuniaki Koiso** · **Benar**

Pembahasan.
Pada 7 September 1944 Perdana Menteri Jepang Kuniaki Koiso mengumumkan janji kemerdekaan bagi Indonesia, yang dikenal sebagai Janji Koiso. Hideki Tojo adalah perdana menteri sebelumnya, sedangkan Maeda, Terauchi, dan Harada adalah tokoh militer Jepang.

TES WAWASAN KEBANGSAAN (TWK) · SOAL 12

Pola hubungan yang berorientasi ke atasan, sangat mementingkan hubungan formal, dan bersifat impersonal merupakan ciri etos budaya masyarakat ....

A. Petani **B.** Nelayan **C.** Pedagang **D.** Tradisional **E.** Birokrat (pilihan Anda) (kunci)

Jawaban Anda: **E. Birokrat** · **Benar**

Pembahasan.
Etos budaya birokrat ditandai oleh orientasi ke atas (kepada atasan), hubungan yang formal, dan sifat impersonal sesuai jenjang jabatan.

TES WAWASAN KEBANGSAAN (TWK) · SOAL 13

Menurut UUD 1945, Presiden menyatakan perang, membuat perdamaian, dan membuat perjanjian dengan negara lain dengan persetujuan ....

A. Majelis Permusyawaratan Rakyat **B.** Dewan Perwakilan Daerah **C.** Dewan Perwakilan Rakyat (pilihan Anda) (kunci) **D.** Mahkamah Konstitusi **E.** Panglima TNI

Jawaban Anda: **C. Dewan Perwakilan Rakyat** · **Benar**

Pembahasan.
Pasal 11 ayat (1) UUD 1945 menyatakan bahwa Presiden dengan persetujuan DPR menyatakan perang, membuat perdamaian, dan membuat perjanjian dengan negara lain.

TES WAWASAN KEBANGSAAN (TWK) · SOAL 14

Menurut UU Nomor 12 Tahun 2011, jenis peraturan yang berada pada urutan paling bawah dalam hierarki peraturan perundang-undangan adalah ....

A. Peraturan Presiden **B.** Peraturan Pemerintah **C.** Peraturan Daerah Provinsi **D.** Peraturan Daerah Kabupaten/Kota (pilihan Anda) (kunci) **E.** Peraturan Pemerintah Pengganti Undang-Undang

Jawaban Anda: **D. Peraturan Daerah Kabupaten/Kota** · **Benar**

Pembahasan.
Pasal 7 ayat (1) UU 12/2011 menyusun hierarki: UUD 1945; Ketetapan MPR; UU/Perppu; Peraturan Pemerintah; Peraturan Presiden; Peraturan Daerah Provinsi; dan Peraturan Daerah Kabupaten/Kota. Yang paling bawah adalah Peraturan Daerah Kabupaten/Kota.

TES WAWASAN KEBANGSAAN (TWK) · SOAL 15

Ketentuan bahwa negara menghormati dan memelihara bahasa daerah sebagai kekayaan budaya nasional terdapat dalam UUD 1945 Pasal ....

A. 28C ayat (1) **B.** 31 ayat (3) **C.** 32 ayat (2) (pilihan Anda) (kunci) **D.** 36 **E.** 18B ayat (2)

Jawaban Anda: **C. 32 ayat (2)** · **Benar**

Pembahasan.
Pasal 32 ayat (2) UUD 1945 berbunyi: negara menghormati dan memelihara bahasa daerah sebagai kekayaan budaya nasional. Pasal 36 mengatur Bahasa Indonesia sebagai bahasa negara.

CONTOH

TES WAWASAN KEBANGSAAN (TWK) · SOAL 16

Terwujudnya nasionalisme yang tinggi pada seluruh rakyat Indonesia, yang lebih mengutamakan kepentingan nasional daripada kepentingan golongan, merupakan ....

A. Tujuan wawasan nusantara (pilihan Anda) (kunci) **B.** Pengertian ketahanan nasional **C.** Tujuan ketahanan nasional **D.** Pengertian wawasan nusantara **E.** Tujuan pembangunan nasional

Jawaban Anda: **A. Tujuan wawasan nusantara** · **Benar**

Pembahasan.
Wawasan nusantara adalah cara pandang bangsa Indonesia tentang diri dan lingkungannya sebagai satu kesatuan. Salah satu tujuannya adalah mewujudkan nasionalisme yang tinggi yang mengutamakan kepentingan nasional di atas kepentingan golongan.

TES WAWASAN KEBANGSAAN (TWK) · SOAL 17

Bu Sari ditugaskan kantornya mengikuti bimbingan teknis di luar kota selama empat hari. Ternyata kegiatan selesai satu hari lebih cepat. Sikap yang mencerminkan integritas adalah ....

A. Memakai sisa satu hari untuk berwisata **B.** Pulang lebih awal dan beristirahat di rumah **C.** Tidak memberi tahu kantor dan memakai sisa waktu untuk urusan pribadi **D.** Melapor ke kantor bahwa kegiatan selesai lebih cepat dan menunggu arahan (pilihan Anda) (kunci) **E.** Pulang dan berlibur bersama keluarga

Jawaban Anda: **D. Melapor ke kantor bahwa kegiatan selesai lebih cepat dan menunggu arahan** · **Benar**

Pembahasan.
Integritas berarti jujur dan bertanggung jawab atas tugas yang diberikan. Melaporkan bahwa kegiatan selesai lebih cepat dan menunggu arahan menunjukkan kejujuran dan tidak memanfaatkan waktu dinas untuk kepentingan pribadi.

CONTOH

TES WAWASAN KEBANGSAAN (TWK) · SOAL 18

Menurut ketentuan tentang pemerintahan daerah, pembentukan sebuah provinsi baru mensyaratkan cakupan wilayah paling sedikit ....

A. 3 kabupaten/kota (pilihan Anda) **B.** 5 kabupaten/kota (kunci) **C.** 7 kabupaten/kota **D.** 10 kabupaten/kota **E.** 5 kecamatan

Jawaban Anda: **A. 3 kabupaten/kota** · **Kurang tepat** · Jawaban benar: **B. 5 kabupaten/kota**

Pembahasan.
Syarat cakupan wilayah untuk membentuk provinsi adalah paling sedikit 5 kabupaten/kota. Untuk kabupaten paling sedikit 5 kecamatan, dan untuk kota paling sedikit 4 kecamatan.

TES WAWASAN KEBANGSAAN (TWK) · SOAL 19

Putusan hakim terdahulu yang kemudian diikuti oleh hakim lain dalam memutus perkara yang serupa disebut ....

A. Doktrin **B.** Traktat **C.** Kebiasaan **D.** Undang-undang **E.** Yurisprudensi (pilihan Anda) (kunci)

Jawaban Anda: **E. Yurisprudensi** · **Benar**

Pembahasan.
Yurisprudensi adalah putusan hakim terdahulu yang dijadikan dasar oleh hakim lain untuk memutus perkara yang sama. Doktrin adalah pendapat ahli hukum, sedangkan traktat adalah perjanjian antarnegara.

CONTOH

TES WAWASAN KEBANGSAAN (TWK) · SOAL 20

Keberadaan partai politik dalam negara demokrasi diperlukan terutama karena partai politik ....

A. Satu-satunya wadah untuk menyalurkan aspirasi **B.** Menjadi sarana partisipasi masyarakat dalam mengembangkan demokrasi (pilihan Anda) (kunci) **C.** Menentukan sendiri presiden dan wakil presiden **D.** Dibentuk karena banyak tuntutan masyarakat **E.** Menjamin negara pasti menjadi demokratis

Jawaban Anda: **B. Menjadi sarana partisipasi masyarakat dalam mengembangkan demokrasi** · **Benar**

Pembahasan.
Partai politik adalah salah satu sarana bagi masyarakat untuk berpartisipasi aktif dalam politik dan menyalurkan aspirasi, sehingga penting bagi berkembangnya demokrasi. Partai politik bukan satu-satunya wadah aspirasi.

TES WAWASAN KEBANGSAAN (TWK) · SOAL 21

Ir. Soekarno menyampaikan pidato tentang dasar negara yang ia beri nama Pancasila dalam sidang BPUPKI pada tanggal ....

A. 29 Mei 1945 **B.** 31 Mei 1945 **C.** 22 Juni 1945 **D.** 1 Juni 1945 (pilihan Anda) (kunci) **E.** 18 Agustus 1945

Jawaban Anda: **D. 1 Juni 1945** · **Benar**

Pembahasan.
Pada sidang pertama BPUPKI tanggal 1 Juni 1945, Ir. Soekarno berpidato tentang lima dasar negara yang dinamainya Pancasila. Tanggal 1 Juni kemudian diperingati sebagai Hari Lahir Pancasila.

CONTOH

TES WAWASAN KEBANGSAAN (TWK) · SOAL 22

Semboyan Bhinneka Tunggal Ika diambil dari Kakawin Sutasoma karya Mpu Tantular. Selain Muhammad Yamin dan Bung Karno, tokoh yang disebut ikut membicarakan semboyan ini di sela sidang-sidang BPUPKI adalah ....

A. Adam Malik **B.** I Gusti Bagus Sugriwa (pilihan Anda) (kunci) **C.** Sultan Hamid II **D.** Ahmad Soebardjo **E.** Ki Hajar Dewantara

Jawaban Anda: **B. I Gusti Bagus Sugriwa** · **Benar**

Pembahasan.
Semboyan Bhinneka Tunggal Ika mulai dibicarakan secara terbatas oleh Muhammad Yamin, Bung Karno, dan I Gusti Bagus Sugriwa di sela sidang BPUPKI. Semboyan ini kemudian dimasukkan ke dalam lambang negara Garuda Pancasila.

TES WAWASAN KEBANGSAAN (TWK) · SOAL 23

Salah satu penyebab memudarnya semangat nasionalisme di kalangan generasi muda adalah ....

A. Nasionalisme diwujudkan melalui sikap dan perbuatan **B.** Generasi muda aktif dalam kegiatan sosial (pilihan Anda) **C.** Banyaknya tokoh teladan di masyarakat **D.** Generasi muda menguasai teknologi **E.** Nasionalisme dipahami hanya sebatas perjuangan fisik (kunci)

Jawaban Anda: **B. Generasi muda aktif dalam kegiatan sosial** · **Kurang tepat** · Jawaban benar: **E. Nasionalisme dipahami hanya sebatas perjuangan fisik**

Pembahasan.
Bila nasionalisme dipahami sebatas perjuangan fisik melawan penjajah, generasi muda tidak melihat wujud nasionalisme dalam kehidupan sehari-hari, seperti belajar, berkarya, dan menjaga persatuan, sehingga semangat itu memudar.

CONTOH

TES WAWASAN KEBANGSAAN (TWK) · SOAL 24

Warga memergoki seseorang yang mencoba mencuri sepeda motor di kampungnya. Mereka tidak menghakimi pelaku, tetapi mengamankannya lalu menyerahkannya kepada polisi. Sikap warga tersebut mencerminkan ....

A. Solidaritas kelompok **B.** Rela berkorban **C.** Tenggang rasa **D.** Kesadaran untuk menaati hukum dan tidak main hakim sendiri (pilihan Anda) (kunci) **E.** Semangat persatuan

Jawaban Anda: **D. Kesadaran untuk menaati hukum dan tidak main hakim sendiri** · **Benar**

Pembahasan.
Dengan menyerahkan pelaku kepada polisi dan tidak main hakim sendiri, warga menunjukkan kesadaran hukum: penanganan pelanggaran diserahkan kepada aparat yang berwenang.

TES WAWASAN KEBANGSAAN (TWK) · SOAL 25

Perbedaan utama antara perjanjian bilateral dan perjanjian multilateral terletak pada ....

A. Jumlah negara pesertanya (kunci) **B.** Objek yang diperjanjikan **C.** Bahasa yang digunakan (pilihan Anda) **D.** Cara pengesahannya **E.** Lama berlakunya

Jawaban Anda: **C. Bahasa yang digunakan** · **Kurang tepat** · Jawaban benar: **A. Jumlah negara pesertanya**

Pembahasan.
Perjanjian bilateral disepakati oleh dua negara, sedangkan perjanjian multilateral disepakati oleh lebih dari dua negara. Jadi perbedaannya terletak pada jumlah peserta.

CONTOH

TES WAWASAN KEBANGSAAN (TWK) · SOAL 26

Kebijakan menggunting uang kertas bernilai Rp2,50 ke atas sehingga nilainya tinggal setengah, yang berlaku sejak Maret 1950, dikenal dengan sebutan ....

A. Gerakan Benteng **B.** Sistem Ali-Baba **C.** Gunting Syafruddin (pilihan Anda) (kunci) **D.** Oeang Republik Indonesia **E.** Sanering 1959

Jawaban Anda: **C. Gunting Syafruddin** · **Benar**

Pembahasan.
Gunting Syafruddin adalah kebijakan Menteri Keuangan Syafruddin Prawiranegara pada Maret 1950 untuk mengatasi inflasi dan kesulitan keuangan negara, dengan memotong nilai uang kertas Rp2,50 ke atas menjadi setengahnya.

TES WAWASAN KEBANGSAAN (TWK) · SOAL 27

Sekelompok orang menyebarkan kabar bohong bernuansa SARA melalui grup percakapan daring dengan tujuan memecah belah masyarakat. Tindakan ini terutama bertentangan dengan sila ....

A. Ketuhanan Yang Maha Esa **B.** Kemanusiaan yang adil dan beradab **C.** Kerakyatan yang dipimpin oleh hikmat kebijaksanaan **D.** Persatuan Indonesia (pilihan Anda) (kunci) **E.** Keadilan sosial bagi seluruh rakyat Indonesia

Jawaban Anda: **D. Persatuan Indonesia** · **Benar**

Pembahasan.
Menyebarkan isu SARA untuk memecah belah masyarakat mengancam persatuan bangsa, sehingga terutama bertentangan dengan sila ketiga, Persatuan Indonesia.

CONTOH

TES WAWASAN KEBANGSAAN (TWK) · SOAL 28

Di media sosial beredar isu yang belum jelas kebenarannya dan berpotensi memecah belah bangsa. Sikap warga negara yang baik adalah ....

A. Ikut membagikannya agar orang lain waspada (pilihan Anda) **B.** Mencurigai semua kelompok yang berbeda **C.** Tidak mudah percaya dan memeriksa kebenarannya sebelum bersikap (kunci) **D.** Membalas dengan isu tandingan **E.** Menyimpannya untuk disebarkan bila terbukti

Jawaban Anda: **A. Ikut membagikannya agar orang lain waspada** · **Kurang tepat** · Jawaban benar: **C. Tidak mudah percaya dan memeriksa kebenarannya sebelum bersikap**

Pembahasan.
Menghadapi isu yang belum tentu benar, kita perlu berhati-hati, tidak mudah percaya, dan memeriksa kebenarannya, serta tidak ikut menyebarkannya. Sikap ini ikut menjaga keutuhan bangsa.

TES WAWASAN KEBANGSAAN (TWK) · SOAL 29

Aksi teror berupa peledakan bom di tempat umum yang melukai dan menewaskan warga sipil terutama bertentangan dengan sila ....

A. Ketuhanan Yang Maha Esa **B.** Kemanusiaan yang adil dan beradab (pilihan Anda) (kunci) **C.** Persatuan Indonesia **D.** Kerakyatan yang dipimpin oleh hikmat kebijaksanaan **E.** Keadilan sosial bagi seluruh rakyat Indonesia

Jawaban Anda: **B. Kemanusiaan yang adil dan beradab** · **Benar**

Pembahasan.
Sila kedua menuntut penghormatan terhadap harkat, martabat, dan nyawa manusia. Aksi teror yang melukai dan menewaskan warga sipil merupakan pelanggaran berat terhadap nilai kemanusiaan.

CONTOH

TES WAWASAN KEBANGSAAN (TWK) · SOAL 30

Sekelompok orang menghalangi warga lain yang hendak beribadah dan merusak tempat ibadahnya. Perbuatan ini terutama bertentangan dengan sila ....

A. Ketuhanan Yang Maha Esa (kunci) **B.** Kemanusiaan yang adil dan beradab **C.** Persatuan Indonesia (pilihan Anda) **D.** Kerakyatan yang dipimpin oleh hikmat kebijaksanaan **E.** Keadilan sosial bagi seluruh rakyat Indonesia

Jawaban Anda: **C. Persatuan Indonesia** · **Kurang tepat** · Jawaban benar: **A. Ketuhanan Yang Maha Esa**

Pembahasan.
Sila pertama menjamin kebebasan setiap orang untuk memeluk agama dan beribadah menurut kepercayaannya. Menghalangi ibadah dan merusak tempat ibadah melanggar kebebasan beragama dan sikap saling menghormati antarumat beragama.

TES INTELEGENSIA UMUM (TIU) · SOAL 31

MELATI : BUNGA = ...

A. Daun : Pohon **B.** Roda : Mobil (pilihan Anda) **C.** Guru : Sekolah **D.** Merpati : Burung (kunci) **E.** Padi : Sawah

Jawaban Anda: **B. Roda : Mobil** · **Kurang tepat** · Jawaban benar: **D. Merpati : Burung**

Pembahasan.
Melati adalah salah satu jenis bunga (hubungan jenis : golongannya). Pasangan yang sama adalah merpati, salah satu jenis burung. Daun dan roda adalah bagian dari benda, bukan jenisnya.

TES INTELEGENSIA UMUM (TIU) · SOAL 32

KUKANG : MALU-MALU = ...

A. Tenggiling : Landak **B.** Keluang : Kalong (pilihan Anda) (kunci) **C.** Kancil : Rusa **D.** Kuskus : Kucing **E.** Cerpelai : Burung

Jawaban Anda: **B. Keluang : Kalong** · **Benar**

Pembahasan.
Malu-malu adalah nama lain kukang. Pasangan yang sama adalah keluang, yang juga disebut kalong (kelelawar besar). Pasangan lain adalah hewan yang berbeda.

TES INTELEGENSIA UMUM (TIU) · SOAL 33

PERU : LIMA = ...

A. Australia : Sydney **B.** Turki : Istanbul **C.** Brasil : Rio de Janeiro **D.** Kanada : Toronto **E.** Vietnam : Hanoi (pilihan Anda) (kunci)

Jawaban Anda: **E. Vietnam : Hanoi** · **Benar**

Pembahasan.
Lima adalah ibu kota Peru. Pasangan yang sama adalah Hanoi, ibu kota Vietnam. Sydney, Istanbul, Rio de Janeiro, dan Toronto adalah kota besar, tetapi bukan ibu kota negaranya (ibu kotanya Canberra, Ankara, Brasilia, dan Ottawa).

TES INTELEGENSIA UMUM (TIU) · SOAL 34

BUAH TANGAN : OLEH-OLEH = ...

A. Panjang tangan : Dermawan **B.** Besar kepala : Rendah hati **C.** Kambing hitam : Orang yang dipersalahkan (pilihan Anda) (kunci) **D.** Tinggi hati : Ramah **E.** Ringan tangan : Pemalas

Jawaban Anda: **C. Kambing hitam : Orang yang dipersalahkan** · **Benar**

Pembahasan.
Ungkapan "buah tangan" berarti oleh-oleh. Pasangan yang benar juga berupa ungkapan dengan artinya: "kambing hitam" berarti orang yang dipersalahkan. Pada pilihan lain artinya keliru: panjang tangan = suka mencuri, besar kepala dan tinggi hati = sombong, ringan tangan = suka membantu.

TES INTELEGENSIA UMUM (TIU) · SOAL 35

Z, M, W, M, T, M, Q, M, ...

A. K **B.** N (pilihan Anda) (kunci) **C.** O **D.** P **E.** M

Jawaban Anda: **B. N** · **Benar**

Pembahasan.
Huruf M selalu muncul di posisi genap dan tetap. Huruf di posisi ganjil mundur tiga: Z, W, T, Q, lalu N. Jadi huruf berikutnya adalah N.

TES INTELEGENSIA UMUM (TIU) · SOAL 36

BCE, GHJ, LMO, QRT, ...

A. UVX **B.** VWX (pilihan Anda) **C.** VWY (kunci) **D.** WXZ **E.** VXY

Jawaban Anda: **B. VWX** · **Kurang tepat** · Jawaban benar: **C. VWY**

Pembahasan.
Di setiap kelompok, huruf kedua = huruf pertama + 1, huruf ketiga = huruf kedua + 2. Huruf pertama tiap kelompok maju lima: B, G, L, Q, lalu V. Jadi kelompok berikutnya adalah V, W, Y.

TES INTELEGENSIA UMUM (TIU) · SOAL 37

30, 34, 28, 32, 26, 30, ..., ...

A. 26 dan 30 **B.** 24 dan 30 **C.** 22 dan 26 (pilihan Anda) **D.** 24 dan 28 (kunci) **E.** 34 dan 28

Jawaban Anda: **C. 22 dan 26** · **Kurang tepat** · Jawaban benar: **D. 24 dan 28**

Pembahasan.
Polanya berselang +4 lalu -6: 30 (+4) 34 (-6) 28 (+4) 32 (-6) 26 (+4) 30. Berikutnya 30 - 6 = 24, lalu 24 + 4 = 28.

TES INTELEGENSIA UMUM (TIU) · SOAL 38

B, E, H, K, ..., ...

A. M dan P **B.** N dan P **C.** O dan R **D.** M dan Q **E.** N dan Q (pilihan Anda) (kunci)

Jawaban Anda: **E. N dan Q** · **Benar**

Pembahasan.
Setiap huruf maju tiga (melompati dua huruf): B (CD) E (FG) H (IJ) K. Berikutnya K (LM) N, lalu N (OP) Q.

CONTOH

TES INTELEGENSIA UMUM (TIU) · SOAL 39

Hanya ketua tim yang memimpin tim ekspedisi selama pendakian. Semua anggota tim ekspedisi mematuhi perintah ketua tim selama pendakian. Pemandu lokal bukan ketua tim dan tidak mematuhi perintah ketua tim. Pernyataan yang sesuai dengan keterangan di atas adalah ....

A. Pemandu lokal boleh memimpin tim ekspedisi selama pendakian **B.** Ketua tim mematuhi perintah pemandu lokal **C.** Orang yang tidak mematuhi perintah ketua tim selama pendakian bukan anggota tim ekspedisi (pilihan Anda) (kunci) **D.** Pemandu lokal adalah anggota tim ekspedisi **E.** Tidak dapat ditarik kesimpulan

Jawaban Anda: **C. Orang yang tidak mematuhi perintah ketua tim selama pendakian bukan anggota tim ekspedisi** · **Benar**

> **Pembahasan.**
> Karena semua anggota tim ekspedisi mematuhi ketua tim, siapa pun yang tidak mematuhi ketua tim pasti bukan anggota tim ekspedisi. Akibatnya pemandu lokal juga bukan anggota tim. Pemandu bukan ketua, sehingga tidak boleh memimpin.

TES INTELEGENSIA UMUM (TIU) · SOAL 40

Buah naga warnanya menarik dan bergizi. Pepaya rasanya manis, tetapi warnanya biasa saja. Jambu biji kandungan vitamin C-nya lebih tinggi daripada buah naga. Pisang lebih mengenyangkan daripada pepaya, tetapi cepat busuk. Pasangan buah yang tampilannya menarik dan gizinya tinggi adalah ....

A. Pepaya dan pisang (pilihan Anda) **B.** Pisang dan jambu biji **C.** Pepaya dan buah naga **D.** Pisang dan buah naga **E.** Buah naga dan jambu biji (kunci)

Jawaban Anda: **A. Pepaya dan pisang** · **Kurang tepat** · Jawaban benar: **E. Buah naga dan jambu biji**

> **Pembahasan.**
> Buah naga disebut menarik dan bergizi, sedangkan jambu biji bergizi lebih tinggi daripada buah naga. Pepaya hanya disebut manis dan pisang hanya mengenyangkan. Jadi pasangan yang menarik dan bergizi adalah buah naga dan jambu biji.

CONTOH

TES INTELEGENSIA UMUM (TIU) · SOAL 41

Semua karyawan baru mengikuti orientasi. Sebagian karyawan baru mengikuti pelatihan bahasa. Jadi ....

A. Semua yang mengikuti orientasi mengikuti pelatihan bahasa **B.** Sebagian karyawan baru yang mengikuti pelatihan bahasa juga mengikuti orientasi (pilihan Anda) (kunci) **C.** Sebagian karyawan baru yang mengikuti pelatihan bahasa tidak mengikuti orientasi **D.** Semua karyawan baru yang tidak mengikuti pelatihan bahasa tidak mengikuti orientasi **E.** Semua karyawan baru mengikuti pelatihan bahasa

Jawaban Anda: **B. Sebagian karyawan baru yang mengikuti pelatihan bahasa juga mengikuti orientasi** · **Benar**

> **Pembahasan.**
> Satu premis bersifat sebagian, sehingga kesimpulannya juga sebagian. Karena semua karyawan baru mengikuti orientasi, karyawan baru yang mengikuti pelatihan bahasa pasti juga mengikuti orientasi. Pilihan C dan D bertentangan dengan premis pertama.

TES INTELEGENSIA UMUM (TIU) · SOAL 42

Semua peserta lomba tidak membawa telepon genggam. Sebagian peserta lomba memakai kacamata. Jadi ....

A. Sebagian peserta lomba yang memakai kacamata tidak membawa telepon genggam (pilihan Anda) (kunci) **B.** Semua peserta lomba memakai kacamata **C.** Sebagian peserta lomba yang memakai kacamata membawa telepon genggam **D.** Semua peserta lomba tidak membawa telepon genggam dan tidak memakai kacamata **E.** Sebagian peserta lomba tidak memakai kacamata dan membawa telepon genggam

Jawaban Anda: **A. Sebagian peserta lomba yang memakai kacamata tidak membawa telepon genggam** · **Benar**

> **Pembahasan.**
> Salah satu premis bersifat sebagian dan satu premis negatif, sehingga kesimpulannya sebagian dan negatif: sebagian peserta lomba yang memakai kacamata tidak membawa telepon genggam.

TES INTELEGENSIA UMUM (TIU) · SOAL 43

Semua pegawai kantor itu memakai seragam. Sebagian pegawai kantor itu memakai topi. Jadi ....

A. Semua pegawai kantor itu memakai seragam dan topi **B.** Sebagian pegawai kantor itu tidak memakai seragam **C.** Sebagian pegawai kantor itu memakai topi, tetapi tidak memakai seragam **D.** Sebagian pegawai kantor itu memakai seragam dan topi (pilihan Anda) (kunci) **E.** Semua pegawai yang memakai topi tidak memakai seragam

Jawaban Anda: **D. Sebagian pegawai kantor itu memakai seragam dan topi** · **Benar**

Pembahasan.
Karena semua pegawai memakai seragam dan sebagian memakai topi, sebagian pegawai itu memakai seragam sekaligus topi. Kesimpulan bersifat sebagian karena salah satu premis bersifat sebagian.

TES INTELEGENSIA UMUM (TIU) · SOAL 44

Semua atlet di klub itu bisa berenang. Sebagian atlet di klub itu meraih medali. Jadi ....

A. Sebagian atlet di klub itu meraih medali, tetapi tidak bisa berenang **B.** Sebagian atlet di klub itu meraih medali dan bisa berenang (pilihan Anda) (kunci) **C.** Semua atlet di klub itu meraih medali **D.** Sebagian atlet di klub itu tidak meraih medali dan tidak bisa berenang **E.** Semua atlet di klub itu tidak meraih medali

Jawaban Anda: **B. Sebagian atlet di klub itu meraih medali dan bisa berenang** · **Benar**

Pembahasan.
Atlet yang meraih medali termasuk atlet klub itu, dan semua atlet klub itu bisa berenang. Jadi sebagian atlet di klub itu meraih medali dan bisa berenang. Pilihan A dan D bertentangan dengan premis pertama.

CONTOH
KP-7944ZY60Y1 · klikpsikotes.com

TES INTELEGENSIA UMUM (TIU) · SOAL 45

Rina lebih tinggi daripada Sinta, tetapi lebih pendek daripada Tuti. Umi lebih tinggi daripada Tuti. Urutan dari yang paling tinggi adalah ....

A. Tuti, Umi, Rina, Sinta **B.** Umi, Rina, Tuti, Sinta (pilihan Anda) **C.** Umi, Tuti, Rina, Sinta (kunci) **D.** Umi, Tuti, Sinta, Rina **E.** Tuti, Rina, Umi, Sinta

Jawaban Anda: **B. Umi, Rina, Tuti, Sinta** · **Kurang tepat** · Jawaban benar: **C. Umi, Tuti, Rina, Sinta**

Pembahasan.
Dari keterangan: Rina > Sinta, Tuti > Rina, dan Umi > Tuti. Urutan dari yang paling tinggi: Umi, Tuti, Rina, Sinta.

TES INTELEGENSIA UMUM (TIU) · SOAL 46

P lebih tua daripada Q. R lebih muda daripada S. K lebih muda daripada Q. P lebih muda daripada R. Yang paling muda adalah ....

A. Q **B.** R **C.** P **D.** S **E.** K (pilihan Anda) (kunci)

Jawaban Anda: **E. K** · **Benar**

Pembahasan.
Dari keterangan: P > Q, S > R, Q > K, dan R > P (">" berarti lebih tua). Urutannya S > R > P > Q > K, sehingga yang paling muda adalah K.

TES INTELEGENSIA UMUM (TIU) · SOAL 47

Diketahui K = L dan K ≠ M. Jika N = K, pernyataan yang pasti benar adalah ....

A. N = M **B.** L ≠ K **C.** M = L **D.** N ≠ M (kunci) **E.** N ≠ L (pilihan Anda)

Jawaban Anda: **E. N ≠ L** · **Kurang tepat** · Jawaban benar: **D. N ≠ M**

Pembahasan.
N = K dan K ≠ M, sehingga N ≠ M. Pilihan lain salah: N = K = L, sehingga N ≠ L dan L ≠ K tidak benar, dan M = L berarti M = K, padahal K ≠ M.

TES INTELEGENSIA UMUM (TIU) · SOAL 48

x = luas persegi dengan panjang sisi 14 cm, y = luas lingkaran dengan jari-jari 7 cm (π = 22/7). Hubungan x dan y yang benar adalah ....

A. x < y **B.** x > y (pilihan Anda) (kunci) **C.** x = y **D.** Hubungan x dan y tidak dapat ditentukan **E.** x = 2y

Jawaban Anda: **B. x > y** · **Benar**

Pembahasan.
x = 14 × 14 = 196 cm². y = 22/7 × 7 × 7 = 154 cm². Karena 196 > 154, maka x > y.

TES INTELEGENSIA UMUM (TIU) · SOAL 49

Jika p = 2,5, q = 4, dan r = p + q², hasil dari (p² × q) − r adalah ....

A. 5,5 **B.** 6,25 **C.** 6,5 (pilihan Anda) (kunci) **D.** 7,5 **E.** 8,5

Jawaban Anda: **C. 6,5** · **Benar**

Pembahasan.
r = 2,5 + 4² = 2,5 + 16 = 18,5. p² × q = 6,25 × 4 = 25. Jadi (p² × q) − r = 25 − 18,5 = 6,5.

TES INTELEGENSIA UMUM (TIU) · SOAL 50

Seorang pedagang membeli barang seharga Rp640.000,00 dan menjual seluruhnya seharga Rp784.000,00. Persentase keuntungannya adalah ....

A. 20% **B.** 22,5% (pilihan Anda) (kunci) **C.** 24% **D.** 25% **E.** 27,5%

Jawaban Anda: **B. 22,5%** · **Benar**

Pembahasan.
Untung = Rp784.000 − Rp640.000 = Rp144.000. Persentase untung = 144.000 : 640.000 × 100% = 22,5%.

CONTOH

TES INTELEGENSIA UMUM (TIU) · SOAL 51

Keliling sebuah taman berbentuk lingkaran adalah 43,96 m. Dengan π = 3,14, jari-jari taman itu adalah ....

A. 6 m **B.** 6,5 m **C.** 7 m (pilihan Anda) (kunci) **D.** 7,5 m **E.** 8 m

Jawaban Anda: **C. 7 m** · **Benar**

Pembahasan.
Keliling = 2 × π × r, sehingga 43,96 = 2 × 3,14 × r = 6,28 × r. Jadi r = 43,96 : 6,28 = 7 m.

TES INTELEGENSIA UMUM (TIU) · SOAL 52

(46 × 64 + 54 × 64) : 32 = ...

A. 20 (pilihan Anda) **B.** 320 **C.** 400 **D.** 640 **E.** 200 (kunci)

Jawaban Anda: **A. 20** · **Kurang tepat** · Jawaban benar: **E. 200**

Pembahasan.
Gunakan sifat distributif: (46 + 54) × 64 : 32 = 100 × 64 : 32 = 100 × 2 = 200.

TES INTELEGENSIA UMUM (TIU) · SOAL 53

Jika 4xy + 27 = 135, maka 2xy = ...

A. 27 (pilihan Anda) **B.** 54 (kunci) **C.** 56 **D.** 81 **E.** 108

Jawaban Anda: **A. 27** · **Kurang tepat** · Jawaban benar: **B. 54**

Pembahasan.
4xy = 135 − 27 = 108. Dibagi dua: 2xy = 54.

CONTOH

TES INTELEGENSIA UMUM (TIU) · SOAL 54

518 + 6 × 125 − 1.536 : 48 = ...

A. 1.204 **B.** 1.268 **C.** 1.236 (pilihan Anda) (kunci) **D.** 1.300 **E.** 1.332

Jawaban Anda: **C. 1.236** · **Benar**

Pembahasan.
Kerjakan perkalian dan pembagian lebih dahulu: 6 × 125 = 750 dan 1.536 : 48 = 32. Lalu 518 + 750 − 32 = 1.236.

TES INTELEGENSIA UMUM (TIU) · SOAL 55

Nilai 62,5% dari 0,8 adalah ....

A. 0,05 **B.** 0,4 **C.** 0,58 **D.** 0,5 (pilihan Anda) (kunci) **E.** 0,625

Jawaban Anda: **D. 0,5** · **Benar**

Pembahasan.
Gunakan pecahan istimewa: 62,5% = 5/8. Jadi 5/8 × 0,8 = 0,5.

TES INTELEGENSIA UMUM (TIU) · SOAL 56

Dari Bandung ke Surabaya tersedia 5 kereta, dan dari Surabaya ke Denpasar tersedia 3 bus. Seseorang bepergian Bandung–Denpasar pulang-pergi lewat Surabaya, dan saat pulang tidak boleh memakai kereta atau bus yang sama dengan saat berangkat. Banyak cara perjalanan yang mungkin adalah ....

A. 60 **B.** 180 **C.** 225 **D.** 120 (pilihan Anda) (kunci) **E.** 240

Jawaban Anda: **D. 120** · **Benar**

Pembahasan.
Berangkat: 5 × 3 = 15 cara. Pulang: bus tinggal 2 pilihan dan kereta tinggal 4 pilihan, jadi 2 × 4 = 8 cara. Total 15 × 8 = 120 cara.

CONTOH

TES INTELEGENSIA UMUM (TIU) · SOAL 57

Empat tahun lalu jumlah usia kakak dan adik adalah 32 tahun. Sekarang perbandingan usia kakak dan adik 3 : 2. Perbandingan usia mereka 8 tahun lagi adalah ....

A. 4 : 3 (kunci) **B.** 3 : 2 **C.** 5 : 4 **D.** 2 : 1 (pilihan Anda) **E.** 7 : 5

Jawaban Anda: **D. 2 : 1** · **Kurang tepat** · Jawaban benar: **A. 4 : 3**

Pembahasan.
Jumlah usia sekarang 32 + 4 + 4 = 40 tahun. Kakak = 3/5 × 40 = 24 tahun, adik = 16 tahun. Delapan tahun lagi kakak 32 dan adik 24 tahun, jadi perbandingannya 32 : 24 = 4 : 3.

TES INTELEGENSIA UMUM (TIU) · SOAL 58

Sebuah kotak berbentuk balok memiliki perbandingan panjang : lebar : tinggi = 5 : 3 : 2. Jika panjangnya 15 cm, luas seluruh permukaan kotak adalah ....

A. 498 cm² **B.** 524 cm² **C.** 612 cm² **D.** 810 cm² **E.** 558 cm² (pilihan Anda) (kunci)

Jawaban Anda: **E. 558 cm²** · **Benar**

Pembahasan.
Panjang 15 cm, sehingga satu bagian = 3 cm: lebar 9 cm dan tinggi 6 cm. Luas permukaan = 2 × (15×9 + 15×6 + 9×6) = 2 × (135 + 90 + 54) = 2 × 279 = 558 cm². (810 cm³ adalah volumenya.)

CONTOH

TES INTELEGENSIA UMUM (TIU) · SOAL 59

Gambar manakah yang melanjutkan pola gambar berikut?



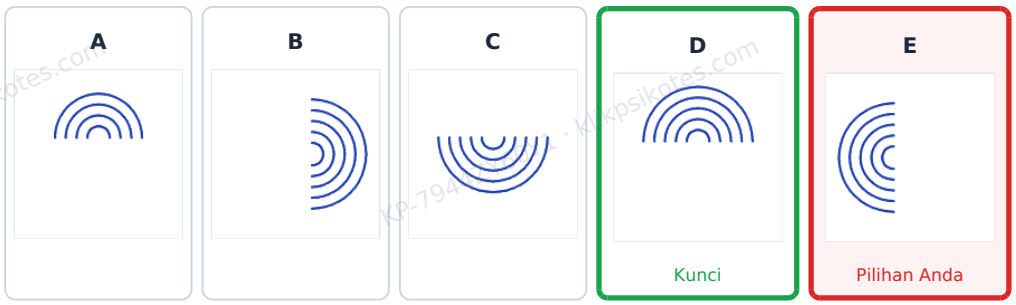

Jawaban Anda: **E** · **Kurang tepat** · Jawaban benar: **D**

Pembahasan.
Pada setiap langkah, tanda berputar 90° searah jarum jam, pindah ke sisi kotak berikutnya searah jarum jam, dan bertambah satu tanda di belakangnya. Gambar keempat berada di sisi kiri dengan empat tanda menghadap ke kiri, sehingga lanjutannya berada di sisi atas dengan lima tanda menghadap ke atas.

CONTOH

TES INTELEGENSIA UMUM (TIU) · SOAL 60

Gambar manakah yang melanjutkan pola gambar berikut?

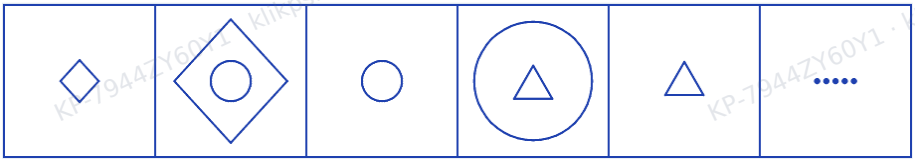

A

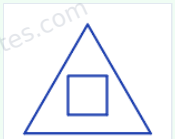

Pilihan Anda · benar

B



C



D



E



Jawaban Anda: **A** · **Benar**

Pembahasan.

Pada satu langkah, bangun yang ada membesar dan muncul bangun baru di dalamnya; pada langkah berikutnya bangun luar hilang dan tinggal bangun baru itu. Setelah segitiga kecil, segitiga itu membesar dan di dalamnya muncul bangun yang belum pernah ada (persegi).

TES INTELEGENSIA UMUM (TIU) · SOAL 61

Gambar manakah yang berbeda dari yang lain?

A



B



C



Pilihan Anda · benar

D



E



Jawaban Anda: **C** · **Benar**

Pembahasan.

Semua bangun dibagi menjadi empat bagian dan satu bagian diarsir. Pada empat gambar, bagian yang diarsir adalah kiri atas; hanya satu gambar yang arsirannya di kiri bawah.

TES INTELEGENSIA UMUM (TIU) · SOAL 62

Gambar manakah yang berbeda dari yang lain?

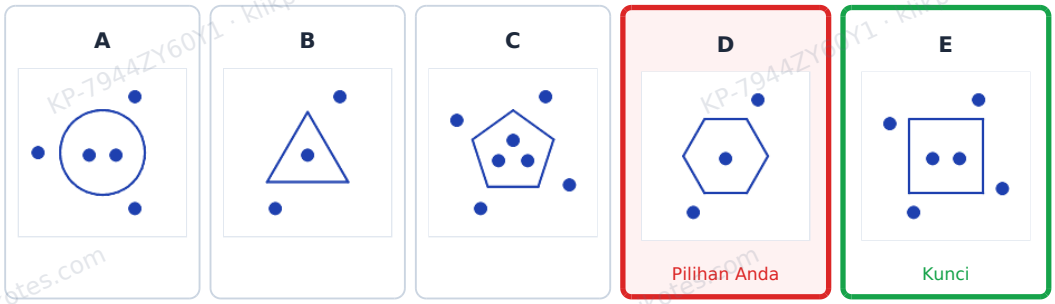

Jawaban Anda: **D** · **Kurang tepat** · Jawaban benar: **E**

Pembahasan.
Pada empat gambar, jumlah titik di luar bangun selalu satu lebih banyak daripada jumlah titik di dalamnya. Hanya satu gambar yang selisihnya dua.

TES INTELEGENSIA UMUM (TIU) · SOAL 63

Gambar manakah yang tepat melengkapi analogi berikut?

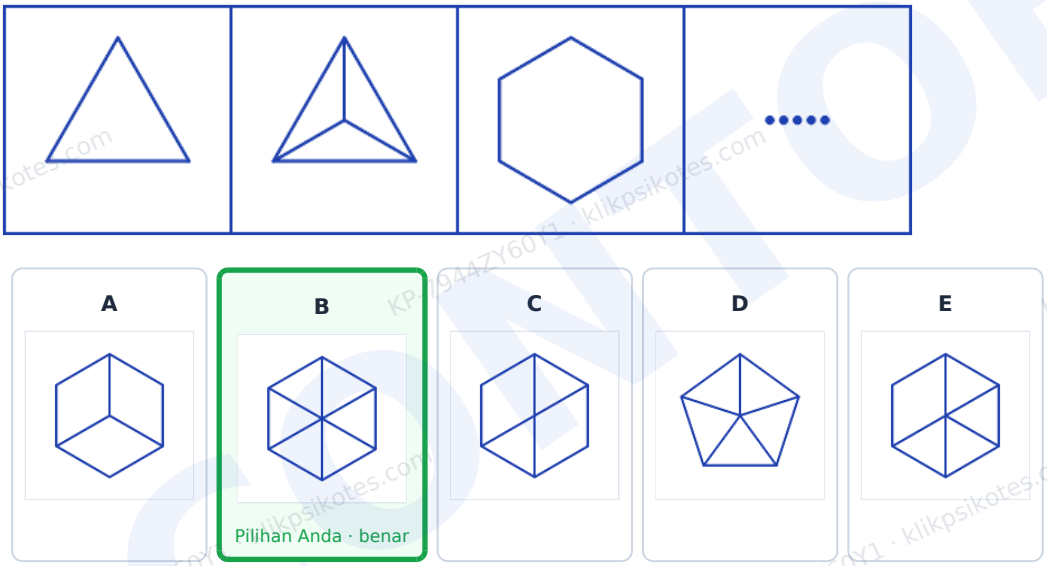

Jawaban Anda: **B** · **Benar**

Pembahasan.
Gambar pertama dibagi menjadi bagian sebanyak jumlah sisinya dengan garis dari titik tengah ke setiap sudut (segitiga menjadi 3 bagian). Dengan aturan yang sama, segi enam dibagi menjadi 6 bagian.

TES INTELEGENSIA UMUM (TIU) · SOAL 64

Gambar manakah yang tepat mengisi kotak kosong?

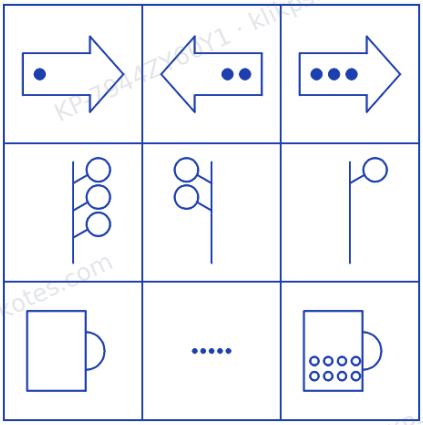

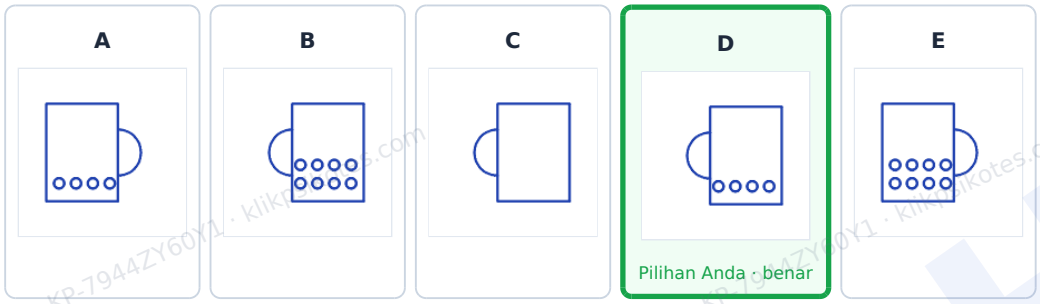

Jawaban Anda: **D** · **Benar**

Pembahasan.

Pada setiap baris, gambar dicerminkan bolak-balik dari kiri ke kanan dan jumlah isinya berubah tetap satu per langkah (baris pertama bertambah, baris kedua berkurang). Baris ketiga: cangkir kosong, lalu cangkir yang dicerminkan (pegangan di kiri) dengan satu baris isi, lalu dua baris isi.

CONTOH

TES INTELEGENSIA UMUM (TIU) · SOAL 65

Gambar manakah yang tepat melengkapi analogi berikut?

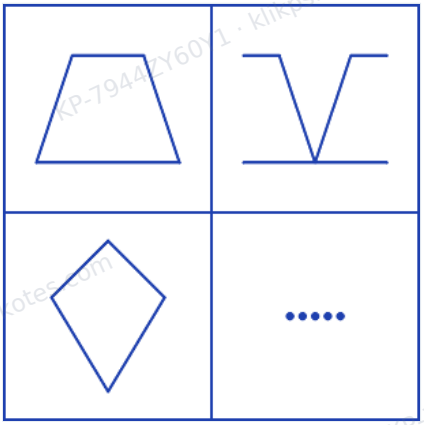

A

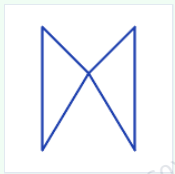

Pilihan Anda · benar

B

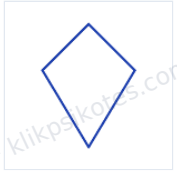

C



D

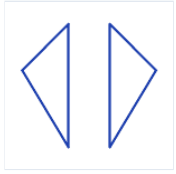

E



Jawaban Anda: **A** · **Benar**

Pembahasan.
Gambar pertama dibelah tegak di tengah, lalu kedua belahannya ditukar tempat (belahan kiri pindah ke kanan dan sebaliknya), tanpa garis belahan. Aturan yang sama diterapkan pada bangun ketiga.

CONTOH

TES KARAKTERISTIK PRIBADI (TKP) · SOAL 66

Saat Anda melayani warga di loket kelurahan, seorang bapak tua menyela antrean dan meminta segera dilayani karena sudah lelah menunggu. Sikap Anda ....

A. Meminta izin kepada warga yang sedang antre agar bapak itu didahulukan, supaya tidak timbul keributan (pilihan Anda) (kunci) **B.** Menyuruhnya kembali ke barisan antrean **C.** Membiarkannya tanpa menanggapi **D.** Memintanya kembali ke barisan dan tetap melayani sesuai urutan antrean **E.** Meminta rekan lain yang melayaninya

Jawaban Anda: **A. Meminta izin kepada warga yang sedang antre agar bapak itu didahulukan, supaya tidak timbul keributan** · **Benar**

> **Pembahasan.**
> Skor tertinggi: meminta izin kepada warga yang antre agar bapak itu didahulukan. Petugas memperhatikan keadaan sekitar dan mencegah keributan tanpa mengabaikan hak warga lain.

TES KARAKTERISTIK PRIBADI (TKP) · SOAL 67

Seorang pengunjung menyampaikan keluhan tentang pelayanan di kantor tempat Anda bekerja. Anda akan ....

A. Menjelaskan tugas dan peran saya di kantor ini **B.** Mencatat keluhannya dan menyampaikannya kepada atasan (pilihan Anda) (kunci) **C.** Membantu menyelesaikan masalah pengunjung itu **D.** Tidak menanggapi karena pekerjaan saya sedang banyak **E.** Menjelaskan aturan dan prosedur yang berlaku

Jawaban Anda: **B. Mencatat keluhannya dan menyampaikannya kepada atasan** · **Benar**

> **Pembahasan.**
> Skor tertinggi: mencatat keluhan dan meneruskannya kepada atasan. Keluhan adalah masukan agar pelayanan instansi menjadi lebih baik.

CONTOH

TES KARAKTERISTIK PRIBADI (TKP) · SOAL 68

Saat Anda dan rekan sedang bertugas di meja layanan, seorang pemohon marah-marah karena merasa dilayani tidak sesuai harapan, sampai melukai perasaan rekan Anda. Sikap Anda ....

A. Menenangkannya lalu mengarahkannya ke bagian yang tepat agar dilayani dengan baik (pilihan Anda) (kunci) **B.** Ikut marah dan mengajak rekan untuk tidak melayaninya **C.** Menenangkannya dan meminta maaf **D.** Diam saja karena bukan urusan saya **E.** Menenangkannya sambil menjelaskan bahwa ucapannya menyakiti rekan saya

Jawaban Anda: **A. Menenangkannya lalu mengarahkannya ke bagian yang tepat agar dilayani dengan baik** · **Benar**

Pembahasan.
Skor tertinggi: menenangkan pemohon lalu mengarahkannya ke bagian yang tepat. Saat muncul masalah dalam pelayanan, petugas tetap tenang dan meredakan situasi agar masalah cepat selesai.

TES KARAKTERISTIK PRIBADI (TKP) · SOAL 69

Ketika Anda sedang melayani warga, sahabat lama yang sudah bertahun-tahun tidak bertemu tiba-tiba datang dan tampak ingin mengobrol panjang. Anda akan ....

A. Memintanya menunggu sampai saya selesai melayani (pilihan Anda) (kunci) **B.** Menutup layanan sebentar untuk menemuinya **C.** Meminta rekan menggantikan tugas saya karena ingin menemuinya **D.** Memintanya menunggu sebentar **E.** Meminta izin kepada atasan agar bisa menemuinya

Jawaban Anda: **A. Memintanya menunggu sampai saya selesai melayani** · **Benar**

Pembahasan.
Skor tertinggi: meminta sahabat menunggu sampai pelayanan selesai. Bersikap profesional berarti mendahulukan tugas pelayanan daripada urusan pribadi.

CONTOH
KP-7944ZY60Y1 · klikpsikotes.com

TES KARAKTERISTIK PRIBADI (TKP) · SOAL 70

Seorang warga ingin urusannya diselesaikan dengan cepat. Rekan yang biasa menanganinya sedang kelelahan dan perlu istirahat, sementara pekerjaan Anda sendiri belum selesai. Sikap Anda ....

A. Melanjutkan pekerjaan rekan yang kelelahan agar layanan tidak terbengkalai (pilihan Anda) **B.** Menyelesaikan pekerjaan saya lebih dulu, baru membantu rekan (kunci) **C.** Melayani warga itu dengan sabar walaupun bukan tugas saya **D.** Melapor kepada atasan untuk meminta petunjuk **E.** Menggantikan rekan dengan mengurus kepentingan warga itu

Jawaban Anda: **A. Melanjutkan pekerjaan rekan yang kelelahan agar layanan tidak terbengkalai** · **Kurang tepat** · Jawaban benar: **B. Menyelesaikan pekerjaan saya lebih dulu, baru membantu rekan**

> **Pembahasan.**
> Skor tertinggi: menyelesaikan pekerjaan sendiri lebih dulu, lalu membantu rekan. Tanggung jawab yang diemban diselesaikan dulu sambil tetap tanggap terhadap keadaan sekitar.

TES KARAKTERISTIK PRIBADI (TKP) · SOAL 71

Dalam memberikan pelayanan, hal utama yang saya perhatikan adalah ....

A. Keramahan petugas **B.** Keuntungan bagi instansi **C.** Kecepatan pelayanan **D.** Kepuasan masyarakat yang dilayani (pilihan Anda) (kunci) **E.** Kesesuaian dengan prosedur

Jawaban Anda: **D. Kepuasan masyarakat yang dilayani** · **Benar**

> **Pembahasan.**
> Skor tertinggi: kepuasan masyarakat yang dilayani. Bila masyarakat puas, berarti pelayanan telah berjalan dengan baik.

CONTOH

TES KARAKTERISTIK PRIBADI (TKP) · SOAL 72

Ketika menerima keluhan dari pelanggan tentang layanan di tempat kerja saya, saya akan ....

A. Menjelaskan aturan dan prosedur yang berlaku kepada pelanggan **B.** Tidak menanggapinya karena keadaannya memang seperti itu **C.** Mencatat keluhan itu dan menyampaikannya kepada atasan (pilihan Anda) **D.** Berusaha membantu pelanggan menyelesaikan masalahnya (kunci) **E.** Menjelaskan peran saya dalam menangani keluhan

Jawaban Anda: **C. Mencatat keluhan itu dan menyampaikannya kepada atasan** · **Kurang tepat** · Jawaban benar: **D. Berusaha membantu pelanggan menyelesaikan masalahnya**

> **Pembahasan.**
> Skor tertinggi: berusaha membantu pelanggan menyelesaikan masalahnya. Salah satu tujuan utama pelayanan adalah membantu mengatasi masalah yang dikeluhkan pelanggan.

TES KARAKTERISTIK PRIBADI (TKP) · SOAL 73

Sebagai pelayan masyarakat, cara yang saya tempuh untuk meningkatkan mutu kerja saya adalah ....

A. Memberikan informasi sebanyak mungkin **B.** Menjaga perasaan agar tidak mudah emosi **C.** Bertindak proaktif dalam melayani (pilihan Anda) (kunci) **D.** Melayani dengan ramah **E.** Melayani dengan ikhlas

Jawaban Anda: **C. Bertindak proaktif dalam melayani** · **Benar**

> **Pembahasan.**
> Skor tertinggi: bertindak proaktif dalam melayani, yaitu tanggap dan berinisiatif membantu sebelum masalah membesar.

CONTOH

TES KARAKTERISTIK PRIBADI (TKP) · SOAL 74

Anda bertugas sebagai kasir di sebuah apotek. Apoteker belum datang, sementara ada pembeli yang meminta obat racikan. Kebetulan Anda tahu cara meraciknya. Anda akan ....

A. Menjelaskan bahwa apoteker belum datang **B.** Langsung meracik obatnya karena kasihan **C.** Menghubungi apoteker dan menanyakan kapan ia tiba (kunci) **D.** Meminta pertimbangan rekan kerja lain **E.** Meminta pembeli menunggu sampai apoteker datang (pilihan Anda)

Jawaban Anda: **E. Meminta pembeli menunggu sampai apoteker datang** · **Kurang tepat** · Jawaban benar: **C. Menghubungi apoteker dan menanyakan kapan ia tiba**

Pembahasan.
Skor tertinggi: menghubungi apoteker dan menanyakan kapan ia tiba. Di bidang kesehatan, meracik obat ada ketentuan dan kewenangannya sendiri, sehingga prosedur harus diikuti.

TES KARAKTERISTIK PRIBADI (TKP) · SOAL 75

Menurut saya, kunci utama keberhasilan sebuah tim kerja adalah ....

A. Semangat bersama untuk berhasil **B.** Kesamaan visi dan misi antaranggota tim (kunci) **C.** Pemimpin yang tegas **D.** Kemauan semua anggota untuk bekerja keras **E.** Komunikasi yang baik antaranggota tim (pilihan Anda)

Jawaban Anda: **E. Komunikasi yang baik antaranggota tim** · **Kurang tepat** · Jawaban benar: **B. Kesamaan visi dan misi antaranggota tim**

Pembahasan.
Skor tertinggi: kesamaan visi dan misi antaranggota tim. Tanpa tujuan yang sama, keberhasilan tim sulit diraih.

CONTOH

TES KARAKTERISTIK PRIBADI (TKP) · SOAL 76

Cara yang paling efektif bagi saya untuk memperoleh jaringan kerja baru yang berkompeten adalah mencari dari ....

A. Lingkungan keluarga **B.** Kelompok yang minatnya sama dengan saya **C.** Teman dekat **D.** Lingkup profesional (pilihan Anda) (kunci) **E.** Alumni kampus saya

Jawaban Anda: **D. Lingkup profesional** · **Benar**

Pembahasan.
Skor tertinggi: mencari dari lingkup profesional. Jaringan kerja yang berkompeten lebih mudah ditemukan di lingkungan profesional yang lebih luas.

TES KARAKTERISTIK PRIBADI (TKP) · SOAL 77

Banyak rekan kerja Anda yang biasa pulang satu jam lebih awal dari jam kerja yang ditetapkan. Yang Anda lakukan adalah ....

A. Ikut pulang lebih awal seperti mereka **B.** Menegur mereka dan membicarakannya baik-baik (pilihan Anda) (kunci) **C.** Melaporkan hal itu kepada pimpinan **D.** Membiarkan mereka pulang dan menyelesaikan pekerjaan saya **E.** Pulang sesuai jam yang ditetapkan

Jawaban Anda: **B. Menegur mereka dan membicarakannya baik-baik** · **Benar**

Pembahasan.
Skor tertinggi: menegur dan membicarakannya baik-baik. Bersikap profesional berarti menaati aturan kerja dan mengingatkan rekan yang keliru dengan cara yang baik.

CONTOH

TES KARAKTERISTIK PRIBADI (TKP) · SOAL 78

Cara yang efektif untuk memelihara hubungan kerja dengan mitra dan pelanggan adalah ....

A. Memberikan potongan harga setiap kali mereka membeli **B.** Sering berdiskusi tentang kebutuhan mereka demi kelancaran kerja sama (pilihan Anda) (kunci) **C.** Memberikan banyak hadiah **D.** Memberikan layanan yang sangat baik **E.** Menganggap mereka seperti keluarga, bukan sekadar pelanggan

Jawaban Anda: **B. Sering berdiskusi tentang kebutuhan mereka demi kelancaran kerja sama** · **Benar**

> **Pembahasan.**
> Skor tertinggi: sering berdiskusi tentang kebutuhan mereka. Komunikasi yang rutin membuat hubungan kerja terpelihara dan masalah cepat diketahui.

TES KARAKTERISTIK PRIBADI (TKP) · SOAL 79

Saat menerima uang lembur, ternyata jumlahnya melebihi jam lembur yang saya kerjakan. Saya akan ....

A. Menerimanya dan pura-pura tidak tahu **B.** Menanyakannya kepada bendahara **C.** Meminta pendapat teman tentang apa yang harus dilakukan **D.** Mengembalikan kelebihannya kepada bendahara (pilihan Anda) (kunci) **E.** Menerimanya dan menganggapnya bonus

Jawaban Anda: **D. Mengembalikan kelebihannya kepada bendahara** · **Benar**

> **Pembahasan.**
> Skor tertinggi: mengembalikan kelebihannya kepada bendahara. Mengambil sesuatu yang bukan hak kita adalah perbuatan yang tidak jujur.

CONTOH

TES KARAKTERISTIK PRIBADI (TKP) · SOAL 80

Seseorang menawarkan kenaikan jabatan kepada saya dengan syarat saya menyerahkan sejumlah uang sebagai imbalan. Saya akan ....

A. Menolaknya dan tetap bekerja seperti biasa (pilihan Anda) (kunci) **B.** Mencari pinjaman uang **C.** Tidak mengambil tawaran itu karena sedang tidak punya uang **D.** Mencari penghasilan tambahan di luar kantor **E.** Meminta bantuan saudara

Jawaban Anda: **A. Menolaknya dan tetap bekerja seperti biasa** · **Benar**

Pembahasan.
Skor tertinggi: menolak dan tetap bekerja seperti biasa. Jabatan yang diperoleh dengan imbalan uang bertentangan dengan integritas dan tidak akan bertahan lama.

TES KARAKTERISTIK PRIBADI (TKP) · SOAL 81

Menurut saya, tantangan dalam dunia kerja adalah ....

A. Sesuatu yang dapat menjatuhkan kita **B.** Hal biasa **C.** Sesuatu yang dapat dihindari dengan bekerja cermat **D.** Urusan yang cukup dipikirkan oleh atasan (pilihan Anda) **E.** Hal yang mendorong kita untuk berkembang (kunci)

Jawaban Anda: **D. Urusan yang cukup dipikirkan oleh atasan** · **Kurang tepat** · Jawaban benar: **E. Hal yang mendorong kita untuk berkembang**

Pembahasan.
Skor tertinggi: tantangan mendorong kita untuk berkembang. Setiap pekerjaan punya tantangan yang memacu kita bekerja lebih giat dan lebih baik.

CONTOH
KP-7944ZY60Y1 · klikpsikotes.com

TES KARAKTERISTIK PRIBADI (TKP) · SOAL 82

Sebagai penyelenggara acara pernikahan, Anda mendapat klien yang ingin menikah dengan adat daerah asalnya. Pakaian dan perlengkapannya sulit didapat karena daerah asal mereka jauh dari tempat Anda. Anda akan ....

A. Memenuhi permintaan mereka dengan syarat pakaian dan perlengkapan disiapkan sendiri oleh klien (pilihan Anda) **B.** Menghubungi rekan penyelenggara acara dari daerah asal mereka untuk membantu (kunci) **C.** Menyarankan memakai pakaian nasional saat resepsi **D.** Menyarankan memakai pakaian adat daerah setempat yang lebih mudah didapat **E.** Memenuhi seluruh permintaan mereka

Jawaban Anda: **A. Memenuhi permintaan mereka dengan syarat pakaian dan perlengkapan disiapkan sendiri oleh klien** · **Kurang tepat** · Jawaban benar: **B. Menghubungi rekan penyelenggara acara dari daerah asal mereka untuk membantu**

Pembahasan.
Skor tertinggi: menghubungi rekan dari daerah asal klien. Jaringan kerja yang luas membantu menyelesaikan pekerjaan secara cermat dan efisien.

TES KARAKTERISTIK PRIBADI (TKP) · SOAL 83

Dalam rapat RT diusulkan agar warga kerja bakti membantu pembangunan balai warga yang sedang dikerjakan kontraktor berpengalaman. Menurut saya ....

A. Penting untuk menumbuhkan rasa memiliki warga terhadap balai itu **B.** Sama sekali tidak perlu karena RT sudah membayar mahal kontraktor **C.** Lebih baik kerja bakti dilakukan untuk membersihkan lingkungan saja (pilihan Anda) (kunci) **D.** Kurang perlu karena pembangunan sudah dikerjakan ahlinya **E.** Penting untuk mempererat kebersamaan warga

Jawaban Anda: **C. Lebih baik kerja bakti dilakukan untuk membersihkan lingkungan saja** · **Benar**

Pembahasan.
Skor tertinggi: kerja bakti diarahkan untuk kebersihan lingkungan. Setiap pihak sebaiknya bekerja sesuai bagiannya: pembangunan oleh kontraktor, sementara warga dapat bergotong royong pada hal yang menjadi bagian mereka.

TES KARAKTERISTIK PRIBADI (TKP) · SOAL 84

Menurut saya, dalam bergaul dengan tetangga dan masyarakat sekitar sebaiknya kita ....

A. Bersikap apa adanya sesuai kepribadian sendiri **B.** Menyesuaikan diri dengan keadaan lingkungan **C.** Bersikap aktif dan memberi peran positif (pilihan Anda) (kunci) **D.** Bergaul seperlunya saja **E.** Bersikap pasif dan menunggu diajak

Jawaban Anda: **C. Bersikap aktif dan memberi peran positif** · **Benar**

> **Pembahasan.**
> Skor tertinggi: bersikap aktif dan memberi peran positif. Tetangga adalah orang terdekat setelah keluarga, sehingga hubungan yang aktif membuat kita bisa saling membantu.

TES KARAKTERISTIK PRIBADI (TKP) · SOAL 85

Dalam sebuah kunjungan kerja, tuan rumah menyajikan makanan khas daerah yang tidak saya sukai. Yang saya lakukan adalah ....

A. Meminta tuan rumah menggantinya dengan makanan kesukaan saya **B.** Menghabiskan makanan yang disajikan (kunci) **C.** Membeli makanan sendiri agar tidak merepotkan tuan rumah (pilihan Anda) **D.** Memakannya sedikit sebagai tanda hormat **E.** Meminta dibelikan menu lain dengan uang saya sendiri

Jawaban Anda: **C. Membeli makanan sendiri agar tidak merepotkan tuan rumah** · **Kurang tepat** · Jawaban benar: **B. Menghabiskan makanan yang disajikan**

> **Pembahasan.**
> Skor tertinggi: menghabiskan makanan yang disajikan. Menghargai pemberian tuan rumah menjaga hubungan baik.

TES KARAKTERISTIK PRIBADI (TKP) · SOAL 86

Saya tidak menyukai seorang tetangga karena ia sering membicarakan keburukan saya. Bulan ini pertemuan RT diadakan di rumahnya. Saya akan ....

A. Hadir sebentar saja **B.** Tetap hadir dan memakai kesempatan itu untuk memperbaiki hubungan dengannya (pilihan Anda) (kunci) **C.** Tidak menghadiri pertemuan itu **D.** Tetap hadir seperti biasa **E.** Tetap hadir dan memakai kesempatan itu untuk meluruskan cerita buruk tentang saya

Jawaban Anda: **B. Tetap hadir dan memakai kesempatan itu untuk memperbaiki hubungan dengannya** · **Benar**

> **Pembahasan.**
> Skor tertinggi: tetap hadir dan berusaha memperbaiki hubungan. Hubungan dengan tetangga perlu dijaga, dan masalah sebaiknya segera diperbaiki.

TES KARAKTERISTIK PRIBADI (TKP) · SOAL 87

Anda terburu-buru berangkat ke kantor karena ada rapat mendadak dengan atasan. Tiba-tiba Anda melihat pecahan gelas di lantai rumah yang dapat membahayakan anggota keluarga. Tindakan Anda ....

A. Menelepon rekan dan meminta ia menggantikan saya dalam rapat **B.** Menutup pecahan gelas dengan kain karena terburu-buru, agar tidak terlambat rapat (pilihan Anda) (kunci) **C.** Membersihkan pecahan gelas lalu datang terlambat **D.** Membiarkannya dan segera berangkat **E.** Menelepon rekan bahwa saya sedikit terlambat, lalu membersihkan pecahan gelas

Jawaban Anda: **B. Menutup pecahan gelas dengan kain karena terburu-buru, agar tidak terlambat rapat** · **Benar**

> **Pembahasan.**
> Skor tertinggi: menutup pecahan dengan kain agar aman lalu berangkat tepat waktu. Masalah ditangani seefisien mungkin tanpa mengorbankan tanggung jawab pekerjaan.

TES KARAKTERISTIK PRIBADI (TKP) · SOAL 88

Ketika Anda sedang merayakan ulang tahun, datang kabar bahwa seorang rekan mengalami kecelakaan. Anda akan ....

A. Mengoordinasikan rekan-rekan lain untuk ikut membantu (pilihan Anda) **B.** Melapor kepada pihak berwajib **C.** Membatalkan perayaan dan bergegas ke rumah sakit **D.** Memberinya bantuan semampu saya (kunci) **E.** Menelepon untuk memastikan keadaannya dan menyarankannya ikut asuransi kesehatan

Jawaban Anda: **A. Mengoordinasikan rekan-rekan lain untuk ikut membantu** · **Kurang tepat** · Jawaban benar: **D. Memberinya bantuan semampu saya**

> **Pembahasan.**
> Skor tertinggi: memberi bantuan semampunya. Dalam pertemanan, kita membantu sebisa mungkin ketika teman sedang mendapat musibah.

TES KARAKTERISTIK PRIBADI (TKP) · SOAL 89

Kantor Anda baru saja memasang perangkat TI baru untuk memudahkan pegawai menyelesaikan tugas. Sikap Anda ....

A. Mengajak rekan-rekan mencari tahu cara mengoperasikannya di waktu senggang (kunci) **B.** Meminta orang lain mengajari saya dan rekan-rekan **C.** Mencari informasi di internet dan mempelajarinya bersama rekan-rekan **D.** Mengajak rekan-rekan mempelajarinya sepulang jam kantor (pilihan Anda) **E.** Mencari informasi tentang cara mengoperasikannya bersama rekan-rekan

Jawaban Anda: **D. Mengajak rekan-rekan mempelajarinya sepulang jam kantor** · **Kurang tepat** · Jawaban benar: **A. Mengajak rekan-rekan mencari tahu cara mengoperasikannya di waktu senggang**

> **Pembahasan.**
> Skor tertinggi: mengajak rekan mempelajarinya di waktu senggang. Teknologi terus berkembang sehingga kita perlu terus belajar, tanpa mengganggu tanggung jawab pekerjaan.

CONTOH

TES KARAKTERISTIK PRIBADI (TKP) · SOAL 90

Anda membuat kesalahan fatal dalam tugas karena kurang memahami teknologi informasi. Yang Anda lakukan ....

A. Membahas masalah itu dengan rekan kerja (pilihan Anda) **B.** Meminta ahli TI mengajari saya cara memakai aplikasi yang membuat saya keliru **C.** Melapor kepada atasan dan mengikuti petunjuknya **D.** Mencari jalan keluar dari masalah itu sendiri **E.** Meminta ahli TI membekali saya pemahaman tentang teknologi informasi dan pentingnya bagi pekerjaan (kunci)

Jawaban Anda: **A. Membahas masalah itu dengan rekan kerja** · **Kurang tepat** · Jawaban benar: **E. Meminta ahli TI membekali saya pemahaman tentang teknologi informasi dan pentingnya bagi pekerjaan**

> **Pembahasan.**
> Skor tertinggi: meminta ahli TI membekali pemahaman teknologi informasi. Mengikuti perkembangan teknologi dengan belajar langsung dari ahlinya mencegah kesalahan yang sama terulang.

TES KARAKTERISTIK PRIBADI (TKP) · SOAL 91

Anda bekerja sebagai asisten ahli yang kurang menguasai teknologi. Perkembangan TI menuntut kantor Anda membangun sistem kerja baru. Sikap Anda ....

A. Menerima teknologi baru itu dan memadukannya dengan gagasan saya **B.** Ikut mengembangkan sistem itu dan meminta ahli TI kantor mengajari saya (pilihan Anda) (kunci) **C.** Menerima teknologi baru itu dan meminta ahli kantor mengajari saya **D.** Ikut mengembangkannya bersama ahli TI kantor sambil menggerakkan rekan lain **E.** Menerima teknologi baru itu, menyerahkan pengembangannya kepada ahli TI, dan ikut ambil bagian

Jawaban Anda: **B. Ikut mengembangkan sistem itu dan meminta ahli TI kantor mengajari saya** · **Benar**

> **Pembahasan.**
> Skor tertinggi: ikut mengembangkan sistem dan belajar dari ahli TI kantor. Agar tidak tertinggal, kita belajar langsung dari ahlinya sambil ikut terlibat.

TES KARAKTERISTIK PRIBADI (TKP) · SOAL 92

Saat Anda mengerjakan tugas dengan sebuah aplikasi, aplikasi itu tiba-tiba bermasalah dan mengganggu pekerjaan. Anda akan ....

A. Bertanya kepada rekan yang pernah mengalami hal serupa **B.** Melapor kepada atasan dan meminta saran **C.** Segera menutup aplikasi agar tidak banyak data yang hilang (kunci) **D.** Terus bekerja sambil berharap aplikasi kembali normal (pilihan Anda) **E.** Memanggil petugas TI dan menanyakan masalahnya

Jawaban Anda: **D. Terus bekerja sambil berharap aplikasi kembali normal** · **Kurang tepat** · Jawaban benar: **C. Segera menutup aplikasi agar tidak banyak data yang hilang**

Pembahasan.
Skor tertinggi: segera menutup aplikasi agar data tidak banyak hilang. Saat terjadi masalah, langkah pertama adalah mencegah masalah menjadi lebih besar.

TES KARAKTERISTIK PRIBADI (TKP) · SOAL 93

Atasan meminta saya membuat laporan kerja melalui aplikasi daring, padahal saya terbiasa menyerahkan laporan cetak. Saya akan ....

A. Meminta atasan memaklumi kebiasaan saya dan tidak mewajibkan laporan lewat aplikasi **B.** Tetap membuat laporan cetak karena sudah terbiasa **C.** Malas membuat laporan **D.** Belajar membuat laporan melalui aplikasi itu (pilihan Anda) (kunci) **E.** Meminta rekan membuatkan laporan saya lewat aplikasi

Jawaban Anda: **D. Belajar membuat laporan melalui aplikasi itu** · **Benar**

Pembahasan.
Skor tertinggi: belajar membuat laporan melalui aplikasi. Kita perlu terus belajar mengikuti perkembangan teknologi agar pekerjaan lebih mudah.

CONTOH

TES KARAKTERISTIK PRIBADI (TKP) · SOAL 94

Saat sedang menghadapi masalah keluarga, muncul pula masalah di pekerjaan saya. Sikap saya menghadapi masalah yang datang bersamaan ini adalah ....

A. Meminta bantuan teman menyelesaikannya **B.** Berusaha menyelesaikan semuanya sekaligus **C.** Bersabar dan berusaha menghadapinya **D.** Berdoa, pasrah, dan berusaha melupakannya **E.** Berusaha menyelesaikan masalah satu per satu (pilihan Anda) (kunci)

Jawaban Anda: **E. Berusaha menyelesaikan masalah satu per satu** · **Benar**

Pembahasan.
Skor tertinggi: menyelesaikan masalah satu per satu, agar lebih tenang dan setiap masalah benar-benar tuntas.

TES KARAKTERISTIK PRIBADI (TKP) · SOAL 95

Tetangga saya sering membuang sampah di depan rumah saya. Yang saya lakukan adalah ....

A. Memasang tanda larangan membuang sampah di depan rumah **B.** Melaporkannya kepada ketua RT **C.** Membalas dengan membuang sampah di depan rumahnya **D.** Mendatanginya dan memintanya baik-baik agar tidak membuang sampah sembarangan (pilihan Anda) (kunci) **E.** Memarahinya ketika ia membuang sampah

Jawaban Anda: **D. Mendatanginya dan memintanya baik-baik agar tidak membuang sampah sembarangan** · **Benar**

Pembahasan.
Skor tertinggi: mendatanginya dan berbicara baik-baik. Masalah dengan tetangga sebaiknya dikomunikasikan secara baik tanpa marah atau dendam.

CONTOH

TES KARAKTERISTIK PRIBADI (TKP) · SOAL 96

Kelompok kerja saya diberi target yang harus dicapai bersama. Saya akan ....

A. Bekerja sama dengan baik dengan anggota kelompok lain **B.** Memberikan kontribusi ala kadarnya **C.** Segera menetapkan target pribadi tanpa memikirkan target anggota lain **D.** Memberikan kontribusi semaksimal mungkin agar target tercapai (pilihan Anda) (kunci) **E.** Memberikan kontribusi minimal karena kegagalan ditanggung bersama

Jawaban Anda: **D. Memberikan kontribusi semaksimal mungkin agar target tercapai** · **Benar**

Pembahasan.
Skor tertinggi: memberikan kontribusi semaksimal mungkin agar target tercapai. Dalam kerja kelompok, setiap anggota menyumbang sesuai keahliannya demi tujuan bersama.

TES KARAKTERISTIK PRIBADI (TKP) · SOAL 97

Saya dipercaya menjadi petugas dalam acara promosi produk baru. Antrean pembeli sangat panjang, tidak teratur, dan mereka saling berebut ingin segera dilayani. Saya akan ....

A. Menertibkan antrean dan membuka loket tambahan bila memungkinkan (pilihan Anda) **B.** Memarahi pembeli yang tidak mau mengalah **C.** Menertibkan antrean dan berinisiatif membuat nomor antrean (kunci) **D.** Melapor kepada pimpinan agar segera bertindak **E.** Memperhatikan saja

Jawaban Anda: **A. Menertibkan antrean dan membuka loket tambahan bila memungkinkan** · **Kurang tepat** · Jawaban benar: **C. Menertibkan antrean dan berinisiatif membuat nomor antrean**

Pembahasan.
Skor tertinggi: menertibkan antrean dan berinisiatif membuat nomor antrean. Petugas di lapangan perlu cepat membaca situasi dan mengatasi masalah seefisien mungkin.

CONTOH

TES KARAKTERISTIK PRIBADI (TKP) · SOAL 98

Seorang pemohon datang dari tempat yang sangat jauh, tetapi persyaratan berkasnya tidak lengkap. Sikap Anda ....

A. Langsung melayaninya karena kasihan ia datang dari jauh **B.** Berkonsultasi dengan atasan apakah ada kebijakan agar ia tetap dapat dilayani (pilihan Anda) (kunci) **C.** Melihat persyaratan apa yang kurang, siapa tahu masih bisa dilayani **D.** Langsung melayaninya karena kekurangan syarat itu hal biasa **E.** Menolak dan memintanya kembali setelah syaratnya lengkap

Jawaban Anda: **B. Berkonsultasi dengan atasan apakah ada kebijakan agar ia tetap dapat dilayani** · **Benar**

> **Pembahasan.**
> Skor tertinggi: berkonsultasi dengan atasan. Bila keputusan di luar kewenangan kita, sebaiknya kita bertanya kepada atasan atau pihak yang berwenang.

TES KARAKTERISTIK PRIBADI (TKP) · SOAL 99

Sebagai jurnalis, saya ditugaskan meliput daerah yang terkena bencana banjir bandang. Hal yang saya lakukan adalah ....

A. Menjalankan tugas asalkan semua perlengkapan sudah tersedia **B.** Menolak tugas itu dengan sopan **C.** Menjalankan tugas dan mencari informasi tentang keadaan daerah tersebut **D.** Meminta atasan mengganti tugas saya **E.** Menjalankan tugas sebaik-baiknya dengan menyiapkan semua yang diperlukan (pilihan Anda) (kunci)

Jawaban Anda: **E. Menjalankan tugas sebaik-baiknya dengan menyiapkan semua yang diperlukan** · **Benar**

> **Pembahasan.**
> Skor tertinggi: menjalankan tugas sebaik-baiknya dengan persiapan lengkap. Sebelum bekerja di lapangan, apalagi di lokasi bencana, semua kebutuhan perlu disiapkan.

CONTOH

TES KARAKTERISTIK PRIBADI (TKP) · SOAL 100

Untuk menghindari dampak buruk media sosial, yang saya lakukan adalah ....

A. Membuat akun dengan nama samaran **B.** Memakai media sosial untuk keperluan pekerjaan dan silaturahmi (pilihan Anda) (kunci) **C.** Hanya memakai media sosial tertentu saja **D.** Memiliki dua akun media sosial **E.** Tidak menanggapi bila ada yang berkata kasar di media sosial

Jawaban Anda: **B. Memakai media sosial untuk keperluan pekerjaan dan silaturahmi** · **Benar**

Pembahasan.
Skor tertinggi: memakai media sosial untuk pekerjaan dan silaturahmi. Memilah tujuan penggunaan media sosial membantu kita terhindar dari dampak negatifnya.

TES KARAKTERISTIK PRIBADI (TKP) · SOAL 101

Anda sedang dinas luar dan menunggu di stasiun. Pengumuman keberangkatan kereta Anda sudah terdengar ketika Anda melihat seorang kakek tampak kebingungan. Sikap Anda ....

A. Bergegas naik kereta sambil berharap ada orang lain yang menolongnya **B.** Menyewa jasa orang lain untuk membantunya **C.** Meminta petugas stasiun membantu kakek itu (pilihan Anda) (kunci) **D.** Membantu kakek itu sampai masalahnya selesai **E.** Bertanya dulu kepadanya, dan membantu bila sangat penting

Jawaban Anda: **C. Meminta petugas stasiun membantu kakek itu** · **Benar**

Pembahasan.
Skor tertinggi: meminta petugas stasiun membantu. Tugas dinas tetap berjalan, sementara kakek itu dibantu oleh petugas yang tepat.

CONTOH

TES KARAKTERISTIK PRIBADI (TKP) · SOAL 102

Di kantor Anda beredar kabar bahwa seorang pegawai menggelapkan uang penjualan. Kabar itu cepat menyebar, dan pegawai tersebut sudah beberapa hari tidak masuk. Sikap Anda ....

A. Perbuatan pegawai itu sudah keterlaluan dan merugikan perusahaan **B.** Mendatangi rumah pegawai tersebut **C.** Kabar itu belum pasti, jadi saya memilih tidak berkomentar lebih jauh (pilihan Anda) (kunci) **D.** Perusahaan harus memberikan sanksi tegas kepada pelakunya **E.** Menanyakan kebenaran kabar itu kepada rekan kerja

Jawaban Anda: **C. Kabar itu belum pasti, jadi saya memilih tidak berkomentar lebih jauh** · **Benar**

> **Pembahasan.**
> Skor tertinggi: tidak berkomentar lebih jauh karena kabarnya belum pasti. Bersikap profesional termasuk menahan diri dari tindakan yang tidak perlu terhadap isu yang belum tentu benar.

TES KARAKTERISTIK PRIBADI (TKP) · SOAL 103

Kantor Anda mewajibkan pegawai menguasai bahasa asing dan akan mengadakan kursus untuk semua pegawai. Sebagai panitia, agar semua pegawai dapat ikut, Anda akan ....

A. Mengadakan kursus pada jam istirahat **B.** Meminta pendapat rekan-rekan tentang waktu kursus yang tepat **C.** Mengadakan kursus setelah jam kantor **D.** Mengadakan kursus pada hari libur **E.** Mengadakan kursus secara bertahap agar tidak mengganggu kinerja kantor (pilihan Anda) (kunci)

Jawaban Anda: **E. Mengadakan kursus secara bertahap agar tidak mengganggu kinerja kantor** · **Benar**

> **Pembahasan.**
> Skor tertinggi: mengadakan kursus secara bertahap. Peningkatan kemampuan pegawai penting, tetapi pelaksanaannya tetap memperhatikan hak pegawai dan kelancaran kerja kantor.

CONTOH

TES KARAKTERISTIK PRIBADI (TKP) · SOAL 104

Anda mendapat banyak pekerjaan sekaligus dengan tenggat waktu yang sama. Sebagai pegawai profesional, Anda akan ....

A. Menyelesaikannya sesuai tenggat dengan hasil seadanya **B.** Melapor kepada atasan bahwa saya membutuhkan bantuan rekan lain (kunci) **C.** Membawa pekerjaan ke rumah dan mengerjakannya sampai larut malam **D.** Pulang sesuai jadwal dan meninggalkan pekerjaan untuk besok **E.** Memilih lembur dengan harapan mendapat uang lembur (pilihan Anda)

Jawaban Anda: **E. Memilih lembur dengan harapan mendapat uang lembur** · **Kurang tepat** · Jawaban benar: **B. Melapor kepada atasan bahwa saya membutuhkan bantuan rekan lain**

Pembahasan.
Skor tertinggi: melapor kepada atasan bahwa dibutuhkan bantuan. Pegawai profesional mengutamakan mutu hasil kerja, sehingga atasan perlu tahu keadaan yang dapat menghambat pekerjaan.

TES KARAKTERISTIK PRIBADI (TKP) · SOAL 105

Terjadi pertikaian antara dua kelompok warga setelah salah satu kelompok sengaja merusak balai adat milik kelompok lain. Upaya pemerintah yang paling tepat untuk meredakan pertikaian adalah ....

A. Menangkap orang yang memicu pertikaian **B.** Menumbuhkan kesadaran toleransi antarkelompok **C.** Mencegah kedua kelompok saling serang **D.** Memberikan jaminan kepastian hukum **E.** Melakukan mediasi antara kedua kelompok (pilihan Anda) (kunci)

Jawaban Anda: **E. Melakukan mediasi antara kedua kelompok** · **Benar**

Pembahasan.
Skor tertinggi: melakukan mediasi. Karena pertikaian sedang berlangsung, mempertemukan kedua pihak adalah cara yang paling tepat agar konflik tidak meluas.

TES KARAKTERISTIK PRIBADI (TKP) · SOAL 106

Indonesia terdiri atas beragam budaya, suku, bahasa, tradisi, dan agama. Bila umat beragama bersikap tidak toleran, kerukunan akan terganggu. Agar hal itu tidak terjadi, semua umat beragama hendaknya ....

A. Lebih sungguh-sungguh mempelajari ajaran agamanya **B.** Mengedepankan sikap saling menghormati dan menghargai (pilihan Anda) (kunci) **C.** Membuat satu hukum agama untuk semua umat **D.** Mendalami semua ajaran agama yang ada **E.** Mengganti ideologi negara

Jawaban Anda: **B. Mengedepankan sikap saling menghormati dan menghargai** · **Benar**

> **Pembahasan.**
> Skor tertinggi: saling menghormati dan menghargai. Sikap ini adalah cara terbaik untuk menumbuhkan toleransi antarpemeluk agama.

TES KARAKTERISTIK PRIBADI (TKP) · SOAL 107

Hampir di setiap masa kampanye pemilihan umum terjadi pertikaian antarpendukung calon. Pertikaian sering dipicu hal kecil, misalnya merasa calonnya paling benar sambil menjelekkan calon lain. Pertikaian itu terjadi karena ....

A. Ada kesenjangan ekonomi yang sudah lama terjadi **B.** Sanksi terhadap pelanggaran norma lemah **C.** Norma sosial tidak lagi berfungsi dengan baik **D.** Ada pertentangan norma yang membingungkan **E.** Ada proses disosiatif yang berlangsung terus-menerus (pilihan Anda) (kunci)

Jawaban Anda: **E. Ada proses disosiatif yang berlangsung terus-menerus** · **Benar**

> **Pembahasan.**
> Skor tertinggi: proses disosiatif yang terus-menerus. Interaksi disosiatif adalah interaksi yang saling berlawanan, seperti persaingan, kontroversi, dan pertentangan.

CONTOH

TES KARAKTERISTIK PRIBADI (TKP) · SOAL 108

Sahabat Anda yang berbeda agama sedang merayakan hari besar keagamaannya. Sikap yang perlu Anda tunjukkan adalah ....

A. Ikut merayakan hari besar agamanya karena ia sahabat saya (pilihan Anda) **B.** Membiarkannya merayakan hari besarnya dengan khidmat **C.** Menjaga suasana tetap tenang agar perayaannya berjalan lancar (kunci) **D.** Tidak perlu melakukan apa pun karena bukan agama saya **E.** Menghormati keyakinan yang dianut sahabat saya

Jawaban Anda: **A. Ikut merayakan hari besar agamanya karena ia sahabat saya** · **Kurang tepat** · Jawaban benar: **C. Menjaga suasana tetap tenang agar perayaannya berjalan lancar**

Pembahasan.
Skor tertinggi: ikut menjaga suasana tetap tenang agar perayaan berjalan lancar. Ini wujud nyata toleransi tanpa melanggar ajaran agama yang kita anut.

TES KARAKTERISTIK PRIBADI (TKP) · SOAL 109

Seorang rekan kantor berubah menjadi pendiam, menutup diri, dan mulai menganggap semua orang yang tidak sepaham dengannya sebagai sesat. Yang Anda lakukan ....

A. Melaporkannya kepada polisi **B.** Mengajaknya berdiskusi untuk meluruskan cara pandangnya **C.** Melaporkannya kepada atasan (pilihan Anda) (kunci) **D.** Tidak melakukan apa pun karena tidak mau mencampuri urusannya **E.** Membiarkannya selama tidak mengganggu saya

Jawaban Anda: **C. Melaporkannya kepada atasan** · **Benar**

Pembahasan.
Skor tertinggi: melapor kepada atasan. Masalah ini masih dalam lingkup kantor, dan atasan memiliki kewenangan untuk mengambil tindakan yang tepat.

CONTOH

TES KARAKTERISTIK PRIBADI (TKP) · SOAL 110

Pergolakan di suatu daerah karena kecewa terhadap pembangunan yang tidak merata dapat mengancam keutuhan NKRI. Pergolakan daerah seperti ini merupakan ancaman dari dalam berupa ....

A. Sabotase **B.** Disintegrasi (kunci) **C.** Degradasi (pilihan Anda) **D.** Makar **E.** Spionase

Jawaban Anda: **C. Degradasi** · **Kurang tepat** · Jawaban benar: **B. Disintegrasi**

Pembahasan.
Skor tertinggi: disintegrasi, yaitu keadaan tidak bersatu padu atau terpecah belah (KBBI).
Pergolakan daerah mengancam persatuan dan keutuhan bangsa.

07 Catatan dan keabsahan

Dasar perhitungan dan batas penggunaan laporan.

Laporan ini disusun otomatis dari jawaban peserta pada Latihan Tes SKD CPNS (TWK, TIU, TKP). Skor dihitung otomatis dengan norma skd-admin, dan dapat dipakai sebagai bahan belajar dan refleksi diri. Laporan ini bukan hasil asesmen psikologis resmi dan tidak menggantikan pemeriksaan oleh psikolog berizin.

No. laporan KP-7944ZY60Y1
Dihasilkan oleh KlikPsikotes pada 30 Oktober 2026, 12.56 WIB.
Sebutkan nomor ini bila perlu menanyakan laporan.

Latihan lagi?
Tes lain dan laporan lengkap ada di **klikpsikotes.com**

CONTOH