KlikPsikotes

No. laporan
KP-BYZ27EANWT

LAPORAN HASIL TES

Tes Matriks Progresif (model SPM)

Tes kognitif

CONTOH · peserta fiktif

DISUSUN UNTUK

Peserta Contoh

TANGGAL TES	MODE	SOAL TERJAWAB
28 Oktober 2026	Latihan	60 dari 60

Tentang laporan ini

Untuk siapa laporan ini dan cara membacanya.

Terima kasih telah mengerjakan **Tes Matriks Progresif (model SPM)**. Laporan ini merangkum hasil Anda: skor, kategorinya, dan penjelasan setiap aspek. Skor dihitung otomatis dari jawaban Anda dengan kunci dan norma dari sumber tes.

IDENTITAS PESERTA

Nama lengkap **Peserta Contoh**	Email **peserta.contoh@example.com**
Usia saat tes **26 tahun**	Jenis kelamin **Perempuan**
Pendidikan terakhir **Sarjana (D4/S1)**	Tes **Tes Matriks Progresif (model SPM)**
Waktu selesai **28 Oktober 2026, 03.59 WIB**	Lama pengerjaan **20 menit 0 detik**
Soal terjawab **60 dari 60 soal**	

CARA MEMBACA LAPORAN

1. **Mulai dari ringkasan**
   Hasil utama dan kategorinya.
2. **Skor baku dan mentah**
   Baku dibandingkan norma; mentah adalah jumlah jawaban yang dinilai.
3. **Kategori**
   Posisi skor pada pita dari sumber tes.
4. **Gambaran saat ini**
   Kondisi saat tes, bukan label permanen.

Isi laporan

01 Ringkasan hasil
02 Rincian skor
03 Interpretasi per aspek
04 Analisis Coach AI
05 Rekap jawaban
06 Pembahasan soal
07 Catatan dan keabsahan

CONTOH
KP-BYZ27EANWT · klikpsikotes.com

01 Ringkasan hasil

Hasil utama dan apa artinya secara singkat.

PERKIRAAN IQ

104

Rata-rata

42 dari 60 soal dijawab benar.

RINGKASAN

Benar 42 dari 60 soal, perkiraan IQ 104 (Rata-rata).

02 Rincian skor

Skor setiap aspek beserta kategorinya.

ASPEK	SKOR	KATEGORI
Penalaran matriks	**104** mentah 42	Rata-rata

03 Interpretasi per aspek

Penjelasan tiap aspek menurut pita skor.

Penalaran matriks

Rata-rata · skor 104

IQ 91–110 (kategori sumber: Average).

CONTOH

04 Analisis Coach AI

Kekuatan, hal yang bisa dikembangkan, dan rencana latihan.

SPM: skor standar 104 berada pada kategori Rata-rata

SKOR STANDAR	JAWABAN BENAR	PENGERJAAN
104: Rata-rata	42 dari 60 soal	60 soal dalam 20 menit

Pada latihan Tes Matriks Progresif model SPM, skor standar Anda adalah 104, dalam kategori Rata-rata. Hasil ini menunjukkan performa pada penalaran matriks dalam sesi tersebut.

Kekuatan Anda

Menyelesaikan seluruh soal

Anda menjawab 60 dari 60 soal dan tidak kehabisan waktu.

Performa terukur

Anda memperoleh 42 jawaban benar pada penalaran matriks.

Bisa dikembangkan

Mengenali pola matriks

Latihan ini mencatat 42 jawaban benar dari 60 soal, sehingga masih ada ruang untuk mengasah pembacaan pola.

Coba: Saat berlatih, periksa perubahan bentuk, jumlah, dan arah pada setiap baris serta kolom.

Memeriksa jawaban

Data tidak merinci jenis soal yang keliru, jadi area spesifik yang perlu ditingkatkan belum dapat dipastikan.

Coba: Setelah memilih jawaban, cocokkan kembali pola pada baris dan kolom sebelum lanjut.

Rencana latihan 7 hari

Hari 1 Tinjau kembali cara membaca perubahan pola pada baris dan kolom matriks.

Hari 2–3 Kerjakan Tes Penalaran Gambar CFIT 3A untuk melatih deret, pola, dan letak titik melalui soal gambar. **Buka tes ›**

Hari 4–5 Latih kembali soal matriks SPM dan catat pola yang sulit Anda kenali. **Buka tes ›**

Hari 6–7 Kerjakan Tes Analogi Gambar AG30 untuk berlatih menemukan perubahan gambar dan menerapkannya pada pola baru. **Buka tes ›**

Hasil ini berasal dari latihan dan bukan penilaian psikologis resmi. Analisis ini dibuat dengan bantuan AI dari skor di atas, bukan oleh psikolog.

05 Rekap jawaban

Benar dan salah untuk setiap soal.

Benar | Salah atau kosong

1	2	3	4	5	6	7	8	9	10
11	12	13	14	15	16	17	18	19	20
21	22	23	24	25	26	27	28	29	30
31	32	33	34	35	36	37	38	39	40
41	42	43	44	45	46	47	48	49	50
51	52	53	54	55	56	57	58	59	60

06 Pembahasan soal

Jawaban benar dan pembahasan yang disetujui.

MATRIKS PROGRESIF · SOAL 1

Soal A1.

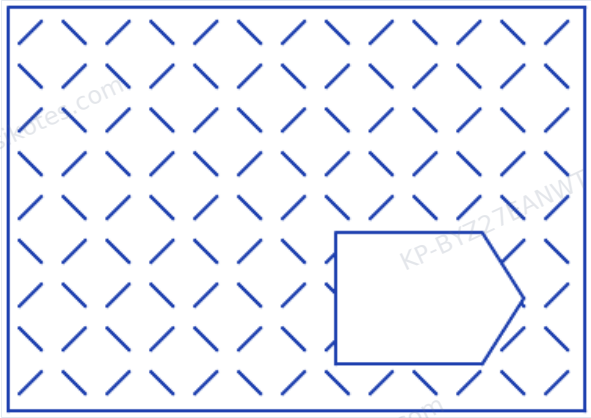

1	2	3	4	5	6
	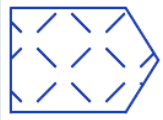	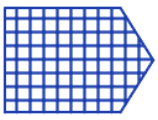	 Pilihan Anda · benar		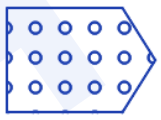

Jawaban Anda: **4** · **Benar**

Pembahasan.

Bagian yang hilang harus meneruskan pola garis pendek miring berselang-seling di sekelilingnya: garis dan bentuk di tepi celah harus bersambung tepat dengan yang di luar celah. Hanya potongan **4** yang tersambung di semua sisi; potongan lain bergeser, terputar, terbalik, atau berpola lain.

MATRIKS PROGRESIF · SOAL 2

Soal A2.

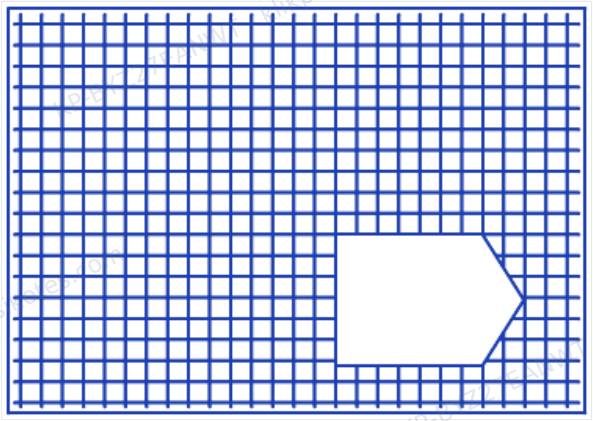

1	2	3	4	5	6
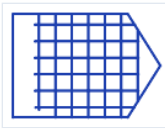	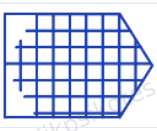	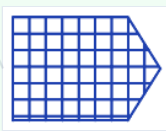 Pilihan Anda · benar	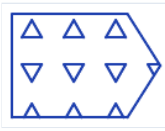		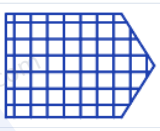

Jawaban Anda: **3** · **Benar**

Pembahasan.

Bagian yang hilang harus meneruskan pola kisi-kisi rapat di sekelilingnya: garis dan bentuk di tepi celah harus bersambung tepat dengan yang di luar celah. Hanya potongan **3** yang tersambung di semua sisi; potongan lain bergeser, terputar, terbalik, atau berpola lain.

CONTOH

MATRIKS PROGRESIF · SOAL 3

Soal A3.

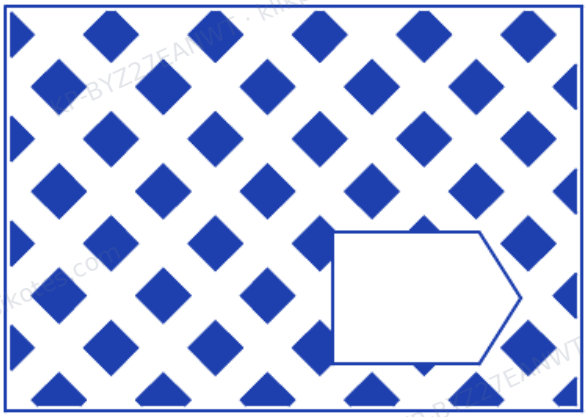

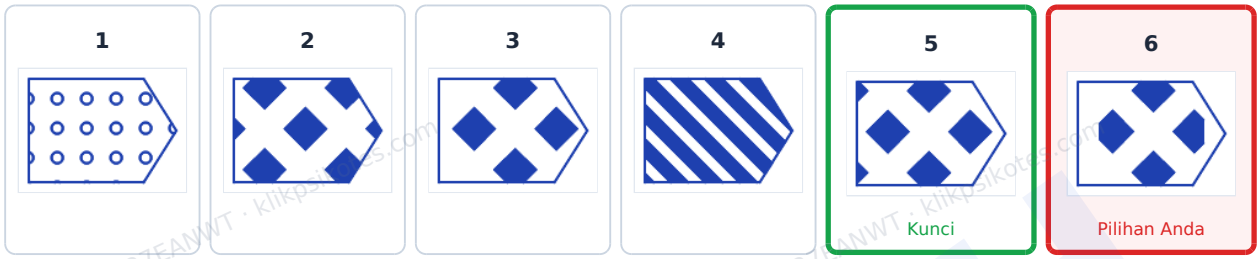

Jawaban Anda: **6** · **Kurang tepat** · Jawaban benar: **5**

Pembahasan.

Bagian yang hilang harus meneruskan pola papan catur belah ketupat di sekelilingnya: garis dan bentuk di tepi celah harus bersambung tepat dengan yang di luar celah. Hanya potongan **5** yang tersambung di semua sisi; potongan lain bergeser, terputar, terbalik, atau berpola lain.

CONTOH

MATRIKS PROGRESIF · SOAL 4

Soal A4.

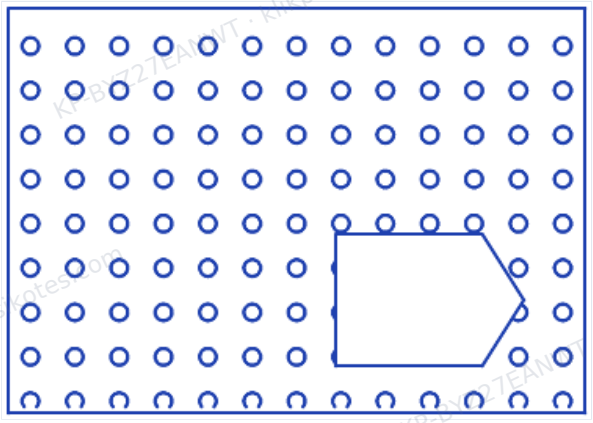

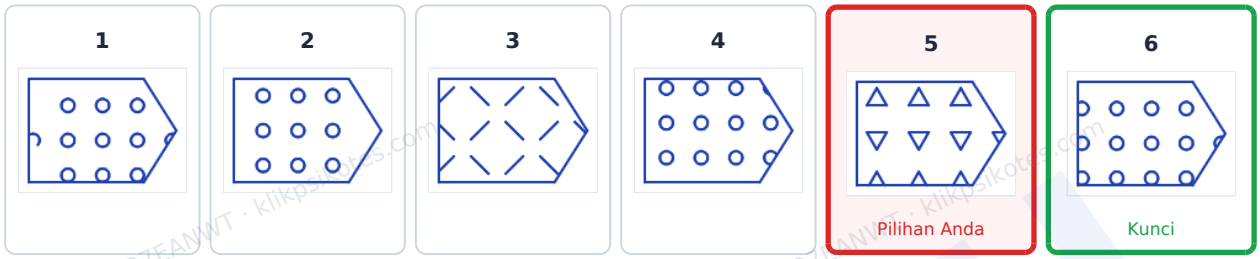

Jawaban Anda: **5** · **Kurang tepat** · Jawaban benar: **6**

Pembahasan.

Bagian yang hilang harus meneruskan pola lingkaran kecil berbaris di sekelilingnya: garis dan bentuk di tepi celah harus bersambung tepat dengan yang di luar celah. Hanya potongan **6** yang tersambung di semua sisi; potongan lain bergeser, terputar, terbalik, atau berpola lain.

CONTOH

MATRIKS PROGRESIF · SOAL 5

Soal A5.

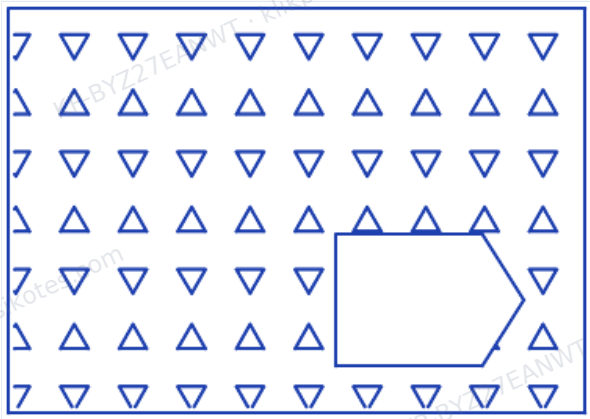

1	2	3	4	5	6
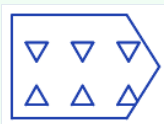	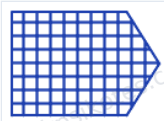		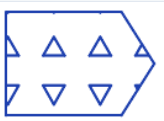	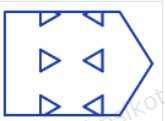	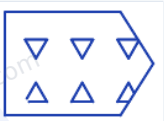
Pilihan Anda · benar					

Jawaban Anda: **1** · **Benar**

Pembahasan.

Bagian yang hilang harus meneruskan pola segitiga berbaris, bergantian terbalik di sekelilingnya: garis dan bentuk di tepi celah harus bersambung tepat dengan yang di luar celah. Hanya potongan **1** yang tersambung di semua sisi; potongan lain bergeser, terputar, terbalik, atau berpola lain.

CONTOH

MATRIKS PROGRESIF · SOAL 6

Soal A6.



1	2	3	4	5	6
				 Pilihan Anda · benar	

Jawaban Anda: **5** · **Benar**

Pembahasan.

Bagian yang hilang harus meneruskan pola pita miring hitam-putih di sekelilingnya: garis dan bentuk di tepi celah harus bersambung tepat dengan yang di luar celah. Hanya potongan **5** yang tersambung di semua sisi; potongan lain bergeser, terputar, terbalik, atau berpola lain.

CONTOH

MATRIKS PROGRESIF · SOAL 7

Soal A7.

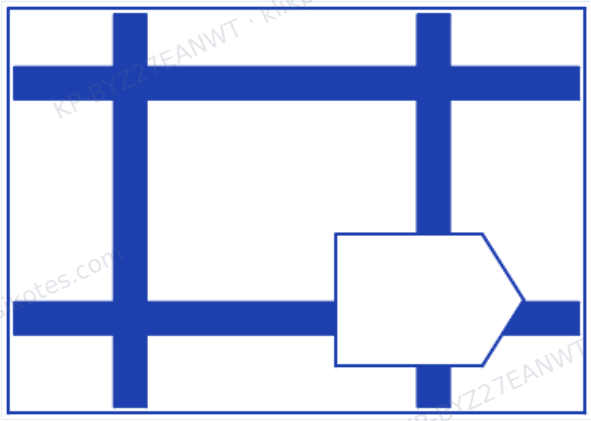

1	2	3	4	5	6
			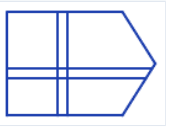		
Pilihan Anda · benar					

Jawaban Anda: **1** · **Benar**

Pembahasan.
Bagian yang hilang harus meneruskan pola batang tebal bersilangan di sekelilingnya: garis dan bentuk di tepi celah harus bersambung tepat dengan yang di luar celah. Hanya potongan **1** yang tersambung di semua sisi; potongan lain bergeser, terputar, terbalik, atau berpola lain.

CONTOH

MATRIKS PROGRESIF · SOAL 8

Soal A8.

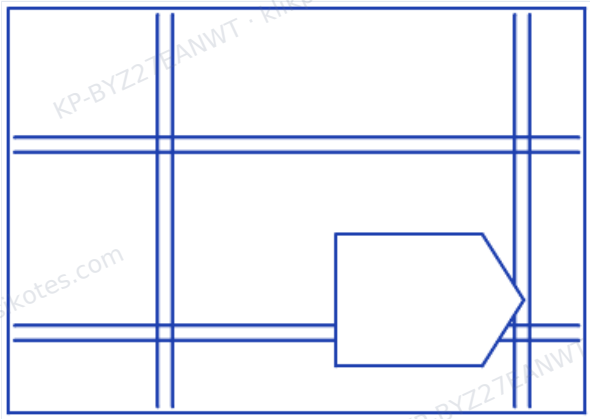

1	2	3	4	5	6
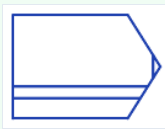	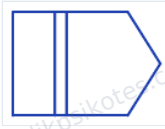		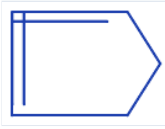	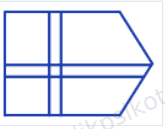	
Pilihan Anda · benar					

Jawaban Anda: **1** · **Benar**

Pembahasan.

Bagian yang hilang harus meneruskan pola garis ganda bersilangan di sekelilingnya: garis dan bentuk di tepi celah harus bersambung tepat dengan yang di luar celah. Hanya potongan **1** yang tersambung di semua sisi; potongan lain bergeser, terputar, terbalik, atau berpola lain.

CONTOH
KP-BYZ27EANWT · klikpsikotes.com

MATRIKS PROGRESIF · SOAL 9

Soal A9.



1	2	3	4	5	6
					
Pilihan Anda · benar					

Jawaban Anda: **1** · **Benar**

Pembahasan.

Bagian yang hilang harus meneruskan pola pita yang makin tebal ke bawah di sekelilingnya: garis dan bentuk di tepi celah harus bersambung tepat dengan yang di luar celah. Hanya potongan **1** yang tersambung di semua sisi; potongan lain bergeser, terputar, terbalik, atau berpola lain.

CONTOH

MATRIKS PROGRESIF · SOAL 10

Soal A10.

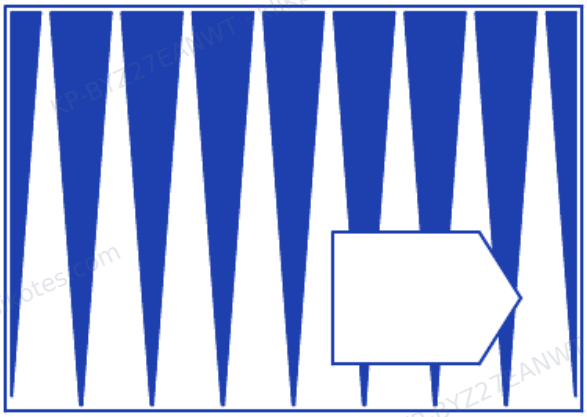

1	2	3	4	5	6
					 Pilihan Anda · benar

Jawaban Anda: **6** · **Benar**

Pembahasan.
Bagian yang hilang harus meneruskan pola baji yang meruncing ke bawah di sekelilingnya: garis dan bentuk di tepi celah harus bersambung tepat dengan yang di luar celah. Hanya potongan **6** yang tersambung di semua sisi; potongan lain bergeser, terputar, terbalik, atau berpola lain.

CONTOH
KP-BYZ27EANWT · klikpsikotes.com

MATRIKS PROGRESIF · SOAL 11

Soal A11.

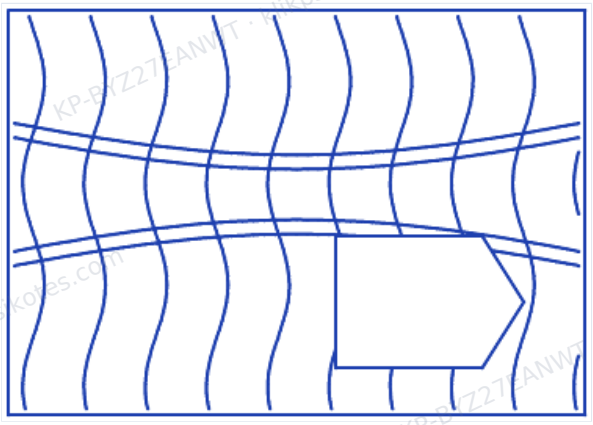

1	2	3	4	5	6
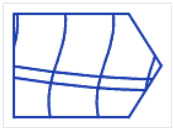	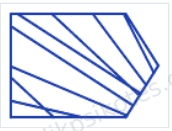	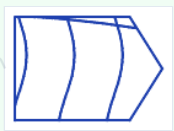 Pilihan Anda · benar	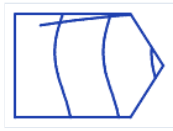	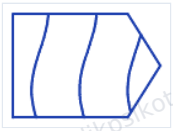	

Jawaban Anda: **3** · **Benar**

Pembahasan.
Bagian yang hilang harus meneruskan pola gelombang tegak dengan dua garis melengkung di sekelilingnya: garis dan bentuk di tepi celah harus bersambung tepat dengan yang di luar celah. Hanya potongan **3** yang tersambung di semua sisi; potongan lain bergeser, terputar, terbalik, atau berpola lain.

CONTOH

MATRIKS PROGRESIF · SOAL 12

Soal A12.

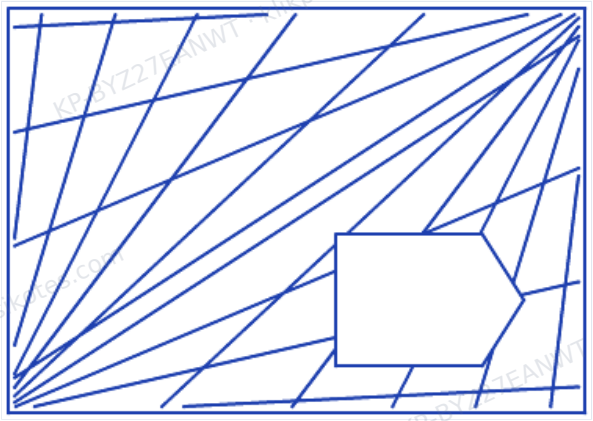

1	2	3	4	5	6
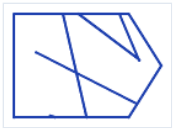	 Pilihan Anda · benar	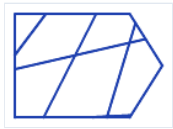	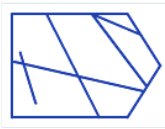	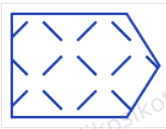	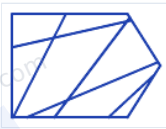

Jawaban Anda: **2** · **Benar**

Pembahasan.

Bagian yang hilang harus meneruskan pola dua kipas garis di sekelilingnya: garis dan bentuk di tepi celah harus bersambung tepat dengan yang di luar celah. Hanya potongan **2** yang tersambung di semua sisi; potongan lain bergeser, terputar, terbalik, atau berpola lain.

CONTOH
KP-BYZ27EANWT · klikpsikotes.com

MATRIKS PROGRESIF · SOAL 13

Soal B1.

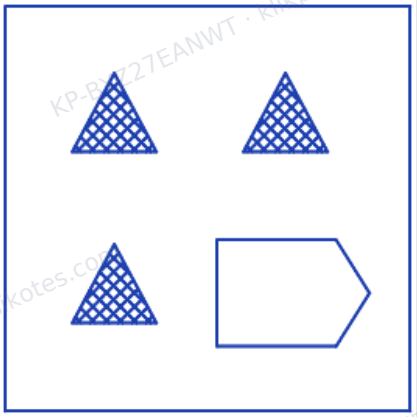

1	2	3	4	5	6
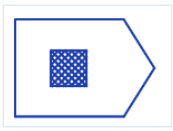	 Pilihan Anda · benar				

Jawaban Anda: **2** · **Benar**

Pembahasan.

Keempat kotak berisi gambar yang sama persis, jadi kotak yang kosong pun berisi gambar itu: pilihan **2**.

CONTOH

MATRIKS PROGRESIF · SOAL 14

Soal B2.

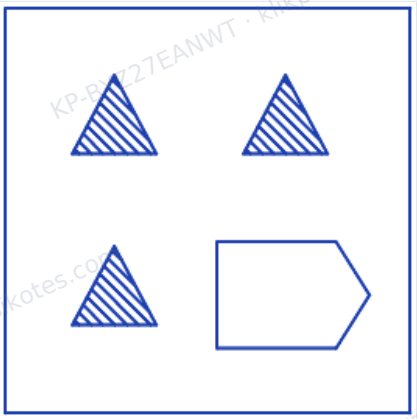

1	2	3	4	5	6
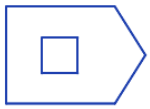				 Pilihan Anda · benar	

Jawaban Anda: **5** · **Benar**

Pembahasan.

Keempat kotak berisi gambar yang sama persis, jadi kotak yang kosong pun berisi gambar itu: pilihan **5**.

CONTOH

MATRIKS PROGRESIF · SOAL 15

Soal B3.

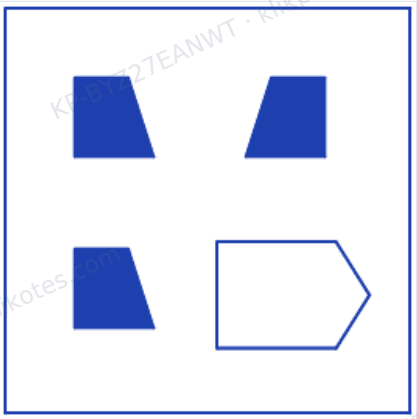

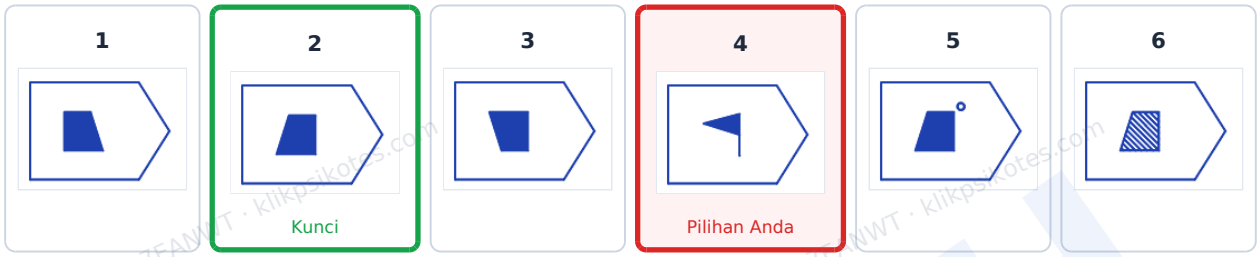

Jawaban Anda: **4** · **Kurang tepat** · Jawaban benar: **2**

Pembahasan.

Dari kolom kiri ke kolom kanan, gambar dicerminkan kiri-kanan. Dari baris atas ke baris bawah, tidak ada yang berubah. Kotak kanan bawah mendapat kedua perubahan itu: pilihan **2**.

CONTOH

MATRIKS PROGRESIF · SOAL 16

Soal B4.

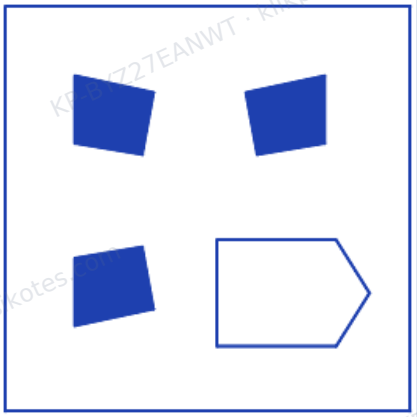

1	2	3	4	5	6
				 Pilihan Anda · benar	

Jawaban Anda: **5** · **Benar**

Pembahasan.

Dari kolom kiri ke kolom kanan, gambar dicerminkan kiri-kanan. Dari baris atas ke baris bawah, gambar dicerminkan atas-bawah. Kotak kanan bawah mendapat kedua perubahan itu: pilihan **5**.

CONTOH

MATRIKS PROGRESIF · SOAL 17

Soal B5.

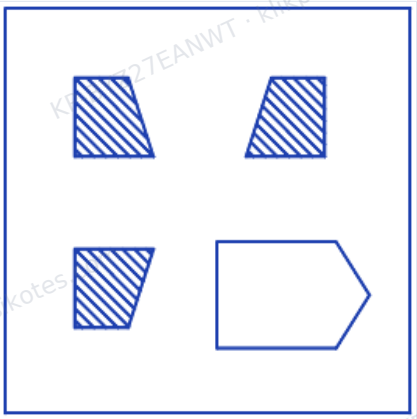

1	2	3	4	5	6
		 Pilihan Anda · benar			

Jawaban Anda: **3** · **Benar**

Pembahasan.

Dari kolom kiri ke kolom kanan, gambar dicerminkan kiri-kanan. Dari baris atas ke baris bawah, gambar dicerminkan atas-bawah. Kotak kanan bawah mendapat kedua perubahan itu: pilihan **3**.

CONTOH

MATRIKS PROGRESIF · SOAL 18

Soal B6.

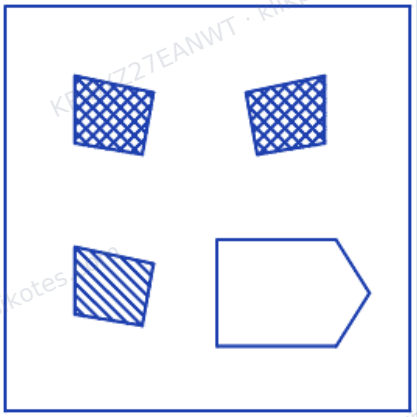

1	2	3	4	5	6
				 Pilihan Anda · benar	

Jawaban Anda: **5** · **Benar**

Pembahasan.

Dari kolom kiri ke kolom kanan, gambar dicerminkan kiri-kanan. Dari baris atas ke baris bawah, isinya berubah dari arsir silang menjadi arsir. Kotak kanan bawah mendapat kedua perubahan itu: pilihan **5**.

CONTOH

MATRIKS PROGRESIF · SOAL 19

Soal B7.

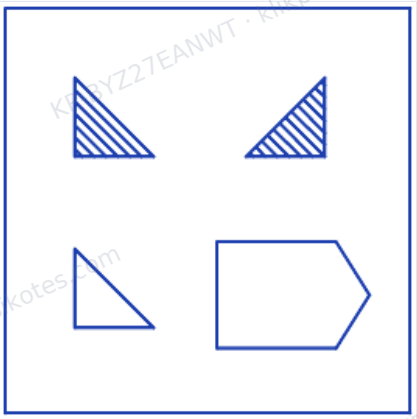

1	2	3	4	5	6
		 Pilihan Anda · benar			

Jawaban Anda: **3** · **Benar**

Pembahasan.

Dari kolom kiri ke kolom kanan, gambar dicerminkan kiri-kanan. Dari baris atas ke baris bawah, isinya berubah dari arsir menjadi kosong. Kotak kanan bawah mendapat kedua perubahan itu: pilihan **3**.

CONTOH
KP-BYZ27EANWT · klikpsikotes.com

MATRIKS PROGRESIF · SOAL 20

Soal B8.

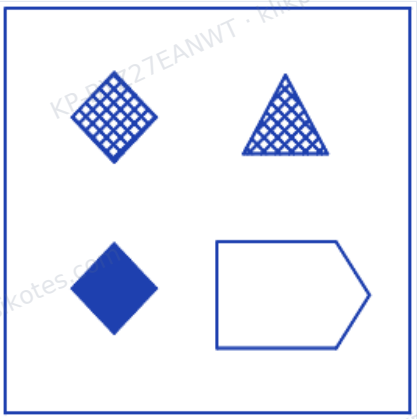

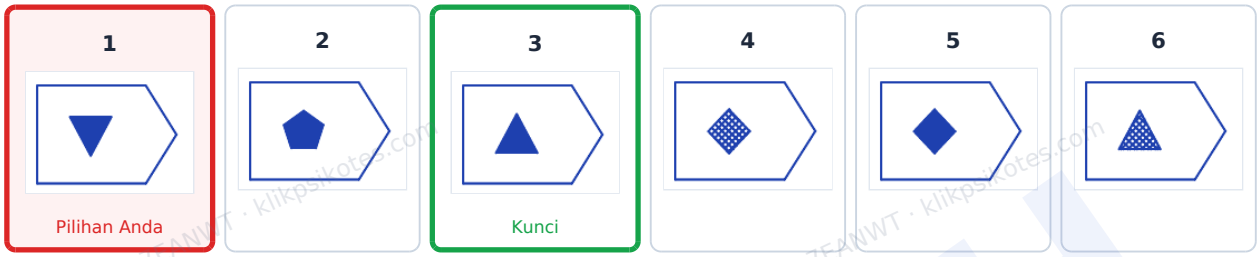

Jawaban Anda: **1** · **Kurang tepat** · Jawaban benar: **3**

Pembahasan.

Dari kolom kiri ke kolom kanan, bentuknya berubah dari belah ketupat menjadi segitiga. Dari baris atas ke baris bawah, isinya berubah dari arsir silang menjadi hitam. Kotak kanan bawah mendapat kedua perubahan itu: pilihan **3**.

CONTOH

MATRIKS PROGRESIF · SOAL 21

Soal B9.

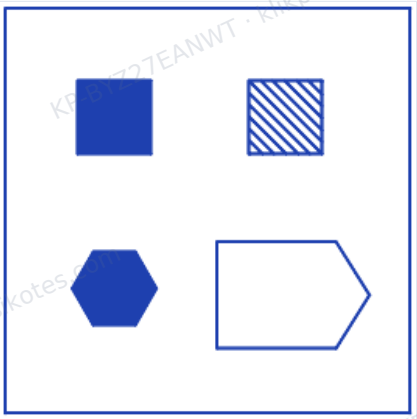

1	2	3	4	5	6
			 Pilihan Anda · benar		

Jawaban Anda: **4** · **Benar**

Pembahasan.

Dari kolom kiri ke kolom kanan, isinya berubah dari hitam menjadi arsir. Dari baris atas ke baris bawah, bentuknya berubah dari persegi menjadi segi enam. Kotak kanan bawah mendapat kedua perubahan itu: pilihan **4**.

CONTOH

MATRIKS PROGRESIF · SOAL 22

Soal B10.

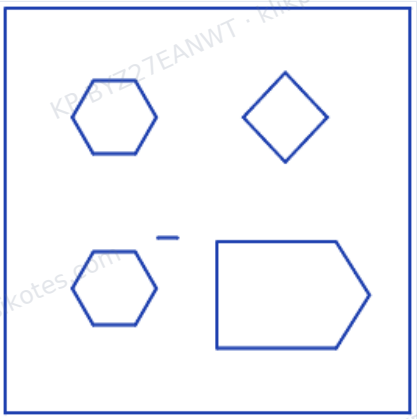

1	2	3	4	5	6
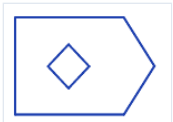	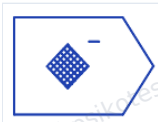			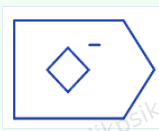 Pilihan Anda · benar	

Jawaban Anda: **5** · **Benar**

Pembahasan.

Dari kolom kiri ke kolom kanan, bentuknya berubah dari segi enam menjadi belah ketupat. Dari baris atas ke baris bawah, ditambah tanda garis tengah. Kotak kanan bawah mendapat kedua perubahan itu: pilihan **5**.

CONTOH

MATRIKS PROGRESIF · SOAL 23

Soal B11.

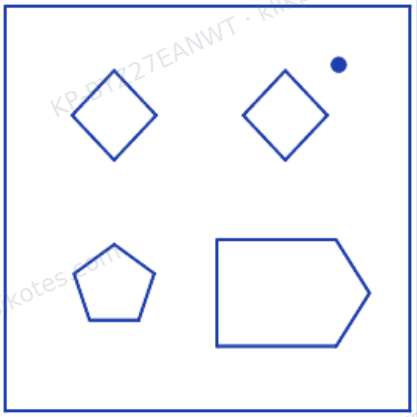

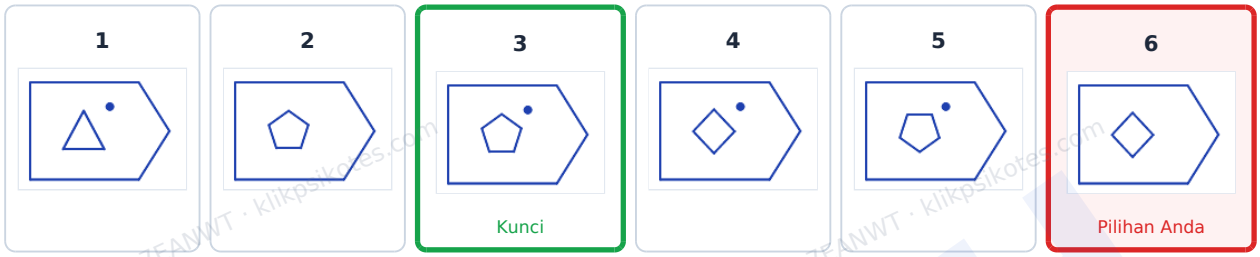

Jawaban Anda: **6** · **Kurang tepat** · Jawaban benar: **3**

Pembahasan.

Dari kolom kiri ke kolom kanan, ditambah tanda titik. Dari baris atas ke baris bawah, bentuknya berubah dari belah ketupat menjadi segi lima. Kotak kanan bawah mendapat kedua perubahan itu: pilihan **3**.

CONTOH

MATRIKS PROGRESIF · SOAL 24

Soal B12.

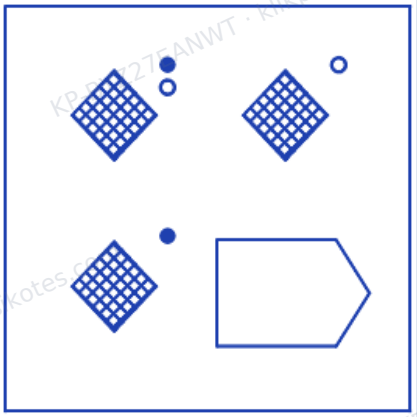

1	2	3	4	5	6
			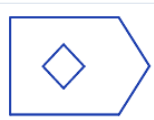	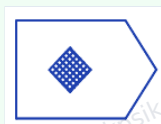 Pilihan Anda · benar	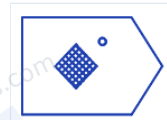

Jawaban Anda: **5** · **Benar**

Pembahasan.

Dari kolom kiri ke kolom kanan, tanda titik dihapus. Dari baris atas ke baris bawah, tanda lingkaran kecil dihapus. Kotak kanan bawah mendapat kedua perubahan itu: pilihan **5**.

CONTOH

MATRIKS PROGRESIF · SOAL 25

Soal C1.

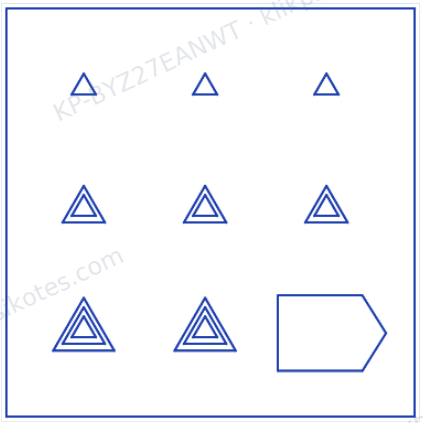

1	2	3	4	5	6	7	8
		 Pilihan Anda · benar					

Jawaban Anda: **3** · **Benar**

Pembahasan.

Setiap baris berisi segitiga bersarang dengan jumlah yang sama: satu pada baris atas, dua pada baris tengah, dan tiga pada baris bawah. Kotak yang kosong ada di baris bawah, jadi isinya tiga segitiga bersarang: pilihan **3**.

CONTOH

MATRIKS PROGRESIF · SOAL 26

Soal C2.

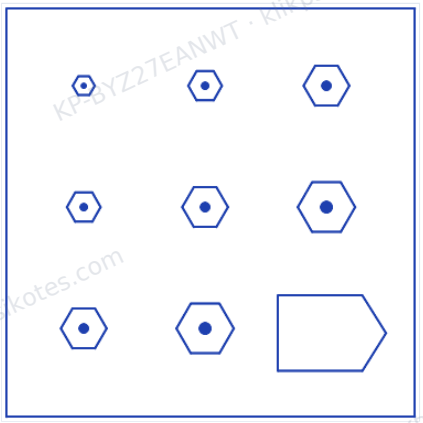

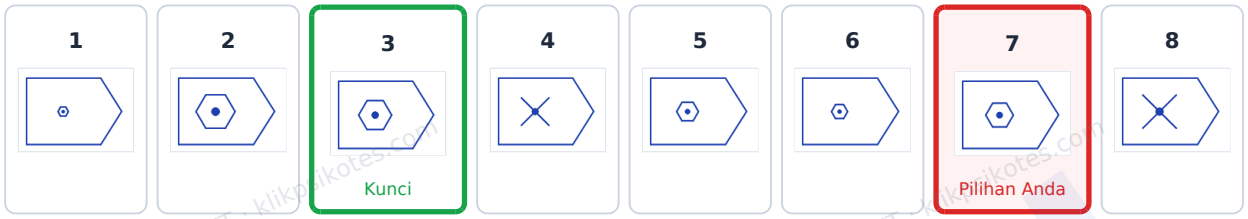

Jawaban Anda: **7** · **Kurang tepat** · Jawaban benar: **3**

Pembahasan.

segi enam bertitik membesar satu langkah setiap bergeser ke kanan dan satu langkah setiap turun ke bawah. Kotak kanan bawah berada empat langkah dari kotak kiri atas, jadi berisi segi enam bertitik terbesar: pilihan **3**.

CONTOH

MATRIKS PROGRESIF · SOAL 27

Soal C3.

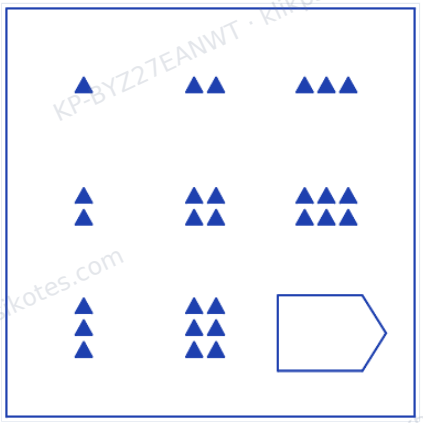

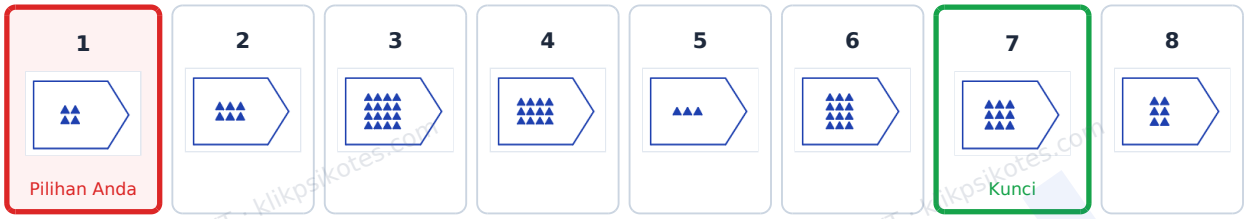

Jawaban Anda: **1** · **Kurang tepat** · Jawaban benar: **7**

Pembahasan.

Banyaknya segitiga kecil adalah nomor baris kali nomor kolom, tersusun dalam baris dan kolom kecil: 1, 2, 3 di baris atas; 2, 4, 6 di baris tengah; 3, 6, ... di baris bawah. Kotak terakhir berisi 3 × 3 = 9 segitiga kecil: pilihan **7**.

CONTOH

MATRIKS PROGRESIF · SOAL 28

Soal C4.



1	2	3	4	5	6	7	8
			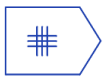 Pilihan Anda · benar				

Jawaban Anda: **4** · **Benar**

Pembahasan.

Banyaknya garis tegak sama dengan nomor baris, dan banyaknya garis mendatar sama dengan nomor kolom. Kotak kanan bawah (baris 3, kolom 3) berisi tiga garis tegak dan tiga garis mendatar: pilihan **4**.

CONTOH

MATRIKS PROGRESIF · SOAL 29

Soal C5.

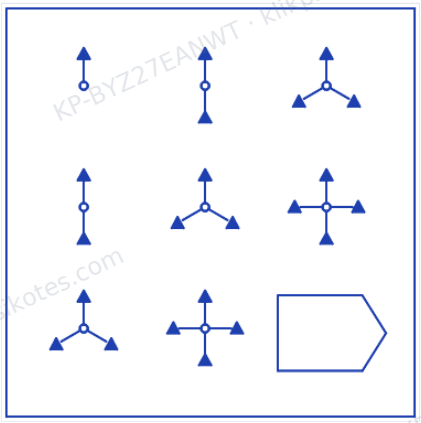

1	2	3	4	5	6	7	8
			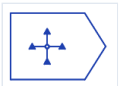			 Pilihan Anda · benar	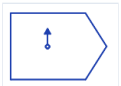

Jawaban Anda: **7** · **Benar**

Pembahasan.

Banyaknya jari berujung segitiga bertambah satu setiap bergeser ke kanan dan bertambah satu setiap turun: baris atas 1, 2, 3; baris tengah 2, 3, 4; baris bawah 3, 4, ... Kotak terakhir berisi lima jari: pilihan **7**.

CONTOH

MATRIKS PROGRESIF · SOAL 30

Soal C6.

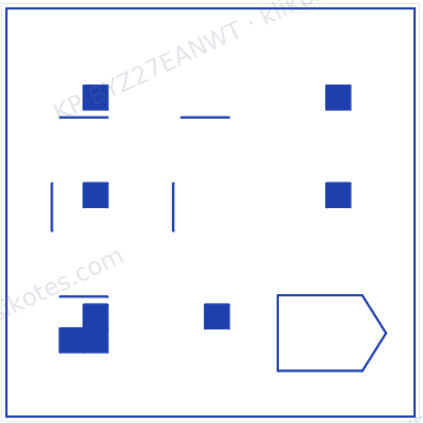

1	2	3	4	5	6	7	8
						 Pilihan Anda · benar	

Jawaban Anda: **7** · **Benar**

Pembahasan.

Pada setiap baris, gambar ketiga adalah gambar pertama dikurangi gambar kedua: bagian yang ada di gambar kedua dihapus dari gambar pertama. Terapkan aturan itu pada dua gambar di baris bawah: hasilnya pilihan **7**.

CONTOH

MATRIKS PROGRESIF · SOAL 31

Soal C7.

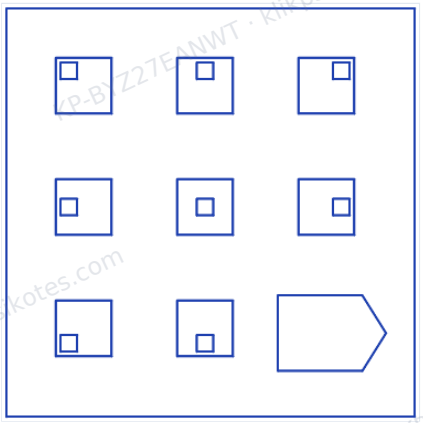

1	2	3	4	5	6	7	8
							
Pilihan Anda · benar							

Jawaban Anda: **1** · **Benar**

Pembahasan.

Di setiap kotak, kotak kecil berada di dalam persegi pada letak yang sama dengan letak kotak itu di dalam matriks: kiri atas di kotak kiri atas, tengah di kotak tengah, dan seterusnya. Kotak kanan bawah berisi kotak kecil di kanan bawah: pilihan **1**.

CONTOH

MATRIKS PROGRESIF · SOAL 32

Soal C8.

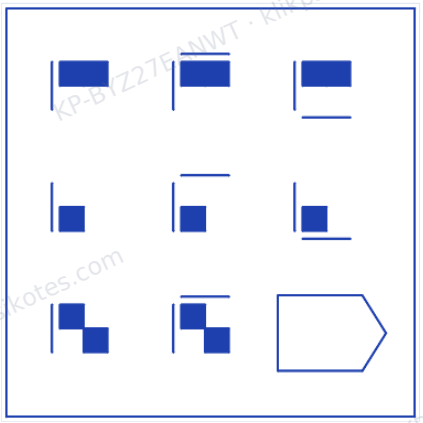

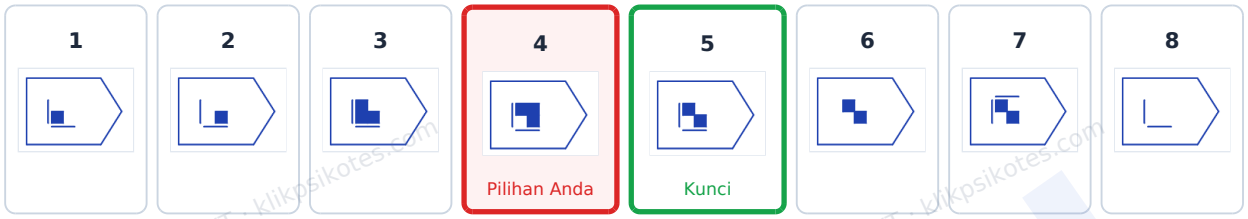

Jawaban Anda: **4** · **Kurang tepat** · Jawaban benar: **5**

Pembahasan.

Setiap kotak adalah gabungan bagian milik barisnya dan bagian milik kolomnya: bagian yang sama muncul di sepanjang baris, dan bagian lain muncul di sepanjang kolom. Kotak kanan bawah menggabungkan bagian baris bawah dan bagian kolom kanan: pilihan **5**.

CONTOH

MATRIKS PROGRESIF · SOAL 33

Soal C9.

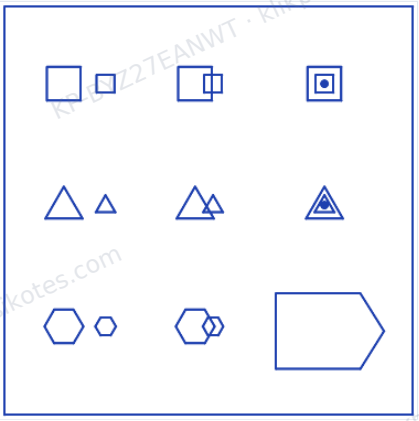

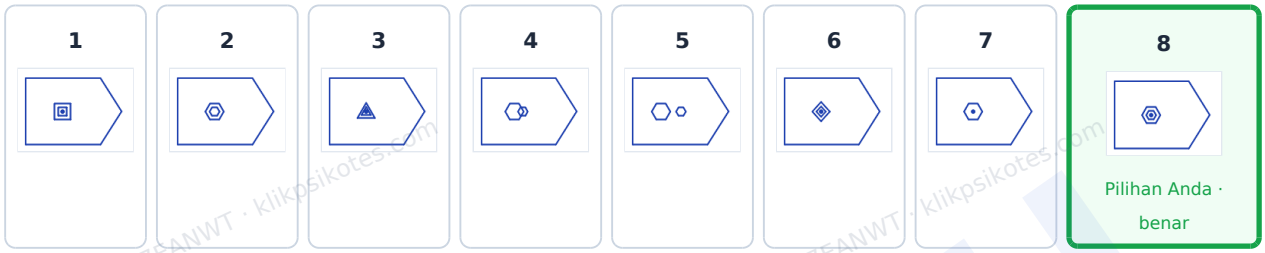

Jawaban Anda: **8** · **Benar**

Pembahasan.

Setiap baris memakai satu bentuk (persegi, segitiga, segi enam). Pada kolom kiri kedua bentuknya terpisah, pada kolom tengah bertumpuk, dan pada kolom kanan yang kecil berada tepat di tengah yang besar dengan sebuah titik. Jadi kotak terakhir berisi dua segi enam bersarang dengan titik: pilihan **8**.

CONTOH

MATRIKS PROGRESIF · SOAL 34

Soal C10.

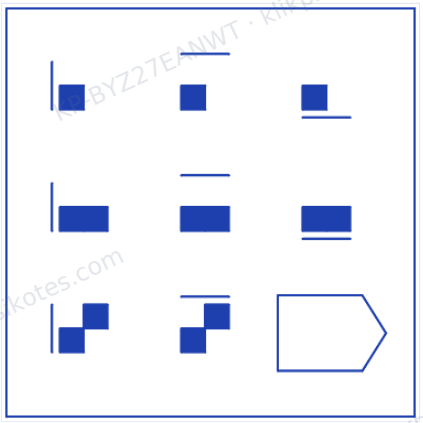



Jawaban Anda: **4** · **Kurang tepat** · Jawaban benar: **8**

Pembahasan.

Setiap kotak adalah gabungan bagian milik barisnya dan bagian milik kolomnya: bagian yang sama muncul di sepanjang baris, dan bagian lain muncul di sepanjang kolom. Kotak kanan bawah menggabungkan bagian baris bawah dan bagian kolom kanan: pilihan **8**.

CONTOH

MATRIKS PROGRESIF · SOAL 35

Soal C11.



1	2	3	4	5	6	7	8
							 Pilihan Anda · benar

Jawaban Anda: **8** · **Benar**

Pembahasan.

Di setiap baris, banyaknya segitiga kecil berkurang satu dari kiri ke kanan: 4, 3, 2 di baris atas; 5, 4, 3 di baris tengah; 6, 5, ... di baris bawah. Kotak terakhir berisi 4 segitiga kecil: pilihan **8**.

CONTOH

MATRIKS PROGRESIF · SOAL 36

Soal C12.

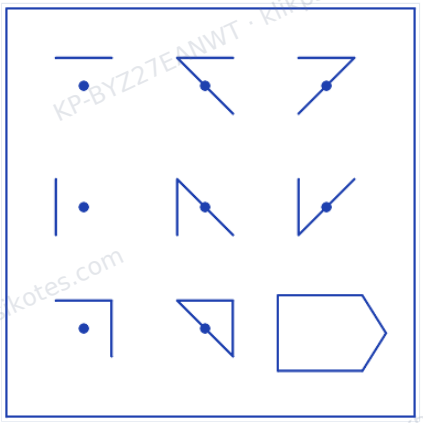

1	2	3	4	5	6	7	8
			 Pilihan Anda · benar				

Jawaban Anda: **4** · **Benar**

Pembahasan.

Setiap kotak adalah gabungan bagian milik barisnya dan bagian milik kolomnya: bagian yang sama muncul di sepanjang baris, dan bagian lain muncul di sepanjang kolom. Kotak kanan bawah menggabungkan bagian baris bawah dan bagian kolom kanan: pilihan **4**.

CONTOH

MATRIKS PROGRESIF · SOAL 37

Soal D1.

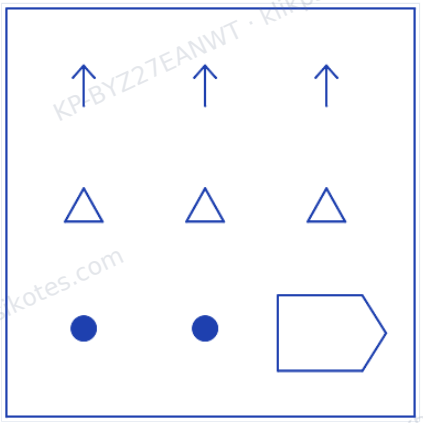

1	2	3	4	5	6	7	8
		 Pilihan Anda · benar					

Jawaban Anda: **3** · **Benar**

Pembahasan.

Setiap baris berisi gambar yang sama tiga kali: anak panah, lalu segitiga, lalu bulatan. Kotak kosong ada di baris bawah, jadi isinya bulatan: pilihan **3**.

CONTOH

MATRIKS PROGRESIF · SOAL 38

Soal D2.

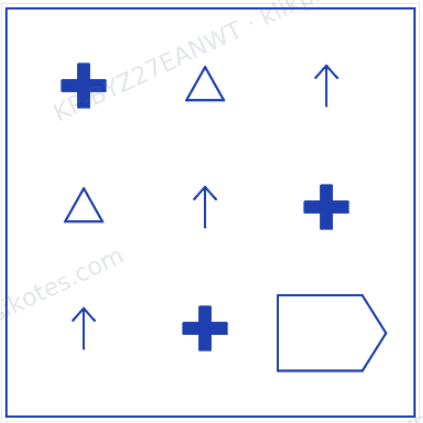

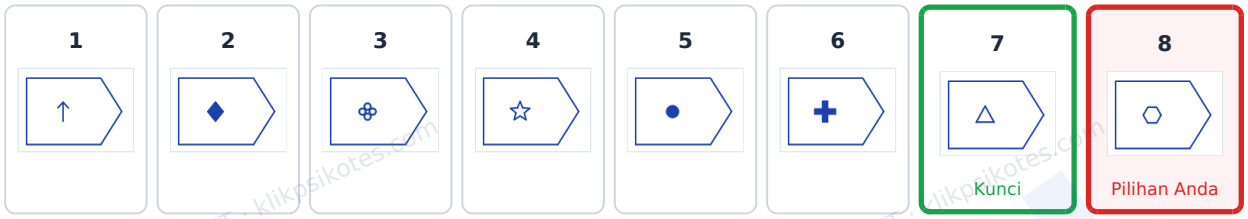

Jawaban Anda: **8** · **Kurang tepat** · Jawaban benar: **7**

Pembahasan.

Ketiga gambar (tanda tambah tebal, segitiga, anak panah) muncul tepat sekali di setiap baris dan setiap kolom, bergeser satu tempat dari baris ke baris. Baris bawah belum memuat segitiga, jadi itulah isi kotak kosong: pilihan **7**.

CONTOH

MATRIKS PROGRESIF · SOAL 39

Soal D3.

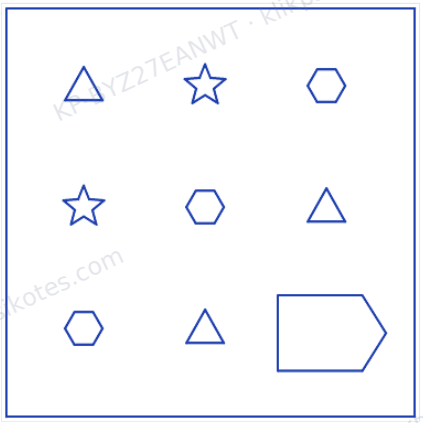

1	2	3	4	5	6	7	8
			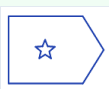 Pilihan Anda · benar	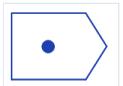			

Jawaban Anda: **4** · **Benar**

Pembahasan.

Ketiga gambar (segitiga, bintang, segi enam) muncul tepat sekali di setiap baris dan setiap kolom, bergeser satu tempat dari baris ke baris. Baris bawah belum memuat bintang, jadi itulah isi kotak kosong: pilihan **4**.

CONTOH

MATRIKS PROGRESIF · SOAL 40

Soal D4.

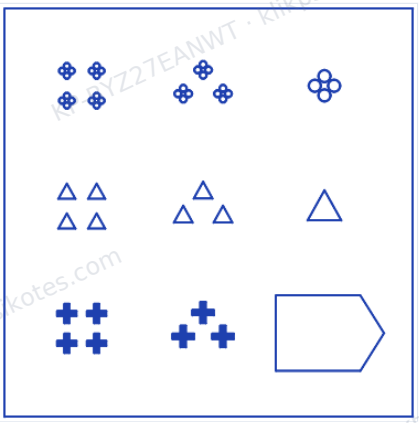

1	2	3	4	5	6	7	8
	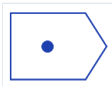				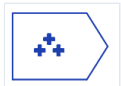	 Pilihan Anda · benar	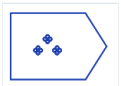

Jawaban Anda: **7** · **Benar**

Pembahasan.

Baris menentukan gambarnya (bunga empat, segitiga, tanda tambah tebal), dan kolom menentukan jumlahnya (empat, tiga, satu). Kotak kanan bawah berisi tanda tambah tebal dengan jumlah satu: pilihan **7**.

CONTOH

MATRIKS PROGRESIF · SOAL 41

Soal D5.

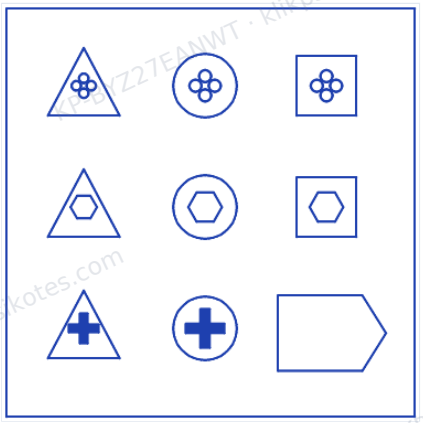

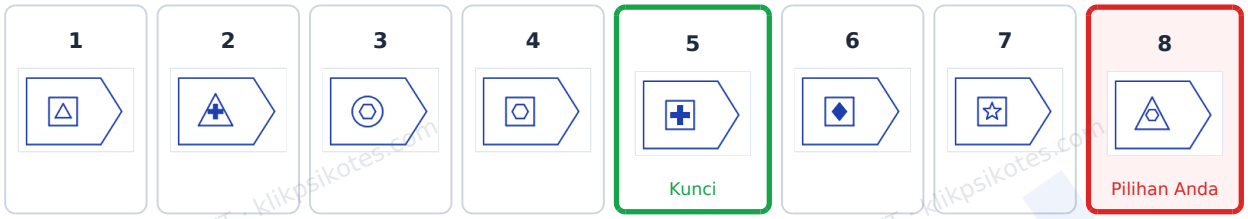

Jawaban Anda: **8** · **Kurang tepat** · Jawaban benar: **5**

Pembahasan.

Baris menentukan gambarnya (bunga empat, segi enam, tanda tambah tebal), dan kolom menentukan bingkainya (bingkai segitiga, bingkai lingkaran, bingkai persegi). Kotak kanan bawah berisi tanda tambah tebal dengan bingkai bingkai persegi: pilihan **5**.

CONTOH

MATRIKS PROGRESIF · SOAL 42

Soal D6.

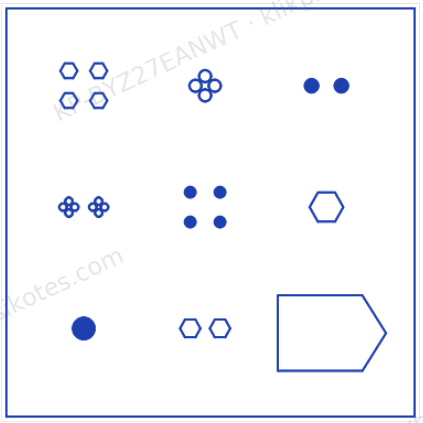

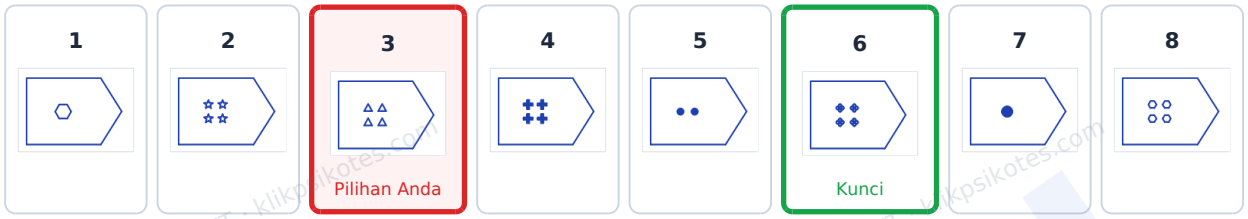

Jawaban Anda: **3** · **Kurang tepat** · Jawaban benar: **6**

Pembahasan.

Ada dua ciri yang masing-masing muncul tepat sekali di setiap baris dan kolom: gambar (segi enam, bunga empat, bulatan) dan jumlah (empat, dua, satu). Baris bawah belum memuat bunga empat dan belum memuat jumlah empat, jadi kotak kosong berisi keduanya: pilihan **6**.

CONTOH

MATRIKS PROGRESIF · SOAL 43

Soal D7.

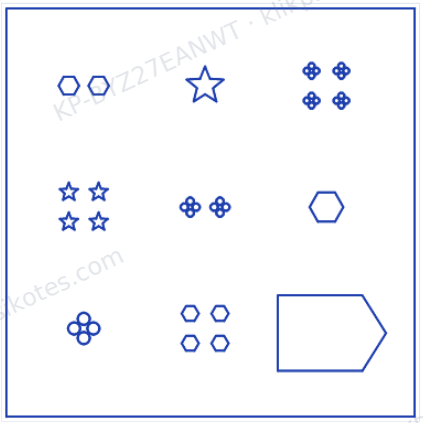

1	2	3	4	5	6	7	8
		 Pilihan Anda · benar					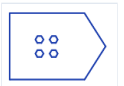

Jawaban Anda: **3** · **Benar**

Pembahasan.

Ada dua ciri yang masing-masing muncul tepat sekali di setiap baris dan kolom: gambar (segi enam, bintang, bunga empat) dan jumlah (dua, empat, satu). Baris bawah belum memuat bintang dan belum memuat jumlah dua, jadi kotak kosong berisi keduanya: pilihan **3**.

CONTOH

MATRIKS PROGRESIF · SOAL 44

Soal D8.

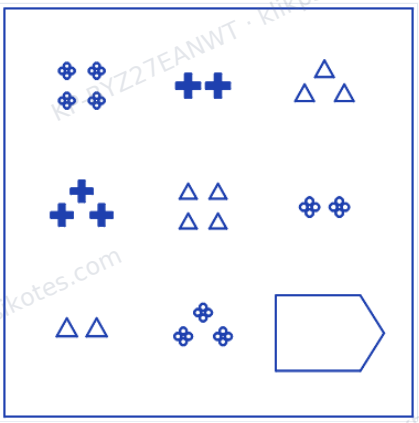

1	2	3	4	5	6	7	8
					 Pilihan Anda · benar		

Jawaban Anda: **6** · **Benar**

Pembahasan.

Ada dua ciri yang masing-masing muncul tepat sekali di setiap baris dan kolom: gambar (bunga empat, tanda tambah tebal, segitiga) dan jumlah (empat, tiga, dua). Baris bawah belum memuat tanda tambah tebal dan belum memuat jumlah empat, jadi kotak kosong berisi keduanya: pilihan **6**.

CONTOH

MATRIKS PROGRESIF · SOAL 45

Soal D9.

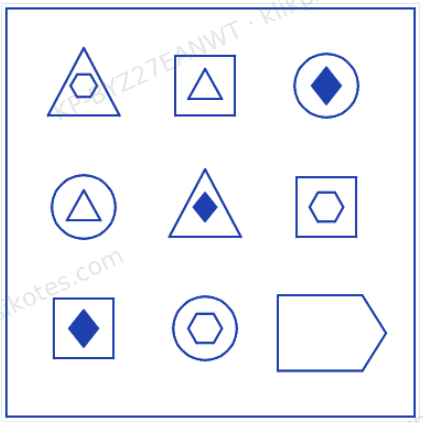

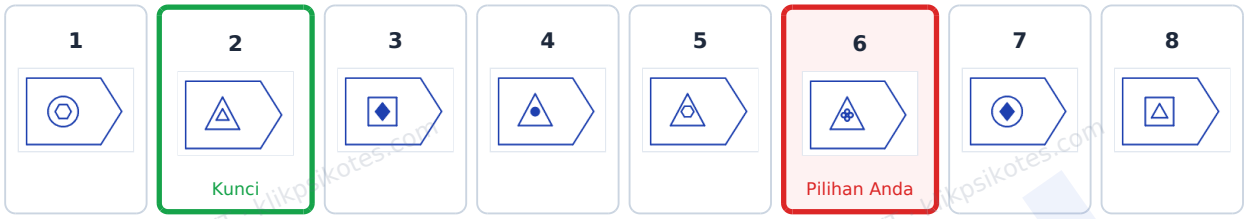

Jawaban Anda: **6** · **Kurang tepat** · Jawaban benar: **2**

Pembahasan.

Ada dua ciri yang masing-masing muncul tepat sekali di setiap baris dan kolom: gambar (segi enam, segitiga, belah ketupat hitam) dan bingkai (bingkai segitiga, bingkai lingkaran, bingkai persegi). Baris bawah belum memuat segitiga dan belum memuat bingkai bingkai segitiga, jadi kotak kosong berisi keduanya: pilihan **2**.

CONTOH
KP-BYZ27EANWT · klikpsikotes.com

MATRIKS PROGRESIF · SOAL 46

Soal D10.

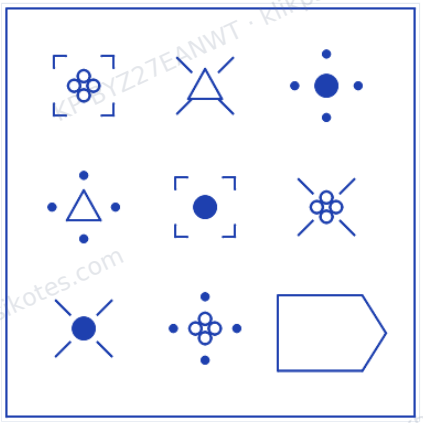

1	2	3	4	5	6	7	8
		 Pilihan Anda · benar	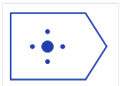				

Jawaban Anda: **3** · **Benar**

Pembahasan.

Ada dua ciri yang masing-masing muncul tepat sekali di setiap baris dan kolom: gambar (bunga empat, segitiga, bulatan) dan hiasan (sudut siku, empat titik, garis silang). Baris bawah belum memuat segitiga dan belum memuat hiasan sudut siku, jadi kotak kosong berisi keduanya: pilihan **3**.

CONTOH

MATRIKS PROGRESIF · SOAL 47

Soal D11.

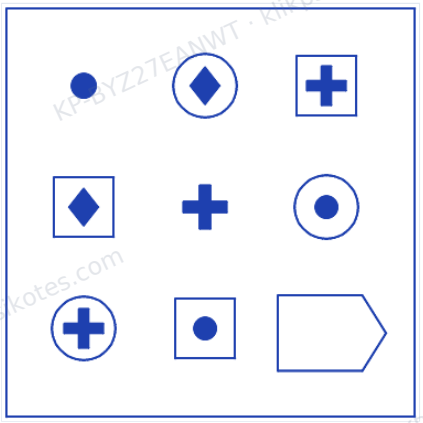

1	2	3	4	5	6	7	8
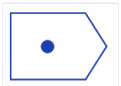		 Pilihan Anda · benar					

Jawaban Anda: **3** · **Benar**

Pembahasan.

Ada dua ciri yang masing-masing muncul tepat sekali di setiap baris dan kolom: gambar (bulatan, belah ketupat hitam, tanda tambah tebal) dan bingkai (tanpa bingkai, bingkai persegi, bingkai lingkaran). Baris bawah belum memuat belah ketupat hitam dan belum memuat bingkai tanpa bingkai, jadi kotak kosong berisi keduanya: pilihan **3**.

CONTOH

MATRIKS PROGRESIF · SOAL 48

Soal D12.

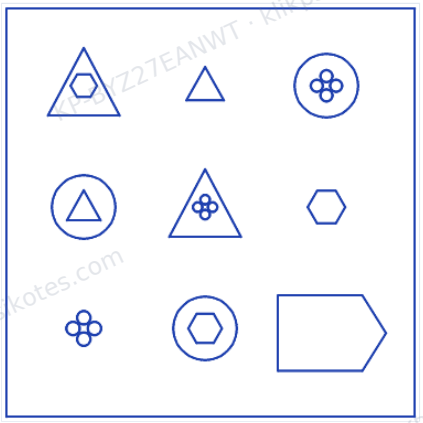

1	2	3	4	5	6	7	8
				 Pilihan Anda · benar			

Jawaban Anda: **5** · **Benar**

Pembahasan.

Ada dua ciri yang masing-masing muncul tepat sekali di setiap baris dan kolom: gambar (segi enam, segitiga, bunga empat) dan bingkai (bingkai segitiga, bingkai lingkaran, tanpa bingkai). Baris bawah belum memuat segitiga dan belum memuat bingkai bingkai segitiga, jadi kotak kosong berisi keduanya: pilihan **5**.

CONTOH

MATRIKS PROGRESIF · SOAL 49

Soal E1.

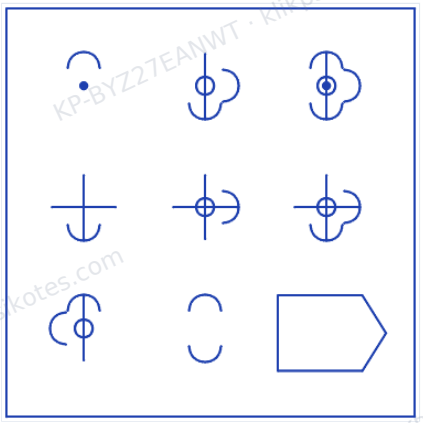

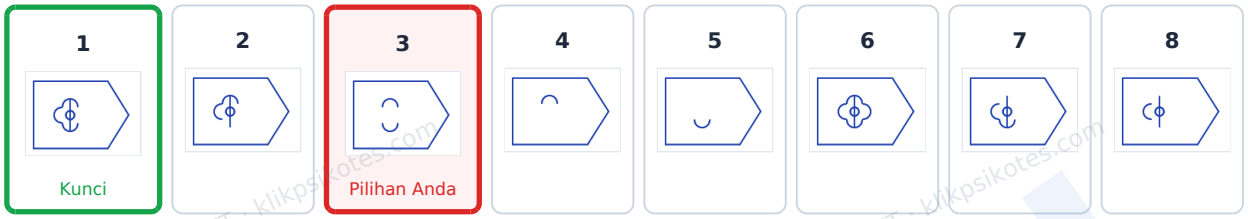

Jawaban Anda: **3** · **Kurang tepat** · Jawaban benar: **1**

Pembahasan.

Pada setiap baris, gambar ketiga adalah gabungan gambar pertama dan kedua: semua bagian keduanya digambar bersama. Terapkan aturan itu pada dua gambar di baris bawah: hasilnya pilihan **1**.

CONTOH

MATRIKS PROGRESIF · SOAL 50

Soal E2.

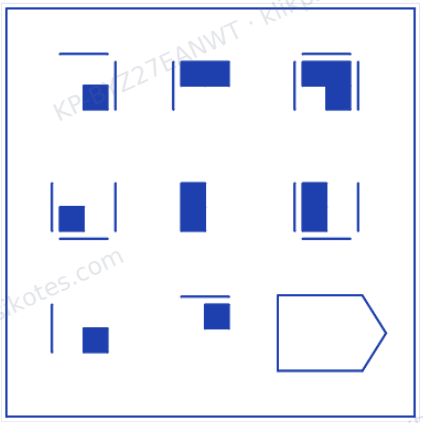

1	2	3	4	5	6	7	8
 Pilihan Anda · benar							

Jawaban Anda: **1** · **Benar**

Pembahasan.

Pada setiap baris, gambar ketiga adalah gabungan gambar pertama dan kedua: semua bagian keduanya digambar bersama. Terapkan aturan itu pada dua gambar di baris bawah: hasilnya pilihan **1**.

CONTOH

MATRIKS PROGRESIF · SOAL 51

Soal E3.

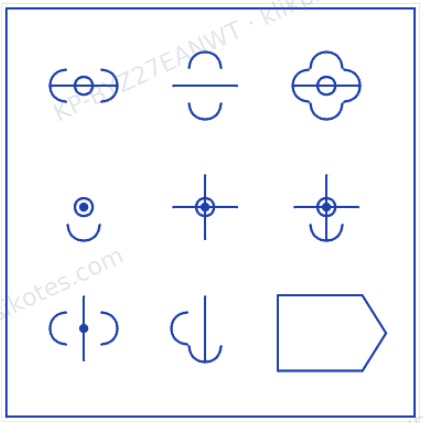

1	2	3	4	5	6	7	8
	 Pilihan Anda · benar						

Jawaban Anda: **2** · **Benar**

Pembahasan.

Pada setiap baris, gambar ketiga adalah gabungan gambar pertama dan kedua: semua bagian keduanya digambar bersama. Terapkan aturan itu pada dua gambar di baris bawah: hasilnya pilihan **2**.

CONTOH

MATRIKS PROGRESIF · SOAL 52

Soal E4.

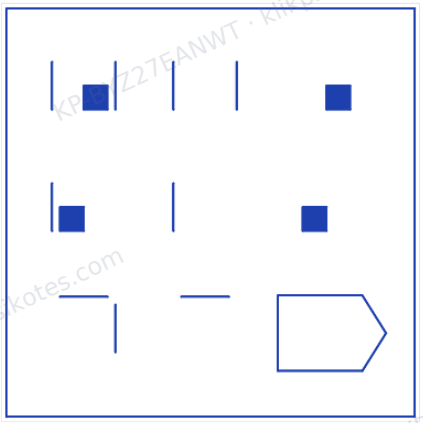

1	2	3	4	5	6	7	8
							
Kunci				Pilihan Anda			

Jawaban Anda: **5** · **Kurang tepat** · Jawaban benar: **1**

Pembahasan.

Pada setiap baris, gambar ketiga adalah gambar pertama dikurangi gambar kedua: bagian yang ada di gambar kedua dihapus dari gambar pertama. Terapkan aturan itu pada dua gambar di baris bawah: hasilnya pilihan **1**.

CONTOH

MATRIKS PROGRESIF · SOAL 53

Soal E5.

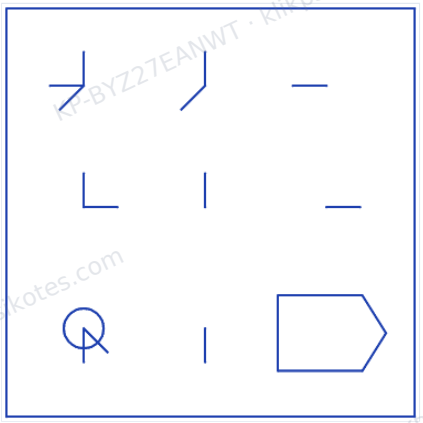

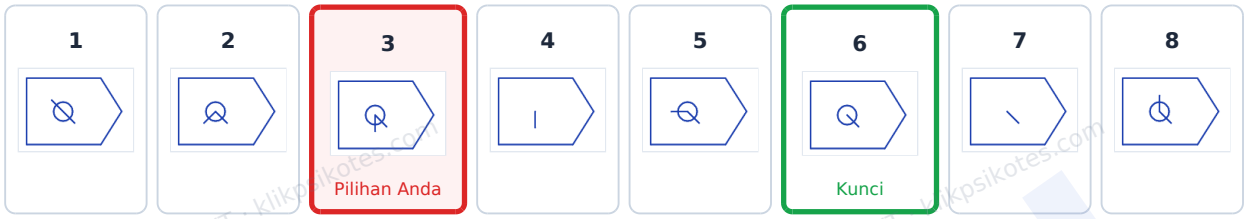

Jawaban Anda: **3** · **Kurang tepat** · Jawaban benar: **6**

Pembahasan.

Pada setiap baris, gambar ketiga adalah gambar pertama dikurangi gambar kedua: bagian yang ada di gambar kedua dihapus dari gambar pertama. Terapkan aturan itu pada dua gambar di baris bawah: hasilnya pilihan **6**.

CONTOH

MATRIKS PROGRESIF · SOAL 54

Soal E6.

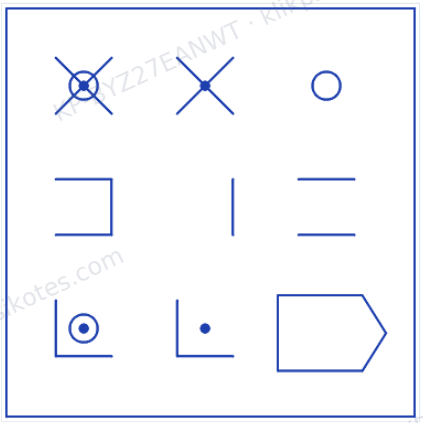

1	2	3	4	5	6	7	8
			 Pilihan Anda · benar				

Jawaban Anda: **4** · **Benar**

Pembahasan.

Pada setiap baris, gambar ketiga adalah gambar pertama dikurangi gambar kedua: bagian yang ada di gambar kedua dihapus dari gambar pertama. Terapkan aturan itu pada dua gambar di baris bawah: hasilnya pilihan **4**.

CONTOH
KP-BYZ27EANWT · klikpsikotes.com

MATRIKS PROGRESIF · SOAL 55

Soal E7.

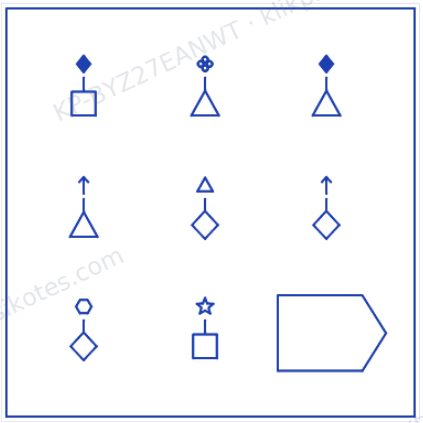

1	2	3	4	5	6	7	8
	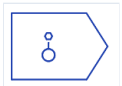				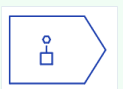 Pilihan Anda · benar		

Jawaban Anda: **6** · **Benar**

Pembahasan.

Pada setiap baris, gambar ketiga memakai bagian atas gambar pertama dan bagian bawah gambar kedua. Di baris bawah, itu berarti segi enam di atas dan persegi di bawah: pilihan **6**.

CONTOH

MATRIKS PROGRESIF · SOAL 56

Soal E8.

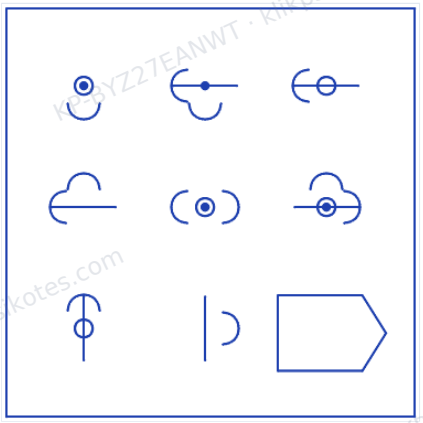

1	2	3	4	5	6	7	8
	 Pilihan Anda · benar	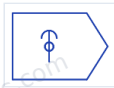					

Jawaban Anda: **2** · **Benar**

Pembahasan.

Pada setiap baris, gambar ketiga adalah gabungan gambar pertama dan kedua tanpa bagian yang dimiliki keduanya: bagian yang sama saling meniadakan. Terapkan aturan itu pada dua gambar di baris bawah: hasilnya pilihan **2**.

CONTOH

MATRIKS PROGRESIF · SOAL 57

Soal E9.

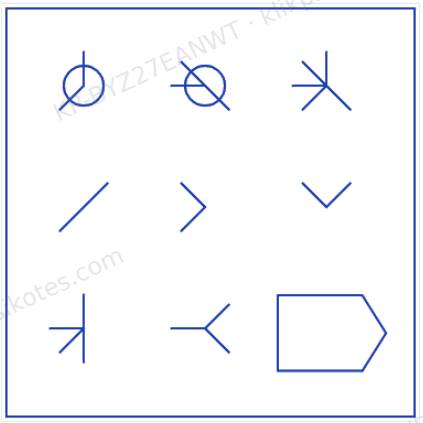

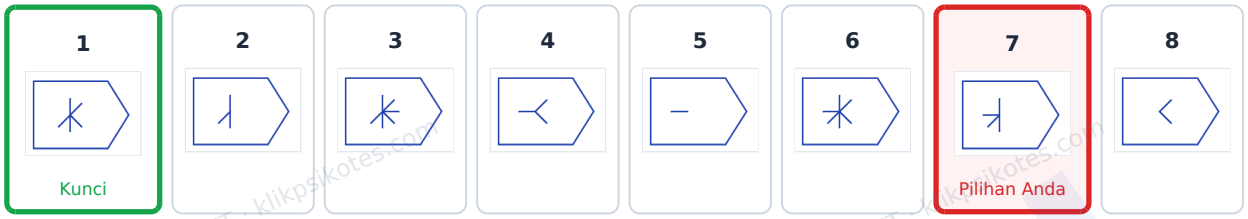

Jawaban Anda: **7** · **Kurang tepat** · Jawaban benar: **1**

Pembahasan.

Pada setiap baris, gambar ketiga adalah gabungan gambar pertama dan kedua tanpa bagian yang dimiliki keduanya: bagian yang sama saling meniadakan. Terapkan aturan itu pada dua gambar di baris bawah: hasilnya pilihan **1**.

CONTOH

MATRIKS PROGRESIF · SOAL 58

Soal E10.

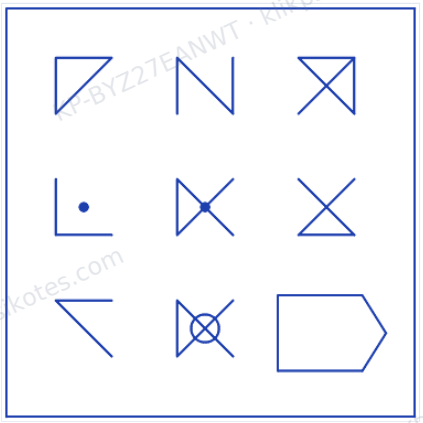

1	2	3	4	5	6	7	8
				 Pilihan Anda · benar			

Jawaban Anda: **5** · **Benar**

Pembahasan.

Pada setiap baris, gambar ketiga adalah gabungan gambar pertama dan kedua tanpa bagian yang dimiliki keduanya: bagian yang sama saling meniadakan. Terapkan aturan itu pada dua gambar di baris bawah: hasilnya pilihan **5**.

CONTOH

MATRIKS PROGRESIF · SOAL 59

Soal E11.

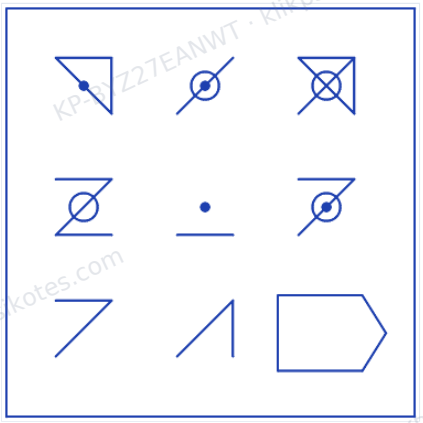

1	2	3	4	5	6	7	8
			 Pilihan Anda · benar				

Jawaban Anda: **4** · **Benar**

Pembahasan.

Pada setiap baris, gambar ketiga adalah gabungan gambar pertama dan kedua tanpa bagian yang dimiliki keduanya: bagian yang sama saling meniadakan. Terapkan aturan itu pada dua gambar di baris bawah: hasilnya pilihan **4**.

CONTOH

MATRIKS PROGRESIF · SOAL 60

Soal E12.

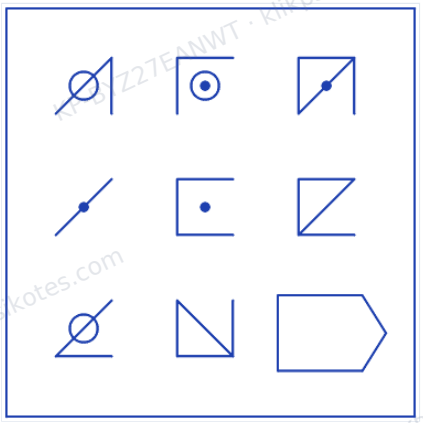

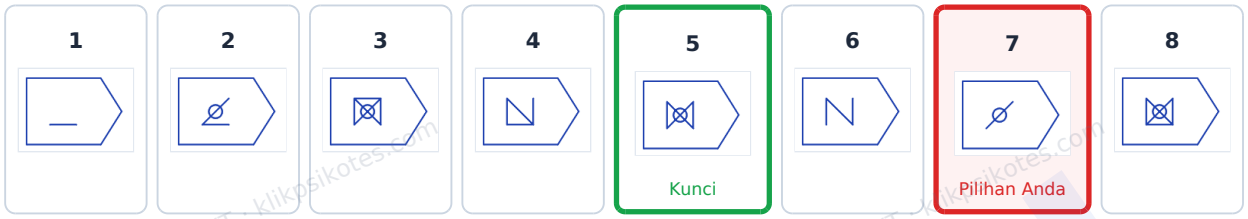

Jawaban Anda: **7** · **Kurang tepat** · Jawaban benar: **5**

Pembahasan.

Pada setiap baris, gambar ketiga adalah gabungan gambar pertama dan kedua tanpa bagian yang dimiliki keduanya: bagian yang sama saling meniadakan. Terapkan aturan itu pada dua gambar di baris bawah: hasilnya pilihan **5**.

07 Catatan dan keabsahan

Dasar perhitungan dan batas penggunaan laporan.

Laporan ini disusun otomatis dari jawaban peserta pada Latihan Tes Matriks Progresif (model SPM). Skor dihitung otomatis dengan norma spm-workbook, dan dapat dipakai sebagai bahan belajar dan refleksi diri. Laporan ini bukan hasil asesmen psikologis resmi dan tidak menggantikan pemeriksaan oleh psikolog berizin.

No. laporan KP-BYZ27EANWT

Dihasilkan oleh KlikPsikotes pada 28 Oktober 2026, 12.54 WIB.

Sebutkan nomor ini bila perlu menanyakan laporan.

Latihan lagi?

Tes lain dan laporan lengkap ada di **klikpsikotes.com**