KlikPsikotes

No. laporan
KP-JQ3G85V5SW

LAPORAN HASIL TES

Psikotes TNI-Polri

Tes kognitif

CONTOH · peserta fiktif

DISUSUN UNTUK

Peserta Contoh

TANGGAL TES	MODE	SOAL TERJAWAB
23 November 2026	Latihan	160 dari 160

Tentang laporan ini

Untuk siapa laporan ini dan cara membacanya.

Terima kasih telah mengerjakan **Psikotes TNI-Polri**. Laporan ini merangkum hasil Anda: skor, kategorinya, dan penjelasan setiap aspek. Skor dihitung otomatis dari jawaban Anda dengan kunci dan norma dari sumber tes.

IDENTITAS PESERTA

Nama lengkap **Peserta Contoh**	Email **peserta.contoh@example.com**
Usia saat tes **26 tahun**	Jenis kelamin **Perempuan**
Pendidikan terakhir **Sarjana (D4/S1)**	Tes **Psikotes TNI-Polri (TNIPOLRI)**
Waktu selesai **23 November 2026, 16.54 WIB**	Lama pengerjaan **1 jam 8 menit 0 detik**
Soal terjawab **160 dari 160 soal**	

CARA MEMBACA LAPORAN

1. **Mulai dari ringkasan**
   Hasil utama dan kategorinya.
2. **Skor baku dan mentah**
   Baku dibandingkan norma; mentah adalah jumlah jawaban yang dinilai.
3. **Kategori**
   Posisi skor pada pita dari sumber tes.
4. **Gambaran saat ini**
   Kondisi saat tes, bukan label permanen.

CONTOH

Isi laporan

01 Ringkasan hasil
02 Rincian skor
03 Analisis Coach AI
04 Pembahasan soal
05 Catatan dan keabsahan

CONTOH
KP-JQ3G85V5SW · klikpsikotes.com

01 Ringkasan hasil

Hasil utama dan apa artinya secara singkat.

RINGKASAN

Skor keseluruhan 115. Skor aspek tertinggi: Tes Kemampuan Numerik (18).

Skor tertinggi

- **Tes Kemampuan Numerik 18**
- **Tes Kecermatan dan Ketelitian 15**
- **Tes Kemampuan Verbal 14**

Skor terendah

- **Wawasan Kebangsaan 13**
- **Bahasa Inggris 13**
- **Tes Kemampuan Verbal 14**

02 Rincian skor

Skor setiap aspek beserta kategorinya.

ASPEK	SKOR	KATEGORI
Tes Kemampuan Verbal	**14** mentah 14	–
Tes Kemampuan Numerik	**18** mentah 18	–
Tes Penalaran Logis	**14** mentah 14	–
Tes Penalaran Gambar	**14** mentah 14	–
Tes Kecermatan dan Ketelitian	**15** mentah 15	–
Wawasan Kebangsaan	**13** mentah 13	–
Bahasa Indonesia	**14** mentah 14	–

CONTOH

ASPEK	SKOR	KATEGORI
Bahasa Inggris	**13** mentah 13	–
Total jawaban benar	**115** mentah 115	–

03 Analisis Coach AI

Kekuatan, hal yang bisa dikembangkan, dan rencana latihan.

Numerik menjadi aspek tertinggi dalam latihan Psikotes TNI-Polri Anda

SKOR TOTAL	TERTINGGI	PERLU DILATIH
115 dari 160 jawaban benar	**Kemampuan Numerik: 18 dari 20**	**Wawasan Kebangsaan dan Bahasa Inggris: 13**

Pada latihan TNIPOLRI, skor total Anda **115** dan seluruh 160 soal terjawab dalam 68 menit. Numerik merupakan aspek tertinggi; Wawasan Kebangsaan dan Bahasa Inggris memperoleh skor terendah, masing-masing 13.

Kekuatan Anda

Kemampuan numerik

Skor **18 dari 20** adalah yang tertinggi di antara aspek yang tercantum. Pertahankan dengan latihan hitungan dan deret angka.

Kecermatan

Tes Kecermatan dan Ketelitian mendapat skor **15**, sedikit di atas beberapa aspek lain.

Penyelesaian soal

Anda menjawab **160 dari 160 soal** dan tidak kehabisan waktu dalam latihan ini.

Bisa dikembangkan

Wawasan Kebangsaan

Skor 13 termasuk yang terendah dalam hasil ini.

Coba: Luangkan 15 menit untuk meninjau materi wawasan kebangsaan, lalu jawab beberapa soal latihan.

Bahasa Inggris

Skor 13 menunjukkan area ini layak mendapat latihan tambahan.

Coba: Latih kosakata dan pemahaman bacaan singkat dalam Bahasa Inggris.

Verbal dan logika

Tes Kemampuan Verbal dan Penalaran Logis sama-sama mendapat skor 14.

Coba: Latih soal padanan kata, pemahaman kalimat, dan pola logika sambil mencatat jenis soal yang keliru.

Rencana latihan 7 hari

Hari 1	Tinjau kembali soal Wawasan Kebangsaan dan Bahasa Inggris yang keliru, lalu catat pola kesalahannya. **Buka tes ›**
Hari 2–3	Kerjakan Tes SKD CPNS untuk berlatih TWK dan TIU; bagian TWK memberi latihan tambahan yang sesuai dengan skor Wawasan Kebangsaan Anda. **Buka tes ›**
Hari 4–5	Kerjakan Tes Kemampuan Umum untuk melatih soal kata, angka, logika, dan gambar dalam batas waktu. **Buka tes ›**
Hari 6–7	Ulangi latihan TNIPOLRI dengan tempo terukur, lalu bandingkan skor tiap aspek dengan hasil sebelumnya. **Buka tes ›**

Hasil ini merupakan latihan, bukan penilaian psikologis resmi atau kesimpulan tentang kelayakan kerja maupun kelulusan seleksi. Analisis ini dibuat dengan bantuan AI dari skor di atas, bukan oleh psikolog.

CONTOH

04 Pembahasan soal

Jawaban benar dan pembahasan yang disetujui.

TES KEMAMPUAN VERBAL · SOAL 29

Pilihlah lawan kata dari kata yang dicetak dengan huruf kapital. STAGNAN ><

A. Jumud **B.** Dinamis (pilihan Anda) (kunci) **C.** Pasif **D.** Stasioner **E.** Statis

Jawaban Anda: **B. Dinamis** · **Benar**

Pembahasan.
"Stagnan" memiliki arti 'dalam keadaan terhenti'. Kata "stagnan" memiliki lawan kata dinamis.

TES KEMAMPUAN VERBAL · SOAL 59

Sebuah kapal riset laut dalam membawa perangkat yang disesuaikan dengan kegiatan pemetaan bawah air. Sonar digunakan untuk mengukur kedalaman dan menggambarkan kontur dasar laut, sementara kamera bawah air merekam keadaan di sekitar lokasi pengamatan. Awak kapal juga membawa sensor suhu dan salinitas untuk mengumpulkan data perairan. Untuk keperluan keselamatan, kapal memiliki sekoci dan radio komunikasi darurat. Di geladak, kapal tersebut dilengkapi meriam suar yang dapat digunakan untuk mengirimkan tanda visual saat kondisi mendung atau berkabut. Peralatan penelitian disimpan terpisah dari perlengkapan keselamatan dan perangkat isyarat. Catatan ekspedisi menegaskan bahwa meriam suar merupakan satu-satunya persenjataan yang disebut terpasang di geladak kapal. Perlengkapan yang disebut sebagai persenjataan terpasang di geladak kapal riset tersebut adalah ...

A. Meriam suar untuk mengirimkan tanda visual. (pilihan Anda) (kunci) **B.** Sonar untuk memetakan kontur dasar laut. **C.** Kamera bawah air untuk merekam lokasi pengamatan. **D.** Sensor suhu dan salinitas untuk mengumpulkan data. **E.** Sekoci dan radio komunikasi untuk keselamatan.

Jawaban Anda: **A. Meriam suar untuk mengirimkan tanda visual.** · **Benar**

Pembahasan.
Bacaan secara tersurat menyatakan bahwa meriam suar merupakan persenjataan yang terpasang di geladak kapal. Perangkat lainnya berfungsi untuk penelitian, komunikasi, atau keselamatan, sehingga jawabannya adalah **A. Meriam suar untuk mengirimkan tanda visual**.

TES KEMAMPUAN VERBAL · SOAL 63

Di Kota Puspa, inflasi pada September tercatat 0,32 persen, sementara Indeks Harga Konsumen mencapai 113,08. Dari enam kota yang dipantau, Puspa menempati posisi keempat dalam besarnya inflasi. Harga beberapa kebutuhan, seperti ikan, telur, dan tepung, mengalami kenaikan. Namun, harga jeruk, kentang, dan sejumlah sayuran turun dibandingkan bulan sebelumnya. Sumbangan inflasi menurut kelompok pengeluaran juga bervariasi. Kelompok makanan memberikan sumbangan sebesar 0,138 persen, disusul kelompok makanan jadi sebesar 0,052 persen. Kelompok perumahan, air, dan energi menyumbang 0,033 persen, sedangkan kelompok sandang menyumbang 0,021 persen. Sumbangan dari kelompok kesehatan tercatat 0,006 persen. Kelompok transportasi menyumbang 0,014 persen. Angka-angka tersebut menggambarkan kontribusi masing-masing kelompok terhadap inflasi di kota itu pada bulan September. Berapakah sumbangan inflasi kelompok kesehatan, transportasi, dan perumahan secara berurutan?

A. 0,033%, 0,021%, 0,006% **B.** 0,006%, 0,014%, 0,021% **C.** 0,014%, 0,006%, 0,033% **D.** 0,021%, 0,033%, 0,014% **E.** 0,006%, 0,014%, 0,033% (pilihan Anda) (kunci)

Jawaban Anda: **E. 0,006%, 0,014%, 0,033%** · **Benar**

Pembahasan.
Menurut bacaan, kelompok kesehatan menyumbang 0,006 persen, transportasi 0,014 persen, dan perumahan 0,033 persen. Dengan demikian, jawaban yang benar adalah **E. 0,006%, 0,014%, 0,033%**.

TES KEMAMPUAN VERBAL · SOAL 142

Pilihlah sinonim (persamaan kata) dari kata pada soal berikut. Akurat = ...

A. terperinci **B.** teratur **C.** tepat (pilihan Anda) (kunci) **D.** terkenal **E.** terukur

Jawaban Anda: **C. tepat** · **Benar**

Pembahasan.
Akurat berarti tepat atau sesuai dengan keadaan yang sebenarnya. Jadi, jawaban yang benar adalah **C. tepat**.

TES KEMAMPUAN VERBAL · SOAL 149

Pilihlah antonim (lawan kata) dari kata pada soal berikut. TINGGI >< ....

A. panjang **B.** besar **C.** luas **D.** jauh **E.** rendah (pilihan Anda) (kunci)

Jawaban Anda: **E. rendah** · **Benar**

Pembahasan.
Antonim TINGGI adalah kata yang menyatakan posisi atau ukuran yang berlawanan, yaitu **E. rendah**.

TES KEMAMPUAN VERBAL · SOAL 171

Pilihlah antonim (lawan kata) dari kata pada soal berikut. LENGANG >< ....

A. sunyi **B.** hening (pilihan Anda) **C.** ramai (kunci) **D.** sepi **E.** senyap

Jawaban Anda: **B. hening** · **Kurang tepat** · Jawaban benar: **C. ramai**

Pembahasan.
Lengang berarti sepi atau tidak ramai. Antonimnya adalah **C. ramai**.

TES KEMAMPUAN VERBAL · SOAL 323

Pilihlah jawaban yang merupakan LAWAN KATA dari kata yang dicetak dengan huruf kapital.
MUNDUR

A. Surut **B.** Berbalik **C.** Kembali **D.** Menjauh **E.** Maju (pilihan Anda) (kunci)

Jawaban Anda: **E. Maju** · **Benar**

Pembahasan.
Mundur berarti bergerak ke belakang atau ke arah yang berlawanan dengan maju. Jadi, lawan kata yang tepat adalah **E. Maju**.

CONTOH

TES KEMAMPUAN VERBAL · SOAL 335

Pilihlah jawaban yang merupakan LAWAN KATA dari kata yang dicetak dengan huruf kapital. LENTUR

A. Kenyal **B.** Kaku (kunci) **C.** Lembut (pilihan Anda) **D.** Elastis **E.** Fleksibel

Jawaban Anda: **C. Lembut** · **Kurang tepat** · Jawaban benar: **B. Kaku**

Pembahasan.
Lentur berarti mudah dibengkokkan atau tidak kaku. Lawan katanya adalah kaku, sehingga jawabannya **B. Kaku**.

TES KEMAMPUAN VERBAL · SOAL 343

Pilihlah jawaban yang mempunyai PADANAN HUBUNGAN YANG PALING SERUPA dengan pasangan kata yang dicetak dengan huruf kapital. LUMEN : FLUKS CAHAYA = ... : ...

A. Liter : massa **B.** Kecepatan : meter (pilihan Anda) **C.** Newton : energi **D.** Joule : suhu **E.** Ohm : hambatan listrik (kunci)

Jawaban Anda: **B. Kecepatan : meter** · **Kurang tepat** · Jawaban benar: **E. Ohm : hambatan listrik**

Pembahasan.
Lumen merupakan satuan untuk menyatakan fluks cahaya. Hubungan yang sepadan adalah ohm sebagai satuan hambatan listrik, sehingga jawabannya **E. Ohm : hambatan listrik**.

TES KEMAMPUAN VERBAL · SOAL 355

Pilihlah jawaban yang mempunyai PADANAN HUBUNGAN YANG PALING SERUPA dengan pasangan kata yang dicetak dengan huruf kapital. KETIDAKPASTIAN : KEPASTIAN = ... : ...

A. Keraguan : pertanyaan **B.** Ketidakteraturan : keteraturan (pilihan Anda) (kunci) **C.** Keyakinan : kepercayaan **D.** Kekaburan : bayangan **E.** Kepatuhan : perintah

Jawaban Anda: **B. Ketidakteraturan : keteraturan** · **Benar**

Pembahasan.
Ketidakpastian dan kepastian merupakan dua keadaan yang berlawanan makna. Pasangan dengan hubungan serupa adalah **B. Ketidakteraturan : keteraturan**.

TES KEMAMPUAN VERBAL · SOAL 369

Pilihlah jawaban yang mempunyai PADANAN HUBUNGAN YANG PALING SERUPA dengan pasangan kata yang dicetak dengan huruf kapital. PELANGGAN : ROTI : TOKO ROTI = ... : ... : ...

A. Petani : Padi : Sawah **B.** Penumpang : Kereta : Rel **C.** Koki : Masakan : Dapur **D.** Penyewa : Rumah : Pemilik **E.** Pengunjung : Buku : Perpustakaan (pilihan Anda) (kunci)

Jawaban Anda: **E. Pengunjung : Buku : Perpustakaan** · **Benar**

Pembahasan.
Pelanggan memperoleh roti di toko roti. Hubungan serupa terdapat pada pengunjung yang memperoleh atau membaca buku di perpustakaan, sehingga jawabannya **E. Pengunjung : Buku : Perpustakaan**.

TES KEMAMPUAN VERBAL · SOAL 391

Pilihlah satu kata yang tidak termasuk dalam kelompoknya!

A. Asma **B.** Altruisme (kunci) **C.** Bronkitis (pilihan Anda) **D.** Influenza **E.** Pneumonia

Jawaban Anda: **C. Bronkitis** · **Kurang tepat** · Jawaban benar: **B. Altruisme**

Pembahasan.
Empat pilihan merupakan penyakit atau gangguan yang menyerang sistem pernapasan, sedangkan altruisme adalah sikap peduli terhadap kepentingan orang lain. Jadi, **B. Altruisme** tidak termasuk dalam kelompok tersebut.

TES KEMAMPUAN VERBAL · SOAL 412

Pilihlah satu kata yang tidak termasuk dalam kelompoknya!

A. Persegi **B.** Segitiga **C.** Tembaga (pilihan Anda) (kunci) **D.** Lingkaran **E.** Trapesium

Jawaban Anda: **C. Tembaga** · **Benar**

Pembahasan.
Persegi, segitiga, lingkaran, dan trapesium termasuk bangun datar. **C. Tembaga** tidak termasuk kelompok tersebut karena merupakan nama logam.

CONTOH

TES KEMAMPUAN VERBAL · SOAL 421

Pilihlah jawaban yang mempunyai arti SAMA atau PALING DEKAT dengan kata yang dicetak dengan huruf kapital. MUBAZIR = ...

A. Mewah **B.** Cermat **C.** Sia-sia (pilihan Anda) (kunci) **D.** Hemat **E.** Sederhana

Jawaban Anda: **C. Sia-sia** · **Benar**

Pembahasan.
Mubazir berarti terbuang percuma atau tidak berguna. Dengan demikian, sinonim yang paling tepat adalah **C. Sia-sia**.

TES KEMAMPUAN VERBAL · SOAL 430

Pilihlah jawaban yang mempunyai arti SAMA atau PALING DEKAT dengan kata yang dicetak dengan huruf kapital. KONKLUSI = ...

A. Rangkaian alasan untuk mendukung pendapat **B.** Simpulan yang ditarik dari uraian atau pembahasan (kunci) **C.** Pokok persoalan yang sedang diperdebatkan **D.** Pernyataan awal yang perlu dibuktikan (pilihan Anda) **E.** Penjelasan tambahan atas suatu istilah

Jawaban Anda: **D. Pernyataan awal yang perlu dibuktikan** · **Kurang tepat** · Jawaban benar: **B. Simpulan yang ditarik dari uraian atau pembahasan**

Pembahasan.
Konklusi berarti kesimpulan atau simpulan yang diperoleh dari suatu uraian atau penalaran. Jadi, jawaban yang tepat adalah **B. Simpulan yang ditarik dari uraian atau pembahasan**.

TES KEMAMPUAN VERBAL · SOAL 488

Pilihlah jawaban yang merupakan LAWAN KATA dari kata yang dicetak dengan huruf kapital. RAMAI

A. Gaduh **B.** Riuh (pilihan Anda) **C.** Meriah **D.** Padat **E.** Lengang (kunci)

Jawaban Anda: **B. Riuh** · **Kurang tepat** · Jawaban benar: **E. Lengang**

Pembahasan.
Ramai berarti banyak orang atau riuh, sedangkan lengang berarti sepi atau tidak ramai. Jadi, jawaban yang tepat adalah **E. Lengang**.

TES KEMAMPUAN VERBAL · SOAL 546

Pilihlah satu kata yang tidak termasuk dalam kelompoknya!

A. Lingkaran **B.** Nila (pilihan Anda) (kunci) **C.** Persegi **D.** Segitiga **E.** Trapesium

Jawaban Anda: **B. Nila** · **Benar**

Pembahasan.
Lingkaran, persegi, segitiga, dan trapesium merupakan bentuk geometri, sedangkan nila merupakan warna. Jadi, jawaban yang tepat adalah **B. Nila**.

TES KEMAMPUAN NUMERIK · SOAL 12

Hasil dari √576 + 180 ÷ 20 + 28 × 7 – 4 adalah ...

A. 13^2 **B.** 15^2 (pilihan Anda) (kunci) **C.** 17^2 **D.** 19^2

Jawaban Anda: **B. 15^2** · **Benar**

Pembahasan.
Kerjakan akar, pembagian, dan perkalian terlebih dahulu: √576 = 24, 180 ÷ 20 = 9, dan 28 × 7 = 196. Jadi, 24 + 9 + 196 – 4 = 225 = 15^2. Jawabannya **B. 15^2**.

TES KEMAMPUAN NUMERIK · SOAL 47

Jika p + q = 7 dan p^q = 32, maka ...

A. p – q > 0 **B.** p – q < 0 (pilihan Anda) (kunci) **C.** p – q = 0 **D.** p dan q tidak bisa ditentukan

Jawaban Anda: **B. p – q \< 0** · **Benar**

Pembahasan.
Jika nilai p^q = 32
Maka nilai:
p = 2
q = 5
p – q = 2 – 5 = –3
Jadi, p – q < 0.

CONTOH

TES KEMAMPUAN NUMERIK · SOAL 73

Lanjutkan deret angka dan huruf berikut! 3, 27, 7, 23, 11, 19, 15, 15, 19, ...

A. 13 **B.** 7 **C.** 25 **D.** 11 (pilihan Anda) (kunci)

Jawaban Anda: **D. 11** · **Benar**

Pembahasan.
Deret ini terdiri atas dua pola berselang-seling. Angka pada posisi ganjil bertambah 4, sedangkan angka pada posisi genap berkurang 4; maka setelah 19 pada posisi genap, suku berikutnya adalah 15 − 4 = **D. 11**.

TES KEMAMPUAN NUMERIK · SOAL 100

Tentukan KPK dari 14, 20, dan 35.

A. 70 **B.** 280 **C.** 140 (pilihan Anda) (kunci) **D.** 420

Jawaban Anda: **C. 140** · **Benar**

Pembahasan.
Faktorisasi prima 14 = 2 × 7, 20 = 2^2 × 5, dan 35 = 5 × 7. KPK = 2^2 × 5 × 7 = 140, jadi jawabannya **C. 140**.

TES KEMAMPUAN NUMERIK · SOAL 112

Hasil dari perkalian 5 1/6 × 2/5 = ...

A. 3 1/15 **B.** 5 1/12 **C.** 2 1/15 (pilihan Anda) (kunci) **D.** 4 1/12

Jawaban Anda: **C. 2 1/15** · **Benar**

Pembahasan.
5 1/6 × 2/5 = 31/6 × 2/5 = 62/30 = 31/15 = 2 1/15
Jawaban: C

CONTOH

TES KEMAMPUAN NUMERIK · SOAL 132

Terdapat 2 kelompok bermain anak, kelompok pertama terdiri atas 4 orang anak dan kelompok kedua terdiri atas 6 orang anak. Usia rata-rata anak kelompok pertama adalah 6 tahun sedangkan kelompok kedua adalah 6,5 tahun. Apabila satu dari masing-masing kelompok anak ditukar maka rata-rata 2 kelompok tersebut adalah sama. Berapa tahunkan selisih kedua anak yang ditukar?..

A. 1,2 tahun (pilihan Anda) (kunci) **B.** 12 bulan **C.** 0,5 tahun **D.** 5 bulan

Jawaban Anda: **A. 1,2 tahun** · **Benar**

Pembahasan.

A. 1,2 tahun

Na = 4 rata-rata A = 6, ∑a = 24

Nb = 6 rata-rata B = 6,5 ∑b = 39

Missal anak kelompok A= x dan anak kelompok B= y

(∑a – x + y)/4 = (∑b + x – y)/6

(∑a – x + y)/2 = (∑b + x – y)/3

3(∑a – x + y) = 2(∑b + x – y)

3(24 – x + y) = 2(39 + x – y)

72 – 3x + 3y = 78 + 2x – 2y

5x – 5y = 6

x – y = 1,2

CONTOH

TES KEMAMPUAN NUMERIK · SOAL 135

Ibu membeli 7 apel, 5 jeruk dan 3 jambu. Ibu ingin membeli buah lagi dengan perbandingan keseluruhan buah yang dimiliki dengan jambu sebanyak 3:1. Maka ibu harus membeli buah jambu lagi sebanyak ... buah

A. 8 **B.** 3 (pilihan Anda) (kunci) **C.** 2 **D.** 4

Jawaban Anda: **B. 3** · **Benar**

Pembahasan.
B. 3
Misal x adalah banyaknya jambu yang dibeli Ibu.
(7 + 5 + 3 + x)/(3 + x) = 3/1
15 + x = 3(3 + x)
15 + x = 9 + 3x
x = 3

TES KEMAMPUAN NUMERIK · SOAL 206

Di sebuah kelompok terdapat 52 peserta. Sebanyak 27 peserta mengikuti latihan renang, 20 peserta mengikuti latihan lari, dan 8 peserta mengikuti kedua latihan tersebut. Berapa peserta yang tidak mengikuti latihan renang maupun latihan lari?

A. 13 peserta (pilihan Anda) (kunci) **B.** 11 peserta **C.** 15 peserta **D.** 9 peserta

Jawaban Anda: **A. 13 peserta** · **Benar**

Pembahasan.
Jumlah peserta yang mengikuti setidaknya satu latihan adalah 27 + 20 − 8 = 39 peserta. Jadi, yang tidak mengikuti kedua latihan tersebut adalah 52 − 39 = 13 peserta. Jawaban yang benar adalah **A. 13 peserta**.

CONTOH

TES KEMAMPUAN NUMERIK · SOAL 207

Pada sebuah usaha konfeksi biasanya 60 buah baju dapat diselesaikan oleh 24 orang pegawai dalam sehari. Jika pengusaha menginginkan baju yang dihasilkan 30 buah lebih banyak, jumlah pegawai harus ditambah sebanyak ....

A. 6 orang **B.** 12 orang (pilihan Anda) (kunci) **C.** 18 orang **D.** 24 orang

Jawaban Anda: **B. 12 orang** · **Benar**

Pembahasan.
24/x = 60/90
x = (24 × 90)/60
x = 36
Jumlah pegawai yang harus ditambah
= 36 – 24 = 12 orang
Jawaban: B

TES KEMAMPUAN NUMERIK · SOAL 218

Diketahui x dan y adalah bilangan bulat dengan 8 < x < y < 11. Manakah pernyataan yang pasti benar?

A. x < y (pilihan Anda) (kunci) **B.** x > y **C.** x = y **D.** 2x < y

Jawaban Anda: **A. x \< y** · **Benar**

Pembahasan.
Bilangan bulat yang memenuhi syarat adalah x = 9 dan y = 10. Karena 9 < 10, pernyataan yang benar adalah **A. x < y**.

CONTOH

TES KEMAMPUAN NUMERIK · SOAL 224

Jika y merupakan 4,8% dari 150, berapakah nilai y?

A. y = 72 **B.** y = 7,2 (pilihan Anda) (kunci) **C.** y = 720 **D.** y = 0,72

Jawaban Anda: **B. y = 7,2** · **Benar**

Pembahasan.
Ubah persentase menjadi desimal: 4,8% = 0,048. Maka y = 0,048 × 150 = 7,2, sehingga jawabannya **B. y = 7,2**.

TES KEMAMPUAN NUMERIK · SOAL 273

Tentukan isian yang tepat untuk titik-titik pada deret berikut. 5, 14, 32, 68, ..., ...

A. 130 dan 280 **B.** 150 dan 244 **C.** 145 dan 260 **D.** 140 dan 284 (pilihan Anda) (kunci) **E.** 150 dan 250

Jawaban Anda: **D. 140 dan 284** · **Benar**

Pembahasan.
Perhatikan pola di bawah ini! 5 + 2 = 7 × 2 = 14; 14 + 2 = 16 × 2 = 32, sehingga 68 + 2 = 70 × 2 = 140 dan 140 + 2 = 142 × 2 = 284. 5, 14, 32, 68, 140, 284 ((+2×2) (+2×2) (+2×2) (+2×2)). Jadi, jawaban yang tepat adalah 140 dan 284.

TES KEMAMPUAN NUMERIK · SOAL 287

Tentukan isian yang tepat untuk titik-titik pada deret berikut. 24, 36, 47, 59, 70, ..., ...

A. 80 dan 92 **B.** 82 dan 93 (pilihan Anda) (kunci) **C.** 83 dan 95 **D.** 84 dan 96 **E.** 81 dan 94

Jawaban Anda: **B. 82 dan 93** · **Benar**

Pembahasan.
Pola deretnya adalah penambahan bergantian +12 dan +11. Setelah 70 ditambahkan 12, diperoleh 82; lalu ditambahkan 11, diperoleh 93. Jadi, jawabannya **B. 82 dan 93**.

TES KEMAMPUAN NUMERIK · SOAL 296

Tentukan isian yang tepat untuk titik-titik pada deret berikut. 165, 176, ..., 198, 209, 220

A. 150 **B.** 167 **C.** 187 (pilihan Anda) (kunci) **D.** 176 **E.** 182

Jawaban Anda: **C. 187** · **Benar**

Pembahasan.
Pola yang digunakan yaitu penjumlahan dengan angka 11 pada setiap posisi deret. 165, 176, 187, 198, 209, 220 (+11). Jadi, jawaban yang tepat adalah 187.

TES KEMAMPUAN NUMERIK · SOAL 304

Tentukan isian yang tepat untuk titik-titik pada deret berikut. X V ... R ... N L

A. U Q **B.** T Q (pilihan Anda) **C.** T O **D.** S P **E.** T P (kunci)

Jawaban Anda: **B. T Q** · **Kurang tepat** · Jawaban benar: **E. T P**

Pembahasan.
Deret berkurang dua huruf pada setiap langkah: X, V, T, R, P, N, L. Isian yang tepat adalah **E. T P**.

TES KEMAMPUAN NUMERIK · SOAL 345

Mira mengikuti latihan paduan suara setiap 2 hari, Nala setiap 3 hari, dan Roni setiap 5 hari. Mereka berlatih bersama untuk kedua kalinya pada 15 Juni 2022. Pada tanggal berapa mereka pertama kali berlatih bersama?

A. 16 Mei 2022 (pilihan Anda) (kunci) **B.** 15 Mei 2022 **C.** 16 April 2022 **D.** 17 Mei 2022 **E.** 14 Mei 2022

Jawaban Anda: **A. 16 Mei 2022** · **Benar**

Pembahasan.
KPK dari 2, 3, dan 5 adalah 30, jadi kedua pertemuan bersama berjarak 30 hari. Dari 15 Juni, mundur 15 hari sampai 31 Mei, lalu mundur 15 hari lagi sampai 16 Mei 2022. Jadi, jawabannya **A. 16 Mei 2022**.

CONTOH

TES KEMAMPUAN NUMERIK · SOAL 351

Harga 5 kg mangga adalah Rp 32.500,00. Jika harga tiap kilogram sama, berapa harga 8 kg mangga?

A. Rp 48.000,00 **B.** Rp 52.000,00 (pilihan Anda) (kunci) **C.** Rp 54.000,00 **D.** Rp 55.000,00 **E.** Rp 56.000,00

Jawaban Anda: **B. Rp 52.000,00** · **Benar**

Pembahasan.
Harga 1 kg mangga adalah Rp 32.500,00 ÷ 5 = Rp 6.500,00. Harga 8 kg mangga adalah 8 × Rp 6.500,00 = Rp 52.000,00, sehingga jawabannya **B. Rp 52.000,00**.

TES KEMAMPUAN NUMERIK · SOAL 362

Sebuah roda berdiameter 56 cm berputar 400 kali. Berapa jarak yang ditempuh roda tersebut?

A. 740 m **B.** 704 m (kunci) **C.** 7040 m **D.** 640 m (pilihan Anda) **E.** 70,4 m

Jawaban Anda: **D. 640 m** · **Kurang tepat** · Jawaban benar: **B. 704 m**

Pembahasan.
Keliling roda = π × diameter = 22/7 × 56 cm = 176 cm. Dalam 400 putaran, jarak tempuhnya 176 × 400 = 70.400 cm = 704 m. Jadi, jawabannya **B. 704 m**.

CONTOH

TES KEMAMPUAN NUMERIK · SOAL 374

Jumlah dari 2 bilangan adalah 43, sedangkan selisihnya adalah 7. Maka kedua bilangan tersebut adalah ...

A. 35 dan 8 **B.** 25 dan 18 (pilihan Anda) (kunci) **C.** 30 dan 17 **D.** 20 dan 23 **E.** 32 dan11

Jawaban Anda: **B. 25 dan 18** · **Benar**

Pembahasan.
Apabila menjumpai soal semacam ini, bisa dikerjakan dengan membuat permisalan, sehingga: a + b = 43; a - b = 7. Kemudian, eliminasi salah satu variabel. Misalnya, eliminasi a. Maka a = 7 + b. Lalu substitusikan ke persamaan pertama, menjadi: a + b = 43; 7 + b + b = 43; 7 + 2b = 43; 2b = 43 – 7; 2b = 36; b = 18. Untuk mencari nilai a, masukkan nilai b pada salah satu persamaan. Misalnya, pada persamaan pertama, sehingga: a + b = 43; a + 18 = 43; a = 43 – 18; a = 25. Jadi, jawaban yang tepat adalah 25 dan 18.

TES KEMAMPUAN NUMERIK · SOAL 390

Perhatikan pola angka pada kotak-kotak di bawah ini. Nilai P yang tepat adalah ...

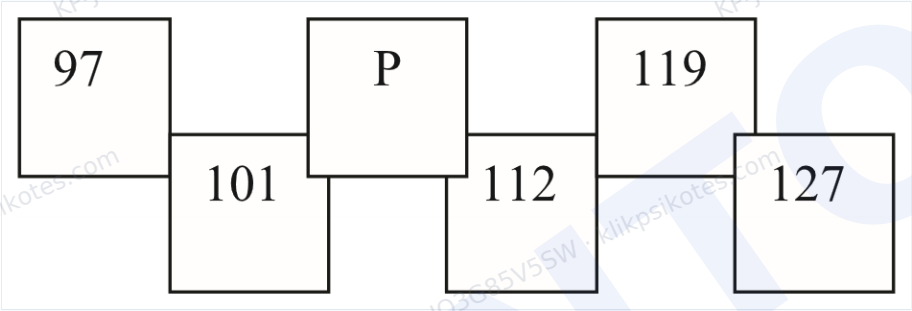

A. 102 **B.** 104 **C.** 106 (pilihan Anda) (kunci) **D.** 108 **E.** 110

Jawaban Anda: **C. 106** · **Benar**

Pembahasan.
[Gambar: 97, 101, 106, 112, 119, 127] Pola yang digunakan yaitu barisan angka dengan beda berurutan, yakni 4, 5, 6, 7, dst, sehingga 112 - 6 = 106. Jadi, jawaban yang tepat adalah 106.

TES PENALARAN LOGIS · SOAL 2

Sebagian penjaga perpustakaan mengikuti pelatihan pengarsipan.

Mira adalah penjaga perpustakaan.

Kesimpulan pernyataan tersebut adalah ...

A. Mira tidak mengikuti pelatihan pengarsipan. **B.** Mira mungkin mengikuti pelatihan pengarsipan. (pilihan Anda) (kunci) **C.** Mira pasti mengikuti pelatihan pengarsipan. **D.** Mira mengikuti pelatihan pengarsipan jika perpustakaan tutup.

Jawaban Anda: **B. Mira mungkin mengikuti pelatihan pengarsipan.** · **Benar**

Pembahasan.
Premis menyebutkan bahwa sebagian penjaga perpustakaan mengikuti pelatihan, dan Mira merupakan penjaga perpustakaan. Tidak dapat dipastikan apakah Mira termasuk yang mengikuti pelatihan, tetapi hal itu mungkin terjadi. Jawaban yang tepat adalah **B. Mira mungkin mengikuti pelatihan pengarsipan.**

TES PENALARAN LOGIS · SOAL 6

Setiap pekan Sinta memeriksa persediaan obat di ruang pertolongan pertama. Pemeriksaan persediaan tetap perlu dilakukan meskipun belum ada obat yang habis.

Kesimpulan yang tepat adalah ...

A. Sinta memeriksa persediaan obat secara berkala meskipun belum ada obat yang habis. (pilihan Anda) (kunci) **B.** Sinta hanya memeriksa persediaan obat setelah ada obat yang habis. **C.** Sinta selalu menghabiskan obat sebelum memeriksa persediaannya. **D.** Sinta memeriksa persediaan obat hanya saat ada orang yang sakit.

Jawaban Anda: **A. Sinta memeriksa persediaan obat secara berkala meskipun belum ada obat yang habis.** · **Benar**

Pembahasan.
Premis menyatakan Sinta memeriksa persediaan setiap pekan dan pemeriksaan tidak harus menunggu obat habis. Jadi, kesimpulan yang sesuai adalah **A. Sinta memeriksa persediaan obat secara berkala meskipun belum ada obat yang habis.**

TES PENALARAN LOGIS · SOAL 14

Semua pemilik sepeda motor wajib membayar pajak.

Bu Desy ...

Bu Desy wajib membayar pajak.

A. memiliki sepeda motor. (pilihan Anda) (kunci) **B.** tidak memiliki sepeda motor. **C.** wajib membayar pajak sepeda motor. **D.** adalah warga negara yang baik dalam membayar pajak. **E.** Semua jawaban salah.

Jawaban Anda: **A. memiliki sepeda motor.** · **Benar**

Pembahasan.

Premis Umum (PU): semua A = B

Premis Khusus (PK): C = A

Simpulan: C = B

Semua pemilik sepeda motor (A) wajib membayar pajak (B).

Bu Desy (C) memiliki sepeda motor (A).

Bu Desy (C) wajib membayar pajak (B).

TES PENALARAN LOGIS · SOAL 20

Anggota klub lari Cakrawala mengikuti latihan setiap Jumat.

Dimas menjadi anggota klub lari Cakrawala tahun ini.

Dimas rutin mengikuti latihan setiap Jumat.

Dari pernyataan tersebut dapat disimpulkan bahwa ...

A. Dimas berlatih setiap hari di klub lari Cakrawala. **B.** Sebelum bergabung dengan klub lari Cakrawala, Dimas jarang berlatih setiap Jumat. **C.** Dimas mengikuti latihan di klub lari Cakrawala. **D.** Dimas rutin mengikuti latihan setiap Jumat karena tahun ini menjadi anggota klub lari Cakrawala. **E.** Dimas rutin mengikuti latihan setiap Jumat. (pilihan Anda) (kunci)

Jawaban Anda: **E. Dimas rutin mengikuti latihan setiap Jumat.** · **Benar**

Pembahasan.

Premis menyatakan bahwa anggota klub lari Cakrawala mengikuti latihan setiap Jumat dan Dimas merupakan anggotanya. Jadi, kesimpulan yang sesuai adalah **E. Dimas rutin mengikuti latihan setiap Jumat**.

CONTOH

TES PENALARAN LOGIS · SOAL 31

Jika sebuah tanaman kekurangan air, daunnya layu. Jika daunnya layu, pertumbuhannya terhambat. Kesimpulannya ...

A. jika pertumbuhan tanaman terhambat, tanaman kekurangan air. **B.** jika sebuah tanaman kekurangan air, pertumbuhannya terhambat. (pilihan Anda) (kunci) **C.** daun tanaman layu hanya karena kekurangan air. **D.** tanaman yang pertumbuhannya terhambat pasti memiliki daun layu. **E.** jika tanaman mendapat cukup air, pertumbuhannya tidak terhambat.

Jawaban Anda: **B. jika sebuah tanaman kekurangan air, pertumbuhannya terhambat.** · **Benar**

Pembahasan.
Misalkan p = tanaman kekurangan air, q = daunnya layu, dan r = pertumbuhannya terhambat. Dari p → q dan q → r, diperoleh kesimpulan p → r. Jadi, **B. jika sebuah tanaman kekurangan air, pertumbuhannya terhambat.**

CONTOH

TES PENALARAN LOGIS · SOAL 46

Di pusat niaga Cendana, delapan stan makanan berjajar dan diberi nomor 1 sampai 8. Jenis makanan yang tersedia ialah bakso, soto, satai, nasi campur, mi ayam, gado-gado, aneka es, dan jus buah. Pengelola menetapkan bahwa stan aneka es dan stan jus buah harus berada di nomor 2 dan 6, meskipun urutan keduanya belum ditentukan. Stan bakso harus bersebelahan dengan stan soto. Stan nasi campur harus bersebelahan dengan stan aneka es. Selain itu, stan pecel tidak boleh bersebelahan dengan stan gado-gado. Pada hari penataan, pecel telah ditempatkan di stan 1 dan satai di stan 8. Pengelola kemudian mengatur penempatan bakso, soto, dan gado-gado sesuai ketentuan tersebut. Dengan susunan dan ketentuan tersebut, penempatan bakso, soto, dan gado-gado yang memenuhi aturan adalah ...

A. Bakso di stan 4, soto di stan 7, dan gado-gado di stan 5. **B.** Bakso di stan 4, soto di stan 5, dan gado-gado di stan 7. (pilihan Anda) (kunci) **C.** Bakso di stan 7, soto di stan 4, dan gado-gado di stan 3. **D.** Bakso di stan 5, soto di stan 7, dan gado-gado di stan 3.

Jawaban Anda: **B. Bakso di stan 4, soto di stan 5, dan gado-gado di stan 7.** · **Benar**

Pembahasan.

B. Bakso di stan 4, soto di stan 5, dan gado-gado di stan 7 memenuhi aturan karena stan bakso dan soto bersebelahan. Gado-gado di stan 7 tidak bersebelahan dengan pecel di stan 1; aneka es dapat ditempatkan di stan 2 dan nasi campur di stan 3, sedangkan jus buah berada di stan 6.

CONTOH

TES PENALARAN LOGIS · SOAL 65

Pada lomba lari maraton, Agnes membutuhkan waktu 2 jam 30 menit untuk sampai garis akhir. Sebelas menit sebelumnya, Diego telah melewatinya. Ronald dan Sam menyusul di belakang Diego. Selang beberapa detik saja, Sonya berada di belakang Agnes. Siapa yang menjadi pemegang medali emas?

A. Agnes **B.** Sam **C.** Diego (pilihan Anda) (kunci) **D.** Ronald **E.** Sonya

Jawaban Anda: **C. Diego** · **Benar**

Pembahasan.
Penyelesaian soal penalaran analitis dapat dilakukan dengan menggambarkannya ke dalam bentuk atau kalimat yang lebih sederhana. Untuk mempermudah penulisan jam, dilambangkan dengan petik satu, sedangkan menit dengan petik dua. [Diagram: 2’19” Diego, Ronald, Sam; 2’30” Agnes, Sonya] Agnes membutuhkan waktu 2 jam 30 menit. Sebelas menit sebelumnya, Diego telah sampai. Maka Diego lebih cepat dari Agnes, kemudian disusul oleh Ronald dan Sam. Sonya di belakang Agnes. Urutan = Diego, Ronald, Sam, Agnes, Sonya. Maka yang menjadi pemegang medali emas adalah Diego.

TES PENALARAN LOGIS · SOAL 70

Jika lapar maka Rudi akan makan. Sampai pukul 13:00 Rudi belum makan.

A. Hari ini Rudi tidak makan. **B.** Rudi belum merasa lapar. (kunci) **C.** Rudi terlalu sibuk dengan pekerjaannya. **D.** Rudi lupa kalau belum makan. (pilihan Anda) **E.** Rudi memang tidak ingin makan.

Jawaban Anda: **D. Rudi lupa kalau belum makan.** · **Kurang tepat** · Jawaban benar: **B. Rudi belum merasa lapar.**

Pembahasan.
Dari premis “Jika lapar, maka Rudi akan makan”, diketahui bahwa Rudi akan makan jika merasa lapar. Jika dia belum makan, berarti dia belum marasa lapar. Jadi, jawaban yang tepat adalah Rudi belum merasa lapar.

CONTOH

TES PENALARAN LOGIS · SOAL 74

Semua peserta yang lolos pemeriksaan berkas akan dipanggil untuk wawancara. Dina tidak dipanggil untuk wawancara. Kesimpulan yang tepat adalah...

A. Dina menolak mengikuti wawancara. **B.** Dina tidak menyerahkan berkas apa pun. **C.** Semua peserta yang tidak dipanggil gagal dalam ujian tertulis. **D.** Dina akan dipanggil pada hari berikutnya. **E.** Dina tidak lolos pemeriksaan berkas. (pilihan Anda) (kunci)

Jawaban Anda: **E. Dina tidak lolos pemeriksaan berkas.** · **Benar**

Pembahasan.
Premis menyatakan bahwa setiap peserta yang lolos pemeriksaan berkas pasti dipanggil untuk wawancara. Karena Dina tidak dipanggil, ia tidak termasuk peserta yang lolos pemeriksaan berkas. Jadi, jawaban yang benar adalah **E. Dina tidak lolos pemeriksaan berkas.**

TES PENALARAN LOGIS · SOAL 81

Jam kerja biasa di sebuah pusat layanan berlangsung selama tujuh jam. Sari mulai bekerja pukul 09.00 dan tercatat tetap melayani pelanggan hingga pukul 17.30. Kesimpulan yang dapat ditarik adalah...

A. Sari tidak menjalankan tugas pada hari itu. **B.** Sari bekerja melewati durasi jam kerja biasanya. (kunci) **C.** Pusat layanan tutup lebih awal pada hari itu. **D.** Sari mulai bekerja sebelum pukul 09.00. **E.** Sari menyelesaikan pekerjaannya bersama seorang teman. (pilihan Anda)

Jawaban Anda: **E. Sari menyelesaikan pekerjaannya bersama seorang teman.** · **Kurang tepat** · Jawaban benar: **B. Sari bekerja melewati durasi jam kerja biasanya.**

Pembahasan.
Dari pukul 09.00 sampai pukul 17.30 terdapat selang waktu delapan jam tiga puluh menit. Durasi itu lebih panjang daripada jam kerja biasa selama tujuh jam. Jadi, jawaban yang tepat adalah **B. Sari bekerja melewati durasi jam kerja biasanya**.

TES PENALARAN LOGIS · SOAL 82

Jika Jalan Protokol macet, pasti sedang ada demo. Koko harus mencari jalan alternatif menuju rumahnya. Dapat disimpulkan bahwa ...

A. Ada tawuran antar Universitas. (pilihan Anda) **B.** Jalan utama ibu kota sedang ada demo besar-besaran. (kunci) **C.** Demo di bundaran HI berlangsung tertib dan tidak mengganggu lalu lintas. **D.** Ada perbaikan jalan rusak karena banjir. **E.** Demo mahasiswa mengganggu ketertiban umum.

Jawaban Anda: **A. Ada tawuran antar Universitas.** · **Kurang tepat** · Jawaban benar: **B. Jalan utama ibu kota sedang ada demo besar-besaran.**

Pembahasan.
p → q; p ∴ q Koko harus mencari jalan alternatif menuju rumahnya. Kemungkinan Jalan Protokol macet karena ada demo. Jadi, jawaban yang tepat adalah Jalan utama ibu kota sedang ada demo besar-besaran.

TES PENALARAN LOGIS · SOAL 88

Setiap orang yang bisa mengendarai motor gigi belum tentu bisa mengendarai motor matik. Bu Joko bisa mengendarai motor gigi. Kesimpulan yang tepat adalah ...

A. Bu Joko tidak bisa mengendarai motor. **B.** Bu Joko tidak bisa mengendarai motor matik. (kunci) **C.** Bu Joko bisa mengendarai motor matik. (pilihan Anda) **D.** Bu Joko bisa mengendarai motor matik dan gigi. **E.** Bu Joko hanya bisa mengendarai motor matik.

Jawaban Anda: **C. Bu Joko bisa mengendarai motor matik.** · **Kurang tepat** · Jawaban benar: **B. Bu Joko tidak bisa mengendarai motor matik.**

Pembahasan.
Setiap orang yang bisa mengendarai motor gigi belum tentu bisa mengendarai motor matik. Bu Joko bisa mengendarai motor gigi. Kemungkinan jawaban yang paling tepat yaitu Bu Joko tidak bisa mengendarai motor matik. Jadi, jawaban yang tepat adalah Bu Joko tidak bisa mengendarai motor matik.

TES PENALARAN LOGIS · SOAL 96

Jika tanaman memperoleh cahaya yang memadai, air secara teratur, dan tanah yang subur, tanaman itu akan tumbuh dengan baik. Tanaman R hari ini tampak layu. Kesimpulan yang kurang tepat adalah ...

A. Tanaman R mendapat cahaya matahari yang cukup. (pilihan Anda) (kunci) **B.** Tanaman R tidak disiram secara teratur. **C.** Tanah tempat tanaman R tumbuh kurang subur. **D.** Tanaman R tidak memperoleh cahaya yang memadai. **E.** Tanaman R jarang mendapatkan air.

Jawaban Anda: **A. Tanaman R mendapat cahaya matahari yang cukup.** · **Benar**

Pembahasan.
Premis menyatakan bahwa ketiga syarat yang terpenuhi bersama-sama menghasilkan pertumbuhan yang baik, sedangkan tanaman R tampak layu. Kondisi itu memungkinkan ada syarat yang tidak terpenuhi, tetapi tidak meniadakan kemungkinan tanaman mendapat cahaya cukup. Karena itu, pilihan yang kurang tepat adalah **A. Tanaman R mendapat cahaya matahari yang cukup.**

TES PENALARAN LOGIS · SOAL 102

Jika jadwal perjalanan disusun dengan cermat, waktu keberangkatan dapat diperkirakan. Jadwal perjalanan rombongan itu disusun dengan cermat. Kesimpulan yang tepat adalah ...

A. Rombongan itu berangkat pada waktu yang sama setiap hari. **B.** Perjalanan rombongan itu berlangsung singkat. **C.** Waktu keberangkatan rombongan itu dapat diperkirakan. (pilihan Anda) (kunci) **D.** Jadwal perjalanan rombongan itu selalu berubah. **E.** Rombongan itu menggunakan kendaraan tertentu.

Jawaban Anda: **C. Waktu keberangkatan rombongan itu dapat diperkirakan.** · **Benar**

Pembahasan.
Menurut premis, penyusunan jadwal dengan cermat memungkinkan waktu keberangkatan diperkirakan. Karena jadwal rombongan itu disusun dengan cermat, **C. Waktu keberangkatan rombongan itu dapat diperkirakan** merupakan kesimpulan yang tepat.

TES PENALARAN LOGIS · SOAL 113

Di satu jalur lurus kompleks, urutan tempat dari selatan ke utara adalah balai warga, rumah Puri, rumah Santi, rumah Tegar, dan pos keamanan. Tidak ada tempat lain yang berada di antara tempat-tempat tersebut. Letak rumah Santi adalah ...

A. Di antara balai warga dan rumah Puri. (pilihan Anda) **B.** Di sebelah utara rumah Tegar. **C.** Di antara rumah Tegar dan pos keamanan. **D.** Di antara rumah Puri dan rumah Tegar. (kunci) **E.** Di sebelah selatan balai warga.

Jawaban Anda: **A. Di antara balai warga dan rumah Puri.** · **Kurang tepat** · Jawaban benar: **D. Di antara rumah Puri dan rumah Tegar.**

Pembahasan.
Susunan dari selatan ke utara adalah balai warga, rumah Puri, rumah Santi, rumah Tegar, lalu pos keamanan. Jadi, **D. Di antara rumah Puri dan rumah Tegar** adalah jawaban yang tepat.

TES PENALARAN LOGIS · SOAL 120

Fahmi adalah saudara sepupu jalur bapak dari Afifah. Ayah Afifah adalah kakak dari ibu Fahmi. Afifah adalah adik dari Nurma. Hubungan antara kakek Afifah dengan ayah Fahmi adalah ...

A. Ayah dan anak **B.** Ayah dan menantu (kunci) **C.** Ayah dan mertua (pilihan Anda) **D.** Ayah dan keponakan **E.** Ayah dan sepupu

Jawaban Anda: **C. Ayah dan mertua** · **Kurang tepat** · Jawaban benar: **B. Ayah dan menantu**

Pembahasan.
Kakek Afifah juga merupakan kakek Fahmi, karena Kakek adalah ayah dari ibunya. Maka hubungan Kakek dengan ayah Fahmi adalah hubungan ayah dan menantu. Jadi, jawaban yang tepat adalah Ayah dan menantu

CONTOH

TES PENALARAN LOGIS · SOAL 124

Dalam turnamen yang diikuti lima negara, empat negara dengan hasil terbaik memperoleh medali. Garuda menang atas Rajawali, Elang, Merpati, dan Cendrawasih. Rajawali juga mengalahkan Elang, Merpati, dan Cendrawasih; Elang menang atas Merpati dan Cendrawasih; sedangkan Merpati mengalahkan Cendrawasih. Negara mana yang tidak memperoleh medali?

A. Garuda **B.** Rajawali **C.** Elang **D.** Cendrawasih (pilihan Anda) (kunci) **E.** Merpati

Jawaban Anda: **D. Cendrawasih** · **Benar**

Pembahasan.
Hasil pertandingan menunjukkan urutan negara dari yang terbaik adalah Garuda, Rajawali, Elang, Merpati, lalu Cendrawasih. Karena hanya empat negara dengan hasil terbaik yang memperoleh medali, **D. Cendrawasih** tidak mendapat medali.

TES PENALARAN LOGIS · SOAL 127

Delapan petugas mendapat giliran jaga berpasangan pada malam Senin, Rabu, Jumat, dan Minggu. Setiap petugas mendapat satu giliran. Diketahui bahwa Nanda berjaga bersama Rendi pada malam Rabu, Banu berjaga bersama Tegar pada malam Minggu, dan Wira bertugas setelah Rendi bersama Siska. Siapa yang berjaga pada malam Jumat?

A. Nanda dan Rendi **B.** Wira dan Siska (pilihan Anda) (kunci) **C.** Banu dan Tegar **D.** Rendi dan Siska **E.** Tegar dan Wira

Jawaban Anda: **B. Wira dan Siska** · **Benar**

Pembahasan.
Urutan malam jaga adalah Senin, Rabu, Jumat, lalu Minggu. Karena Wira bertugas setelah Rendi dan berjaga bersama Siska, pasangan pada malam Jumat adalah **B. Wira dan Siska**.

CONTOH

TES PENALARAN LOGIS · SOAL 130

Pada pendataan ukuran baju, ukuran baju Sinta adalah L, Rini memilih 2 ukuran di atas Sinta. Sementara Nurul memilih ukuran paling kecil. Badan Rima lebih kecil daripada Sinta. Pernyataan di bawah ini yang benar adalah ...

A. Badan Sinta lebih besar daripada badan Rini. **B.** Ukuran baju Nurul adalah M. **C.** Badan Rima lebih besar daripada badan Sinta. **D.** Rini memilih ukuran LL. **E.** Badan Nurul tidak lebih besar daripada badan Sinta. (pilihan Anda) (kunci)

Jawaban Anda: **E. Badan Nurul tidak lebih besar daripada badan Sinta.** · **Benar**

Pembahasan.
Pun demikian, pernyataan yang tepat yaitu badan Nurul tidak lebih besar daripada badan Sinta. Jadi, jawaban yang tepat adalah Badan Nurul tidak lebih besar daripada Sinta.

TES PENALARAN LOGIS · SOAL 138

Sebuah susunan terdiri atas 6 huruf, dengan 3 huruf vokal dan 2 jenis huruf konsonan. Huruf pada posisi pertama dan kelima sama, sedangkan huruf pada posisi ketiga adalah M. Posisi kedua berisi I dan posisi keempat berisi U. Huruf A dan E tidak digunakan. Huruf vokal pada posisi keenam adalah ...

A. I **B.** U **C.** O (pilihan Anda) (kunci) **D.** E **E.** A

Jawaban Anda: **C. O** · **Benar**

Pembahasan.
Tiga posisi vokal adalah posisi kedua, keempat, dan keenam. Posisi kedua sudah berisi I dan posisi keempat berisi U; karena A dan E dilarang, vokal yang tersisa untuk posisi keenam adalah **C. O**.

CONTOH

TES PENALARAN GAMBAR · SOAL 41

Bangun ruang manakah yang dapat dibentuk dari jaring-jaring pada gambar soal?



A

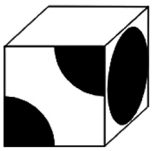

B

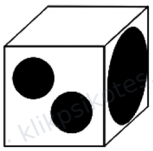

C

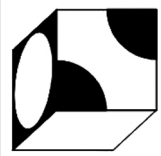

Pilihan Anda · benar

D

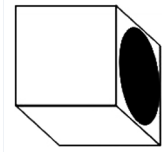

E



Jawaban Anda: **C** · **Benar**

Pembahasan.

Berdasarkan jaring-jaring di atas, bangun ruang yang mungkin terbentuk adalah kubus. Dengan melipat jaring-jaring ke depan dan menggulingkan kubus yang terbentuk ke atas sekali, kita akan memperoleh kubus dengan sisi depan bermotif 2 buah 1/4 lingkaran hitam, sisi kiri bermotif lingkaran putih, dan sisi bawah berwarna putih. Bangun yang sesuai adalah gambar 3. Jadi, jawaban yang tepat adalah C.

CONTOH

TES PENALARAN GAMBAR · SOAL 61

Manakah hasil pencerminan gambar soal?



A



B



Pilihan Anda · benar

C



D



E



Jawaban Anda: **B** · **Benar**

Pembahasan.

Hasil pencerminan gambar di atas adalah gambar huruf G yang menghadap ke kiri, persegi panjang ke arah kiri atas dan ke arah kanan untuk bagian bawah. Gambar yang merupakan hasil pencerminan adalah gambar 2. Jadi, jawaban yang paling tepat adalah B.

TES PENALARAN GAMBAR · SOAL 63

Manakah hasil pencerminan gambar soal?

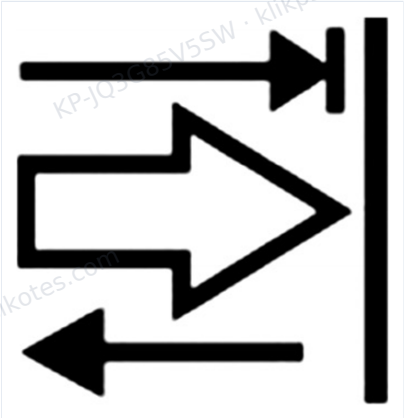

A



B



C



D



Pilihan Anda · benar

E



Jawaban Anda: **D** · **Benar**

Pembahasan.

Hasil pencerminan gambar di atas adalah gambar dengan anak panah putih dan hitam di atasnya mengarah ke kiri dan anak panah hitam di bawah menghadap ke kanan. Gambar yang merupakan hasil pencerminan adalah gambar 4. Jadi, jawaban yang tepat adalah D.

CONTOH

TES PENALARAN GAMBAR · SOAL 65

Manakah hasil pencerminan gambar soal?

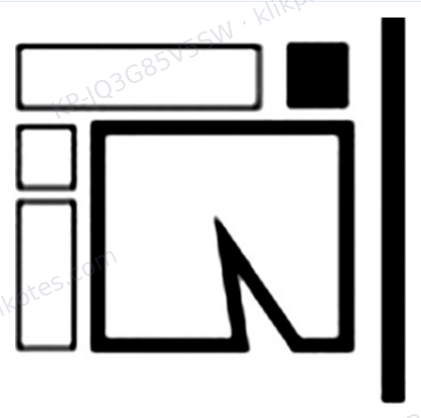

A



B



C



Pilihan Anda · benar

D



E



Jawaban Anda: **C** · **Benar**

Pembahasan.

Hasil pencerminan gambar di atas adalah gambar persegi terpotong menghadap ke cermin dengan kotak hitam di kiri atas dan persegi putih di kanan atas. Gambar yang merupakan hasil pencerminan adalah gambar 3. Jadi, jawaban yang tepat adalah C.

TES PENALARAN GAMBAR · SOAL 70

Manakah hasil pencerminan gambar soal?



A



B



C



Pilihan Anda · benar

D



E



Jawaban Anda: **C** · **Benar**

Pembahasan.
Hasil pencerminan gambar di atas adalah gambar segitiga dengan bola hitam di sudut kiri bawah dan anak panah mengarah ke kanan di bawahnya. Gambar yang merupakan hasil pencerminan adalah gambar 3. Jadi, jawaban yang tepat adalah C.

CONTOH

TES PENALARAN GAMBAR · SOAL 76

Manakah hasil pencerminan gambar soal?



A	B	C	D	E
				
Pilihan Anda	Kunci			

Jawaban Anda: **A** · **Kurang tepat** · Jawaban benar: **B**

Pembahasan.

Hasil pencerminan gambar di atas adalah gambar dengan tepi hitam di bagian kiri bawah dan kanan atas lingkaran. Gambar yang merupakan hasil pencerminan adalah gambar 2. Jadi, jawaban yang paling tepat adalah B.

CONTOH

TES PENALARAN GAMBAR · SOAL 82

Manakah gambar yang berbeda dari gambar lainnya?

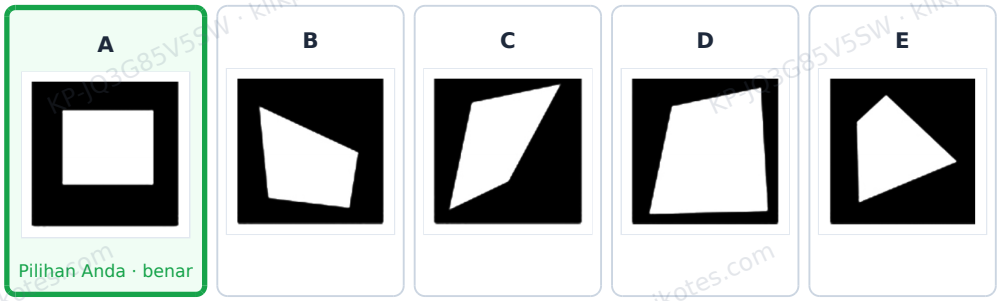

Jawaban Anda: **A** · **Benar**

Pembahasan.
Semua gambar memiliki pola yang sama yaitu gambar dalam yang sisinya tidak beraturan, kecuali gambar 1. Jadi, jawaban yang benar adalah A.

TES PENALARAN GAMBAR · SOAL 92

Potongan manakah yang tepat untuk melengkapi gambar soal?

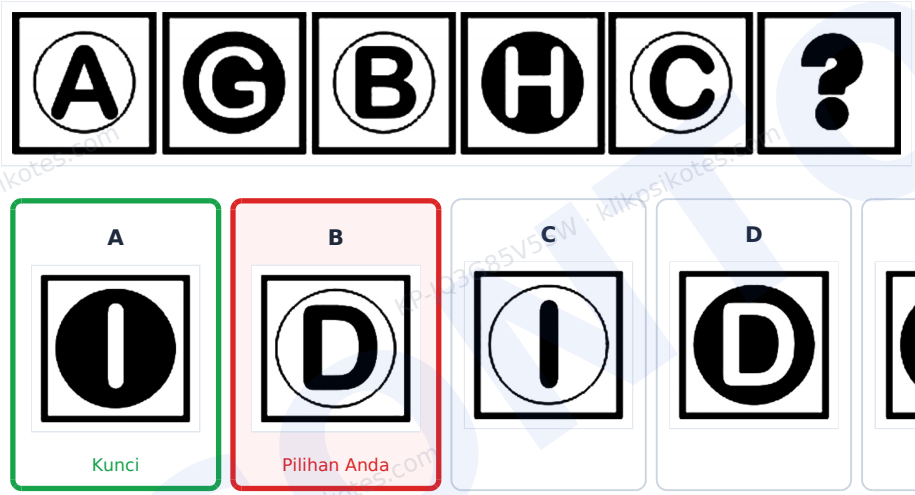

Jawaban Anda: **B** · **Kurang tepat** · Jawaban benar: **A**

Pembahasan.
Potongan yang tepat untuk melengkapi gambar di atas adalah potongan dengan motif huruf I berwarna putih dalam lingkaran hitam. Potongan yang tepat ditunjukan oleh gambar 1. Jadi, jawaban yang tepat adalah A.

TES PENALARAN GAMBAR · SOAL 120

Bangun ruang manakah yang dapat dibentuk dari jaring-jaring pada gambar soal?

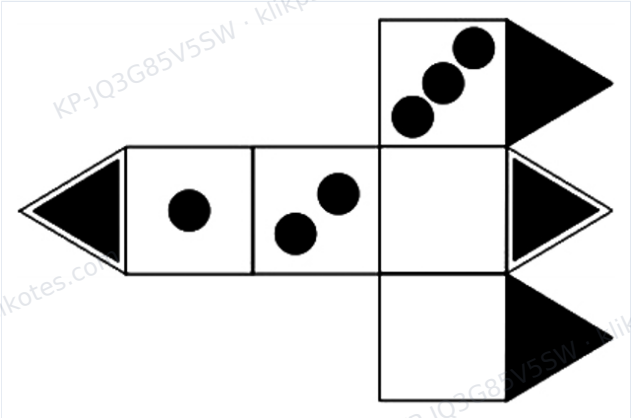

A



B



Pilihan Anda · benar

C



D



E

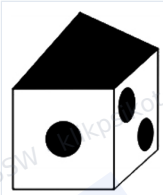

Jawaban Anda: **B** · **Benar**

Pembahasan.
Berdasarkan jaring-jaring di atas, bangun ruang yang mungkin terbentuk adalah kubus dengan limas di atasnya. Perhatikan kesesuaian motif sisi segitiga dan perseginya. Bangun yang sesuai dengan jaring-jaring tersebut adalah bangun 2. Jadi, jawaban yang tepat adalah B.

CONTOH

TES PENALARAN GAMBAR · SOAL 125

Bangun ruang manakah yang dapat dibentuk dari jaring-jaring pada gambar soal?

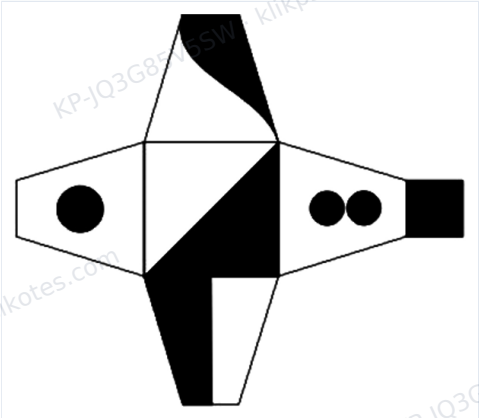

A



B



C



Kunci

D



E

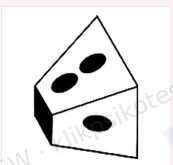

Pilihan Anda

Jawaban Anda: **E** · **Kurang tepat** · Jawaban benar: **C**

Pembahasan.

Berdasarkan jaring-jaring di atas, bangun ruang yang mungkin terbentuk adalah limas terpotong ujungnya. Bangun memiliki sisi bermotif lingkaran hitam yang bersampingan dengan sisi hitam lengkung besar di atas. Bangun yang sesuai dengan jaring-jaring tersebut adalah bangun 3. Jadi, jawaban yang tepat adalah C.

CONTOH

TES PENALARAN GAMBAR · SOAL 135

Manakah hasil pencerminan gambar soal?

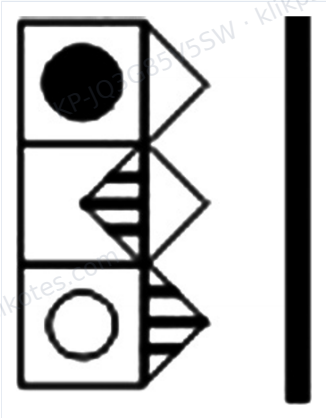

A

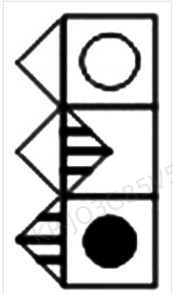

B

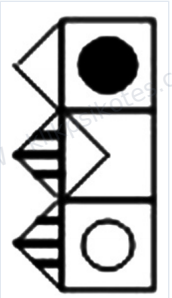

C

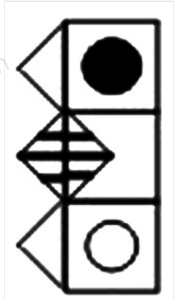

D

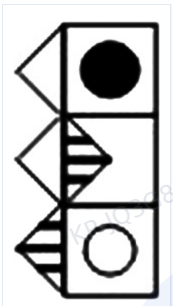

Kunci

E

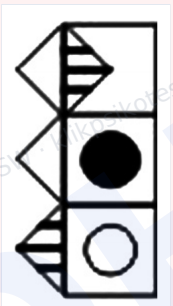

Pilihan Anda

Jawaban Anda: **E** · **Kurang tepat** · Jawaban benar: **D**

Pembahasan.

Hasil pencerminan gambar di atas adalah gambar dengan segitiga terasir paling bawah dan bola hitam pada persegi paling atas. Gambar yang merupakan hasil pencerminan adalah gambar 4. Jadi, jawaban yang tepat adalah D.

CONTOH

TES PENALARAN GAMBAR · SOAL 145

Manakah hasil pencerminan gambar soal?

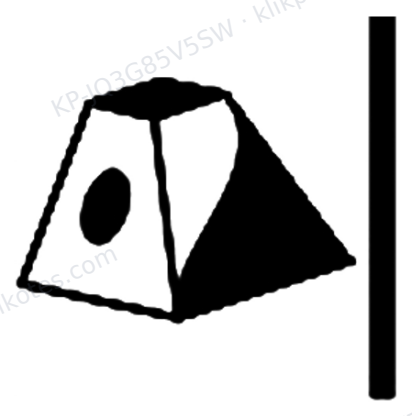

A	B	C	D	E
			 Pilihan Anda · benar	

Jawaban Anda: **D** · **Benar**

Pembahasan.

Hasil pencerminan gambar di atas adalah gambar dengan sudut berwarma hitam di sisi kiri bawah dan bermotif lingkaran hitam di sisi lain. Gambar yang merupakan hasil pencerminan adalah gambar 4. Jadi, jawaban yang tepat adalah D.

CONTOH

TES PENALARAN GAMBAR · SOAL 156

Manakah gambar yang berbeda dari gambar lainnya?

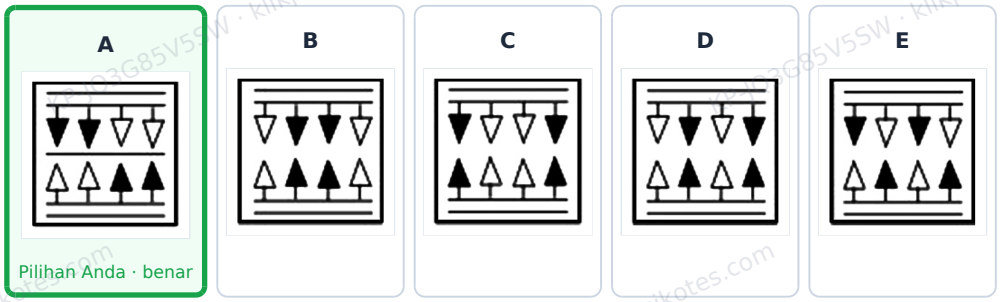

Jawaban Anda: **A** · **Benar**

Pembahasan.

Semua gambar memiliki pola gambar yang sama yaitu tidak memiliki garis tengah, kecuali gambar 1. Jadi, jawaban yang benar adalah A.

TES PENALARAN GAMBAR · SOAL 165

Manakah gambar yang berbeda dari gambar lainnya?

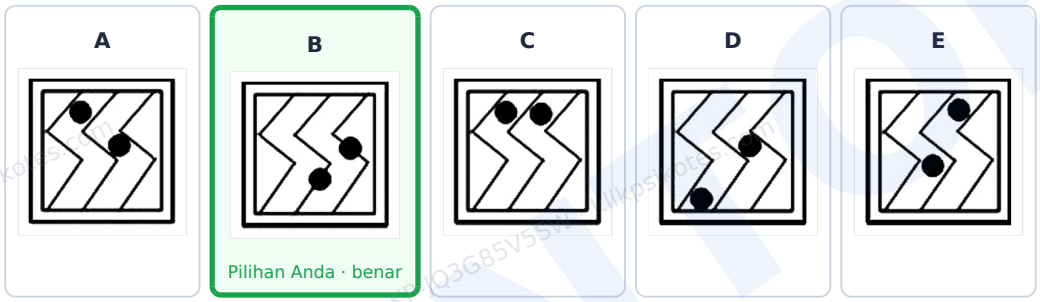

Jawaban Anda: **B** · **Benar**

Pembahasan.

Semua gambar memiliki pola letak bola hitam yang sama yaitu bola berada di antara dua garis, kecuali gambar 2. Jadi, jawaban yang benar adalah B.

CONTOH

TES PENALARAN GAMBAR · SOAL 167

Manakah gambar yang berbeda dari gambar lainnya?

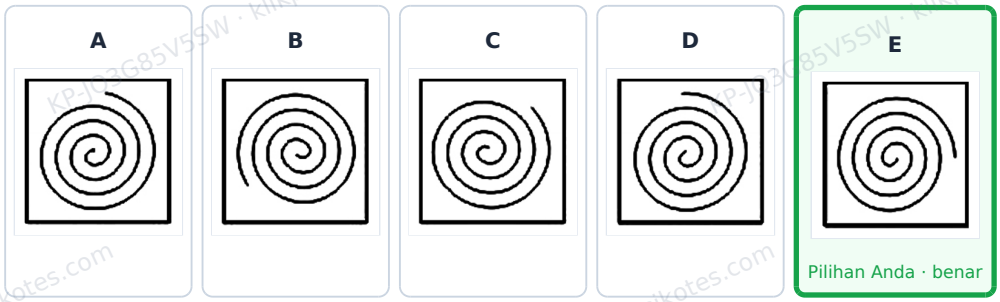

Jawaban Anda: **E** · **Benar**

Pembahasan.
Semua gambar memiliki pola rotasi yang sama yaitu searah jarum jam, kecuali gambar 5. Jadi, jawaban yang benar adalah E.

TES PENALARAN GAMBAR · SOAL 169

Manakah gambar yang berbeda dari gambar lainnya?



Jawaban Anda: **C** · **Benar**

Pembahasan.
Semua gambar memiliki pola yang sama, yaitu bilangan yang bisa dibagi 3, kecuali gambar 3. Jadi, jawaban yang benar adalah C.

TES KECERMATAN DAN KETELITIAN · SOAL 1

Bandingkan Tabel I dan Tabel II. Pilih S (Sama) jika huruf-huruf yang tersusun sama, TS (Tidak Sama) jika tidak sama. Tabel I: XBXRMHU / FPGCLMK / DZOWFBI

Tabel II: XBXRMHU / FPGCLMK / DZOWFBI

S. Sama (pilihan Anda) (kunci) **TS.** Tidak Sama

Jawaban Anda: **S. Sama** · **Benar**

> **Pembahasan.**
> Ke-3 deret di Tabel I dan Tabel II sama persis, karakter demi karakter dan dalam urutan yang sama. Jawaban: **S (Sama)**.

TES KECERMATAN DAN KETELITIAN · SOAL 18

Bandingkan Tabel I dan Tabel II. Pilih S (Sama) jika huruf-huruf yang tersusun sama, TS (Tidak Sama) jika tidak sama. Tabel I: MRTIYOOMWGK / NDJJTQEHRBB / NTONIREPQNS

Tabel II: MRTIYOOMWGK / HDJJTQEHRBB / NTONTREPQNS

S. Sama (pilihan Anda) **TS.** Tidak Sama (kunci)

Jawaban Anda: **S. Sama** · **Kurang tepat** · Jawaban benar: **TS. Tidak Sama**

> **Pembahasan.**
> Deret ke-2 berbeda: karakter ke-1 adalah N di Tabel I, tetapi H di Tabel II. Deret ke-3 berbeda: karakter ke-5 adalah I di Tabel I, tetapi T di Tabel II. Jawaban: **TS (Tidak Sama)**.

TES KECERMATAN DAN KETELITIAN · SOAL 22

Bandingkan Tabel I dan Tabel II. Pilih S (Sama) jika keduanya sama persis, TS (Tidak Sama) jika terdapat perbedaan. Tabel I: Jafrawujgozizmkzov / Koasxitnisocddtih / Ipopmfozintpgis

Tabel II: Iafrawujgozizmkzov / Koasxitnisocddtih / Ipopmfozintpgis

S. Sama **TS.** Tidak Sama (pilihan Anda) (kunci)

Jawaban Anda: **TS. Tidak Sama** · **Benar**

> **Pembahasan.**
> Deret ke-1 berbeda: karakter ke-1 adalah J di Tabel I, tetapi I di Tabel II. Jawaban: **TS (Tidak Sama)**.

TES KECERMATAN DAN KETELITIAN · SOAL 37

Bandingkan Tabel I dan Tabel II. Pilih S (Sama) jika keduanya sama persis, TS (Tidak Sama) jika terdapat perbedaan. Tabel I: Hoxejeqhruft / Yuloxtisey / Zuvurvadu

Tabel II: Hoxejeqhruft / Yuloxtisey / Zuvurvadu

S. Sama (pilihan Anda) (kunci) **TS.** Tidak Sama

Jawaban Anda: **S. Sama** · **Benar**

Pembahasan.
Ke-3 deret di Tabel I dan Tabel II sama persis, karakter demi karakter dan dalam urutan yang sama.
Jawaban: **S (Sama)**.

TES KECERMATAN DAN KETELITIAN · SOAL 44

Bandingkan Tabel I dan Tabel II. Pilih S (Sama) jika keduanya sama persis, TS (Tidak Sama) jika terdapat perbedaan. Tabel I: Zlqet5351gnls / Klxnjngotq9629 / Pgwnxiajswrv1894

Tabel II: Zlqet5351gnls / Klxnjngotq9629 / Pgwnxiajswrv1894

S. Sama (pilihan Anda) (kunci) **TS.** Tidak Sama

Jawaban Anda: **S. Sama** · **Benar**

Pembahasan.
Ke-3 deret di Tabel I dan Tabel II sama persis, karakter demi karakter dan dalam urutan yang sama.
Jawaban: **S (Sama)**.

CONTOH

TES KECERMATAN DAN KETELITIAN · SOAL 47

Bandingkan Tabel I dan Tabel II. Pilih S (Sama) jika keduanya sama persis, TS (Tidak Sama) jika terdapat perbedaan. Tabel I: 2jqs5642lpkt / 6bvh100tywe2l / Qsbmckz742hkjp

Tabel II: 5jqs5645lpkt / 6bvh400tywe2l / Qsbmckz742hkjp

S. Sama (pilihan Anda) **TS.** Tidak Sama (kunci)

Jawaban Anda: **S. Sama** · **Kurang tepat** · Jawaban benar: **TS. Tidak Sama**

Pembahasan.
Deret ke-1 berbeda: karakter ke-1 adalah 2 di Tabel I, tetapi 5 di Tabel II; karakter ke-8 adalah 2 di Tabel I, tetapi 5 di Tabel II. Deret ke-2 berbeda: karakter ke-5 adalah 1 di Tabel I, tetapi 4 di Tabel II. Jawaban: **TS (Tidak Sama)**.

TES KECERMATAN DAN KETELITIAN · SOAL 57

Bandingkan Tabel I dan Tabel II. Pilih S (Sama) jika keduanya sama persis, TS (Tidak Sama) jika terdapat perbedaan. Tabel I: Xnwmewf979ksix / Vgxovmnh52rvlek / Wrskurziy86psl

Tabel II: Xnwmewf974ksix / Vgxovmnh52rvlek / Wrskurziy86psl

S. Sama **TS.** Tidak Sama (pilihan Anda) (kunci)

Jawaban Anda: **TS. Tidak Sama** · **Benar**

Pembahasan.
Deret ke-1 berbeda: karakter ke-10 adalah 9 di Tabel I, tetapi 4 di Tabel II. Jawaban: **TS (Tidak Sama)**.

CONTOH

TES KECERMATAN DAN KETELITIAN · SOAL 63

Bandingkan Tabel I dan Tabel II. Pilih S (Sama) jika keduanya sama persis, TS (Tidak Sama) jika terdapat perbedaan. Tabel I: Jrcmelnneqf / Zbfcmcaovwwa / olzpamttbggzzz

Tabel II: Jcmelneqf / Zbfcmcaovwwa / olzpamttbggzzz

S. Sama (pilihan Anda) **TS.** Tidak Sama (kunci)

Jawaban Anda: **S. Sama** · **Kurang tepat** · Jawaban benar: **TS. Tidak Sama**

Pembahasan.
Deret ke-1 berbeda: karakter ke-2 (r) tidak ada di Tabel II; karakter ke-8 (n) tidak ada di Tabel II.
Jawaban: **TS (Tidak Sama)**.

TES KECERMATAN DAN KETELITIAN · SOAL 65

Bandingkan Tabel I dan Tabel II. Pilih S (Sama) jika keduanya sama persis, TS (Tidak Sama) jika terdapat perbedaan. Tabel I: Wvuudulavxmya / Gpbubkijuiwk / gihiwlaotxzi

Tabel II: Wvuudulavxmya / Gpbubkijuiwk / gihiwlaotxzi

S. Sama (pilihan Anda) (kunci) **TS.** Tidak Sama

Jawaban Anda: **S. Sama** · **Benar**

Pembahasan.
Ke-3 deret di Tabel I dan Tabel II sama persis, karakter demi karakter dan dalam urutan yang sama.
Jawaban: **S (Sama)**.

TES KECERMATAN DAN KETELITIAN · SOAL 70

Pilihlah deretan huruf dan angka yang sesuai dengan soal. H-6-1-F-Q-B-3-9-P-V

A. H-G-1-F-Q-B-3-9-P-V **B.** H-6-1-F-O-B-3-9-P-V **C.** H-6-1-F-Q-B-3-9-B-V **D.** H-6-1-F-Q-B-3-9-P-V (pilihan Anda) (kunci)

Jawaban Anda: **D. H-6-1-F-Q-B-3-9-P-V** · **Benar**

Pembahasan.
Deretan pada pilihan D sama persis dengan deretan pada soal. **D. H-6-1-F-Q-B-3-9-P-V**

TES KECERMATAN DAN KETELITIAN · SOAL 81

Pilihlah deretan huruf dan angka yang sesuai dengan soal. T-5-G-1-8-3-N-B-V-6

A. T-5-G-1-8-3-N-B-Y-6 **B.** T-5-G-I-8-3-N-B-V-6 **C.** T-5-G-1-8-3-N-B-V-6 (pilihan Anda) (kunci) **D.** T-S-G-1-8-3-N-B-V-6

Jawaban Anda: **C. T-5-G-1-8-3-N-B-V-6** · **Benar**

Pembahasan.
Pilihan C menyalin seluruh karakter deret soal dalam urutan yang sama. Pada pilihan lain terdapat satu karakter berbeda, sehingga jawabannya **C**.

TES KECERMATAN DAN KETELITIAN · SOAL 82

Pilihlah deretan huruf dan angka yang sesuai dengan soal. 4-9-1-K-V-3-M-8-P-6

A. 4-9-1-K-V-3-M-8-P-0 **B.** 4-9-1-K-V-3-N-8-P-6 **C.** 4-9-1-K-V-3-M-8-P-6 (pilihan Anda) (kunci) **D.** 4-9-7-K-V-3-M-8-P-6

Jawaban Anda: **C. 4-9-1-K-V-3-M-8-P-6** · **Benar**

Pembahasan.
Deret yang sesuai harus sama persis dengan soal. **C. 4-9-1-K-V-3-M-8-P-6** cocok pada setiap karakter; pilihan lainnya memiliki perbedaan pada satu posisi.

TES KECERMATAN DAN KETELITIAN · SOAL 84

Pilihlah deretan huruf dan angka yang sesuai dengan soal. M-R-7-2-F-P-G-5-8-C

A. M-R-7-2-F-P-G-5-8-C (pilihan Anda) (kunci) **B.** M-R-7-2-F-P-G-5-8-G **C.** M-R-7-2-F-P-6-5-8-C **D.** M-R-7-2-F-P-G-S-8-C

Jawaban Anda: **A. M-R-7-2-F-P-G-5-8-C** · **Benar**

Pembahasan.
Deret yang harus dicocokkan adalah M-R-7-2-F-P-G-5-8-C. **A. M-R-7-2-F-P-G-5-8-C** sama persis dengan deret pada soal.

CONTOH

TES KECERMATAN DAN KETELITIAN · SOAL 98

Tiga di antara empat pernyataan berikut mempunyai kesamaan dan satu berbeda. Pilihlah yang berbeda!

A. 48K22991RVP **B.** 48K22991RVP **C.** 48K2299ZRVP (pilihan Anda) (kunci) **D.** 48K22991RVP

Jawaban Anda: **C. 48K2299ZRVP** · **Benar**

Pembahasan.
Pilihan **C** berbeda dari tiga pilihan lainnya. Perbedaannya terletak pada karakter kedelapan, yaitu Z, sedangkan pilihan lain menggunakan angka 1.

WAWASAN KEBANGSAAN · SOAL 11

Jika Pancasila digunakan untuk menilai benar atau salahnya tingkah laku bangsa Indonesia, Pancasila sedang berfungsi sebagai ...

A. ideologi negara. **B.** pemersatu bangsa. (pilihan Anda) **C.** sumber nilai. (kunci) **D.** sistem filsafat.

Jawaban Anda: **B. pemersatu bangsa.** · **Kurang tepat** · Jawaban benar: **C. sumber nilai.**

Pembahasan.
Tolok ukur moral untuk menilai benar atau salahnya tingkah laku merupakan fungsi Pancasila sebagai sumber nilai. Dengan demikian, jawabannya adalah **C. sumber nilai**.

WAWASAN KEBANGSAAN · SOAL 16

Menurut urutan perubahan UUD 1945, tanggal berapakah amandemen pertama ditetapkan?

A. 18 Agustus 2000. **B.** 9 November 2001. **C.** 19 Oktober 1999. (kunci) **D.** 11 Agustus 2002. (pilihan Anda)

Jawaban Anda: **D. 11 Agustus 2002.** · **Kurang tepat** · Jawaban benar: **C. 19 Oktober 1999.**

Pembahasan.
Amandemen pertama UUD 1945 ditetapkan pada 19 Oktober 1999. Jadi, jawaban yang benar adalah **C. 19 Oktober 1999.**

WAWASAN KEBANGSAAN · SOAL 21

Berikut yang bukan merupakan isi UUD 1945 Pasal 19 adalah ...

A. anggota Dewan Perwakilan Rakyat dipilih melalui pemilihan umum. **B.** susunan Dewan Perwakilan Rakyat diatur dengan undang-undang. **C.** Dewan Perwakilan Rakyat memegang kekuasaan membentuk undang-undang. (pilihan Anda) (kunci) **D.** Dewan Perwakilan Rakyat bersidang sedikitnya sekali dalam setahun.

Jawaban Anda: **C. Dewan Perwakilan Rakyat memegang kekuasaan membentuk undang-undang.** · **Benar**

Pembahasan.
Berikut isi Pasal 19 UUD 1945.

1. Anggota Dewan Perwakilan Rakyat dipilih melalui pemilihan umum.
2. Susunan Dewan Perwakilan Rakyat diatur dengan undang-undang.
3. Dewan Perwakilan Rakyat bersidang sedikitnya sekali dalam setahun.

Pernyataan “Dewan Perwakilan Rakyat memegang kekuasaan membentuk undang-undang” tercantum dalam Pasal 20 Ayat 1 UUD 1945.

WAWASAN KEBANGSAAN · SOAL 24

Dalam rumusan pada Pasal 30 UUD 1945, apa tugas yang disebut bagi Tentara Nasional Indonesia sebagai alat negara?

A. Menjaga keamanan dan ketertiban masyarakat serta menjaga kedaulatan negara. **B.** Mempertahankan dan melindungi keutuhan serta kedaulatan negara. **C.** Mempertahankan, melindungi, dan memelihara keutuhan dan kedaulatan negara. (pilihan Anda) (kunci) **D.** Melindungi, mengayomi, melayani masyarakat, dan menegakkan hukum.

Jawaban Anda: **C. Mempertahankan, melindungi, dan memelihara keutuhan dan kedaulatan negara.** · **Benar**

Pembahasan.
Pasal 30 menyebut TNI sebagai alat negara yang bertugas mempertahankan, melindungi, dan memelihara keutuhan dan kedaulatan negara. Jadi, jawaban yang tepat adalah **C. Mempertahankan, melindungi, dan memelihara keutuhan dan kedaulatan negara.**

CONTOH

WAWASAN KEBANGSAAN · SOAL 25

Prioritas anggaran negara untuk pendidikan yang diambil dari APBN dan APBD menurut UUD 1945 sekurang-kurangnya sebesar ...

A. 15%. **B.** 20%. (kunci) **C.** 25%. (pilihan Anda) **D.** 35%.

Jawaban Anda: **C. 25%.** · **Kurang tepat** · Jawaban benar: **B. 20%.**

Pembahasan.
Menurut UUD 1945 Pasal 30 Ayat 4, “Negara memprioritaskan anggaran pendidikan sekurang-kurangnya dua puluh persen dari anggaran pendapatan dan belanja negara serta dari anggaran pendapatan dan belanja daerah untuk memenuhi kebutuhan penyelenggaraan pendidikan nasional”.

WAWASAN KEBANGSAAN · SOAL 61

Tokoh yang disebut pernah menjabat sebagai Wakil Presiden RI ketiga adalah ...

A. Ki Hajar Dewantara **B.** Abdul Rahman Saleh (pilihan Anda) **C.** Agus Salim **D.** Adam Malik (kunci)

Jawaban Anda: **B. Abdul Rahman Saleh** · **Kurang tepat** · Jawaban benar: **D. Adam Malik**

Pembahasan.
Informasi pada butir asal menyebut Adam Malik pernah menjabat sebagai Wakil Presiden RI ketiga. Jadi, jawabannya adalah **D. Adam Malik**.

WAWASAN KEBANGSAAN · SOAL 74

Cara pelaksanaan Demokrasi Terpimpin yang disebut dalam tinjauan historis ialah ....

A. merangkul Angkatan Udara **B.** merangkul golongan komunis (pilihan Anda) (kunci) **C.** merangkul Muhammadiyah dan NU **D.** menyingkirkan Angkatan Darat

Jawaban Anda: **B. merangkul golongan komunis** · **Benar**

Pembahasan.
Tinjauan historis pada butir ini menyatakan bahwa Demokrasi Terpimpin dilaksanakan dengan merangkul golongan komunis. Karena itu, jawabannya adalah **B. merangkul golongan komunis**.

WAWASAN KEBANGSAAN · SOAL 77

Jika mencari bagian UUD 1945 yang mengatur pembentukan Mahkamah Konstitusi, pasal yang harus dirujuk ialah ....

A. aturan peralihan pasal III (pilihan Anda) (kunci) **B.** aturan peralihan pasal I **C.** aturan peralihan pasal II **D.** aturan peralihan pasal IV

Jawaban Anda: **A. aturan peralihan pasal III** · **Benar**

> **Pembahasan.**
> Pembentukan Mahkamah Konstitusi disebut dalam Aturan Peralihan Pasal III UUD 1945. Dengan demikian, jawaban yang benar adalah **A. aturan peralihan pasal III**.

WAWASAN KEBANGSAAN · SOAL 86

Kapan penetapan rumusan akhir teks Pancasila oleh PPKI berlangsung?

A. 17 Agustus 1945 (pilihan Anda) **B.** 18 Agustus 1945 (kunci) **C.** 19 Desember 1945 **D.** 20 September 1965

Jawaban Anda: **A. 17 Agustus 1945** · **Kurang tepat** · Jawaban benar: **B. 18 Agustus 1945**

> **Pembahasan.**
> PPKI menetapkan rumusan akhir teks Pancasila pada 18 Agustus 1945. Dengan demikian, jawaban yang tepat adalah **B. 18 Agustus 1945**.

WAWASAN KEBANGSAAN · SOAL 100

Menurut informasi pada pilihan berikut, kapan Amandemen UUD 1945 yang pertama disahkan?

A. 21 Januari 1999 **B.** 19 Oktober 2000 **C.** 19 Oktober 1999 (kunci) **D.** 15 Desember 2000 (pilihan Anda)

Jawaban Anda: **D. 15 Desember 2000** · **Kurang tepat** · Jawaban benar: **C. 19 Oktober 1999**

> **Pembahasan.**
> Tanggal pengesahan Amandemen UUD 1945 pertama adalah 19 Oktober 1999. Jadi, jawabannya **C. 19 Oktober 1999**.

CONTOH

WAWASAN KEBANGSAAN · SOAL 125

Pemisahan TNI dan POLRI berdasarkan pada ...

A. Tap No. VI/MPR/2000 (pilihan Anda) (kunci) **B.** UU No. 15 Tahun 2000 **C.** UU No. 2 tahun 2002 **D.** Tap No. VI/MPR/2002 **E.** Tap No. VII/MPR/2004

Jawaban Anda: **A. Tap No. VI/MPR/2000** · **Benar**

Pembahasan.
Pemisahan TNI dan POLRI berdasarkan pada Tap No. VI/MPR/2000.

WAWASAN KEBANGSAAN · SOAL 127

Ketetapan yang dalam keterangan soal dikaitkan dengan kedudukan Pancasila sebagai sumber dari segala sumber hukum adalah ...

A. TAP MPR No. V/MPR/1978 **B.** TAP MPR No. II/MPR/1978 **C.** TAP MPRS No. XX/MPRS/1966 (kunci) **D.** TAP MPR No. V/MPR/1973 **E.** TAP MPR No. IV/MPR/1978 (pilihan Anda)

Jawaban Anda: **E. TAP MPR No. IV/MPR/1978** · **Kurang tepat** · Jawaban benar: **C. TAP MPRS No. XX/MPRS/1966**

Pembahasan.
Dalam keterangan soal, TAP MPRS No. XX/MPRS/1966 disebut sebagai ketetapan yang mencantumkan Pancasila sebagai sumber dari segala sumber hukum. Karena itu, jawabannya adalah **C. TAP MPRS No. XX/MPRS/1966**.

CONTOH

WAWASAN KEBANGSAAN · SOAL 128

Di antara pernyataan tentang latar yang mendorong Sumpah Pemuda berikut, manakah yang bukan termasuk faktor pencetus?

A. Pemuda terpelajar Indonesia memiliki kesadaran untuk merdeka. **B.** Manifesto Politik Perhimpunan Indonesia 1925 di Belanda menjadi salah satu faktor. **C.** Keinginan untuk bersatu dalam membebaskan Indonesia dari belenggu penjajahan. **D.** Pemerintah Belanda berkehendak memberikan kemerdekaan kepada Indonesia. (pilihan Anda) (kunci) **E.** Kesenjangan ekonomi yang mencolok terjadi antara rakyat biasa dan bangsawan.

Jawaban Anda: **D. Pemerintah Belanda berkehendak memberikan kemerdekaan kepada Indonesia.** · **Benar**

Pembahasan.
Butir asli menyebut kesadaran pemuda, Manifesto Politik Perhimpunan Indonesia, kesenjangan ekonomi, dan keinginan bersatu sebagai faktor pencetus. **D. Pemerintah Belanda berkehendak memberikan kemerdekaan kepada Indonesia** bukan termasuk faktor tersebut.

WAWASAN KEBANGSAAN · SOAL 130

Dari kota manakah Soekarno menyampaikan Tri Komando Rakyat pada 19 Desember 1961?

A. Yogyakarta (pilihan Anda) (kunci) **B.** Jakarta **C.** Surakarta **D.** Semarang **E.** Surabaya

Jawaban Anda: **A. Yogyakarta** · **Benar**

Pembahasan.
Soekarno menyampaikan Tri Komando Rakyat pada 19 Desember 1961 dari Yogyakarta. Dengan demikian, jawabannya adalah **A. Yogyakarta**.

CONTOH

WAWASAN KEBANGSAAN · SOAL 137

Untuk menarik simpati bangsa Indonesia, Jepang membentuk organisasi-organisasi. Berikut organisasi yang dimaksud, kecuali ...

A. Putera **B.** PETA **C.** Gerakan 3A (pilihan Anda) (kunci) **D.** Heiho **E.** Seinendan

Jawaban Anda: **C. Gerakan 3A** · **Benar**

Pembahasan.
Untuk menarik simpati bangsa Indonesia, Jepang membentuk organisasi-organisasi seperti PETA, Putera, Heiho, dan Seinendan. Sementara Gerakan tiga A dibentuk bukan untuk menarik simpati, melainkan semboyan bagi penjajah Jepang yang isinya Jepang, Cahaya Asia; Jepang, Pelindung Asia; dan Jepang, Pemimpin Asia. Jadi, jawaban yang benar adalah Gerakan tiga A.

WAWASAN KEBANGSAAN · SOAL 141

Pada masa pemerintahan orde lama, sistem pemerintahan di Indonesia adalah ...

A. Demokrasi liberal **B.** Demokrasi parlemen **C.** Demokrasi rakyat **D.** Demokrasi terpimpin (pilihan Anda) (kunci) **E.** Presidensial

Jawaban Anda: **D. Demokrasi terpimpin** · **Benar**

Pembahasan.
Pada masa pemerintahan orde lama, sistem pemerintahan di Indonesia adalah demokrasi terpimpin.

WAWASAN KEBANGSAAN · SOAL 143

Manakah pilihan yang menyebut undang-undang nomor 2 Tahun 2004?

A. Undang-undang nomor 24 Tahun 2005 **B.** UUD 1945 amandemen kedua pasal 18 **C.** Peraturan Pemerintah nomor 13 Tahun 2003 **D.** Undang-undang nomor 2 Tahun 2004 (pilihan Anda) (kunci) **E.** UUD 1945 amandemen ketiga pasal 17

Jawaban Anda: **D. Undang-undang nomor 2 Tahun 2004** · **Benar**

Pembahasan.
Rincian yang ditanyakan tercantum persis pada **D. Undang-undang nomor 2 Tahun 2004**. Pilihan lainnya memiliki jenis peraturan atau nomor dan tahun yang berbeda.

BAHASA INDONESIA · SOAL 4

Perpustakaan Keliling

Di beberapa desa yang jauh dari pusat kota, akses menuju perpustakaan umum tidak selalu mudah. Untuk membantu warga, sebuah komunitas mengoperasikan perpustakaan keliling dengan kendaraan yang membawa buku dan majalah. Kendaraan itu mendatangi balai desa secara terjadwal, sehingga anak-anak dan orang dewasa dapat meminjam bahan bacaan tanpa harus bepergian jauh. Para relawan juga mengadakan kegiatan membaca bersama dan membantu anak-anak memilih buku sesuai minatnya. Warga dapat mengusulkan jenis bacaan yang ingin disediakan. Pengelola mencatat peminjaman dan kondisi setiap buku agar koleksi tetap terawat. Komunitas tersebut berharap kebiasaan membaca tumbuh di berbagai desa dan layanan ini dapat menjangkau lebih banyak warga. Berdasarkan bacaan, kata **terjadwal** berarti ...

A. dilakukan hanya ketika warga meminta. **B.** berlangsung tanpa waktu yang ditentukan. **C.** diselenggarakan secara spontan oleh relawan. **D.** dilaksanakan pada waktu yang berubah-ubah. **E.** diatur untuk berlangsung pada waktu-waktu tertentu. (pilihan Anda) (kunci)

Jawaban Anda: **E. diatur untuk berlangsung pada waktu-waktu tertentu.** · **Benar**

> **Pembahasan.**
> Kendaraan perpustakaan keliling mendatangi balai desa secara terjadwal, yakni menurut waktu yang telah diatur. Makna itu sesuai dengan pilihan E. Jadi, jawabannya adalah **E. diatur untuk berlangsung pada waktu-waktu tertentu**.

BAHASA INDONESIA · SOAL 10

Kalimat manakah yang menggunakan majas metafora?

A. Ayah menjadi tulang punggung keluarga sejak dahulu. (kunci) **B.** Burung-burung hinggap di dahan pohon mangga. (pilihan Anda) **C.** Mereka berangkat ke pasar saat matahari terbit. **D.** Air hujan mengalir deras melewati selokan. **E.** Adik menata buku-bukunya di atas meja belajar.

Jawaban Anda: **B. Burung-burung hinggap di dahan pohon mangga.** · **Kurang tepat** · Jawaban benar: **A. Ayah menjadi tulang punggung keluarga sejak dahulu.**

> **Pembahasan.**
> Metafora memakai ungkapan yang maknanya tidak harfiah untuk menyatakan kemiripan atau peran. **A. Ayah menjadi tulang punggung keluarga sejak dahulu** menggunakan “tulang punggung” sebagai kiasan untuk orang yang menjadi penopang keluarga.

BAHASA INDONESIA · SOAL 13

Manakah puisi berikut yang merupakan gurindam?

A. Pagi hari memetik melati Singgah sebentar membeli jamu Jika ingin hidup berseri Jangan lupa menjaga ilmu **B.** Burung camar terbang ke awan Hinggap sebentar di dahan jati Rajin belajar jadi pedoman Agar tercapai cita di hati **C.** Dengarlah kawan sebuah cerita Tentang pemuda berhati mulia Ia berjuang dengan tenaga Membantu sesama tanpa meminta **D.** Jika engkau menjaga lisan, terhindarlah dirimu dari penyesalan. (pilihan Anda) (kunci) **E.** Sedikit demi sedikit, lama-lama menjadi bukit

Jawaban Anda: **D. Jika engkau menjaga lisan, terhindarlah dirimu dari penyesalan.** · **Benar**

Pembahasan.
Gurindam lazimnya terdiri atas dua baris yang berhubungan, dengan baris pertama menyatakan syarat atau sebab dan baris kedua menyatakan akibat. **D. Jika engkau menjaga lisan, terhindarlah dirimu dari penyesalan.** memenuhi ciri tersebut.

BAHASA INDONESIA · SOAL 15

Di balai warga, beberapa relawan mengadakan kelas memperbaiki barang rumah tangga sederhana setiap hari Sabtu. Peserta membawa benda yang rusak, seperti lampu meja atau kipas kecil, lalu belajar memeriksa penyebab kerusakannya. Relawan menyediakan alat dasar dan mendampingi peserta selama perbaikan. Jika sebuah barang tidak dapat diperbaiki dengan aman, peserta dianjurkan membawanya kepada teknisi. Kegiatan ini bertujuan mengurangi barang yang langsung dibuang serta mengenalkan keterampilan praktis kepada warga. Pada akhir kelas, peserta juga diajak berbagi cara merawat peralatan agar lebih awet. Kelas tersebut terbuka bagi warga sekitar tanpa biaya. Apa yang dianjurkan kepada peserta jika suatu barang tidak dapat diperbaiki dengan aman?

A. Membuangnya ke tempat sampah umum **B.** Mencoba membongkarnya tanpa pendamping **C.** Menyimpannya hingga kelas berikutnya **D.** Membawanya kepada teknisi (pilihan Anda) (kunci)

Jawaban Anda: **D. Membawanya kepada teknisi** · **Benar**

Pembahasan.
Bacaan menyatakan bahwa barang yang tidak dapat diperbaiki dengan aman sebaiknya dibawa kepada teknisi. Maka, jawabannya adalah **D. Membawanya kepada teknisi**.

BAHASA INDONESIA · SOAL 16

Kebun sayur di lingkungan perkotaan semakin banyak dijumpai di lahan kosong, halaman rumah, dan atap bangunan. Warga memanfaatkan pot atau wadah bekas untuk menanam tanaman yang tidak memerlukan ruang luas, seperti selada dan tomat. Kegiatan ini dapat dilakukan bersama keluarga maupun kelompok warga. Kebun tersebut memberi manfaat yang beragam bagi pengelolanya. Hasil panen dapat digunakan untuk memenuhi kebutuhan dapur sehingga pengeluaran belanja sayur berkurang. Selain itu, kegiatan menanam mendorong warga lebih aktif merawat lingkungan dan bekerja sama. Karena itu, kebun sayur perkotaan bukan hanya menyediakan bahan pangan, tetapi juga mendukung kebiasaan hidup yang lebih sehat dan kepedulian terhadap lingkungan. Gagasan utama paragraf kedua bacaan tersebut adalah ....

A. Tanaman yang cocok ditanam di lahan perkotaan. **B.** Cara warga menyiapkan wadah untuk kebun sayur. **C.** Kegiatan menanam dapat dilakukan bersama keluarga. **D.** Beragam manfaat kebun sayur bagi pengelola dan lingkungan. (pilihan Anda) (kunci)

Jawaban Anda: **D. Beragam manfaat kebun sayur bagi pengelola dan lingkungan.** · **Benar**

Pembahasan.
Paragraf kedua menjelaskan manfaat kebun sayur, mulai dari membantu memenuhi kebutuhan dapur hingga mendorong hidup sehat dan kepedulian lingkungan. Jadi, gagasan utamanya adalah **D. Beragam manfaat kebun sayur bagi pengelola dan lingkungan**.

CONTOH

BAHASA INDONESIA · SOAL 22

Kelompok warga di sebuah desa mengadakan kegiatan menanam pohon di sepanjang jalan. Mereka memilih tanaman yang sesuai dengan kondisi tanah dan mudah dirawat. Namun, kegiatan itu sempat menghadapi kendala karena persediaan air terbatas saat musim kemarau. Para warga lalu menyusun jadwal penyiraman dan menampung air hujan untuk digunakan kembali. Setelah beberapa bulan, sebagian besar pohon tumbuh dengan baik. Kegiatan tersebut juga mendorong warga untuk lebih peduli terhadap kebersihan dan kenyamanan lingkungan mereka. Kata kendala dalam bacaan tersebut bersinonim dengan kata ...

A. kebutuhan **B.** tujuan **C.** hambatan (pilihan Anda) (kunci) **D.** peluang

Jawaban Anda: **C. hambatan** · **Benar**

Pembahasan.
Keterbatasan persediaan air menghalangi kelancaran kegiatan menanam dan merawat pohon. Karena itu, kata kendala bermakna sama dengan **C. Hambatan**.

CONTOH

BAHASA INDONESIA · SOAL 23

Perpustakaan keliling hadir untuk mendekatkan bahan bacaan kepada warga yang tinggal jauh dari pusat kota. Kendaraan ini mengunjungi sekolah, taman, dan balai warga secara bergiliran. Petugas membawa buku cerita, pengetahuan umum, serta majalah anak. Mereka juga membantu pengunjung memilih bacaan sesuai usia dan minat. Kegiatan tersebut diharapkan dapat menumbuhkan kebiasaan membaca sejak dini. Selain meminjam buku, anak-anak dapat mengikuti sesi membaca bersama dan menceritakan kembali isi bacaan. Jadwal kunjungan diumumkan melalui papan informasi di tiap lokasi agar warga dapat mengetahui waktu kedatangan kendaraan. Dengan cara ini, akses terhadap buku menjadi lebih mudah bagi berbagai kelompok masyarakat. Kata ganti mereka pada kalimat keempat merujuk kepada ...

A. warga yang tinggal jauh **B.** anak-anak peserta kegiatan (pilihan Anda) **C.** petugas perpustakaan keliling (kunci) **D.** buku yang dibawa kendaraan

Jawaban Anda: **B. anak-anak peserta kegiatan** · **Kurang tepat** · Jawaban benar: **C. petugas perpustakaan keliling**

Pembahasan.
Kata ganti mereka mengacu pada subjek yang melakukan kegiatan membantu pengunjung memilih bacaan. Dalam bacaan, pihak yang membawa buku dan melayani pengunjung adalah petugas. Jadi, jawabannya **C. petugas perpustakaan keliling**.

CONTOH

BAHASA INDONESIA · SOAL 27

Jaringan kereta cepat menghubungkan sejumlah kota besar di beberapa negara. Di Spanyol, layanan kereta cepat membantu penumpang bepergian antarkota dalam waktu singkat. Korea Selatan juga mengoperasikan kereta cepat yang melayani berbagai rute. Di Italia, kereta berkecepatan tinggi menjadi salah satu pilihan untuk perjalanan jarak jauh. Selain itu, Jepang dikenal memiliki layanan kereta cepat yang menghubungkan banyak wilayah. Pengembangan jaringan tersebut membutuhkan jalur khusus dan sistem pengaturan perjalanan yang terencana. Meski menawarkan waktu tempuh yang lebih singkat, pilihan transportasi ini tetap disesuaikan dengan kebutuhan dan tujuan perjalanan setiap penumpang. Negara berikut disebut dalam bacaan sebagai negara yang mengoperasikan kereta cepat, kecuali ...

A. Spanyol **B.** Jepang (pilihan Anda) **C.** Portugal (kunci) **D.** Italia

Jawaban Anda: **B. Jepang** · **Kurang tepat** · Jawaban benar: **C. Portugal**

Pembahasan.
Bacaan menyebut Spanyol, Korea Selatan, Italia, dan Jepang sebagai negara yang memiliki layanan atau jaringan kereta cepat. Portugal tidak tercantum, sehingga jawaban yang tepat adalah **C. Portugal**.

BAHASA INDONESIA · SOAL 35

Peserta yang tidak mengumpulkan laporan tepat waktu dikenai pengurangan nilai. Sari tidak mengumpulkan laporan tepat waktu. Dengan demikian, ...

A. Sari mungkin mengumpulkan laporan tepat waktu **B.** Semua peserta mendapat pengurangan nilai **C.** Nilai Sari akan dikurangi (pilihan Anda) (kunci) **D.** Pengurangan nilai membuat laporan terlambat

Jawaban Anda: **C. Nilai Sari akan dikurangi** · **Benar**

Pembahasan.
Aturan menyatakan bahwa peserta yang terlambat mengumpulkan laporan dikenai pengurangan nilai. Sari termasuk dalam kelompok tersebut, sehingga kesimpulan yang pasti adalah **C. Nilai Sari akan dikurangi**.

BAHASA INDONESIA · SOAL 36

Nara bersekolah di SMP Puspa. Beberapa siswa di sekolah itu mengikuti kegiatan seni. Yudi adalah teman Nara. Dengan demikian ....

A. Yudi pasti mengikuti kegiatan seni di SMP Puspa **B.** Semua teman Yudi bersekolah di SMP Puspa **C.** Nara tidak mengikuti kegiatan seni (pilihan Anda) **D.** Yudi mungkin bersekolah di SMP Puspa (kunci)

Jawaban Anda: **C. Nara tidak mengikuti kegiatan seni** · **Kurang tepat** · Jawaban benar: **D. Yudi mungkin bersekolah di SMP Puspa**

Pembahasan.
Informasi bahwa Yudi berteman dengan Nara tidak memastikan bahwa mereka bersekolah di tempat yang sama. Namun, hal itu masih mungkin terjadi. Jadi, **D. Yudi mungkin bersekolah di SMP Puspa** merupakan kesimpulan yang tepat.

BAHASA INDONESIA · SOAL 45

Mira merasa pusing setelah bekerja di kebun sehingga ia pergi ke puskesmas. Petugas kesehatan memberinya tablet untuk diminum agar pusingnya berkurang.
Kesimpulannya, ...

A. Mira harus menghindari pekerjaan di kebun selamanya **B.** Mira minum tablet yang diberikan agar pusingnya berkurang (pilihan Anda) (kunci) **C.** Mira tidak menerima tablet dari petugas kesehatan **D.** Mira menjalani perawatan inap di puskesmas

Jawaban Anda: **B. Mira minum tablet yang diberikan agar pusingnya berkurang** · **Benar**

Pembahasan.
Tablet diberikan kepada Mira untuk diminum dengan tujuan mengurangi pusingnya. Karena itu, kesimpulan yang paling sesuai adalah **B. Mira minum tablet yang diberikan agar pusingnya berkurang**.

CONTOH

BAHASA INDONESIA · SOAL 51

Pilihlah jawaban yang memiliki arti sama atau hampir sama (sinonim) dengan kata pada soal. USAI = ...

A. mulai **B.** hampir **C.** kembali **D.** selesai (pilihan Anda) (kunci)

Jawaban Anda: **D. selesai** · **Benar**

Pembahasan.
Kata "usai" berarti sudah berakhir atau selesai. Dengan demikian, jawaban yang tepat adalah **D. selesai**.

BAHASA INDONESIA · SOAL 52

"Suaramu bagus, Mir, tapi lebih bagus jika kamu diam." Kalimat di atas merupakan ungkapan ....

A. pujian **B.** sindiran (pilihan Anda) (kunci) **C.** kritikan **D.** saran **E.** umpatan

Jawaban Anda: **B. sindiran** · **Benar**

Pembahasan.
Ungkapan tersebut menunjukkan sebuah sindiran. Kata "tapi lebih bagus jika kamu diam" menunjukkan jawaban yang negatif. Artinya, sebenarnya suara Amir tidak bagus.

BAHASA INDONESIA · SOAL 53

Kalimat yang menggunakan kata ulang secara tepat adalah ....

A. Anak anak itu mengikuti latihan paduan suara. **B.** Para murid-murid berkumpul di aula sekolah. **C.** Buku-buku lama disimpan di dalam lemari. (pilihan Anda) (kunci) **D.** Ia saling berpandang-pandangan dengan temannya. **E.** Petugas menyusun kursi-kursian di ruang rapat.

Jawaban Anda: **C. Buku-buku lama disimpan di dalam lemari.** · **Benar**

Pembahasan.
Kata ulang penuh buku-buku ditulis dengan tanda hubung dan tepat digunakan untuk menyatakan banyak buku. Pilihan lainnya mengandung kesalahan penulisan, pemakaian bentuk jamak yang berlebihan, atau bentuk kata ulang yang tidak sesuai. Jadi, jawaban yang benar adalah **C. Buku-buku lama disimpan di dalam lemari.**

BAHASA INDONESIA · SOAL 57

Judul karya tulis: Batik sebagai warisan seni dan budaya serta pelestariannya bagi generasi muda. Penulisan judul karya tulis tersebut yang tepat adalah ...

A. Batik Sebagai Warisan Seni Dan Budaya Serta Pelestariannya Bagi Generasi Muda **B.** Batik Sebagai Warisan Seni Dan Budaya Serta Pelestariannya bagi Generasi Muda **C.** Batik Sebagai Warisan Seni dan Budaya Serta Pelestariannya Bagi Generasi Muda **D.** Batik sebagai Warisan Seni dan Budaya serta Pelestariannya bagi Generasi Muda (pilihan Anda) (kunci) **E.** Batik sebagai Warisan Seni dan Budaya Serta Pelestariannya bagi Generasi Muda

Jawaban Anda: **D. Batik sebagai Warisan Seni dan Budaya serta Pelestariannya bagi Generasi Muda** · **Benar**

Pembahasan.
Penulisan judul karya tulis yang tepat adalah Batik sebagai Warisan Seni dan Budaya serta Pelestariannya bagi Generasi Muda. Kata penghubung dalam judul ditulis dengan huruf kecil, bukan huruf kapital.

BAHASA INDONESIA · SOAL 58

Pilihlah kalimat yang memakai kata ulang dengan tepat.

A. Para warga-warga membersihkan saluran air di lingkungan mereka. **B.** Banyak tanaman-tanaman tumbuh subur setelah hujan turun. **C.** Semua dokumen-dokumen itu harus disimpan dengan rapi. **D.** Relawan-relawan membantu membagikan makanan kepada warga. (pilihan Anda) (kunci) **E.** Sejumlah kendaraan-kendaraan melintas di jalan tersebut.

Jawaban Anda: **D. Relawan-relawan membantu membagikan makanan kepada warga.** · **Benar**

Pembahasan.
Dalam kalimat D, kata ulang “relawan-relawan” menyatakan banyak relawan dan tidak didahului penanda jamak lain. Oleh karena itu, jawabannya adalah **D. Relawan-relawan membantu membagikan makanan kepada warga.**

BAHASA INDONESIA · SOAL 60

(1) Merawat tanaman di halaman rumah memberi banyak manfaat bagi penghuninya. (2) Tanaman dapat membuat lingkungan terasa lebih sejuk dan nyaman. (3) Halaman yang ditumbuhi beragam tanaman juga tampak lebih asri. (4) Beberapa jenis tanaman bahkan dapat dimanfaatkan sebagai bahan masakan. (5) Kegiatan merawatnya pun dapat menjadi pengisi waktu luang yang menyenangkan. Kalimat utama paragraf tersebut terdapat pada nomor ...

A. (1) (pilihan Anda) (kunci) **B.** (2) **C.** (3) **D.** (4) **E.** (5)

Jawaban Anda: **A. (1)** · **Benar**

Pembahasan.
Kalimat (1) menyampaikan gagasan umum bahwa merawat tanaman di halaman memberi banyak manfaat. Kalimat-kalimat berikutnya menjelaskan manfaat-manfaat tersebut, sehingga jawabannya adalah **A. (1)**.

BAHASA INGGRIS · SOAL 3

Choose the right answer! The students ... their science projects when the school fair opened on Friday.

A. display **B.** presented (pilihan Anda) (kunci) **C.** had presented **D.** have been presenting **E.** will present

Jawaban Anda: **B. presented** · **Benar**

Pembahasan.
Klausa “when the school fair opened on Friday” menempatkan peristiwa dalam konteks lampau yang telah selesai. Kata kerja kalimat utama juga menggunakan Simple Past, yaitu **B. presented**.

CONTOH

BAHASA INGGRIS · SOAL 6

Choose the right answer! The sky has grown very dark, and thick clouds are gathering. It ... soon.

A. rains (pilihan Anda) **B.** is raining **C.** has rained **D.** is going to rain (kunci) **E.** was raining

Jawaban Anda: **A. rains** · **Kurang tepat** · Jawaban benar: **D. is going to rain**

Pembahasan.
Tanda-tanda yang terlihat sekarang mendukung perkiraan bahwa hujan akan segera turun. Bentuk be going to digunakan untuk menyatakan prediksi berdasarkan bukti yang ada, sehingga jawabannya **D. is going to rain**.

BAHASA INGGRIS · SOAL 13

Choose the right answer! Maya ... for her driving test since breakfast.

A. have practiced **B.** has been practicing (pilihan Anda) (kunci) **C.** had been practicing **D.** is practicing **E.** has practice

Jawaban Anda: **B. has been practicing** · **Benar**

Pembahasan.
Keterangan since breakfast menunjukkan kegiatan yang dimulai pada masa lampau dan masih berlangsung hingga sekarang. Karena Maya merupakan subjek tunggal, bentuk yang tepat ialah has been diikuti kata kerja berakhiran -ing. Jadi, jawaban yang benar adalah **B. has been practicing**.

CONTOH

BAHASA INGGRIS · SOAL 14

Choose the right answer! A lady is reading a novel. She is a doctor.

Answer: ...

A. The lady have read a novel is a doctor. **B.** The lady reading a novel is a doctor. (kunci) **C.** The lady have been reading a novel is a doctor. (pilihan Anda) **D.** The lady read a novel are a doctor. **E.** The lady reading a novel was doctor.

Jawaban Anda: **C. The lady have been reading a novel is a doctor.** · **Kurang tepat** · Jawaban benar: **B. The lady reading a novel is a doctor.**

> **Pembahasan.**
> ”She” dalam kalimat ini merupakan kata ganti dari “ A lady”. Jika digabungkan menjadi satu kalimat, harus menggunakan rumus Present Participle, yaitu S + V ing + O + Predikat (verb/kata kerja bantu (auxiliary).

BAHASA INGGRIS · SOAL 15

Choose the right answer! Choose the sentence that contains an error.

A. They have worked at the library for two years. **B.** Marcus lent his neighbor a ladder yesterday. **C.** Were the invitations delivered this morning? **D.** She don't remember the name of the restaurant. (pilihan Anda) (kunci) **E.** We arrived at the station before noon.

Jawaban Anda: **D. She don't remember the name of the restaurant.** · **Benar**

> **Pembahasan.**
> Subjek “She” membutuhkan kata kerja bantu “does” dalam kalimat negatif simple present. Bentuk yang benar adalah “She doesn’t remember the name of the restaurant.” Jawabannya **D. She don't remember the name of the restaurant.**

CONTOH

BAHASA INGGRIS · SOAL 17

A small mountain library has found a creative way to serve families who live far from its building. Once a week, a librarian loads books into a van and visits several villages. Children can borrow stories, while adults may request practical guides or newspapers. The service began after residents explained that the journey to the library was difficult, especially in winter. Though the van carries fewer books than the main building, its regular visits have made reading materials accessible to many more people. The word “accessible” in the passage is closest in meaning to ….

A. easy to reach (pilihan Anda) (kunci) **B.** expensive to buy **C.** difficult to understand **D.** available for sale

Jawaban Anda: **A. easy to reach** · **Benar**

Pembahasan.
Bacaan menyebut bahwa perjalanan ke perpustakaan sulit, lalu van membawa bahan bacaan ke beberapa desa. Jadi, “accessible” berarti mudah dijangkau atau diperoleh. Jawaban yang benar adalah **A. easy to reach**.

BAHASA INGGRIS · SOAL 18

Arun Das made his first fortune by designing compact water filters for rural clinics. He later used part of his earnings to invest in a company that produces medical equipment. The company sells its products to hospitals in several countries, but Das does not own those hospitals. He is now the company’s chief executive and still reviews new product designs with its engineers. Despite his considerable wealth, Das seldom appears in the media. He believes that customers should focus on whether equipment works well rather than on the personal lives of business leaders. As a result, the company is familiar to many health workers, while its chief executive remains largely unknown to the general public. What role does Arun Das currently have at the medical-equipment company?

A. He is the company’s chief financial auditor. **B.** He is the company’s chief executive. (pilihan Anda) (kunci) **C.** He is the owner of the hospitals it supplies. **D.** He is a doctor at a rural clinic.

Jawaban Anda: **B. He is the company’s chief executive.** · **Benar**

Pembahasan.
Bacaan secara langsung menyatakan bahwa Das kini menjadi chief executive perusahaan alat medis tersebut. Oleh karena itu, jawaban yang benar adalah **B. He is the company’s chief executive.**

BAHASA INGGRIS · SOAL 19

At the end of a long hiking trail, the group stopped beside a clear stream. Maya filled her bottle, but Daniel was too thirsty to wait. He lifted his canteen and gulped down the cool water before anyone else had finished unpacking lunch. Their guide reminded them to refill their containers before leaving, since the next stretch of the route crossed a dry hillside. After resting for a few minutes, the hikers checked their supplies and continued toward the campsite, where they planned to spend the night. The phrase “gulped down” in the passage is closest in meaning to ....

A. poured out slowly **B.** carried away carefully **C.** drank quickly (pilihan Anda) (kunci) **D.** looked at briefly

Jawaban Anda: **C. drank quickly** · **Benar**

Pembahasan.
Konteks menunjukkan bahwa Daniel sangat haus dan langsung meminum air dari kantinnya. Frasa “gulped down” berarti menelan atau meminum sesuatu dengan cepat, sehingga jawabannya **C. drank quickly**.

BAHASA INGGRIS · SOAL 21

The migratory birds travel ... the southern coast during the winter months.

A. as far south as (pilihan Anda) (kunci) **B.** far as south **C.** farthest south to **D.** so far south to

Jawaban Anda: **A. as far south as** · **Benar**

Pembahasan.
Kalimat ini memerlukan pola “as far ... as” untuk menyatakan bahwa burung-burung itu mencapai suatu batas wilayah. Karena itu, jawaban yang benar adalah **A. as far south as**.

CONTOH

BAHASA INGGRIS · SOAL 24

A shortage of reliable data ... for analysts to identify changes in consumer demand.

A. make it difficult **B.** it make difficult **C.** makes difficult it **D.** makes it difficult (pilihan Anda) (kunci)

Jawaban Anda: **D. makes it difficult** · **Benar**

Pembahasan.
Subjek tunggal A shortage memerlukan verba makes. Susunan yang benar adalah makes it + adjective + for someone + to-infinitive; jawabannya **D. makes it difficult**.

BAHASA INGGRIS · SOAL 25

... clearly during the briefing helps everyone understand the procedure.

A. Explaining the steps (pilihan Anda) (kunci) **B.** Explain the steps **C.** The explained steps **D.** The steps are explained

Jawaban Anda: **A. Explaining the steps** · **Benar**

Pembahasan.
Kalimat memerlukan subjek yang menyatakan tindakan menjelaskan langkah-langkah. Gerund explaining dapat berfungsi sebagai subjek, sehingga jawaban yang benar adalah **A. Explaining the steps**.

CONTOH

BAHASA INGGRIS · SOAL 26

How Do Mangrove Trees Survive in Salty Water? Mangrove trees grow along tropical coastlines, where their roots are often covered by seawater. Most plants cannot tolerate such salty conditions, but mangroves have ways to cope. Some species filter much of the salt out before it enters their roots. Others allow salt to enter and later remove it through special glands in their leaves. Their tangled roots also hold the soil in place and help the trees remain stable in soft mud. At low tide, these roots may be exposed to the air, allowing the trees to take in oxygen. Mangroves provide shelter for young fish and other animals, and they help protect shorelines from erosion. Their ability to manage salt and grow in muddy coastal areas makes them well suited to this environment. What is the passage mainly about?

A. The animals that live in tropical forests **B.** Adaptations that help mangrove trees live by the sea (pilihan Anda) (kunci) **C.** The steps involved in planting trees on a shore **D.** The reasons seawater becomes salty

Jawaban Anda: **B. Adaptations that help mangrove trees live by the sea** · **Benar**

Pembahasan.
Bacaan menerangkan penyaringan atau pengeluaran garam serta fungsi akar mangrove di lingkungan pesisir. Karena itu, gagasan utamanya adalah **B. Adaptations that help mangrove trees live by the sea**.

BAHASA INGGRIS · SOAL 30

Choose the right answer! The officers ... the training ground when the rain began.

A. Were leaving (kunci) **B.** Was leaving **C.** Are leaving **D.** Will leave (pilihan Anda)

Jawaban Anda: **D. Will leave** · **Kurang tepat** · Jawaban benar: **A. Were leaving**

Pembahasan.
Kegiatan meninggalkan lapangan sedang berlangsung ketika hujan mulai turun, sehingga diperlukan past progressive. Subjek officers berbentuk jamak dan memakai were. Jawaban yang tepat adalah **A. Were leaving**.

BAHASA INGGRIS · SOAL 36

Choose the right answer! Justin : Why aren't you riding your own motorcycle? Britney : It ... since last month.

A. Has to be sold (pilihan Anda) **B.** Has been sold (kunci) **C.** Has been selling **D.** Has to sell

Jawaban Anda: **A. Has to be sold** · **Kurang tepat** · Jawaban benar: **B. Has been sold**

Pembahasan.
Untuk mengungkapkan pola pasif, gunakan pola tobe +V3. Sehingga jawaban yang tepat adalah 'has been sold'.

BAHASA INGGRIS · SOAL 39

The greater the demand, ... the price.

A. Higher **B.** High **C.** The higher (pilihan Anda) (kunci) **D.** The high

Jawaban Anda: **C. The higher** · **Benar**

Pembahasan.
Kalimat pada soal adalah pola kalimat menggunakan comparative untuk membandingkan dua hal yang setara. Pola kalimatnya yaitu sebagai berikut. a. The ... –er (same structure), the ...-er (same structure) b. The more (same structure), the more (same structure) Soal tersebut menggunakan pola (a), maka kalimat yang tepat adalah The greater the demand, the higher the price.

BAHASA INGGRIS · SOAL 40

Mira ... the early train yesterday.

A. Take **B.** Takes **C.** Taking (pilihan Anda) **D.** Took (kunci) **E.** Taken

Jawaban Anda: **C. Taking** · **Kurang tepat** · Jawaban benar: **D. Took**

Pembahasan.
Kata "yesterday" menandakan kejadian yang sudah terjadi, sehingga kalimat memerlukan kata kerja bentuk lampau. Bentuk lampau dari "take" adalah "took", jadi jawabannya **D. Took**.

BAHASA INGGRIS · SOAL 42

Seven Killed in Accident on Jalan Sultan Seven people were killed in collision between a bus, a car, and a truck at 10.35 p.m. on Jalan Sultan last night. The dead were all passangers in the car. Police believe the car may have been trying to overtake the bus when it was struck by the truck coming from the opposite direction. The driver of the car may not have been using the lights, as the truck driver said he didn't see the car approaching. The police said the car shouldn't have been trying to pass the bus, since overtaking is not allowed on Jalan Sultan. In addition, the police reported that the car–a small Japaness car–should not have been carrying more than five people. The names of the victims are not yet known. Taken from www.thejakartapost.com The car was carrying ... when the collision happened.

A. Five people **B.** A truck driver **C.** Small Japanese **D.** Seven passangers (pilihan Anda) (kunci) **E.** Policeman and Sultan

Jawaban Anda: **D. Seven passangers** · **Benar**

Pembahasan.
The car was carrying ... when the collision happened. Jawaban terdapat pada teks, yaitu seven people were killed in collision between a bus, a car, and a truck at 10.35 p.m. on Jalan Sultan last night. The dead were all passangers in the car.

CONTOH

BAHASA INGGRIS · SOAL 43

Seven Killed in Accident on Jalan Sultan Seven people were killed in collision between a bus, a car, and a truck at 10.35 p.m. on Jalan Sultan last night. The dead were all passangers in the car. Police believe the car may have been trying to overtake the bus when it was struck by the truck coming from the opposite direction. The driver of the car may not have been using the lights, as the truck driver said he didn't see the car approaching. The police said the car shouldn't have been trying to pass the bus, since overtaking is not allowed on Jalan Sultan. In addition, the police reported that the car–a small Japaness car–should not have been carrying more than five people. The names of the victims are not yet known. Taken from www.thejakartapost.com The following is not true about the car's driver ...

A. He didn't obey the traffic sign on Jalan Sultan. (pilihan Anda) **B.** He hit the bus while overtaking it. (kunci) **C.** He carried more passangers. **D.** He was not a careful driver. **E.** He didn't light on his car.

Jawaban Anda: **A. He didn't obey the traffic sign on Jalan Sultan.** · **Kurang tepat** · Jawaban benar: **B. He hit the bus while overtaking it.**

> **Pembahasan.**
> The following is not true about the car's driver (pernyataan yang tidak benar tentang pengemudi mobil dalam teks) ialah He hit the bus while overtaking it.

21 soal lainnya belum memiliki pembahasan yang disetujui atau tersedia di paket yang lebih tinggi, sehingga tidak dimuat dalam laporan ini.

05 Catatan dan keabsahan

Dasar perhitungan dan batas penggunaan laporan.

Laporan ini disusun otomatis dari jawaban peserta pada Latihan Psikotes TNI-Polri. Skor dihitung otomatis , dan dapat dipakai sebagai bahan belajar dan refleksi diri. Laporan ini bukan hasil asesmen psikologis resmi dan tidak menggantikan pemeriksaan oleh psikolog berizin.

No. laporan KP-JQ3G85V5SW
Dihasilkan oleh KlikPsikotes pada 23 November 2026, 15.46 WIB. Sebutkan nomor ini bila perlu menanyakan laporan.

Latihan lagi?
Tes lain dan laporan lengkap ada di **klikpsikotes.com**